重庆市彭水一中数学七年级上册整式的加减专题测评

考试时间：90 分钟；命题人：教研组

考生注意：

1、本卷分第 I 卷（选择题）和第 II 卷（非选择题）两部分，满分 100 分，考试时间 90 分钟

2、答卷前，考生务必用 0.5 毫米黑色签字笔将自己的姓名、班级填写在试卷规定位置上

3、答案必须写在试卷各个题目指定区域内相应的位置，如需改动，先划掉原来的答案，然后再写上新的答案；不准使用涂改液、胶带纸、修正带，不按以上要求作答的答案无效。

第 I 卷（选择题　20 分）

一、单选题（10 小题，每小题 2 分，共计 20 分）

1、下列图形都是由同样大小的实心圆点按一定规律组成的，其中第①个图形一共有 5 个实心圆点，第②个图形一共有 8 个实心圆点，第③个图形一共有 11 个实心圆点，…，按此规律排列下去，第⑥个图形中实心圆点的个数为（　　）

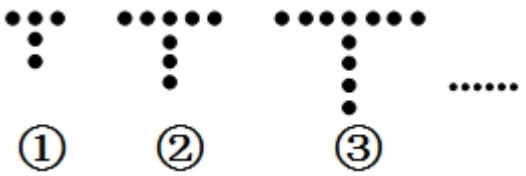

A．18　　B．19　　C．20　　D．21

2、单项式 $2a^3b$ 的次数是（　　）

A．2　　B．3　　C．4　　D．5

3、式子 $x+yz$，$-2x$，ax^2+bx+c，0，$\frac{x^2y}{\pi-1}$，a，$\frac{b}{x}$ 中，下列结论正确的是（　　）

A．有 4 个单项式，2 个多项式　　B．有 3 个单项式，3 个多项式

C．有 5 个整式　　D．以上答案均不对

4、已知 $5a^{x+1}b^3$ 与 $\frac{7}{12}a^5b^{y+1}$ 的和是单项式，则 $x+3y$ 等于（　　）

A．-10　　B．10　　C．12　　D．15

5、下列式子中不是代数式的是（　　）

A．$3a+2b$　　B．$5+2$　　C．$a+b=1$　　D．$\dfrac{b}{a+1}$

6、如图，边长为m的正方形纸片上剪去四个直径为d的半圆，阴影部分的周长是（　　）

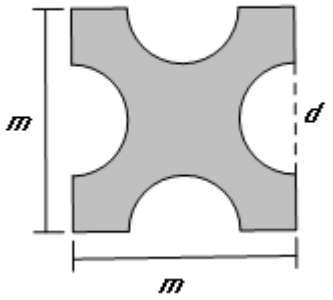

A．$m^2-\pi d^2$　　B．$m^2-\dfrac{1}{2}\pi d^2$

C．$4m-\pi d$　　D．$4m+2\pi d-4d$

7、代数式$3x^2y-4x^3y^2-5xy^3-1$按x的升幂排列，正确的是（　　）

A．$-4x^3y^2+3x^2y-5xy^3-1$　　B．$-5xy^3+3x^2y-4x^3y^2-1$

C．$-1+3x^2y-4x^3y^2-5xy^3$　　D．$-1-5xy^3+3x^2y-4x^3y^2$

8、下列计算正确的是(　　)

A．$3a+2b=5ab$　　B．$5a^2-2a^2=3$

C．$7a+a=7a^2$　　D．$2a^2b-4a^2b=-2a^2b$

9、下列说法正确的是（　　）

A．单项式x的系数是0

B．单项式-3^2xy^2的系数是-3，次数是5

C．多项式x^2+2x的次数是2

D．单项式 - 5 的次数是 1

10、给定一列按规律排列的数：$1,\frac{4}{3},\frac{3}{2},\frac{8}{5},\cdots$，则这列数的第 9 个数是（　　）

A．$\frac{9}{10}$　　B．$\frac{9}{5}$　　C．$\frac{16}{9}$　　D．$\frac{20}{11}$

第Ⅱ卷（非选择题　80 分）

二、填空题（10 小题，每小题 3 分，共计 30 分）

1、已知多项式 $x^{|m|}+(m-2)x-10$ 是二次三项式，m 为常数，则 m 的值为_____.

2、有一列数按如下规律排列：$\frac{\sqrt{2}}{2}$，$\frac{\sqrt{3}}{4}$，$\frac{1}{3}$，$\frac{\sqrt{5}}{8}$，$\frac{\sqrt{6}}{10}$，$\frac{\sqrt{7}}{12}$，…，则第 2022 个数是 _____.

3、已知一列数 2，8，26，80．…，按此规律，则第 n 个数是_____.（用含 n 的代数式表示）

4、若 m 为常数，多项式 $mxy+2x-3y-1-4xy$ 为三项式，则 $\frac{1}{2}m^2-m+2$ 的值是_____.

5、已知 $A=2x^2+ax-5y+1, B=x^2+3x-by-4$，且对于任意有理数 x,y，代数式 $A-2B$ 的值不变，则 $(a-\frac{1}{3}A)-(2b-\frac{2}{3}B)$ 的值是_____.

6、如图所示的图形是按一定规律排列的.



则第 n 个图形中 O 的个数为_____.

7、如图，边长为 1 的正方形 $ABCD$，沿数轴顺时针连续滚动．起点 A 和 -2 重合，则滚动 2026 次后，点 C 在数轴上对应的数是_____.

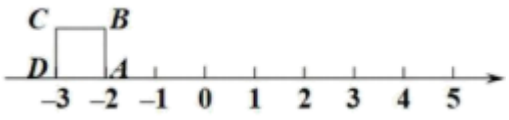

8、在代数式$3xy^2$，m，$6a^2-a+3$，12，$4x^2yzx-\frac{1}{5}xy^2$，$\frac{2}{3ab}$中，单项式有_____个.

9、在下列各式①$\frac{a^2bc^3}{5}$，②0，③$\frac{x-y}{3}$，④$\frac{3}{\pi}$，⑤$s=\pi r^2$，⑥$-\frac{7}{x+5}$，⑦b^2-4ac，⑧m，⑨$\frac{1}{a}+1$中，其中单项式是_____，多项式是_____，整式是_____.（填序号）

10、图形是用等长的木棒搭成的，请观察填表：



三角形个数	1	2	3	4	…	n
需木棒总数	3	5			…	

当三角形的个数是 n 时，需木棒的总数是_____.

三、解答题（5 小题，每小题 10 分，共计 50 分）

1、在数轴上点 A 表示数 a，点 B 表示数 b，点 C 表示数 c，并且 a 是多项式$-x^2-3x+1$的二次项系数，b 是绝对值最小的数，c 是单项式$-\frac{1}{2}x^2y$的次数．请直接写出 a、b、c 的值并在数轴上把点 A，B，C 表示出来.

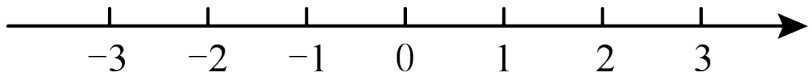

2、已知实数m使得多项式$\left(2mx^2-x^2+3x+1\right)-\left(5x^2-4y^2+3x\right)$化简后不含$x^2$项，求代数式

$2m^3-\left[2m^3-\left(4m-5\right)+m\right]$的值.

3、如图，将连续的奇数 1，3，5，7…按图 1 中的方式排成一个数表，用一个十字框框住 5 个数，这样框出的任意 5 个数（如图 2）分别用 a，b，c，d，x 表示.

（1）若 x=17，则 a+b+c+d=_____.

（2）移动十字框，用 x 表示 a+b+c+d=_____.

（3）设 M=a+b+c+d+x，判断 M 的值能否等于 2020，请说明理由.

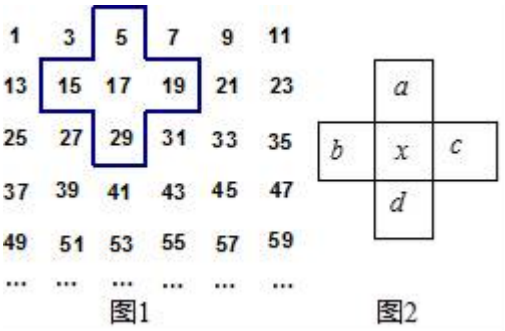

图1　　图2

4、观察下列单项式：$-x$，$3x^2$，$-5x^3$，$7x^4$，…$-37x^{19}$，$39x^{20}$，…写出第n个单项式，为了解这个问题，特提供下面的解题思路.

(1)这组单项式的系数的符号，绝对值规律是什么？

(2)这组单项式的次数的规律是什么？

(3)根据上面的归纳，你可以猜想出第n个单项式是什么？

(4)请你根据猜想，请写出第2014个，第2015个单项式.

5、【观察】1×49=49，2×48=96，3×47=141，…，23×27=621，24×26=624，25×25=625，26×24=624，27×23=621，…，47×3=141，48×2=96，49×1=49.

【发现】根据你的阅读回答问题：

（1）上述内容中，两数相乘，积的最大值为_____；

（2）设参与上述运算的第一个因数为 a，第二个因数为 b，用等式表示 a 与 b 的数量关系是_____.

【类比】观察下列两数的积：1×59，2×58，3×57，4×56，…，m×n，…，56×4，57×3，58×2，59×1.

猜想 mn 的最大值为_____，并用你学过的知识加以证明.

-参考答案-

一、单选题

1、C

【解析】

【分析】

根据已知图形中实心圆点的个数得出规律，即可得解.

【详解】

解：通过观察可得到

第①个图形中实心圆点的个数为：5=2×1+1+2，

第②个图形中实心圆点的个数为：8=2×2+2+2，

第③个图形中实心圆点的个数为：11=2×3+3+2，

……

∴第⑥个图形中实心圆点的个数为：2×6+6+2=20，

故选：C.

【考点】

本题考查探索与表达—图形变化类. 关键是通过归纳与总结，得到其中的规律.

2、C

【解析】

【详解】

分析：根据单项式的性质即可求出答案.

详解：该单项式的次数为：3+1=4

故选 C.

点睛：本题考查单项式的次数定义，解题的关键是熟练运用单项式的次数定义，本题属于基础题型.

3、A

【解析】

【分析】

数与字母的乘积形式是单项式，单独一个数或一个字母是单项式，几个单项式的和是多项式.

【详解】

解：$x+yz$是两个单项式的和，是多项式；$-2x$是单项式；ax^2+bx+c是 3 个单项式的和，是多项式：0，a是单项式；$\frac{x^2y}{\pi-1}$是单项式；$\frac{b}{x}$不是整式，综上所述，单项式共有 4 个，多项式共有 2 个，整式共有 6 个，

故选：A.

【考点】

本题考查多项式、单项式的定义，是基础考点，掌握相关知识是解题关键.

4、B

【解析】

【分析】

由同类项的含义可得：$x+1=5, y+1=3$，再求解x, y，再代入代数式求值即可得到答案.

【详解】

解：因为$5a^{x+1}b^3$与$\frac{7}{12}a^5b^{y+1}$的和是单项式，所以它们是同类项，

所以$x+1=5, y+1=3$，

解得$x=4, y=2$.

所以$x+3y=4+3\times2=10$.

故选：B.

【考点】

本题考查的是同类项的含义，一元一次方程组的解法，代数式的值，掌握同类项的概念是解题的关键.

5、C

【解析】

【分析】

根据代数式的定义：用基本运算符号（基本运算包括加减乘除、乘方和开方）把数或表示数的字母连接起来的式子，由此可排除选项.

【详解】

解：A、是代数式，故不符合题意；

B、是代数式，故不符合题意；

C、中含有“=”，不是代数式，故符合题意；

D、是代数式，故不符合题意；

故选 C.

【考点】

本题主要考查代数式的定义，熟练掌握代数式的定义是解题的关键.

6、D

【解析】

【分析】

根据题意，阴影部分的周长等于正方形的周长减去 $4d$，再加上 4 个半圆的周长，即可求得答案

【详解】

解：由题意可得：阴影部分的周长 $4m+2\pi d-4d$

故选 D

【考点】

本题考查了列代数式，根据题意求得周长是解题的关键.

7、D

【解析】

【分析】

先分清多项式的各项，然后按多项式升幂排列的定义排列.

【详解】

解：$3x^2y-4x^3y^2-5xy^3-1$ 的项是 $3x^2y$、$-4x^3y^2$、$-5xy^3$、-1，

按 x 的升幂排列为$-1-5xy^3+3x^2y-4x^3y^2$，故 D 正确；

故选 D.

【考点】

考查了多项式，我们把一个多项式的各项按照某个字母的指数从大到小或从小到大的顺序排列，称为按这个字母的降幂或升幂排列. 要注意，在排列多项式各项时，要保持其原有的符号.

8、D

【解析】

【分析】

直接利用合并同类项法则分别分析得出答案.

【详解】

A、3a+2b，无法计算，故此选项错误；

B、$5a^2-2a^2=3a^2$，故此选项错误；

C、7a+a=8a，故此选项错误；

D、$2a^2b-4a^2b=-2a^2b$，正确.

故选 D.

【考点】

此题主要考查了合并同类项，正确掌握运算法则是解题关键.

以上内容仅为本文档的试下载部分，为可阅读页数的一半内容。如要下载或阅读全文，请访问：https://d.book118.com/016121242151011020