广东广州市第七中学物理八年级下册期末考试定向训练

考试时间：90 分钟；命题人：教研组

考生注意：

1、本卷分第 I 卷（选择题）和第 II 卷（非选择题）两部分，满分 100 分，考试时间 90 分钟

2、答卷前，考生务必用 0.5 毫米黑色签字笔将自己的姓名、班级填写在试卷规定位置上

3、答案必须写在试卷各个题目指定区域内相应的位置，如需改动，先划掉原来的答案，然后再写上新的答案；不准使用涂改液、胶带纸、修正带，不按以上要求作答的答案无效。

第 I 卷（选择题　20 分）

一、单选题（10 小题，每小题 2 分，共计 20 分）

1、关于重力、弹力和摩擦力，下列说法中正确的是（　　）

A．摩擦力的方向一定与物体运动的方向相反

B．物体受到的重力的方向总是竖直向下，有时还垂直于接触面

C．物体的重心一定在物体上

D．物体间如果有相互作用的弹力，就定存在摩擦力

2、如图所示，小刚在做探究凸透镜成像规律的实验时，将凸透镜固定在光具座上 50cm 刻度线处，将点燃的蜡烛放置在光具座上 35cm 刻度线处。移动光屏至 80cm 刻度线处，在光屏上得到烛焰清晰的像（烛焰未画出）。以下说法中正确的是（　　）

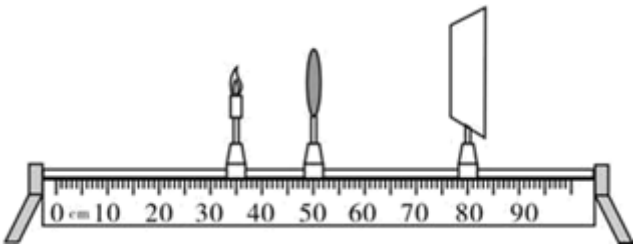

A．此透镜的焦距可能为 15cm

B．此成像原理与放大镜成像原理相同

C．此时若只向右移动凸透镜，能再次在光屏成清晰的像

D．若将透镜换为焦距更小的凸透镜，则只将光屏右移就能再次接收到清晰的像

3、同学们在进行估测大气压实验时，读出注射器的最大刻度为V，用刻度尺量出其全部刻度的长度为L接着先后按照图甲、图乙所示的情形(甲图没有盖上橡皮帽、乙图在排尽空气后盖上了橡皮帽)，沿水平方向慢慢地拉注射器，刚好拉动活塞时，弹簧测力计示数分别是F_1和F_2.下列计算式正确且最接近真实值的是（　　）

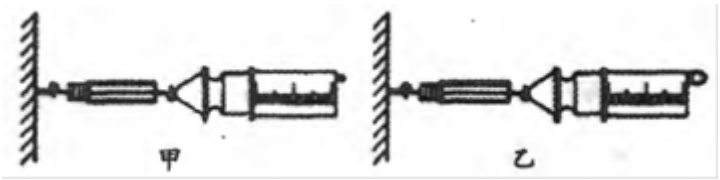

A．F_1L/V　　B．F_2L/V

C．$(F_2-F_1)L/V$　　D．$(F_2+F_1)L/V$

4、如图所示，物体A、B的重分别为30N、20N，每个滑轮重10N，绳重及摩擦均忽略不计。此时物体A沿水平桌面向右做匀速直线运动。下列说法正确的是（　　）

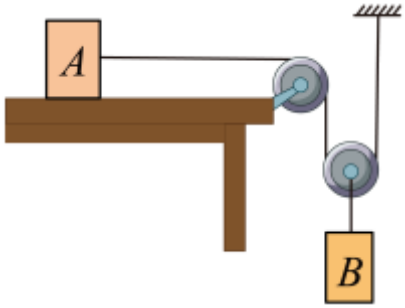

A．两个滑轮均为定滑轮　　B．A受到水平向右的摩擦力

C．A受的摩擦力大小为15N　　D．A移动的速度是B的0.5倍

5、下列实例中，通过增大压力的方法来增大摩擦的是（　　）

A．鞋底加深槽纹

B.  用手捏刹车把手

C.  给转轴加润滑油

D.  用铅笔移动书本

6、如图所示，手用力 F=10N 把重量为 5N 的一木块压在竖直墙面上静止，以下分析（　　）

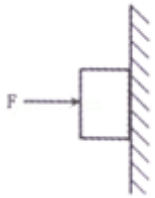

①手对木块的压力和木块对手的弹力是一对平衡力

②手对木块的压力和墙对木块的弹力是一对平衡力

③墙面对木块的摩擦力是 5N

④增大压力 F，木块受到的摩擦力随之增加

A．只有①正确　　B．只有④正确

C．只有②③正确　　D．只有③④正确

7、同一物体在月球表面受到的重力是在地球表面所受重力的六分之一，也就是说月球表面上物体重力与质量的比值约为 $g_{月}$=1.6N/kg。设想我们乘宇宙飞船从地球登上月球，以下说法正确的是（　　）

A．地球上质量是 60kg 人，在月球上质量变为 10kg

B．地球表面重力为600N的人，在月球表面重力约为100N

C．在地球表面最多能举起重 600N 物体的人，在月球表面最多能举起重 100N 的物体

D．在地球表面最多能举起 60kg 物体的人，在月球表面最多能举起 60kg 的物体

8、眼睛好像一架照相机。晶状体和角膜的共同作用相当于凸透镜，如图所示表示的是来自远处的光经小强眼球折光系统的光路示意图。下列分析正确的是（　　）

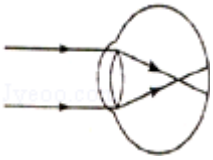

A．小强的眼睛是近视眼，应配凸透镜做成的眼镜

B．小强的眼睛是近视眼，应配凹透镜做成的眼镜

C．小强的眼睛是远视眼，应配凸透镜做成的眼镜

D．小强的眼睛正常，无须配戴眼镜

9、将体积相同、材料不同的甲、乙、丙三个实心小球，分别轻轻放入三个装满水的同规格烧杯中，甲球沉底、乙球悬浮、丙球漂浮，如图所示，下列说法中正确的是（　　）

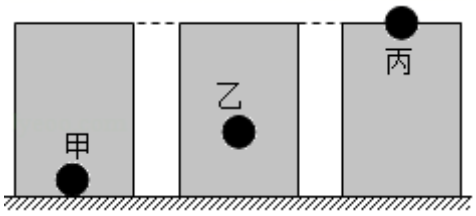

A．三个小球的质量大小关系是 $m_{甲}>m_{丙}>m_{乙}$

B．三个小球受到的浮力大小关系是 $F_{甲}=F_{乙}<F_{丙}$

C．三个小球的密度大小关系是 $\rho_{甲}>\rho_{乙}>\rho_{丙}$

D．三个烧杯中的水对烧杯底部的压强大小关系是 $p_{甲}>p_{丙}>p_{乙}$

10、“木桶理论”指出木桶能盛下水的容量由最短的木板来决定。如图将水注进水平面的木桶时，水对木桶底部的压强说法正确的是（　　）



A．最大压强由最长木板决定　　B．木桶的质量决定压强大小

C．木桶的底面积决定压强大小　　D．补齐短木板能增加最大压强

第Ⅱ卷（非选择题　80 分）

二、填空题（10 小题，每小题 3 分，共计 30 分）

1、如图所示，缓慢改变_____,通过观察细线 OA 的方向来判断重力方向。

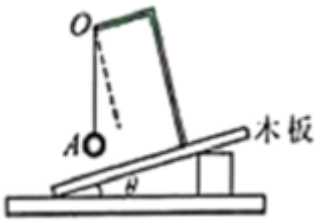

2、如图为托里拆利实验，可知当地的大气压相当于_____mmHg 柱产生的压强；若竖直提升玻璃管，管口未离开水银面，则水银面上方的水银柱高度_____（选填“升高”、“降低”或"不变"）；标准大气压相当于 760mmHg 柱产生的压强，在图大气压下，水的沸点_____100° C（选填“大于”、“小于"或“等于”）.

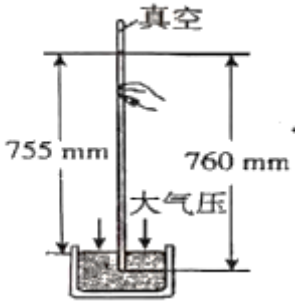

3、在物理学中，我们常用到估算，如一个鸡蛋的质量为 5 0 ｇ，一个中学生的身高在 17 0 ｃｍ左右等等，现请你估算在一个标准大气压下，你的手指大拇指甲盖受到的大气压力约为_____。（结果保留整数）

4、图是华为最新发布的 5G 手机－华为Mate30pro，该手机使用我国自主研发的海思麒麟 990 芯片，该芯片采用 7nm 工艺制程，7nm=_____m；它的双 4000 万像素徕卡四摄镜头相当于一个_____透镜(填“凸”或“凹”)。



5、现有 20 包大米，总质量为 120kg。小明想尽快将它们搬上 10m 高处的库房。如图 13 为小明可以提供的用于搬动物体的功率与被搬运物体质量之间的关系图象。由图分析可知，他为了尽可能快地将大米搬上库房，他每次应搬_____包。若每次下楼时间是上楼时间的一半，则他最快完成搬运务并返回原地所用的时间为_____s。(g 取 10Nkg)

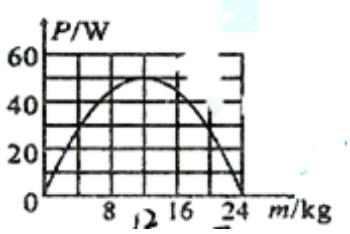

6、体育课上，小朱同学在 20s 内能做 16 个引体向上。已知小朱同学重 500N，他每次重心平均升高 0.5m，则小朱同学做引体向上时的平均功率是_____W。

7、在实心球测试时，小华捡起重为 20N 的实心球，并缓慢举至 2m 高处，这一过程小华对球做功____J；将球用力投出后，实心球向前飞行了 10 米，球出手后，小华对球做功_____J。

8、如图所示，用平行于斜面、大小为 2.5N 的拉力 F，将重为 3.6 N 的物体从斜面底端匀速拉至顶端，如果机械效率是 72%，则斜面高度为_____m。

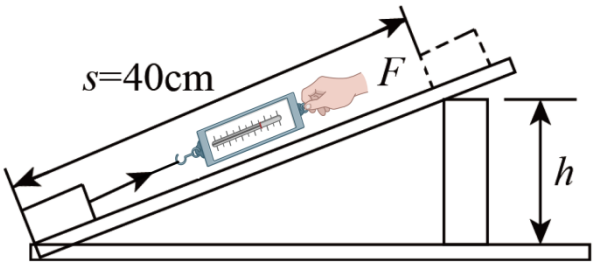

9、如图是集市上常用的一种弹簧台秤，它测得的是物体的_____（选填“质量”或“重力”），应用的物理原理是：作用在弹簧上的外力越大，弹簧的_____就越大。



10、请用简洁的词语写出在以下安全提示中的相关物理知识。

（1）车未停稳，请勿下车。_____

（2）在火车站台上候车的人必须站在安全线以外。_____

（3）大型的载重卡车安装多个轮子。_____

三、计算题（3 小题，每小题 10 分，共计 30 分）

1、如图，容器重 1N，底面积为 20cm^2，高为 25cm，容积为 600cm^3，盛满水后置于水平桌面上，求水对容器底的压力和桌面所受的压强（g 取 10N/kg）

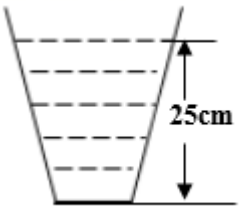

2、一平底玻璃杯放在水平桌面上，内装 150 克的水，杯子与桌面的接触面积是 10cm^2，如图所示.

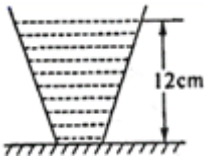

（1）求出水对杯底的压强？

（2）若桌面所受玻璃杯的压强是 2．7×10^3 Pa，求玻璃杯的质量．(取 g 一 10 N / kg)？

3、如图所示是小芳家新买的保温电热水壶，它的容积为 3L，壶身和底座的总质量是 1.5kg，底座与水平桌面的接触面积为 $100cm^2$ ，装 2kg 水后水深 25cm。求：



（1）水对电热水壶底部的压强是多少？

（2）桌面受到的压强是多少？

四、实验探究（2 小题，每小题 10 分，共计 20 分）

1、在“探究凸透镜成像的规律”实验中，所用凸透镜的焦距是 10cm，将透镜固定在光具座 50cm 刻度线处，实验装置如图所示：

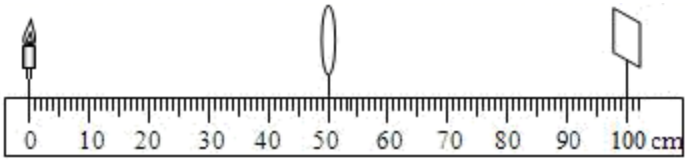

（1）实验时要首先应调节凸透镜、光屏和蜡烛的高度，使它们的中心大致同一高度，点燃蜡烛应在调整高度之_____（选填“前”或“后”）；

（2）实验中将蜡烛移至光具座上 10cm 刻度线处，移动光屏，直到烛焰在光屏上成清晰的实像，该像是_____的（选填“放大”、“等大”或“缩小”）；

（3）将蜡烛从光具座上 10cm 向 35cm 刻度线移动时，若要让烛焰在光屏上能再次成清晰的像，光屏应_____（选填“远离”或“靠近”）透镜；

（4）实验时，蜡烛越烧越短，将会看到屏上的像向_____（选填“上”或“下”）移动；

（5）实验过程中，用黑纸将凸透镜遮掉一半，光屏上像的形状_____（选填“变”或“不变”）。

2、在“探究凸透镜成像规律”的实验中，凸透镜焦距为 10cm。蜡烛、透镜和光屏的位置如图所示。

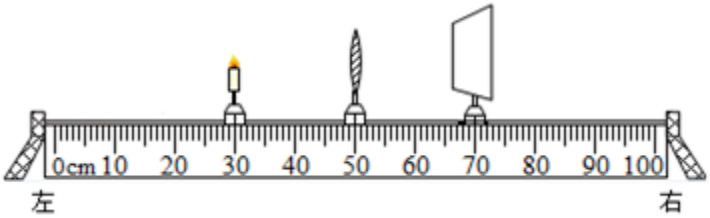

（1）图中固定蜡烛位置不变，将透镜移到 60cm 刻度线处，要在光屏上再次看到清晰的像，应将光屏向_____（选填“左”或“右”）移动，所成的像与原来的相比_____（选填“不变”、“变大”或“变小”）了。

（2）当光屏上成清晰的像后，若一只苍蝇停在透镜的中央，则光屏上所成的像是_____（选填“完整”或“不完整”）的。

（3）图中固定透镜位置不变，将蜡烛移到 45cm 刻度线处，移动光屏_____（选填“能”或“不能”，下同）承接到像。把光屏放在蜡烛的左侧，移动光屏_____承接到像。

（4）图中将一个眼镜片放在透镜和烛焰之间，光屏上的像变模糊了，将光屏向左移动，光屏上再次呈现清晰的像，该眼镜片是_____（选填“近视”或“远视”）眼镜的镜片。

-参考答案-

一、单选题

1、【答案】B

【解析】【解答】A. 摩擦力的方向是与相对运动的方向或相对运动趋势的方向相反，有时会与运动方向相同，当摩擦力为动力时，摩擦力与运动方向相同，A 不符合题意；

B. 重力的方向总是竖直向下的，当接触面水平时，则重力的方向垂直于接触面，B 符合题意；

C. 物体的重心不一定在物体上，如中空的球的重心不在球上，C 不符合题意；

D. 物体间有相互作用的弹力时，如果没有相对运动或相对运动的趋势，或接触面光滑，则物体也不受摩擦力，D 不符合题意。

故答案为：B。

【分析】摩擦力的方向和物体的相对运动方向相反；重力的方向是竖直向下的；物体的重心有时不在

物体上；发生弹力时，不一定有摩擦力产生。

以上内容仅为本文档的试下载部分，为可阅读页数的一半内容。如要下载或阅读全文，请访问：https://d.book118.com/017140156126010015