2023 年国企入职考试综合知识训练试卷（附答案和解析）（2）

一、单选题

1、一只青蛙掉到一口深 15 米的井中，它每天向上跳 4 米，到晚上又下滑 2 米，那么第几天这只青蛙才能跳出井外?( )

A、第 6 天

B、第 5 天

C、第 8 天

D、第 7 天

【答案】：D

【解析】：这只青蛙一昼夜上升 4-2=2(米)，经过 6 天后，共上升了 12 米，这时只要再向上跳 3 米，就可跳到井外，所以在第，7 天这只青蛙就可从井中跳出。答案为 D。

2、下列叙述正确的一项是：（）

A、人类目前开发利用的太空资源主要是太阳能资源

B、太空中对卫星最大的威胁来自太阳色球爆发

C、人类对宇宙空间的探索已逐步进入到空间开发利用阶段

D、太空垃圾主要是指卫星和终止寿命的航天器

【答案】：C

【解析】：本题出自 2021 年北京(社招)《行测》真题，太空垃圾中包括报废的卫星而非卫星，D 项错误。太空垃圾是地球同步轨道上卫星的最大威胁，B 项错误。茫茫太空为人类提供了强辐射、微重

力、高真空、无污染、太阳能和其他丰富的物质资源，而目前对太空资源开发利用的一个主要领域是卫星通信和导航定位，A 项错误。目前人类对宇宙空间的探索已逐步进入到空间开发利用阶段,C 项正确。所以选择 C

3、中国是世界上发展最快的经济体，如果它继续按照专家们的_____发展下去，

那么在 20 年后可以与美国_____。填入横线处最恰当的词语是（　）

A、猜测比肩

B、预测匹敌

C、推断抗衡

D、预期媲美

【答案】：B

【解析】：本题出自 2021 年内蒙古《行测》真题，本题两个空、四组词都需判断。根据前后文意思，本题主要讲对未来发展趋势的展望，“预测”指预先推测或测定，“预期”意思是对未来情况的估计。从后文“20 年后”可知与文意符合，所以第一个空处应填预期或者预测，故排除

A、C。第二个空，“匹敌”意为相当、相比。“媲美”指美（好）的程度差不多，比美。从前文文意推断，匹敌最符合，故本题答案为 B

4、财产安全一直是人们忧虑的一个问题，如果人们无法保障其

个人财产的安全，就不可能有积极性去创造财富，即使创造财富，也会转移，个人财产的安全，既体现在保有环节，也体现在交易环节、为避免交易风险，需要通过国家机关的登记行为来确认其物权状态，从而保障期真实性，登记行为本身是以国家信用做担保的，而国家信用的背后又是法律信用这段文字的关键词是（）

A、交易风险物权登记法律信用

B、财产安全保有环节交易环节

C、财产安全物权登记国家信用

D、物权登记国家担保法律信用

【答案】：C

【解析】：“财产安全”是整个文段的主语和话题，“如果”后面的文段补充说明财产安全为何是人们忧虑的问题，“需要”对策引导词后面是重点，即“物权登记”，故选 C

5、下列情形可能发生的是（）。

A、南北朝贵族妇女去佛寺礼佛

B、半坡原始居民种植玉米

C、周武王穿着铁制铠甲伐纣

D、秦朝儿童春天放纸风筝

【答案】：A

【解析】：佛教自西汉末传入我国，三国两晋南北朝时期兴盛起来，所以南北朝贵族妇女去佛寺礼佛是可能发生的，A 项正确；玉米原产美洲，最早传到我国是在 1531 年，所以半坡原始居民种植玉米

是不可能发生的,B 项错误;中国开始冶铁和使用铁器是在春秋时期，周朝还没有铁器，C 项错误；纸是东汉蔡伦发明的，秦朝还没有纸，D 项错误。故选 A。

6、(2008 广东，第 7 题)$2^{2008}+3^{2008}$的尾数是（）

A、1

B、3

C、5

D、7

【答案】：D

【解析】：$2^{2008}+3^{2008}\Rightarrow 2^4+3^4\Rightarrow 6+1\Rightarrow 7$

7、请从所给的四个选项中，选择最合适的一个填入问号处，使之呈现一定的规律性：（）

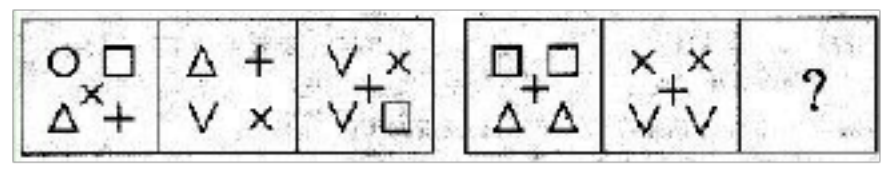

A、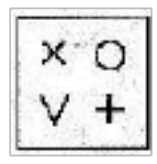

B、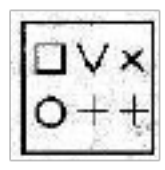

C、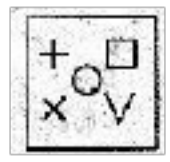

D、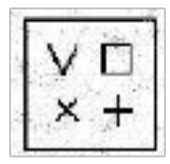

【答案】：A

【解析】：两组图中的小元素个数总和均为：圆圈 1 个，方块 2 个，三角形 2 个，×号 3 个，＋号 3 个，V 字形 3 个。根据第二组图中已有元素可知第三个图形中的元素种类及个数。故选 A。

8、印象管理：指人们试图管理和控制他人对自己所形成的印象的过程。通常，人们总是倾向于以一种与当前的社会情境或人际背景相吻合的形象来展示自己，以确保他人对自己做出愉快的评价。根据上述定义，下列属于印象管理的是（）。

A、某香港明星的经纪人想尽办法让明星多参与电视娱乐节目，以此提高人气

B、董事长批评陈经理说，客户看到你们的办公室天天乱成这样，哪里会对公司有信心

C、林某听到同学偷偷说自己的坏话就忍不住上去打了他

D、面试前，小李在服饰、发型等方面都作了精心准备，以求一次成功

【答案】：D

【解析】：本题出自 2021 年浙江(A 卷)《行测》真题，印象管理的关键要件有：（1）与当前的社会情境或人际背景相吻合的形象；（2）展示自己；（3）对自己做出愉快的评价。A 项不符合（2）；

B、C 项不符合（3）；D 项中小李在服饰、发型等方面作了精心准备，这是为了符合职业人的形象标准，以求面试时，对方能对其做出好的评价，这属于印象管理。因此，本题答案为 D 选项。

9、从所给的四个选项中，选择最合乎逻辑的一种事件顺序：（　）

(1) 参加歌手大奖赛 (2) 经常下基层演出 (3) 夺得第一名 (4) 拜师学艺 (5) 同行前来祝贺

A、2—4—1—3—5

B、4—2—1—3—5

C、4—1—2—3—5

D、1—3—5—2—4

【答案】：B

【解析】：按照时间顺序排序。拜师学艺—经常下基层演出——参加歌手大奖赛—夺得第一名—同行前来祝贺。

10、一个三位数的各位数字之和是 16。其中十位数字比个位数字小 3。如果把这个三位数的百位数字与个位数字对调，得到一个新的三位数，则新的三位数比原三位数大 495，则原来的三位数是多少（　　）

A、169

B、358

C、469

D、736

【答案】：B

【解析】：设原来的三位数为 100x+10y+z，则新的三位数为 100z+10y+x，故 100x+10y+z+495=100z+10y+x，整理得 z－x=5，排除 A、D 两项；因为原三位数的各位数字之和是 16，排除 C 项。因此，选 B。

11、某公司两个车间生产同一种产品，今年一季度同去年一季度相比较，由于两个分厂单位产品成本降低使企业的总平均成本下降 5%，产品结构变化使公司总平均成本提高 10%，则该公司总平均成本

增减变动百分比为( )。

A、(95%×110%)-100%=45%

B、(110%/95%)-100%=158%

C、(95%/110%)-100%=-136%

D、10%-5%=5%

【答案】: A

【解析】:原平均总成本下降 5%后变为原先的 95%,再提高 10%,是在现有基础上提高，因此为 A 选项。

12、下列选项中，符合所给图形的变化规律的是（　　）

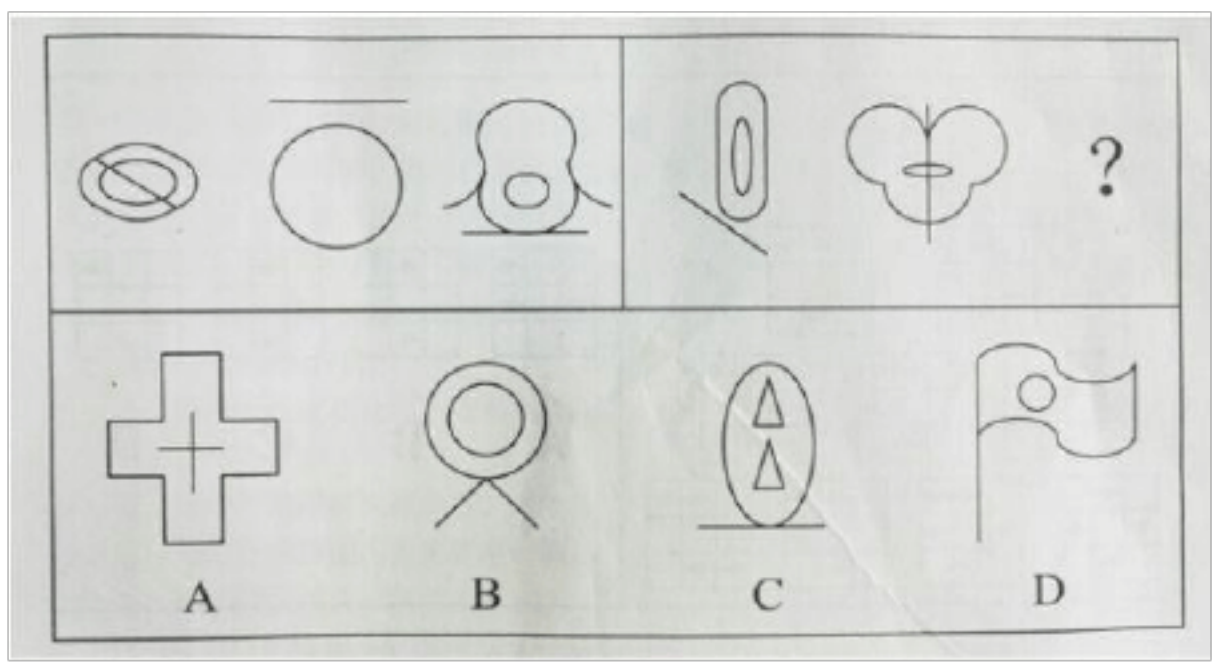

[2017 增]

A、如图 A

B、如图 B

C、如图 C

D、如图 D

【答案】: C

【解析】: 元素之间的相互位置。每个图形中一条直线分别和曲线相交、相离、相切。因此，本题答案为 C 选项。[2016 年上海《行测》真题]

13、甲骨文是迄今为止在中国所发现一种最古老的、自成体系的文字，可以说是现代汉字的老祖宗。甲骨文已相当_____，如果认为仰韶文化、龙山文化的图形符号是汉字的雏形，那么它们与甲骨文之间，应该还存在一个_____的环节。

依次填入划横线部分最恰当的一项是：

A、成熟过渡

B、规范关联

C、优美补充

D、完善缓冲

【答案】：A

【解析】：本题出自 2021 年福建《行测》真题，根据文段“是迄今为止在中国所发现一种最古老的”可知甲骨文已相当的成熟，再根据前文提及甲骨文是现代汉字的老祖宗，后文又说仰韶文化、龙山文化的图形符号是汉字的雏形，所以两者之间必然存在一个过渡环节。故答案选 A。

14、新兴产业物联网的发展势如破竹，仅几年时间，物联网的产业规模就呈现出年 30%以上的复合增长率。专利等知识产权为这个朝阳产业的迅速崛起提供了强有力的支撑。预测未来几年，全球物联网市场规模将出现快速增长，我国 2015 年物联网市场规模将达到 7500 亿元，市场前景将远远超过计算机、互联网、移动通信等市场。而从我国目前的专利申请情况来看，核心技术专利、通过《专利合作条约》途径提交的国际专利申请的数量都有明显不足。因此，业内专

家指出，需要加速我国物联网产业的专利布局。

与这段文字意思不相符的一项是（）。

A、我国物联网市场规模未来有可能超过计算机市场

B、我国物联网产业作为朝阳产业发展规模快速增长

C、我国物联网产业的发展需要自主知识产权的支撑

D、我国物联网产业将发展成为未来我国的支柱产业

【答案】：D

【解析】：本题出自 2021 年 16 省市联考(山西/辽宁/黑龙江/福建/...文段中提到“预测未来几年，全球物联网市场规模将出现快速增长，我国 2015 年物联网市场规模将达到 7500 亿元，市场前景将远远超过计算机、互联网、移动通信等市场”，这仅论述了物联网未来的发展规模和前景，并未涉及“支柱产业”这一概念，该选项为无中生有。因此，本题答案为 D 选项

15、根据下面文字回答问题：自 1981 年至 1985，年，境外来中国大陆访问的人数增加得很快。例如，自 1981 年至 1985 年，各年度入境访问和旅游的总人数依次为 780 万、790 万、950 万、1290 万、1780 万。其中港澳台居民来访人数各年度依次为 710 万、720 万、860 万、1170 万、1640 万。其他来访者主要是西方国家的旅游者。境外来中国大陆访问者的增加带来了外汇收入的增加。自 1981 年至 1985 年，各年旅游依次为 7．9 亿美元、8 亿美元、9 亿美元、11 亿美元、13 亿美元。1982 年大约有多少西方国家旅游者来中国旅游?（）

A、140 万

B、90 万

C、70 万

D、120 万

【答案】：C

【解析】：略

16、某单位依据笔试成绩招录员工，应聘者中只有 1/4 被录取。被录取的应聘者平均分比录取分数线高 6 分，没有被录取的应聘者平均比录取分数线低 10 分，所有应聘者的平均分时 73 分。问录取分数线是多少分 （）

A、80

B、79

C、78

D、77

【答案】：B

【解析】：假设应聘者只有 4 个，那么只录取了 1 个，设录取分数线为 X，由题意有 4×73=x+6+3（x－10），因此 x=76+3=79，故本题选 B。

17、从所给的四个选项中，选择最合适的一个填入问号处，使之呈现一定的规律性：（　　）



A、

B、

C、

D、

【答案】：D

【解析】：所给图形规律为；每列都有 10 个黑色方形，则应选图形中有 4 个黑色方形。故选 D。

18、生产、销售有毒、有害食品罪是指在生产、销售的食品中掺入有毒、有害的非食品原料的食品的行为。

根据上述定义，下列构成生产、销售有毒、有害食品罪的是：

A、刘某在地下工厂用工业用高纯度酒精加自来水制造大量假酒，并将其销售给商店，获利 8 万多元

B、某食品厂在所生产的一款彩虹糖中添加食用色素超标，长期食用会给人体健康造成危害

C、某饮料生产厂家在生产的可乐中添加了食品添加剂----咖啡因，但并未在包装上予以注明，使大量消费者引用了含有咖啡因的可乐

D、某肉食品加工产用病死猪肉作原料生产火腿，造成大批消费者食物中毒

【答案】：A

【解析】：本题出自 2021 年陕西《行测》真题，B 选项中食用色素属于食品原料，故此不选。C 项中咖啡因的添加虽然属于食品原料，不符合非食品原料。D 项中病死猪肉是依然是属于食品原料，所以不符合题意。

19、（1）卫生机关犯愁，增加巡逻人员，提高罚金，均收效其微（2）每扔一次垃圾，播出一则故事或笑话（3）荷兰某个城市，乱扔垃圾现象严重（4）大受市民欢迎，城市因而变得清洁（5）设计电动垃圾桶.装有感应器，可以启动录音机

A、(3) - (1) - (5) - (2) - (4)

B、(3) - (5) - (2)- (1) - (4)

C、(3) - (1) - (5) - (4) - (2)

D、(5) - (4) - (2) - (3) -(1)

【答案】：A

【解析】：本题描述的是某事解决垃圾问题的事件。“大受市民欢迎，城市因而变得清洁”应该是尾事件，答案比较 AB 两个选项，比较之后答案选择 A 选项。

20、甲乙两人从 P，Q 两地同时出发相向匀速而行，5 小时后于 M 点相遇。若其他条件不变，甲每小时多行 4 千米，乙速度不变，则相遇地点距 M 点 6 千米；若甲速度不变，乙每小时多行 4 千米，则相遇地点距 M 点 12 千米，则甲乙两人最初的速度之比为（）。

A、2:1

B、2:3

C、5:8

D、4:3

【答案】：A

【解析】：本题出自 2021 年深圳《行测》真题，设甲速度为 X 千米/小时，乙速度为 Y 千米/小时，可得方程组：

$\frac{X+4}{Y}=\frac{5X+6}{5Y-6}$ ‥①，化简可得 14Y=6X+24‥③ $\frac{X}{Y+4}=\frac{5X-12}{5Y+12}$ ‥②，化简可得 12Y=8X－48‥④

③×2+④得：40Y=20X，即 X=2Y。

因此本题正确答案为 A。

21、某校参加数学竞赛的有 120 名男生，80 名女生，参加语文的有 120 名女生，80 名男生。已知该校总共有 260 名学生参加了竞赛，其中有 75 名男生两科都参加了，问只参加数学竞赛而没有参加语文的女生有多少人?(　)

A、65 人

B、60 人

C、45 人

D、15 人

【答案】：D

【解析】：略

22、下列关于人文常识的表述，不正确的是：

A、开创三省六部制和科举制的朝代是隋朝

B、“民为贵，社稷次之，君为轻”是孟子民本思想的体现

C、提出“中庸”这一中国传统文化最高价值原则的人是孔子

D、严复翻译出版的《天演论》所宣传的主要思想是“师夷长技以制夷”

【答案】：D

【解析】：本题出自 2021 年浙江《行测》真题，严复翻译出版的《天演论》所宣传的主要思想是“物竞天择，适者生存”。而“师夷长技以制夷”思想源自魏源的《海国图志》。故选 D

23、资料二：

2010 年 1～3 月，法国货物贸易进出口总额为 2734.4 亿美元，同比增长 13.4%。其中，出口 1264.7 亿美元，同比增长 14.5%：进口 1469.7 亿美元，同比增长 12.4%；逆差 205.0 亿美元，同比增长 1.0%。

1～3 月，中法双边贸易额为 142.7 亿美元，同比增长 22.4%。其中，法国对中国出口 32.1 亿美元，同比增长 43.5%；自中国进口 110.6 亿美元，同比增长 17.4%；法国逆差 78.5 亿美元，同比增长 9.3%。中国在法国主要出口伙伴中排名第九位、在法国的主要进口来源地中居第四位。

1～3 月，法国对中国出口的前三大类产品为机电产品、运输设备和化工产品，出口额分别为 9.8 亿美元、8.4 亿美元和 4.0 亿美元，同比分别增长 14.9%、99.7%和 25.9%，这三类产品出口额合计占法国对中国出口总额的(　　)。另外，与上年同期相比，1～3 月法国对中国出口的塑料橡胶、皮革箱包、陶瓷玻璃和家具玩具等的出口

额增长显著，其中家具玩具的出口额增长最快，增幅达到 190.9%。

1～3 月，法国自中国进口的前三大类产品为机电产品、纺织品及原料、家具玩具，进口额分别为 48.5 亿美元、18.2 亿美元和 11.8 亿美元，同比分别增长 30.4%、3.6%和 8.1%，在法国同类产品进口市场中的份额分别为 16.8%，25.9%和 30.8%，这三类产品 1～3 月进口额合计占法国自中国进口总额的 70.9%。另外，法国自中国进口的化工产品的进口额同比增长最快，为 38.8%。

问题：2010 年 1～3 月，法国纺织品及原料的进口额约为多少亿美元 （）

A、67.8

B、70.3

C、99.1

D、108.3

【答案】：B

【解析】：本题出自 2021 年 19 省市联考(贵州/四川/福建/黑龙江/...，根据材料第四段“法国自中国进口的纺织品及原料为 18.2 亿美元，占同类产品的份额为 25.9%”，法国纺织品及原料的进口额 $=\frac{18.2}{25.9\%}\approx\frac{18}{25\%}=72$，与 70.3 较为接近。因此，答案选择 B 选项。

24、根据下图，回答以下

问题：下图给出了某国在 2001~2004 年间的国民生产总值、进出口额、平均收入、失业人数、部分时间工作岗位及通货膨胀率的发

展情况。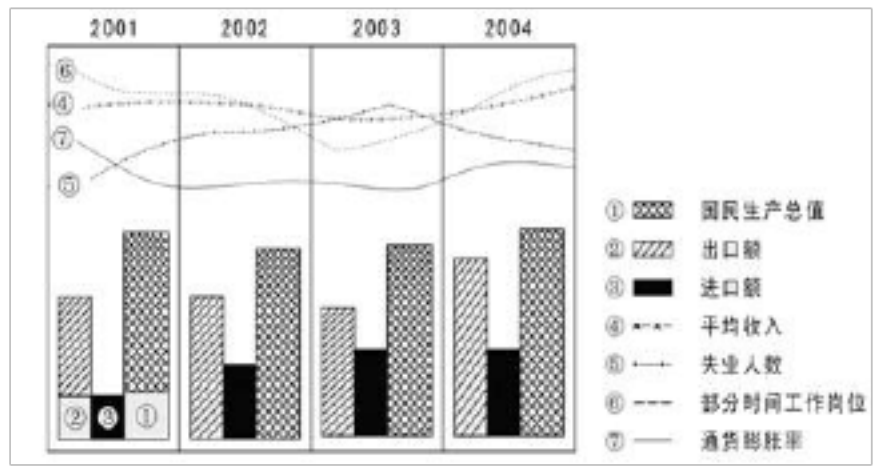

问题：在此期间相对稳定的数值是（）。

A、进出口额

B、失业人数、部分时间工作岗位

C、通货膨胀率

D、国民生产总值和平均收入

【答案】：D

【解析】：观察图中的曲线可得，国民生产总值和平均收入相对稳定。故应选 D

25、大雪后的一天，大亮和爸爸共同步测一个圆形花圃的周长，他俩的起点和走的方向完全相同，大亮每步长 54 厘米，爸爸每步长 72 厘米，由于两人脚印有重合的，所以各走完一圈后雪地上只留下 60 个脚印，花圃的周长是多少?

A、324 米

B、216 米

C、432 米

D、以上答案均不对

【答案】：B

【解析】：54 和 72 的最小公倍数为 216，即每 216 厘米大亮走

4 步、爸爸走 3 步，其中脚印重合一次，留下 4+3-1=6(个)脚印。所以花圃周长 216×(60÷6)=2160 厘米=21.6 米。选 B。

26、教师：陕西人

A、彩虹：云雾

B、青年：学生

C、永乐大典：四库全书

D、大熊猫：金丝猴

【答案】：B

【解析】：本题出自 2022 年陕西《行测》真题，题干逻辑关系：有的教师是陕西人，有的陕西人是教师，二者为交叉关系。

A 项中，彩虹是由阳光照射到云雾上发生散射产生的，与题干逻辑关系不一致，排除；

B 项中，有的青年是学生，有的学生是青年，两者为交叉关系，与题干逻辑关系一致；

C 项中，永乐大典和四库全书是两个不同的书籍文献，两者为并列关系，与题干逻辑关系不一致，排除；

D 项中，大熊猫和金丝猴是两种不同的动物，两者为并列关系，与题干逻辑关系不一致，排除。

故本题答案为 B 选项。

27、朝鲜半岛核问题的六方会谈已举行过五轮，取得了初步成果。下列不属于六方会谈成员的国家是（　　）。

A、美国

B、英国

C、俄罗斯

D、中国

【答案】：B

【解析】：六方会谈成员的国家为中国、朝鲜、韩国、美国、俄罗斯及日本。故本题正确答案选 B

28、在下列各句横线处填入的词语，最为适当的一项是（）。（1）这家医药公司_____世界医药行业之首，是因为有多项产品连续获得国际金奖。（2）现代科学技术的发展可谓一日千里，_____过去的幻想在今天均有可能得以实现。（3）方天明因德语能力和交往能力很强，被学校_____到德籍留学生管理中心工作。

A、跻身，以致，委派

B、跃居，以致，委任

C、跃居，以至，委派

D、跻身，以至，委任

【答案】：C

【解析】：这道题主要考查词语的搭配。跻身指上升到紧密的行列；跃居指跳跃式地上升到某个位子。修饰首位、榜首一般与“跃居”搭配。排除

A、D 项。委任指任命某人担任某职务；委派指派遣某人做某事。到德籍留学生管理中心工作与“委派”搭配。“以至”指事物扩展、延伸或事物发展到一定程度产生的效果，表范围、数量、程度、时间等

延伸和发展，一般指从小到大，从少到多，从浅到深。“以致”接事态发展所形成的结果，表示由于前面所说的原因而造成某种结果，多指不良结果或者不希望出现的结局。第二空白处表示科学技术发展到一定程度的效果，与“以至”搭配。故 C 项正确。

29、杂文像一切文学作品一样，贵在创新；如果（）。杂文家邵燕祥的作品不仅具有创新性，而且很讲究文章气势，智慧结合了勇毅，（　　），形成一种特有的气势。(1)不能发人所未发，见人所未见，失去新颖性，只能败坏读者的胃口，就会显得十分陈旧(2)失去新颖性，不能发人所未发，见人所未见，就会显得十分陈旧，只能败坏读者的胃口(3)使他的文字无媚态，有棱角，显风骨(4)在其文字中有棱角，显风骨，无媚态

A、(1)(3)

B、(2)(3)

C、(1)(4)

D、(2)(4)

【答案】：B

【解析】：本题属于语句衔接题型，主要考察推断类中的排序衔接类，本题对应的解法是识别陷阱类型中的推断不当，我们主要关注的是语境协调，具体表现在话题一致。第一个空应与前面的“创新”相关，即为(2)，第二个空，前面这句话是它的主语，故空项应为(3)。所以，本题选择 B 答案。

30、建华中学共有 1 600 名学生，其中喜欢乒乓球的有 1 180

人，喜欢羽毛球的有 1360 人，喜欢篮球的有 1250 人，喜欢足球的有 1040 人，问以上四项球类运动都喜欢的至少有几人?（）

A、20 人

B、30 人

C、40 人

D、50 人

【答案】：B

【解析】:不喜欢乒乓球的有 420 人,不喜欢羽毛球的有 240 人，不喜欢篮球的有 350 人，不喜欢足球的有 560 人，要使同时喜欢 4 项的人最少，则这些不喜欢的人要尽量不重复，则人数为 1600-420-240-350 一 560=30 人。故选 8。

31、两年前甲的年龄是乙的两倍，五年前乙的年龄是丙的三分之一，丙今年 11 岁，问今年甲多少岁

A、12

B、10

C、7

D、5

【答案】：A

【解析】：设甲的年龄为 X，则两年前乙的年龄是（X-2）/2，五年前乙的年龄是（X-2）/2-3，五年前丙的年龄是 3〔(X-2）/2-3〕，则有 3〔(X-2）/2-3〕+5=11，X=12

32、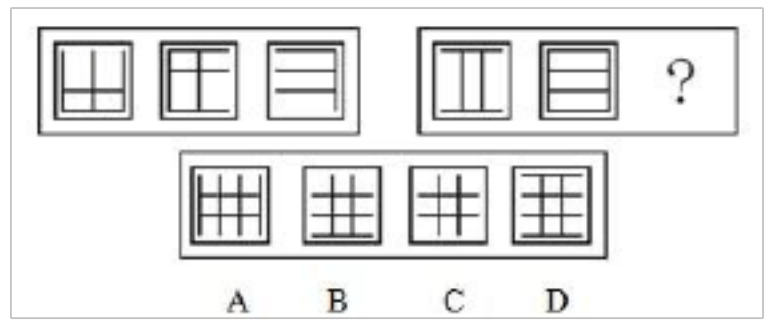

A、A

B、B

C、C

D、D

【答案】：A

【解析】：第一组图中，第一个图形和第二个图形去同存异得到第三个图形。要注意去同存异的范围是在四方框内，四方框并未介入到去同存异的运算中。因此，本题答案为 A 选项。

33、所有电力公司职工都参加了抗雪救灾工作，某部武警官兵也参加了抗雪救灾工作。该部武警官兵强化了冬季军事训练。铁路部门的工作人员大多没有参加冬季军事训练，但都参加了抗雪救灾工作。据此，下列各项判断除了哪项其余必然为真 （）

A、有的参加了抗雪救灾工作的人员是电力公司职工

B、某部武警官兵既参加抗雪救灾工作又强化冬季军事训练

C、有的铁路部门的工作人员参加了冬季军事训练

D、有的铁路部门的工作人员参加了抗雪救灾工作

【答案】：C

【解析】：由题干可判断

A、B、D 为真，而 C 铁路部门的工作人员大多没有参加冬季军

事训练，不能推出有的铁路部门工作人员参加了冬季军事训练必然为真。故选 C。

34、17 世纪的英国学者托马斯，富勒说：“知识使好人更好，坏人更坏。”塞缪尔，约翰逊则说：“有知识而不正直是可怕的。”罗素说：“科学是一种权力，而任何权力都可善可恶。”而爱因斯坦说得更加简洁：“刀子有用，但也能用来杀人。”

最适合作为这段文字标题的是（）。

A、知识需要人文控制

B、知识就是力量

C、知识与道德

D、知识就是刀子

【答案】：A

【解析】：本题出自 2021 年广州《行测》真题，文段引用几个名人的话来围绕知识展开论述。前两句说的是知识的作用，后两句把知识分别比喻成权利和刀子，而权利和刀子要想发挥作用，就要看掌握他们的人如何控制，也就是说拥有知识，还需要人文的控制，才能使其发挥更好的作用，总结概括上述内容，A 项最符合题意

35、一个立方体的 12 条棱分别被染成白色和红色，每个面上至少要有一条边是白色的，那么最少有多少条边是白色的?

A、3

B、4

C、5

D、6

【答案】：A

【解析】：立方体的 12 条棱位于它的 6 个面上，每条棱都是两个相邻面的公用边，因此至少有 3 条边是白色的，就能保证每个面上至少有一条边是白色。所以应选择 A。

36、报纸：新闻：时效

A、饭店：食物：口感

B、电视：广告：效果

C、车站：汽车：速度

D、展会：照片：像素

【答案】：B

【解析】：本题出自 2022 年河南（选调生）《行测》真题，等题干逻辑关系：新闻可以刊登在报纸上，时效是衡量新闻的一种标准。

A 项中，饭店可以提供食物，口感是衡量食物的一种标准，但饭店不是食物的载体，与题干逻辑关系不一致，排除；

B 项中，广告可以在电视里播放，效果是衡量广告的一种标准，与题干逻辑关系一致；

C 项中，汽车可以停在车站里，速度和汽车之间无明显的逻辑关系，与题干逻辑关系不一致，排除；

D 项中，照片可以在展会上展览，像素越高，照片越清晰，像素不是用来衡量照片一种标准，与题干逻辑关系不一致，排除。

故本题答案为 B 选项。

37、下列属于我军 1955 年实行军衔制后被授予将级的广西籍将领是：（）。

A、李天佑

B、许世友

C、杨得志

D、李德生

【答案】：A

【解析】：李天佑(1914—1970)，临桂人，上将。1955 年首次授衔时，我军共有 60 余万名干部获得了准尉以上军衔。其中上将 55 人，李天佑在其中。

38、每天面对繁忙的交通，我们总觉得它是无序的。一旦拨云见日，会发现在这“混乱”之下依然存在着群体协作：每一辆车都有其目标，每一个驾驶员都努力避免交通事故，这是个体行为；在路上行驶时，汽车首尾相连，车距狭小但并不碰撞，车距加大时就加速，车距小时就减速，这就是群体协作。如果拒绝协作，马路将会成为废铜烂铁的堆积地。有趣的是，这主要并不是交警指挥交通的结果，而是每一位驾驶员追求自身目标后的无意结果。这段文字意在强调：（）

A、个体行为是群体协作的基础

B、个体行为与群体协作并不矛盾

C、群体协作是个体实现目标时自然体现的结果

D、群体协作是人类社会生活中非常重要的因素

【答案】：C

【解析】：秒杀技巧：间接关键词“而是”后面的内容为主要内容，由此可知 C 为正确答案。解析：本题题干有两处重点。首先可以确定“群体协作”是文段谈的主体，第二句中的冒号代表解释说明，也就可以推知后文在解释什么是“群体协作”，由此可以首先排除

A、B 两项，话题主体不对。再浏览文章末尾，“不是…而是”这样带有弱转折关系的并列关联词中，“而是”后面是重点强调的内容，对照选项，恰与 C 项是同义替换，可以直接得出答案。

39、在社会生活中，人的角色支配了我们的感知，我们的注意力常常被人们日常的活动所吸引，往往缺乏对角色之外的人的内心深处的了解，因而在一些看似深刻的关于人的认识中不免存在着基于表面化或主观化的观点。这段话直接支持的观点是（）。

A、在社会生活中，人们都要充当各式各样的角色

B、我们在社会中的认识是建立在对各种角色的理解之上的

C、缺乏对角色之外的人的了解，就会产生主观化或表面化的认识

D、避免角色的影响，才能对社会中的人有更客观深刻的了解

【答案】：C

【解析】：本题属于观点态度题型，主要考察推断类中的劝导说服类，本题对应的解法是识别陷阱类型中的推断不当，从所给材料说明，社会角色支配了人的注意力，导致主体仅对他人的“角色”有所认识，但是缺乏对“人”本身的了解，因此得出一些表面化的结论。A 项所述与论证无关，首先排除。B 项是对所给材料的简单重复，材料

所要否定的观点就是单纯建立在“角色”基础之上的简单理解。迷惑项是D，D项是关于所给文字的合理结论，C项才是本段文字所“直接支持”的观点。所以，本题的答案为C选项。

40、如果认为对局部来说成立的东西，对总体也必然成立，那就犯了“合成谬误”。“合成谬误”理论阐述了个体理性是怎样演绎成群体非理性的，是论述由少到多的行为转变过程的理论。分解谬误则与合成谬误相反，它论证说：如果整体或集合具有某种性质，则它的每一部分或元素也必然具有此种性质。它未能认识到在整体和部分之间不存在这种转换关系。根据上述定义，下列各项不属于合成谬误的是：

A、宇宙已存在一百亿年，宇宙是由分子组成的，因此宇宙中的每个分子都存在一百亿年

B、如果某一农场主获得丰收，他的收入会增加，那么所有农场主都丰收了，大家就都共同富裕了

C、如果某个行业的一家公司从大规模地做广告得到了好处，这表明该行业的所有公司如果都大做广告，它们都能取得类似的增加销售额的好处

D、露天剧场中，一个人踮起脚尖看戏，可以比其他人看得更清楚，但这种行为引发其他的人都踮起脚尖看戏，其结果不仅是大家仍然看不清楚戏，而且每个人都要额外付出踮脚看戏的成本

【答案】：A

【解析】：本题考查经济学类，“合成谬误”是由少到多的行为，

A 项是由宇宙到分子，由整体到局部，不符合定义，因此本题正确答案为 A。

41、主要年份广东服务业增加值(单位：亿元)年份服务业交通运输仓储及邮电通信业批发和零售贸易餐饮业金融保险业房地产业其他服务业

197843.9210.0519.394.531.428.54198064.1413.7229.536.102.131

2.661985175.6935.9179.8612.746.1641.031990558.58101.61152.9

082.4642.87178.7319952168.34433.10647.77229.27230.75627.452

0004755.42938.741371.49443.69626.101375.4020059631.371591.4

72596.65673.651456.143313.46200713449.732181.113521.351798

222141.473807.592007年广东省其他服务业增加值比2000年增加( )。

A、177%

B、243522 亿元

C、291719 亿元

D、171%

【答案】：A

【解析】：2007 年广东省其他服务业增加值为 3807.59 亿元，2000 年为 1375.40 亿元，增加了 3807.59-1375.40=2432.19 亿元，增长了 2432.19÷1375.40=177%。应选择 A。

42、从所给的四个选项中，选择最合适的一个填入问号处，使之呈现一定的规律性（　　）

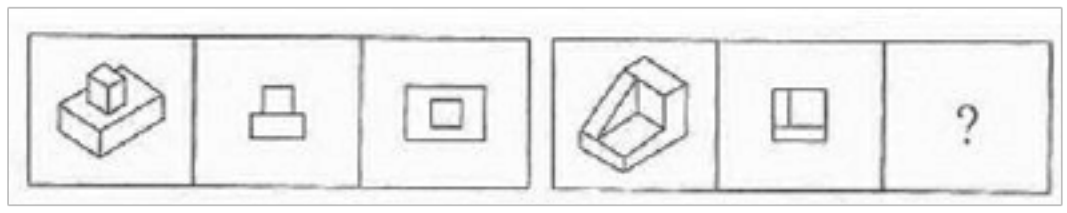

A、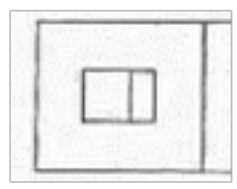

B、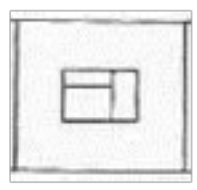

C、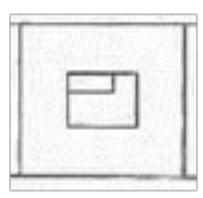

D、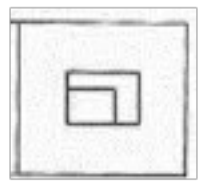

【答案】：B

【解析】：每组第一个图形是立体图形，第二个图形是这个立体图形的左视图，第三个图形是这个立体图形的俯视图。

43、共生是指两种生物共同生活在一起，相互依赖，彼此有利，倘若彼此分开，则双方或其中一方便无法生存。根据上述定义，下列属于共生的是（　）

A、双锯鱼喜欢在海葵的触手间游动，既得到海葵的保护，又能分享海葵吐出的食物

B、白蚁在吃了木材后、其肠道中的多鞭毛虫能分泌纤维素水解酶，帮助白蚁将木质纤维消化分解

C、若文鸟将巢筑在蜂窝旁以获得蜜蜂的保护，蜜獾喜欢吃蜂蜜，便追随若文鸟生活

D、赤眼蜂在红米螟虫的卵内产卵，以其为营养源生长发育

【答案】：B

【解析】:B 中白蚁和其肠道中的多鞭毛虫相互依赖,共生共存。

44、钢笔：墨水

A、血管：血液

B、枪支：子弹

C、煤炉：煤灰

D、电钻：钻头

【答案】：B

【解析】：“钢笔”装入“墨水”方可书写，“枪支”装入“子弹”方能发射，墨水和子弹都是消耗品，并完全嵌于其中。

45、下列不适用减刑的是（）。

A、死缓

B、无期徒刑

C、有期徒刑

D、管制

【答案】：A

【解析】：减刑适用于被判处管制、拘役、有期徒刑、无期徒刑的犯罪分子。故 A 为正确答案。

46、把图形 1、2、3 叠加在一起时，会形成下列选项中的（）。

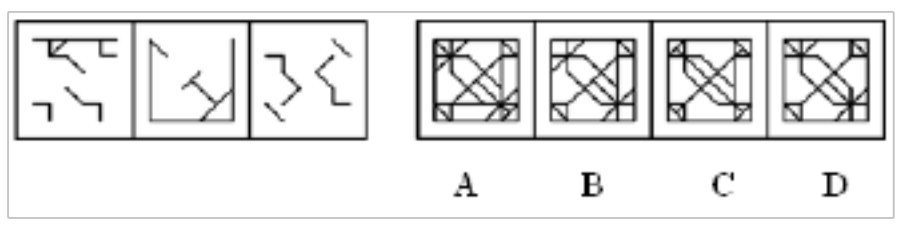

A、如上图所示

B、如上图所示

C、如上图所示

D、如上图所示

【答案】：D

【解析】：本题出自 2021 年上海《行测》真题，这是一道图形运算中的叠加类题目，关注四个角即可选出答案。B 项左上角缺对角线，C 项右上角多了半截对角线，A 项右下角多了对角线，故本题选 D。

47、“记者”对于（）相当于“营业员”对于（　　）

A、报社商场

B、采访商品

C、编辑经理

D、报社经理

【答案】：A

【解析】：本题出自 2021 年安徽《行测》真题，题干中“记者”和“营业员”均指人（身份），这种情况下一般考察和这一身份相匹配的事物。本题考察职业与工作场所的关系，是逻辑关系中的对应关系，即“记者”在“报社”工作，“营业员”在“商场”工作。因此，本题正确答案是 A 选项。

48、根据以下资料，回答下列几题。2009 年陕西省主要果品产

量、增减情况及构成

2009年陕西省主要果品产量、增减情况及构成

	2009年产量	比上年增长	占总产量比重（构成）
	万吨	%	%
苹果	555.21	20.2	75.5
梨	65.93	-3	——
柑桔	11.75	19.2	——
葡萄	11.08	23.3	——
桃	21.67	41.6	——
红枣	13.72	74.3	——
柿子	14.07	-4.2	——
猕猴桃	23.17	13.2	——
其他	19.13	-5.7	——

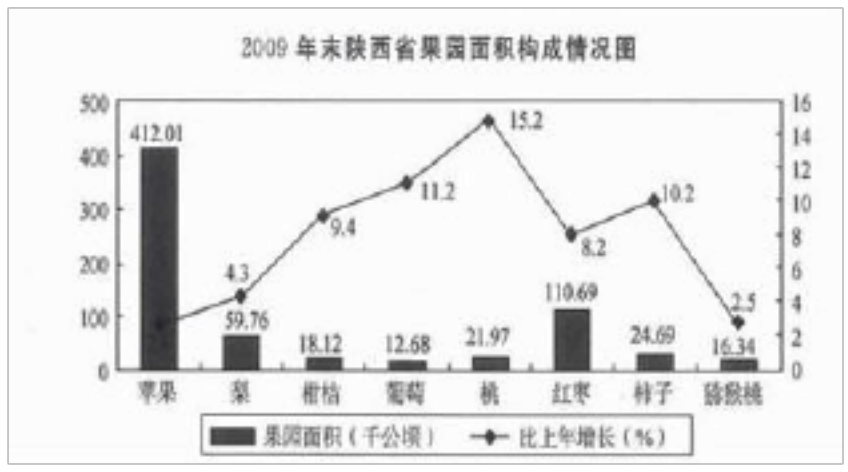

问题：2009年末，红枣的果园面积比柑桔的多（）倍。

A、4

B、6

C、8

D、5

【答案】：D

【解析】：2009年末，红枣的果园面积比柑桔的多(110.69-18.12)÷18.12≈5倍。

49、2005年华东地区城市园林绿化情况统计表

	人均公共绿地面积(平方米)	建成区园林绿地率(%)	建成区绿化覆盖率(%)	公园个数(个)	公园面积(公顷)	游人量(万人次)
全国	7.9	28.54	32.58	7077	157815.9	179367.4
上海	6.7	26.00	27.80	142	1516.6	13654.3
江苏	10.3	35.90	39.85	539	9924.0	10044.6
浙江	9.3	29.98	33.78	748	6045.6	12691.3
安徽	6.6	22.90	27.52	140	3970.1	4901.3
福建	9.2	33.08	36.11	314	4445.6	5226.3
江西	7.8	29.39	32.62	125	2258.9	1777.9
山东	8.1	31.95	36.97	456	11380.5	11219.9

问题：2005 年华东六省一市平均每个公园面积超过 20 公顷的有（）个省市。

A、2

B、4

C、5

D、6

【答案】：A

【解析】：对照公园个数与公园面积两栏，可估算出安徽、山东平均每个公园面积超过 20 公顷，故选 A。

50、左边给定的是纸盒外表面的展开图，右边哪一项能由它折叠而成 （）

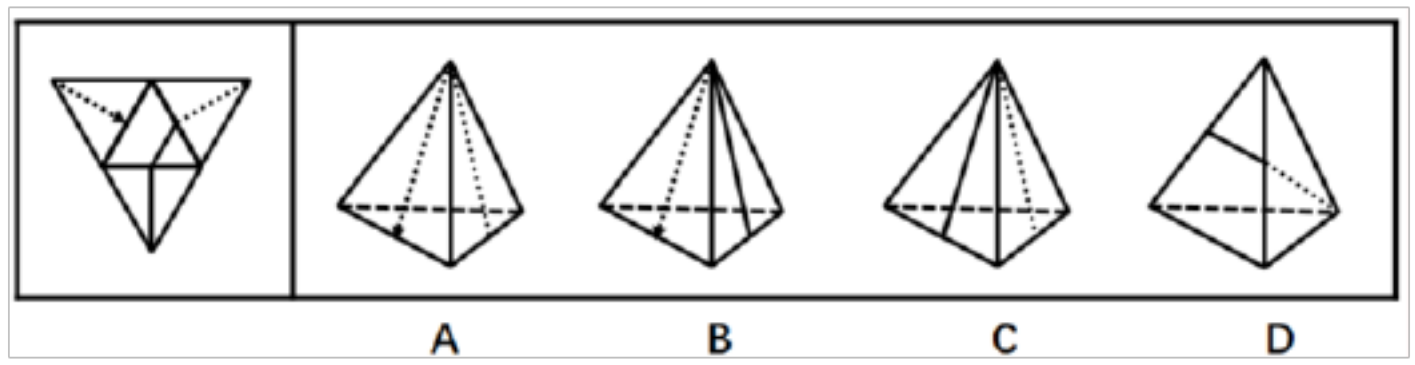

A、如上图所示

B、如上图所示

C、如上图所示

D、如上图所示

【答案】：A

【解析】：本题出自 2017 江苏公务员考试真题（C 类）本题考查四面体和八面体。

平面展开图如下图，当折成立体图形后，线 ab 和线 bc 重合，线 ce 和线 cf 重合，线 ad 和线 df 重合。

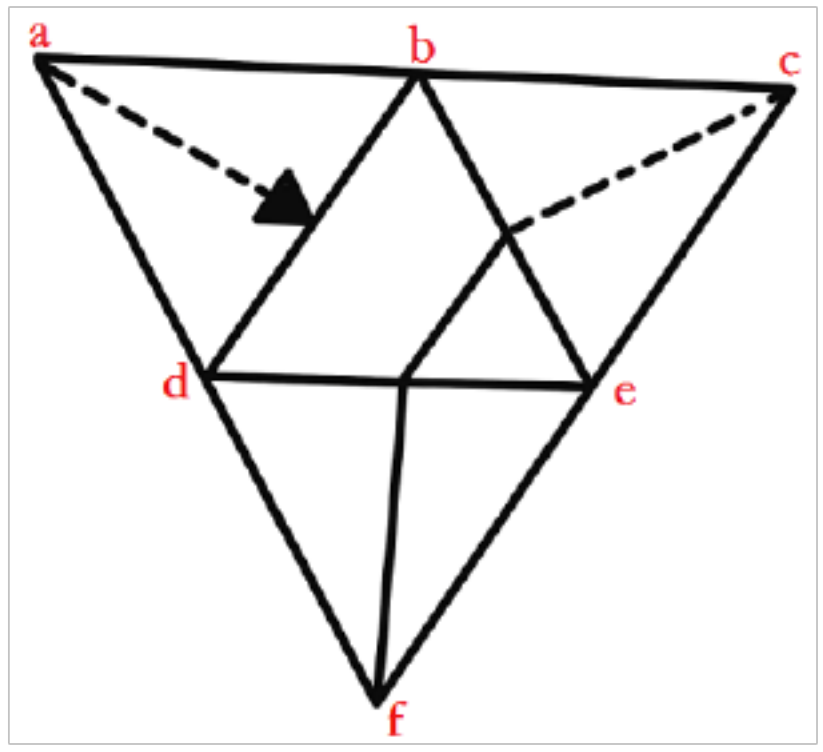

A 项中，以箭头朝下的面为正面的图形展开图与题干重合，正确；

B 项中，以箭头朝下面为正确参考面，实线的面应该在箭头朝下的面的左边，而不是右边，排除；

C 项中，以实线面为正确参考面时，其右边的面应该是箭头面，而不是虚线面，排除；

D 项中，以选项中含有横短线的面为正确参考面时，其右边的面应该是实线面，而不是虚线面，排除。

故本题答案为 A 选项。

51、公安机关服从党的领导，必须是()。

A、绝对的无条件的全面的和直接的

B、无条件的绝对的全面的和直接的

C、全面的直接的绝对的和无条件的

D、直接的绝对的无条件的和全面的

【答案】：A

【解析】：公安机关服从党的领导，必须是绝对的、无条件的、全面的和直接的。

52、尽管白天阳光有时不能照在房间里，但房间里仍然很亮，其主要原因是（）。

A、光的衍射

B、光的反射

C、光的折射

D、光的散射

【答案】：B

【解析】：光线投射在两种均匀介质的分界面上，比如光线在空气中照射到物体表面时，一部分被物体所吸收或通过，另一部分则在原来的介质中改变原来传播方向而从物体的表面反射出来，这一现象称作光的反射。反射的光线照射到不受太阳光直接照射的其他物体上，再反射到我们的眼睛中，我们就能看见不受太阳光直接照射的物体。

53、下面没有语病的句子是（）。

A、路是人走出来的，但是走过的地方都不一定成为了路

B、一条小船很难渡众生，必须是众人建造的大船才能同舟共济

C、相信科学的人们决不会让封建迷信影响了他的思想

D、大路向天边延伸很远很远，直到遥远得看不见的天际

【答案】：D

【解析】：A 项语序不当。“都”应该放在“不一定”的后面。B 项搭配不当。“大船才能同舟共济”是语病所在，应改为“大船才能让大家同舟共济”。C 项前后主语称谓不一致。“人们”与“他”无法对应，应将“他”改为“他们”。

54、下列句子中语意明确的是：

A、近期汇市美元对日元的比价小幅攀升

B、“有偿新闻”当受到严肃批评，这是极其错误的

C、税收改革为家庭带来收入增加并提高消费水平

D、大家已经认识到，通讯的畅通与否，是招商引资的重要筹码

【答案】：A

【解析】：A 项“比价小幅攀升”意为美元升值、日元贬值，语意明确。B 项指代不明，可以理解为“‘有偿新闻’是极其错误的”或者“‘有偿新闻’受到严肃批评这件事是极其错误的”。C 项句式杂糅，应为“税收改革使家庭收入增加，并提高了居民消费水平”。D 项一面对两面，应将“与否”去掉。

55、(1) 诸葛亮显示出卓越的军事才华 (2) 三顾茅庐 (3) 刘备拜诸葛亮为军师 (4) 赤壁大战大败曹军 (5) 提出三分天下战略

A、1-4-5-2-3

B、5-4-3-2-1

C、2-5-3-4-1

D、1-2-3-4-5

以上内容仅为本文档的试下载部分，为可阅读页数的一半内容。如要下载或阅读全文，请访问：https://d.book118.com/018105043020006114