湖南长沙市铁路一中数学七年级上册整式的加减章节测评

考试时间：90 分钟；命题人：教研组

考生注意：

1、本卷分第 I 卷（选择题）和第 II 卷（非选择题）两部分，满分 100 分，考试时间 90 分钟

2、答卷前，考生务必用 0.5 毫米黑色签字笔将自己的姓名、班级填写在试卷规定位置上

3、答案必须写在试卷各个题目指定区域内相应的位置，如需改动，先划掉原来的答案，然后再写上新的答案；不准使用涂改液、胶带纸、修正带，不按以上要求作答的答案无效。

第 I 卷（选择题　20 分）

一、单选题（10 小题，每小题 2 分，共计 20 分）

1、在$2x^2,1-2x=0,ab,a>0,0,\frac{1}{a},\frac{\pi}{3}$中，是代数式的有（　　）

A．5 个　　B．4 个　　C．3 个　　D．2 个

2、如果一个多项式的各项的次数都相同，那么这个多项式叫做齐次多项式．如：$x^3+3xy^2+4xz^2+2y^3$ 是 3 次齐次多项式，若 $a^{x+3}b^2-6ab^3c^2$ 是齐次多项式，则 x 的值为（　　）

A．-1　　B．0　　C．1　　D．2

3、下列说法正确的是（　　）

A．单项式 x 的系数是 0

B．单项式 -3^2xy^2 的系数是 -3，次数是 5

C．多项式 x^2+2x 的次数是 2

D．单项式 -5 的次数是 1

4、已知x与3互为相反数，计算$x^2-|x+1|+x$的结果是（　　）

A．4　　B．−14　　C．−8　　D．8

5、用正方形按如图所示的规律拼图案，其中第①个图案中有 5 个正方形，第②个图案中有 9 个正方形，第③个图案中有 13 个正方形，第④个图案中有 17 个正方形，此规律排列下去，则第⑨个图案中正方形的个数为（　　）

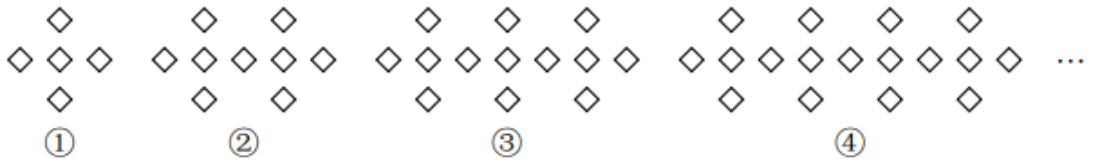

A．32　　B．34　　C．37　　D．41

6、下列各选项中，不是同类项的是（　　）

A．$3a^2b$ 和 $-5ba^2$　　B．$\frac{1}{2}x^2y$ 和 $\frac{1}{2}xy^2$

C．6 和 2^3　　D．$5x^n$ 和 $-\frac{3x^n}{4}$

7、已知 $a^2+2a=1$，则代数式 $2\left(a^2+2a\right)-1$ 的值为（　　）

A．0　　B．1　　C．−1　　D．−2

8、已知 a、b、c 在数轴上的位置如图，下列说法：①$abc>0$；②$c+a>0$；③$c-b<0$；④$\frac{c}{b}>0$．正确的有（　　）



A．1 个　　B．2 个　　C．3 个　　D．4 个

9、有一题目：点 P、Q、M 分别表示数-1、1、5，三点在数轴上同时开始运动，点 P 运动方向是向左，运动速度是 $2/s$；点 Q、M 的运动方向是向右，运动速度分别 $1/s$、$3/s$，如图，在运动过程中，甲、乙两位同学提出不同的看法，甲：$3PM-5PQ$ 的值不变；乙：$5QM-3PQ$ 的值不变；下列选项中，正确的是（　　）



A．甲、乙均正确　　B．甲正确、乙错误

C．甲错误、乙正确　　D．甲、乙均错误

10、多项式 a－（b－c）去括号的结果是（　　）

A．a－b－c　　B．a+b－c　　C．a+b+c　　D．a－b+c

第Ⅱ卷（非选择题　80 分）

二、填空题（10 小题，每小题 3 分，共计 30 分）

1、若 $7a^{x}b^{2}$ 与 $-a^{3}b^{y}$ 的和为单项式，则 $y^{x}=$_____.

2、已知 $x^2-3x+1=0$，则 $3x^2-9x+5=$_____.

3、某书店新进了一批图书，甲、乙两种书的进价分别为 4 元/本、5 元/本．现购进 m 本甲种书和 n 本乙种书，共付款 Q 元．

（1）用含 m，n 的代数式表示 $Q=$_____；

（2）若共购进 5×10^3 本甲种书及 3×10^3 本乙种书，$Q=$_____（用科学记数法表示）.

4、如图所示的图形是按一定规律排列的.



则第 n 个图形中 O 的个数为_____.

5、如图是一组有规律的图案，它们由边长相同的正方形和正八边形组成，其中正方形涂有阴影，依此规律，第 n 个图案中有_____个涂有阴影的正方形．(用含 n 的代数式表示)

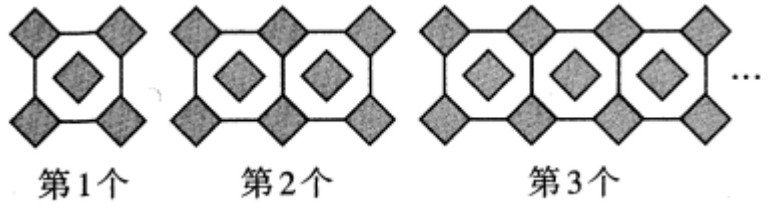

6、如果 a，b 互为倒数，c，d 互为相反数，且 $m=-1$，则代数式 $2ab-(c+d)+m=$_____.

7、若关于 x、y 的代数式 $mx^3-3nxy^2-(2x^3-xy^2)+xy$ 中不含三次项，则 m−6n 的值为_____.

8、已知 $a-3b=3$，则 $6b+2(4-a)$ 的值是_____.

9、有理数 a、b、c 在数轴上的位置如图：

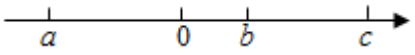

化简：$|a+c|-2|a-b|-c$.

10、已知单项式 $2a^4b^{-2m+7}$ 与 $3a^{2m}b^{n+2}$ 是同类项，则 $m+n=$_____.

三、解答题（5 小题，每小题 10 分，共计 50 分）

1、计算：

(1) $5-(-2)^2\times3+(-36)\div6$；

(2) $25\times\frac{3}{4}-(-25)\times\frac{1}{2}+25\times(-\frac{1}{4})$；

(3) $5a^2-7-3a-5+a-2a^2$；

(4) $-2y^3+(-x^2y+3xy^2)-2(xy^2-y^3)$.

2、【观察思考】如图，五边形 $ABCDE$ 内部有若干个点，用这些点以及五边形 $ABCDE$ 的顶点 $ABCDE$ 把原五边形分割成一些三角形（互相不重叠）.

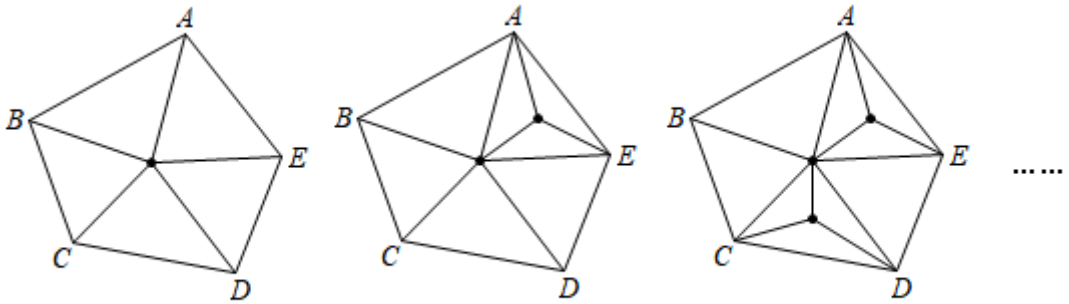

【规律总结】

(1)填写下表：

五边形 $ABCDE$ 内点的个数	1	2	3	4	…	n
分割成的三角形的个数	5	7	9		…	

(2)【问题解决】原五边形能否被分割成 2022 个三角形？若能，求此时五边形 $ABCDE$ 内部有多少个点；若不能，请说明理由.

3、如图，在一条道路的同侧有 A，B，C，D 四个小区，其中 A 与 B 相距 xm，B 与 C 相距 150m，C 与 D 相距 xm，某公司的员工住在 A 小区的有 20 人，B 小区的有 6 人，C 小区的有 15 人，D 小区的有 8 人.

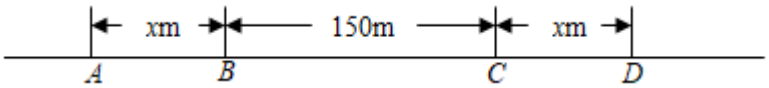

(1)该公司计划在 B，C 小区的位置任选一个作为班车停靠点，设所有员工步行到 B，C 小区的路程总和分别为 s_1，s_2，试求 s_1，s_2；（用含 x 的代数式表示）

(2)为了使所有员工步行到班车停靠点的路程总和最小，那么停靠点的位置应该选在 B 小区还是 C 小区？请说明理由.

4、用同样大小的两种不同颜色（白色．灰色）的正方形纸片，按如图方式拼成长方形.

[观察思考]

第（1）个图形中有 $2=1\times2$ 张正方形纸片；

第（2）个图形中有 $2\times(1+2)=6=2\times3$ 张正方形纸片；

第（3）个图形中有 $2\times(1+2+3)=12=3\times4$ 张正方形纸片；

第（4）个图形中有 $2\times(1+2+3+4)=20=4\times5$ 张正方形纸片；

……

以此类推

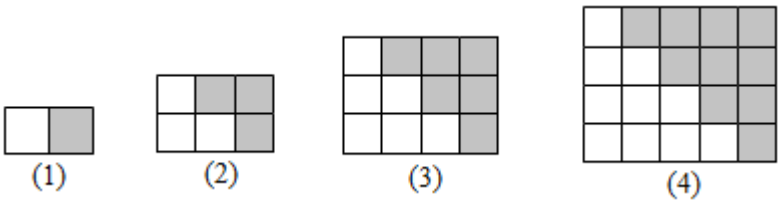

(1)[规律总结]第（5）个图形中有_____张正方形纸片（直接写出结果）.

(2)根据上面的发现我们可以猜想：$1+2+3+\cdots+n=$_____.（用含 n 的代数式表示）

(3)[问题解决]根据你的发现计算：$101+102+103+\cdots+200$.

5、如图：在数轴上点 A 表示数 a，点 B 表示数 b，点 C 表示数 c，数 a 是多项式 $-2x^2-3x+1$ 的一次项系数，数 b 是最大的负整数，数 c 是单项式 $-\frac{1}{2}x^2y$ 的次数.



(1) $a=$_____，$b=$_____，$c=$_____.

(2)点 A，B，C 开始在数轴上运动，若点 B 和点 C 分别以每秒 1 个单位长度和每秒 3 个单位长度的速度向右运动，点 A 以每秒 2 个单位长度的速度向左运动，t 秒过后，若点 A 与点 B 之间的距离表示为 AB，点 B 与点 C 之间的距离表示为 BC，则 $AB=$_____，$BC=$_____.（用含 t 的代数式表示）

(3)试问：$3BC-2AB$ 的值是否随着时间 t 的变化而改变？若变化，请说明理由；若不变，请求出这个值.

-参考答案-

一、单选题

1、A

【解析】

【分析】

代数式是由数和字母组成，表示加、减、乘、除、乘方、开方等运算的式子，或含有字母的数学表达式，注意不能含有=、＜、＞、≤、≥、≈、≠等符号.

【详解】

$1-2x=0, a>0$，含有“=”和“>”，所以不是代数式，

则是代数式的有$2x^2, ab, 0, \frac{1}{a}, \frac{\pi}{3}$其 5 个，

故选：A.

【考点】

考查了代数式的定义，掌握代数式的定义是本题的关键，注意含有=、＜、＞、≤、≥、≈、≠等符号的不是代数式.

2、C

【解析】

【分析】

根据齐次多项式的定义一个多项式的各项的次数都相同，得出关于 m 的方程 x+3+2=6，解方程即可求出 x 的值.

【详解】

由题意，得 x+3+2=6，

解得 x=1.

所以 C 选项是正确的.

【考点】

本题考查了学生的阅读能力与知识的迁移能力. 正确理解齐次多项式与单项式的次数的定义是解题的关键.

3、C

【解析】

【分析】

直接利用单项式和多项式的有关定义分析得出答案.

【详解】

解：A、单项式 x 的系数是 1，故此选项错误；

B、单项式 -3^2xy^2 的系数是 -9，次数是 3，故此选项错误；

C、多项式 x^2+2x 的次数是 2，正确；

D、单项式 -5 次数是 0，故此选项错误.

故选：C.

【考点】

此题考查单项式系数和次数定义，及多项式的次数定义，熟记定义是解题的关键.

4、A

【解析】

【分析】

根据相反数的性质求得 x 的值，代入求解即可.

【详解】

解：∵x 与 3 互为相反数，

∴$x=-3$，

∴$x^2-|x+1|+x$

$=(-3)^2-|-3+1|-3$

$=9-2-3$

$=4$.

故选：A.

【考点】

本题主要考查了绝对值、乘方和相反数的定义，熟练掌握相关定义是解题的关键.

5、C

【解析】

【分析】

第 1 个图中有 5 个正方形，第 2 个图中有 9 个正方形，第 3 个图中有 13 个正方形，……，由此可得：每增加 1 个图形，就会增加 4 个正方形，由此找到规律，列出第 n 个图形的算式，然后再解答即可.

【详解】

解：第 1 个图中有 5 个正方形；

第 2 个图中有 9 个正方形，可以写成：5+4=5+4×1；

第 3 个图中有 13 个正方形，可以写成：5+4+4=5+4×2；

第 4 个图中有 17 个正方形，可以写成：5+4+4+4=5+4×3；

...

第 n 个图中有正方形，可以写成：5+4（n-1）=4n+1；

当 n=9 时，代入 4n+1 得：4×9+1=37.

故选：C.

【考点】

本题主要考查了图形的变化规律以及数字规律，通过归纳与总结结合图形得出数字之间的规律是解决问题的关键.

6、B

【解析】

【分析】

根据同类项的概念求解即可. 同类项：如果两个单项式，他们所含的字母相同，并且相同字母的指数也分别相同，那么就称这两个单项式为同类项.

【详解】

解：A、$3a^2b$和$-5ba^2$是同类项，不符合题意；

B、$\frac{1}{2}x^2y$和$\frac{1}{2}xy^2$不是同类项，符合题意；

C、6和2^3是同类项，不符合题意；

D、$5x^n$和$-\frac{3x^n}{4}$是同类项，不符合题意 .

故选：B.

【考点】

此题考查了同类项的概念，解题的关键是熟练掌握同类项的概念．同类项：如果两个单项式，他们所含的字母相同，并且相同字母的指数也分别相同，那么就称这两个单项式为同类项.

7、B

【解析】

【分析】

把$a^2+2a=1$代入代数式$2\left(a^2+2a\right)-1$，求出算式的值为多少即可.

【详解】

解：$\because a^2+2a=1$，

$\therefore 2\left(a^2+2a\right)-1=2\times1-1=1$

故选 B.

【考点】

本题考查了代数式的求值：求代数式的值可以直接代入、计算．如果给出的代数式可以化简，要先化简再求值.

8、C

以上内容仅为本文档的试下载部分，为可阅读页数的一半内容。如要下载或阅读全文，请访问：https://d.book118.com/035333223233012022