四川峨眉第二中学数学七年级上册整式的加减专项训练

考试时间：90 分钟；命题人：教研组

考生注意：

1、本卷分第 I 卷（选择题）和第 II 卷（非选择题）两部分，满分 100 分，考试时间 90 分钟

2、答卷前，考生务必用 0.5 毫米黑色签字笔将自己的姓名、班级填写在试卷规定位置上

3、答案必须写在试卷各个题目指定区域内相应的位置，如需改动，先划掉原来的答案，然后再写上新的答案；不准使用涂改液、胶带纸、修正带，不按以上要求作答的答案无效。

第 I 卷（选择题　20 分）

一、单选题（10 小题，每小题 2 分，共计 20 分）

1、已知$5a^{x+1}b^3$与$\frac{7}{12}a^5b^{y+1}$的和是单项式，则$x+3y$等于（　　）

A．-10　　B．10　　C．12　　D．15

2、下列去括号错误的个数共有（　　）.

①$2y^2-(3x-y+3z)=2y^2-3x-y+3z$；　　②$9x^2-[y-(5z+4)]=9x^2-y+5z+4$；

③$4x+[-6y+(5z-1)]=4x-6y-5z+1$；　　④$-(9x+2y)+(z+4)=-9x-2y-z-4$.

A．0 个　　B．1 个　　C．2 个　　D．3 个

3、对于有理数a，b，定义$a\odot b=2a-b$，则[（$x+y$）$\odot$（$x-y$）]$\odot 3x$化简后得（　　）

A．$-x+y$　　B．$-x+2y$

C．$-x+6y$　　D．$-x+4y$

4、设 x，y，c 是实数，正确的是（　　）

A．若 $x=y$，则 $x+c=y-c$　　B．若 $x=y$，则 $xc=yc$

C．若 $x=y$，则$\frac{x}{c}=\frac{y}{c}$　　D．若$\frac{x}{2c}=\frac{y}{3c}$，则 $2x=3y$

5、下列说法不正确的是(　　)

A．$2a$ 是 2 个数 a 的和　　B．$2a$ 是 2 和数 a 的积

C．$2a$ 是单项式　　D．$2a$ 是偶数

6、$-2(1-x)=$（　　）

A．$-2+2x$　　B．$-2-2x$　　C．$-2+x$　　D．$-2-x$

7、下列运算结果正确的是（　　）

A．$2a+3b=5ab$　　B．$7x^2y-4xy^2=3x^2y$

C．$a-(3b-2)=a-3b-2$　　D．$-2(a+b)=-2a-2b$

8、下列关于多项式 $2a^2b+ab-1$ 的说法中，正确的是（　　）

A．次数是 5　　B．二次项系数是 0　　C．最高次项是 $2a^2b$　　D．常数项是 1

9、某商品打七折后价格为 a 元，则原价为（　　）

A．a 元　　B．$\frac{10}{7}$a 元　　C．30%a 元　　D．$\frac{7}{10}$a 元

10、已知 a、b、c 在数轴上的位置如图，下列说法：①$abc>0$；②$c+a>0$；③$c-b<0$；④$\frac{c}{b}>0$．正确的有（　　）



A．1 个　　B．2 个　　C．3 个　　D．4 个

第Ⅱ卷（非选择题　80 分）

二、填空题（10 小题，每小题 3 分，共计 30 分）

1、一组按规律排列的式子：$-\frac{b^2}{a},\frac{b^5}{a^2},-\frac{b^8}{a^3},\frac{b^{11}}{a^4},\cdots\ (ab\neq 0)$，其中第 7 个式子是_____，第 n 个式子是_____（n 为正整数）.

2、

某市出租车收费标准为：起步价为 8 元，3 千米后每千米的价格为 2.5 元，在计价器最终所显示数字的基础上再加 b 元燃油附加费，小赵乘坐出租车走了 x 千米 $(x>3)$，则小赵应该共付车费_____元（用含 x 和 b 的代数式表示）.

3、图形是用等长的木棒搭成的，请观察填表：



三角形个数	1	2	3	4	…	n
需木棒总数	3	5			…	

当三角形的个数是 n 时，需木棒的总数是_____.

4、已知整数 a_1，a_2，a_3，a_4，…满足下列条件：$a_1=0$，$a_2=-|a_1+1|$，$a_3=-|a_2+2|$，$a_4=-|a_3+3|$，…，依此类推，则 a_{2019} 的值为_____.

5、一个三位数的十位为 m，个位数比十位数的 3 倍多 2，百位数比个位数少 3，则这个三位数可表示为_____.

6、多项式 $-1+2x-5x^2+9x^4$ 是按照字母 x 的_____排列的，多项式 $9a^3b-5a^2b^2-\frac{1}{2}ab-4$ 是按照字母_____的_____排列的.

7、观察下列一系列数：

按照这种规律排下去，那么第 8 行从左边数第 14 个数是_____.

```
                -1
            2   -3   4
        -5  6   -7   8   -9
10  -11 12  -13  14  -15  16
•••
```

8、观察下面的一列单项式：$-2x,4x^2,-8x^3,16x^4,\cdots$，根据你发现的规律，第 n 个单项式为_____.

9、若x是不等于 1 的实数，我们把$\frac{1}{1-x}$称为x的差倒数，如 2 的差倒数是$\frac{1}{1-2}=-1$，-1 的差倒数为

$\frac{1}{1-(-1)}=\frac{1}{2}$，现已知$x_1=-\frac{1}{3}$，$x_2$是$x_1$的差倒数，$x_3$是$x_2$的差倒数，$x_4$是$x_3$的差倒数，…，依此类推，则$x_{2022}=$_____.

10、如图，点A，B在数轴上，点O为原点，$OA=OB$．在数轴上截取$BC=AB$，点A表示的数是m，则点C表示的数是_____（用含字母m的代数式表示）.

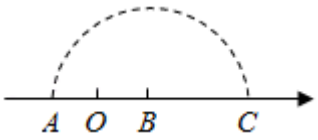

三、解答题（5小题，每小题10分，共计50分）

1、化简：

（1）$\left(4a^2b-2ab^2\right)-3\left(ab^2-2a^2b\right)$；

（2）$3x^2-\left[7x-(4x-3)-2x^2\right]$.

2、如图，已知线段$AB=m$（m为常数），点C为直线AB上一点（不与A、B重合），点P、Q分别在线段BC、AC上，且满足$CQ=2AQ$，$CP=2BP$.

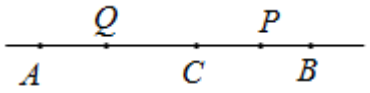

图1

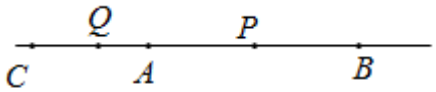

图2

（1）如图1，点C在线段AB上，求PQ的长；（用含m的代数式表示）

（2）如图2，若点C在点A左侧，同时点P在线段AB上（不与端点重合），求$2AP+CQ-2PQ$的值.

3、如图，一个点从数轴上的原点开始，先向左移动3cm到达A点，再向右移动4cm到达B点，然后再向右移动$\frac{7}{2}cm$到达C点，数轴上一个单位长度表示1cm.

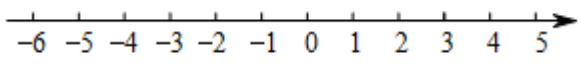

(1)请你在数轴上表示出 A，B，C三点的位置；

(2)把点 C 到点 A 的距离记为 CA，则 CA=_____cm.

(3)若点 A 沿数轴以每秒 3cm 匀速向右运动，经过多少秒后点 A 到点 C 的距离为 3cm?

(4)若点 A 以每秒 1cm 的速度匀速向左移动，同时点 B、点 C 分别以每秒 4cm、9cm 的速度匀速向右移动．设移动时间为 t 秒，试探索：$BA-CB$ 的值是否会随着 t 的变化而改变？若变化，请说明理由，若无变化，请直接写出 $BA-CB$ 的值．

4、观察下列等式的规律，解答下列问题：

$a_1=\frac{1}{3}\times\left(\frac{3}{1}-\frac{3}{2}\right)$；$a_2=\frac{1}{3}\times\left(\frac{3}{2}-\frac{3}{3}\right)$；$a_3=\frac{1}{3}\times\left(\frac{3}{3}-\frac{3}{4}\right)$；$a_4=\frac{1}{3}\times\left(\frac{3}{4}-\frac{3}{5}\right)$；……

(1)第 5 个等式为_____；第 n 个等式为_____(用含 n 的式子表示，n 为正整数)；

(2)求 $a_1+a_2+a_3+\cdots+a_{100}$ 的值．

5、若 $(x^2+px+q)(x^2-2x-3)$ 展开后不含 x^2、x^3 项，求 pq 的值．

-参考答案-

一、单选题

1、B

【解析】

【分析】

由同类项的含义可得：$x+1=5, y+1=3$，再求解 x, y，再代入代数式求值即可得到答案.

【详解】

解：因为 $5a^{x+1}b^3$ 与 $\frac{7}{12}a^5b^{y+1}$ 的和是单项式，所以它们是同类项，

所以 $x+1=5, y+1=3$，

解得 $x=4, y=2$．

所以$x+3y=4+3\times2=10$.

故选：B.

【考点】

本题考查的是同类项的含义，一元一次方程组的解法，代数式的值，掌握同类项的概念是解题的关键.

2、D

【解析】

【分析】

根据整式加减的计算法则进行逐一求解判断即可.

【详解】

解：① $2y^2-(3x-y+3z)=2y^2-3x+y-3z$，故此项错误；

②$9x^2-[y-(5z+4)]=9x^2-y+5z+4$，故此项正确；

③$4x+[-6y+(5z-1)]=4x-6y+5z-1$，故此项错误；

④$-(9x+2y)+(z+4)=-9x-2y+z+4$，故此项错误；

故选 D.

【考点】

本题主要考查了整式的加减运算，解题的关键在于能够熟练掌握相关知识进行求解.

3、C

【解析】

【分析】

根据新定义的计算规则先计算括号内，按法则转化为整式加减计算，去括号合并，再根据新定义转化为整式的加减计算去括号，最后合并同类项即可.

【详解】

解：∵$a \odot b = 2a - b$，，

∴[（x+y）⊙（x−y）]⊙3x

=[2（x+y）−（x−y）]⊙3x

=（2x+2y−x+y）⊙3x

=（x+3y）⊙3x

=2（x+3y）−3x

=2x+6y−3x

=−x+6y.

故选 C.

【考点】

本题考查新定义运算法则，掌握新定义运算法则实质，化为整式加减的常规计算，去括号，合并同类项是解题关键.

4、B

【解析】

【分析】

根据等式的性质逐项分析即可.

【详解】

解：A、若$x = y$，则$x + c = y + c$，故该选项不正确，不符合题意；

B、若$x = y$，则$xc = yc$，故该选项正确，符合题意；

C、若$x = y$，且$c \neq 0$，则$\frac{x}{c} = \frac{y}{c}$，故该选项不正确，不符合题意；

D、若$\frac{x}{2c} = \frac{y}{3c}$，则$3x = 2y$，故该选项不正确，不符合题意；

故选：B.

【考点】

本题考查了等式的性质，熟练掌握等式的性质是解题的关键．等式的性质 1：等式两边加(或减)同一个数(或式子)，结果仍相等；等式的性质 2：等式两边乘同一个数，或除以同一个不为 0 的数(或式子)，结果仍相等.

5、D

【解析】

【分析】

根据 2a 的意义，分别判断各项即可.

【详解】

解：A、 $2a$ =a+a，是 2 个数 a 的和，故选项正确；

B、 $2a$ =2×a，是 2 和数 a 的积，故选项正确；

C、 $2a$ 是单项式，故选项正确；

D、当 a 为无理数时， $2a$ 是无理数，不是偶数，故选项错误；

故选 D.

【考点】

本题考查了代数式的意义，注意 a 不一定为整数是解题的关键.

6、A

【解析】

【分析】

根据去括号法则解答.

【详解】

解： $-2(1-x)$ = - 2+2x.

故选：*A*.

【考点】

本题考查去括号的方法：去括号时，运用乘法的分配律，先把括号前的数字与括号里各项相乘，再运用括号前是“+”，去括号后，括号里的各项都不改变符号；括号前是“-”，去括号后，括号里的各项都改变符号.

7、D

【解析】

【分析】

根据合并同类项运算法则、去括号法则依次计算，从而作出判断.

【详解】

解：A. $2a$ 和 $3b$ 不是同类项不能合并，故此选项错误；

B. $7x^2y$ 和 $4xy^2$ 不是同类项不能合并，故此选项错误；

C. $a-(3b-2)=a-3b+2$，故此选项错误；

D. $-2(a+b)=-2a-2b$，故此选项正确；

故选 D.

【考点】

本题考查整式的加减运算，掌握合并同类项（系数相加，字母及其指数不变）的运算法则、去括号法则是解题关键.

8、C

【解析】

【分析】

根据多项式的概念逐项分析即可.

【详解】

A. 多项式 $2a^2b+ab-1$ 的 次数是 3，故不正确；

B. 多项式 $2a^2b+ab-1$ 的二次项系数是 1，故不正确；

C. 多项式 $2a^2b+ab-1$ 的最高次项是 $2a^2b$ ，故正确；

D. 多项式 $2a^2b+ab-1$ 的常数项是-1，故不正确；

故选：C.

【考点】

本题考查了多项式的概念，几个单项式的和叫做多项式，多项式中的每个单项式都叫做多项式的项，其中不含字母的项叫做常数项，多项式的每一项都包括前面的符号，多项式中次数最高的项的次数叫做多项式的次数.

9、B

【解析】

【分析】

直接利用打折的意义表示出价格即可得出答案.

【详解】

设该商品原价为 x 元，

∵某商品打七折后价格为 a 元，

∴原价为：0.7x=a，

则 $x=\frac{10}{7}a$（元），

故选 B.

【考点】

本题考查了一元一次方程的应用，弄清题意，找准等量关系列出方程是解题的关键.

10、C

【解析】

【分析】

以上内容仅为本文档的试下载部分，为可阅读页数的一半内容。如要下载或阅读全文，请访问：https://d.book118.com/066044215151011020