广东广州市广大附中物理八年级下册期末考试达标测试

考试时间：90 分钟；命题人：教研组

考生注意：

1、本卷分第 I 卷（选择题）和第 II 卷（非选择题）两部分，满分 100 分，考试时间 90 分钟

2、答卷前，考生务必用 0.5 毫米黑色签字笔将自己的姓名、班级填写在试卷规定位置上

3、答案必须写在试卷各个题目指定区域内相应的位置，如需改动，先划掉原来的答案，然后再写上新的答案；不准使用涂改液、胶带纸、修正带，不按以上要求作答的答案无效。

第 I 卷（选择题　20 分）

一、单选题（10 小题，每小题 2 分，共计 20 分）

1、下列关于简单机械说法正确的是（　　）

A．功率越大的机械做功越快

B．定滑轮不仅能改变力的大小而且能改变力的方向

C．使用滑轮组不仅省力而且省功

D．做功越多的机械其机械效率越高

2、如图所示，把小桌甲倒放在海绵上，其上放一个物体乙，它们静止时，物体乙的下表面和小桌甲的桌面均水平。已知小桌甲重 G_1，桌面面积为 S_1;物体乙重 G_2，下表面的面积为 S_2，下列说法正确的是（　　）

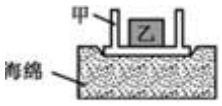

A．甲对海绵的压力就是甲受到的重力

B．乙对甲的压力就是乙受到的重力

C．甲对海绵的压强大小为$(G_1+G_2)/S_1$

D．乙对甲的压强大小为$(G_1+G_2)/S_2$

3、如图所示，将实心铁块（$\rho_{铁}>\rho_{水}$）挂在弹簧测力计下，当铁块下表面与水面相平时，铁块开始缓慢下降。若容器中水足够深，在铁块接触容器底前，能正确反映弹簧测力计示数 F 和铁块下表面到水面距离 h 关系的图像是（　　）

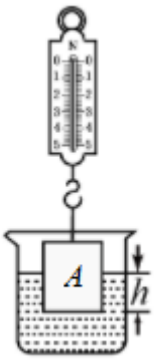

A.
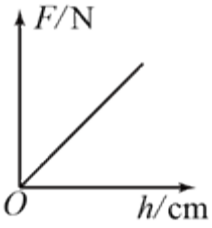

B.
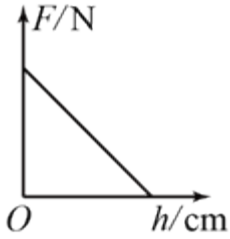

C.
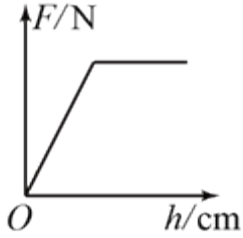

D.
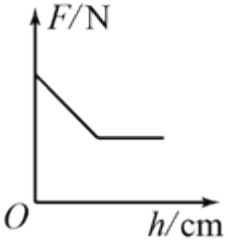

4、如图为教材中的插图，下列说法错误的是（　　）

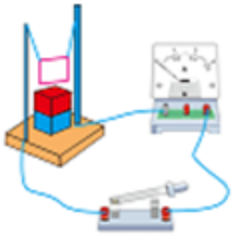
甲


乙

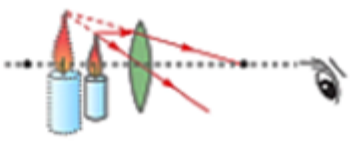
丙


丁

A．甲图是线圈在磁场中运动，说明利用磁场可以产生电流

B．乙图是墨水被吸进钢笔，说明大气存在压强

C．丙图是用放大镜看蜡烛，说明凸透镜可以成正立、放大的实像

D．丁图是盖房子时用的重垂线，说明重力的方向总是竖直向下的

5、如图所示，两容器中分别装有相同高度的水和盐水（$\rho_{水}<\rho_{盐水}$），A、B、C 三点液体的压强分别为 p_A、p_B、p_C，它们的大小关系是（　　）

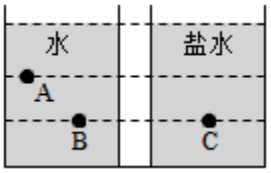

A．$p_A<p_B<p_C$　　B．$p_A>p_B>p_C$　　C．$p_A<p_B=p_C$　　D．$p_A=p_B=p_C$

6、下面关于各种事例的描述，其中正确的是（　　）

A．把药液注射进肌肉里，利用了大气压强

B．民航客机能够腾空而起，利用了流体压强与流速的关系

C．航母上的舰载机起飞后，漂浮的航母受到的浮力不变

D．深海鱼到浅海后由于外界液体压强的增大，所以不能存活

7、同学们在进行估测大气压实验时，读出注射器的最大刻度为 V，用刻度尺量出其全部刻度的长度为 L 接着先后按照图甲、图乙所示的情形(甲图没有盖上橡皮帽、乙图在排尽空气后盖上了橡皮帽)，沿水平方向慢慢地拉注射器，刚好拉动活塞时，弹簧测力计示数分别是 F_1 和 F_2. 下列计算式正确且最接近真实值的是（　　）

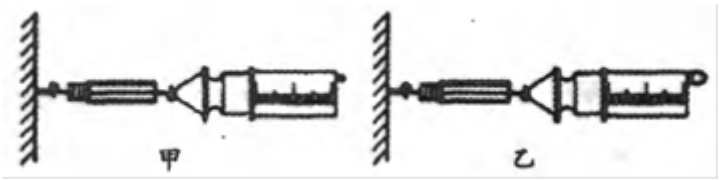

A．F_1L/V　　B．F_2L/V

C．$(F_2-F_1)L/V$　　D．$(F_2+F_1)L/V$

8、用如图所示的滑轮组拉着物体 A 在水平桌面上做匀速直线运动。如果拉力 F=12N，忽略滑轮重、绳重和滑轮摩擦，下列说法中正确的是（　　）

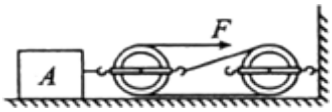

A．物体 A 对动滑轮的拉力为 12N　　B．物体 A 受到的拉力为 4N

C．物体 A 受到的摩擦力为 24N　　D．竖直墙受到的拉力为 24N

9、如图所示，不计质量的硬杆处于水平静止状态，以下说法正确的是（　　）

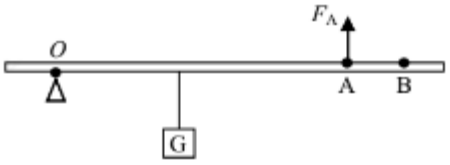

A．硬杆始终保持水平静止状态，改变 F_A 的方向，F_A 有可能等于 G

B．硬杆始终保持水平静止状态，改变 F_A 的方向，F_A 的大小有可能不变

C．撤去 F_A 硬杆会因为受到物体的重力 G 而绕 O 点顺时针转动起来

D．撤去 F_A 同时在 B 点施加一个大小与 F_A 相同的力，硬杆不可能保持水平静止

10、如图所示，某人将物体沿水平方向匀速拉动了 5m，所用时间为 10s。物体和地面之间的摩擦力为 320N。滑轮组的机械效率为 80%，不计绳重和滑轮组的摩擦，下列说法中正确的是（　　）

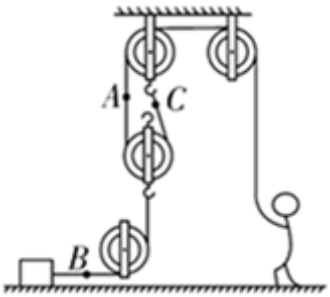

A．A，B，C 处绳子受力的大小关系是 $F_B > F_C > F_A$

B．绳子 A 处向上的速度为 0.5m/s

C．动滑轮重为 80N

D．拉力 F 做功的功率为 160W

第Ⅱ卷（非选择题　80 分）

二、填空题（10 小题，每小题 3 分，共计 30 分）

1、如图所示，一艘轮船在甲海洋中航行，水面在轮船上的 A 位置。当该轮船驶入乙海洋中时，水面在轮船上的 B 位置。设轮船的总质量不变，轮船在甲、乙两海洋中所受浮力分别为 F_1 和 F_2，甲、乙两海洋的海水密度分别为 ρ_1 和 ρ_2。则 F_1_____F_2，ρ_1_____ρ_2。（都选填“＞”、“＜”或“＝”）



2、如图是学校的防疫消毒壶，壶和消毒液总重为 18N，壶底与水平桌面的接触面积为 10cm²，则壶对桌面的压强为_____Pa。值日生按要求喷洒部分消毒液后，将消毒壶放回原处，此时消毒波对壶底的压强将_____（选填“变大”、“不变”或“变小”），这是因为液体压强与液体的_____有关。



3、如图甲所示，两个完全相同的木块 A 和 B 叠放在水平桌面上，每个木块的质量 5 kg，在 16 N 的水平拉力 F_1 作用下，A、B 一起向右做匀速直线运动，此时 A 对 B 的支持力大小为_____N。如图乙所示，若将 A、B 木块紧靠着放在水平桌面上，用水平力 F_2 推 A 使它们一起也向右做匀速直线运动，则 F_2 是_____N。

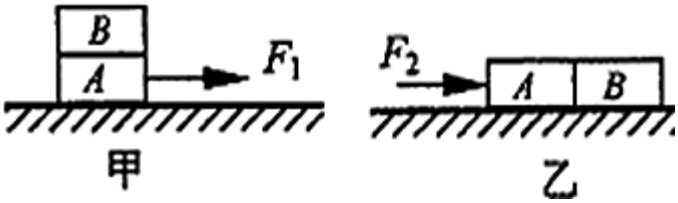

4、

某个实验小组的同学设计了一个测量滑动摩擦的实验。如图所示，把弹簧测力计的一端固定在墙上，另一端与一物块 P 相连，用力 F 水平向左拉物块下面的金属板，金属板向左运动，此时测力计的示数稳定（图中已把弹簧测力计的示数放大画出），若用弹簧测力计测得物块 P 重 13N，则物块 P 受到金属板的滑动摩擦力的大小是_____N；摩擦力方向_____。

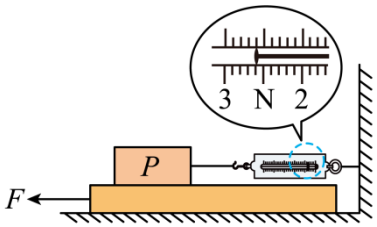

5、如图所示，轻质杠杆 OA 中点悬挂重为 60N 的物体，在 A 端施加一竖直向上的力 F，杠杆在水平位置平衡，则力 F 的大小是_____，保持 F 的方向不变，将杠杆从 A 位置匀速提升到 B 位置的过程中，力 F 将_____（选填“变大”、“变小”、或“不变”）。 这种杠杆相当于_____滑轮。

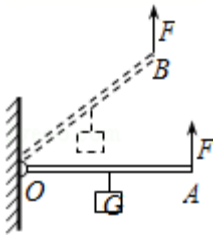

6、月球对它表面附近的物体也有引力，这个力大约是地球对地面附近同一物体引力的 1/6。一个连同随身装备共 90 kg 的宇航员，在月球上质量为_____kg，重为_____N。(g 取 10 N/kg)

7、用天平测量某实心物块的质量，天平右盘中的砝码及游码的示数如图甲。把该物块放入盛有液体的烧杯中，物块恰好处于悬浮状态，如图乙所示。已知液体密度为 $\rho_{液}=1.2\mathrm{g/cm^3}$ ，则物块受到的浮力为_____N 。

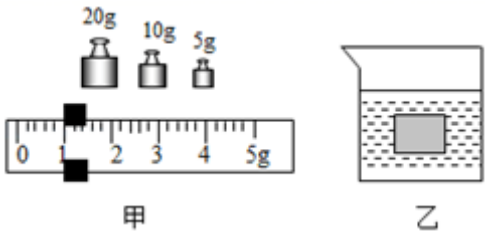

8、如图甲，放在水平地面上的物体，受到方向不变的水平推力 F 的作用，F 的大小与时间 t 的关系和物体运动速度 v 与时间 t 的关系如图乙。由图像可知当 t＝1s 时，物体受到的摩擦力为_____N；t＝3s 时，物体做_____运动，受到的摩擦力为_____N；当 t＝5s 时，物体做_____运动。

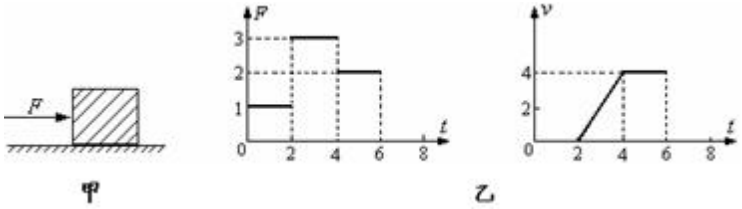

9、如图所示，玻璃瓶中装入适量带色的水，从玻璃管吹入少量空气，使管中水面高于瓶口。将此装置由一楼拿到十楼，发现玻璃管中的液柱_____，说明大气压随高度的增加而_____；随着大气压的减小，水的沸点_____。



10、小黄用图所示的滑轮组经过 10s 的时间，用 150N 的拉力将一个重 270N 的重物提高 1m，求此过程：拉力 F 自由端拉出的距离是_____m；小黄所做的有用功是_____J；总功是_____J；拉力做功的功率是_____W。



三、计算题（3 小题，每小题 10 分，共计 30 分）

1、用如图所示的滑轮组将货物匀速向上提升 3m，人的拉力 F 为 200N ，这个过程中滑轮组提升货物的机械效率为 80% ，求：

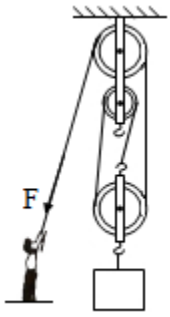

（1）绳子自由端移动的距离 s；

（2）人的拉力 F 做的功；

（3）货物的重力。

2、如图所示，盛有水的杯子静止在水平桌面上。杯子重 1 N，高 9 cm，底面积 30 cm^2；杯内水重 2 N，水深 6 cm，水的密度为 $1.0\times10^3kg/m^3$，（g=10 N/kg），求：

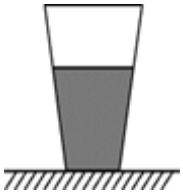

（1）水对杯底的压强是多少？

（2）水对杯底的压力是多少？

（3）杯子对桌面的压强是多少？

3、如图所示,平底茶壶的质量是 400g,底面积是 $40cm^2$,内盛 0.6kg 的开水,放置在面积为 $1m^2$ 的水平桌面中央.求:



（1）水对茶壶底部的压力;

（2）茶壶对桌面的压强.

四、实验探究（2 小题，每小题 10 分，共计 20 分）

1、如图甲为小明同学“探究牛顿第一定律”的实验装置。实验中小明先后三次将同一小车放在同一斜面上的同一高度，然后分别用不同的力推了一下小车，使其沿斜面向下运动，逐渐减小水平面的粗糙程度，观察小车运动的距离，从而得出力和运动的关系。

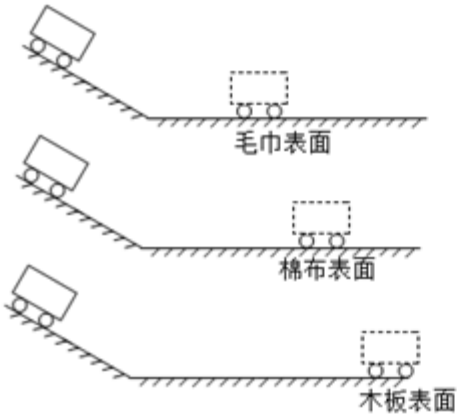

甲

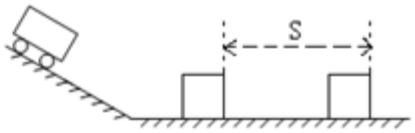

乙

（1）小明在实验操作中有一处明显的错误是（不要求解释错误的原因）：_____；

（2）实验中每次均让小车从斜面顶端由静止滑下的目的是：使小车每次在水平面上开始滑行时速度大小_____（选填“相等”或“不相等”）；

（3）实验中发现：小车在毛巾表面上滑行的距离最短，在木板上滑行的距离最远，说明小车受到的阻力越小，速度减小得越_____（选填“快”或“慢”）；

（4）推理：本实验中，如果小车在水平面上滑行时受到的阻力为零，它将_____；

（5）在此基础上，牛顿总结了伽利略等人的研究成果概括出牛顿第一定律，请问：牛顿第一定律_（选填“能”或“不能”）直接由实验得出；

（6）实验中，若小车在棉布、木板表面克服阻力做功的功率分别是 P_1、P_2，则 P_1_____P_2（选填“>”“=”或“<”）；

（7）如图乙所示，让小车分别从斜面不同高度处由静止滑下撞击木块，观察到木块被推动的距离不同，得出物体的动能与_____有关。

2、在“探究杠杆平衡条件的实验”中：

以上内容仅为本文档的试下载部分，为可阅读页数的一半内容。如要下载或阅读全文，请访问：https://d.book118.com/076210053153011020