河南周口淮阳第一高级中学物理八年级下册期末考试定向训练

考试时间：90 分钟；命题人：教研组

考生注意：

1、本卷分第 I 卷（选择题）和第 II 卷（非选择题）两部分，满分 100 分，考试时间 90 分钟

2、答卷前，考生务必用 0.5 毫米黑色签字笔将自己的姓名、班级填写在试卷规定位置上

3、答案必须写在试卷各个题目指定区域内相应的位置，如需改动，先划掉原来的答案，然后再写上新的答案；不准使用涂改液、胶带纸、修正带，不按以上要求作答的答案无效。

第 I 卷（选择题　20 分）

一、单选题（10 小题，每小题 2 分，共计 20 分）

1、如图所示，水平桌面上放有底面积相同的甲、乙两平底容器，分别装有深度相同、质量相等的不同液体，液体对容器底的压力分别为 $F_{甲}$ 、 $F_{乙}$ ，液体对容器底部的压强分别为 $p_{甲}$ 、 $p_{乙}$ ，下列说法正确的是（　　）

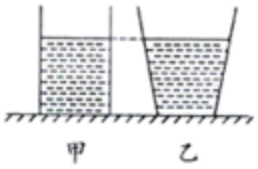

A．$F_{甲}=F_{乙}$　　B．$F_{甲}<F_{乙}$　　C．$p_{甲}>p_{乙}$　　D．$p_{甲}<p_{乙}$

2、测量油的密度的简单方法是：在玻璃水槽里注入 30 厘米深的清水，拿一支 25 厘米长的两端开口的玻璃管竖直地插入水中，再沿管内壁缓缓地注入植物油，直到玻璃管内植物油液柱的下底面刚好下降到管口为止，这时用刻度尺测出的深度如图所示，则植物油的密度为 （　　）

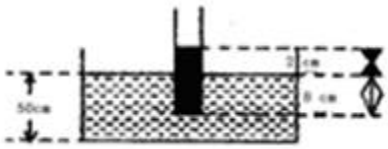

A．0.25×10^{3} 千克/米 ^{3}　　B．0.33×10^{3}千克 / 米 ^{3}

C．0.8×10^3千克/米 ^{3}　　D．0.5×10^3千克 / 米 ^{3}

3、如图所示，当从管的一端吹气时，A 管中的液面会下降，B 管中的液面会上升。下列现象产生的原理与此实验原理相同的是（　　）

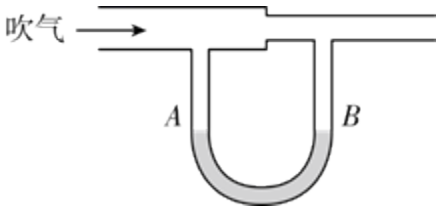

A．热气球升空

B．风沿窗外的墙面吹过，窗口悬挂的窗帘飘向窗外

C．用吸管喝酸奶

D．用抽水机把井中的水抽上来

4、如图甲所示，一底面积为 100cm^2、密度为 ρ_A 的实心圆柱体 A，用细线拴在一个空容器的底部，然后向容器中加入某种液体（$\rho_{液}>\rho_A$）直到圆柱体上表面与液面相平（整个过程圆柱体始终处于竖直状态），乙图是圆柱体下表面受到液体的压强与容器中液体深度的变化关系图像，g=10N/kg．则下列判断正确的是（　　）

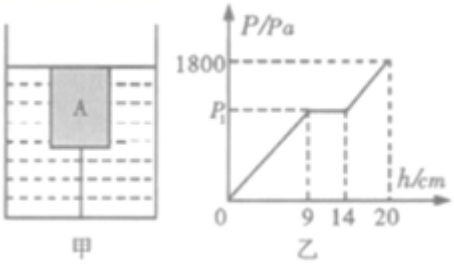

A．乙图中的 p_1=810Pa

B．液体对圆柱体的最大浮力为 10.8N

C．圆柱体 A 的密度为 0.72×10^3kg/m^3

D．细线对圆柱体的最大拉力为 18N

5、如图所示，手用力 F=10N 把重量为 5N 的一木块压在竖直墙面上静止，以下分析（　　）

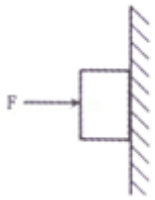

①手对木块的压力和木块对手的弹力是一对平衡力

②手对木块的压力和墙对木块的弹力是一对平衡力

③墙面对木块的摩擦力是 5N

④增大压力 F，木块受到的摩擦力随之增加

A．只有①正确　　B．只有④正确

C．只有②③正确　　D．只有③④正确

6、如图所示，F 点发出的两条光线经凸透镜后的折射光线平行于主光轴，P 为 2 倍焦距处，则下列说法正确的是（　　）

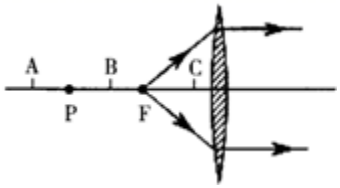

A．物体放在 A 点时，所成的像跟照相机的成像性质相同

B．物体放在 B 点时，无法用眼睛直接观察到像

C．物体放在 C 点时，所成的像跟投影仪的成像性质相同

D．物体放在 C 点时，经凸透镜成正立、放大的实像

7、小明用两个相同的滑轮组成不同的滑轮组，如图，在相同时间内分别将同一物体匀速提高到相同高度，滑轮组的机械效率分别为η_1、η_2，拉力 F 的功率P_1、P_2，忽略绳重及摩擦，下列关系正确的是（　　）

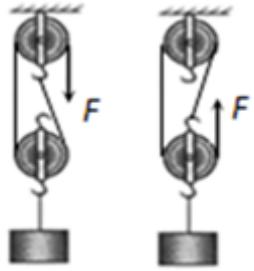

A．P_1∶P_2=2∶3　　η_1∶η_2=3∶2

B．P_1∶P_2=1∶1　　η_1∶η_2=1∶1

C．P_1∶P_2=3∶2　　η_1∶η_2=1∶1

D．P_1∶P_2=2∶3　　η_1∶η_2=1∶1

8、如图甲所示，放在水平地面上的物体，受到方向不变的水平推力 F 的作用，F 与时间 t 的关系和物体运动速度 v 与时间 t 的关系如图乙所示。下列判断正确的是（　　）

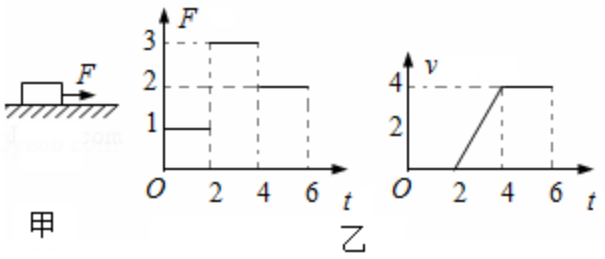

A．t＝3s 时，物体受到平衡力的作用

B．t＝6s 时，将 F 撤掉，物体立刻静止

C．2s～4s 内物体所受摩擦力为 3N

D．t＝1s 时，物体所受摩擦力是 1N

9、潜水员潜水时呼出的气泡在水面下上升的过程中，有关气泡所受压强和浮力的变化情况说法正确的是（　　）

A．压强变大，浮力变大　　B．压强变大，浮力变小

C．压强变小，浮力变大　　D．压强变小，浮力不变

10、如图所示，物体 A、B 的重分别为30N 、 20N，每个滑轮重10N，绳重及摩擦均忽略不计。此时

物体 A 沿水平桌面向右做匀速直线运动。下列说法正确的是（　　）

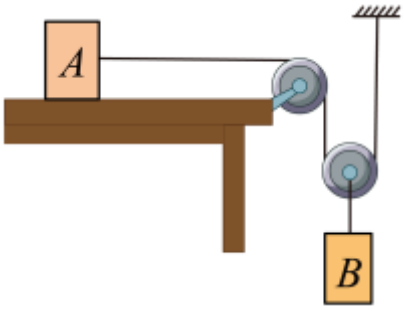

A．两个滑轮均为定滑轮　　B．A 受到水平向右的摩擦力

C．A 受的摩擦力大小为15N　　D．A 移动的速度是 B 的0.5倍

第Ⅱ卷（非选择题　80 分）

二、填空题（10 小题，每小题 3 分，共计 30 分）

1、质量 1.2Kg 小物块所受的重力是_____N，在水平面上以 2m/s 的速度匀速前进时，受到的滑动摩擦力大小为 5N。当它在同一水平面上以 4m/s 的速度前进时，受到的滑动摩擦力大小为_____N；如果小物块在运动过程中受到的所有力突然消失，它将_____。

2、如图所示，拨动左边的弹性片，它能将右边的塑料片弹走，塑料片上的小钢球_____（填“会”或“不会”）随塑料片一起飞走，这是由于小钢球具有_____的缘故。

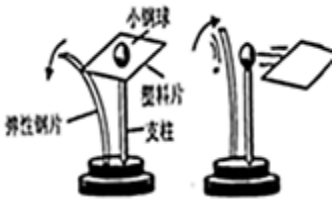

3、如图所示，一艘轮船在甲海洋中航行，水面在轮船上的 A 位置。当该轮船驶入乙海洋中时，水面在轮船上的 B 位置。设轮船的总质量不变，轮船在甲、乙两海洋中所受浮力分别为 F_1 和 F_2，甲、乙两海洋的海水密度分别为 ρ_1 和 ρ_2。则 F_1_____F_2，ρ_1_____ρ_2。（都选填“＞”、“＜”或“＝”）



4、如图所示，缓慢改变_____,通过观察细线 OA 的方向来判断重力方向。

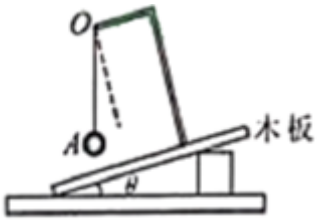

5、某个实验小组的同学设计了一个测量滑动摩擦的实验。如图所示，把弹簧测力计的一端固定在墙上，另一端与一物块 P 相连，用力 F 水平向左拉物块下面的金属板，金属板向左运动，此时测力计的示数稳定（图中已把弹簧测力计的示数放大画出），若用弹簧测力计测得物块 P 重 13N，则物块 P 受到金属板的滑动摩擦力的大小是_____N；摩擦力方向_____。

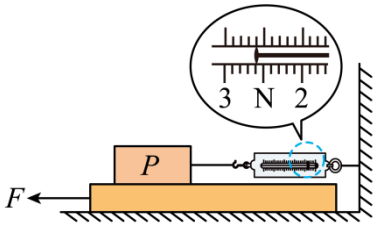

6、如图所示，在“探究压力的作用效果与哪些因素有关”的实验中，当把小桌甲倒放在海绵上，其上放一个物块乙，在它们静止时，物块乙的下表面和小桌甲的桌面均水平。已知小桌甲重 G_1，桌面面积为 S_1；物块乙重 G_2，下表面的面积为 S_2，则小桌对海绵的压强_____（用已知字母表示）。

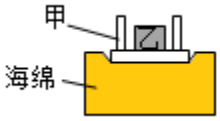

7、滑雪运动员在高速下滑时，常采用“下蹲”的姿势，这是为了_____；假如教室里悬挂电灯的绳子突然断了，且同时受到的所有的力全部消失，电灯将_____。

8、小明用 10N 水平向右的力拉着重为 20N 的木块，在水平长木板上沿直线匀速移动 0.5m，则木块受到的摩擦力大小为_____N，木块所受的重力做功_____J，若小明将推力增大到 30N 时，木块受到的摩擦力大小将_____。（填“变大”“不变”、或“变小”）

9、小明在“探究杠杆平衡条件”的实验中：

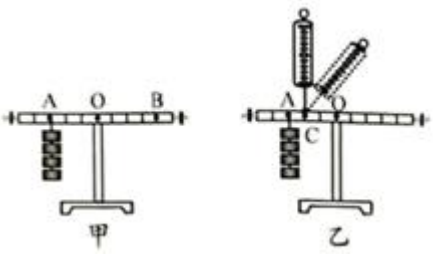

（1）实验前调节平衡螺母使杠杆在水平位置平衡，目的之一是方便测量_____；

（2）如图甲所示。在杠杆左边 A 处挂 4 个钩码，要使杠杆在水平位置平衡，应在杠杆右边 B 处挂_____个钩码（实验中所用的钩码均相同）

（3）小明又用弹簧测力计，在 C 处竖直向上拉。如图乙所示，当弹簧测力计逐渐向右倾时，使杠杆仍然在水平位置平衡。则弹簧测力计的示数将逐渐_____（选填“变大”、“变小”或 “不变”）。

10、某小组同学在“探究凸透镜成像的规律”实验中，为了研究物距变化时，像距变化的情况，他们在光具座上固定焦距为 10 厘米的凸透镜，按表中的物距 u 依次进行实验，每次都使光屏上烛焰的像最清晰，并将相应的像距 v 记录在表一中。为了进一步探究像距 v 变化与物距 u 变化之间的关系，他们分别对实验序号前四次和后四次实验进行适量的运算，并将结果分别记录在表二中。

表一：f=10 厘米

实验序号	u（厘米）	v（厘米）
1	12.0	60.0
2	14.0	35.0
3	16.0	26.7
4	18.0	22.5
5	22.0	18.3

6	24.0	17.2
7	26.0	16.3
8	28.0	15.6

表二：f=10 厘米

序号	u_2-u_1 （厘米）	v_2-v_1 （厘米）
1	2.0	25.0
2	2.0	8.3
3	2.0	4.2
4	2.0	1.1
5	2.0	0.9
6	2.0	0.7

①分析比较表一中实验序号 1 与 2 与 3 与 4 数据中的物距 u、像距 v 与焦距 f、二倍焦距 2f 大小关系及相关条件,可得出的初步结论是:同一凸透镜，当物距大于一倍焦距小于二倍焦距时，_____。

②分析比较表一中实验序号_____数据中的物距 u、像距 v 与焦距 f、二倍焦距 2f 大小关系及相关条件，可得出的初步结论是:同一凸透镜，当物距大于二倍焦距时，像距大于一倍焦距小于二倍焦距。

③请进一步综合分析比较表一和经运算后得到表二中的数据，物距 u 变化时,像距 v 的变化情况及相关条件，并归纳得出结论。

（a）分析比较表二中序号 1 与 2 与 3,可以初步得出:同一凸透镜，当物距大于一倍焦距小于二倍焦距时，_____。

（b）分析比较表二中序号 4 与 5 与 6,可以初步得出:同一凸透镜，当物距大于二倍焦距时，_____。

三、计算题（3 小题，每小题 10 分，共计 30 分）

1、月球对物体的引力只有地球上物体所受重力的 $\frac{1}{6}$ ，在地球上用弹簧测力计称得物重是 15N，问这一物体在月球上称重，物重是多少？质量是多少？（g=10N/kg）

2、如图所示，滑轮组在竖直向上的拉力 F=50N 作用下，将重为 120N 的物体匀速提起，在 10s 内绳子自由端移动的距离为 s=3m，不计绳重和摩擦阻力。求：

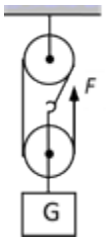

（1）物体上升的速度；

（2）动滑轮的重；

（3）滑轮组的机械效率。

3、如图所示，一只盛有水的薄壁玻璃杯静止在水平桌面上。杯子重 1N，底面积为 30cm^2，杯内水重 2N，水深 6cm，水的密度为 1.0×10^{3}kg/m^3，g=10N/kg。求：

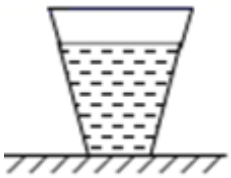

（1）水杯对桌面的压强；

（2）水对杯底的压力。

四、实验探究（2 小题，每小题 10 分，共计 20 分）

1、在探究“凸透镜成像规律”的实验中.

（1）老师让同学将凸透镜正对着天花板上亮着的日光灯并上下移动，直到平放在水平桌面上的白纸上得到清晰的日光灯的像，此时用刻度尺测出像到凸透镜的距离为 10.0cm，则该凸透镜的焦距近似为_____cm.

以上内容仅为本文档的试下载部分，为可阅读页数的一半内容。如要下载或阅读全文，请访问：https://d.book118.com/086145025153011020