四川内江市第六中学数学七年级上册整式的加减定向测试

考试时间：90 分钟；命题人：教研组

考生注意：

1、本卷分第 I 卷（选择题）和第 II 卷（非选择题）两部分，满分 100 分，考试时间 90 分钟

2、答卷前，考生务必用 0.5 毫米黑色签字笔将自己的姓名、班级填写在试卷规定位置上

3、答案必须写在试卷各个题目指定区域内相应的位置，如需改动，先划掉原来的答案，然后再写上新的答案；不准使用涂改液、胶带纸、修正带，不按以上要求作答的答案无效。

第 I 卷（选择题　20 分）

一、单选题（10 小题，每小题 2 分，共计 20 分）

1、如果一个多项式的各项的次数都相同，那么这个多项式叫做齐次多项式．如 $x^3+3xy^2+4xyz+2y^3$ 是 3 次齐次多项式，若 $a^{x+3}b^2-6ab^3c^2$ 是齐次多项式，则 x 的值为（　　）

A．-1　　B．0　　C．1　　D．2

2、下列说法错误的是(　　)

A．单项式 a^2h 的系数是 1　　B．多项式 a-2.5 的次数是 1

C．m+2 和 3 都是整式　　D．3^2xy^3 是六次单项式

3、按如图所示的运算程序，能使输出的结果为12的是（　　）

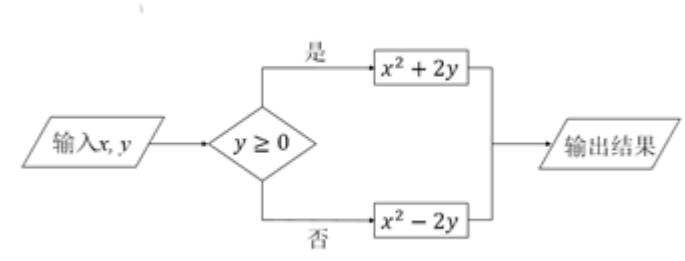

A．$x=3, y=3$

B．$x=-4, y=-2$

C．$x=2,y=4$

D．$x=4,y=2$

4、下列变形正确的是（ ）

A．$-(a+2)=a-2$

B．$-\frac{1}{2}(2a-1)=-2a+1$

C．$-a+1=-(a-1)$

D．$1-a=-(a+1)$

5、观察下列等式：$7^1=7$，$7^2=49$，$7^3=343$，$7^4=2401$，$7^5=16807$，$7^6=117649$…，根据其中的规律可得 $7^1+7^2+\cdots+7^{2020}$ 的结果的个位数字是（ ）

A．0　　B．1　　C．7　　D．8

6、下列去括号正确的是（ ）.

A．$1-(a-b)=1-a-b$　　B．$1+2(a-b)=1+2a-b$

C．$1-(a-b)=1+a-b$　　D．$1-(a-b)=1-a+b$

7、下列计算正确的是(　　)

A．$3a+2b=5ab$　　B．$5a^2-2a^2=3$

C．$7a+a=7a^2$　　D．$2a^2b-4a^2b=-2a^2b$

8、有一题目：点 P、Q、M 分别表示数-1、1、5，三点在数轴上同时开始运动，点 P 运动方向是向左，运动速度是 $2/s$；点 Q、M 的运动方向是向右，运动速度分别 $1/s$、$3/s$，如图，在运动过程中，甲、乙两位同学提出不同的看法，甲：$3PM-5PQ$ 的值不变；乙：$5QM-3PQ$ 的值不变；下列选项中，正确的是（ ）



A．甲、乙均正确　　B．甲正确、乙错误

C．甲错误、乙正确　　D．甲、乙均错误

9、下列说法正确的是（　　）

A．单项式 x 的系数是 0

B．单项式 -3^2xy^2 的系数是 -3，次数是 5

C．多项式 x^2+2x 的次数是 2

D．单项式 -5 的次数是 1

10、下列运算结果正确的是（　　）

A．$2a+3b=5ab$　　B．$7x^2y-4xy^2=3x^2y$

C．$a-(3b-2)=a-3b-2$　　D．$-2(a+b)=-2a-2b$

第Ⅱ卷（非选择题　80 分）

二、填空题（10 小题，每小题 3 分，共计 30 分）

1、“勾股树”是以正方形一边为斜边向外作直角三角形，再以该直角三角形的两直角边分别向外作正方形，重复这一过程所画出来的图形，因为重复数次后的形状好似一棵树而得名．假设如图分别是第一代勾股树、第二代勾股树、第三代勾股树，按照勾股树的作图原理作图，则第六代勾股树中正方形的个数为_____．

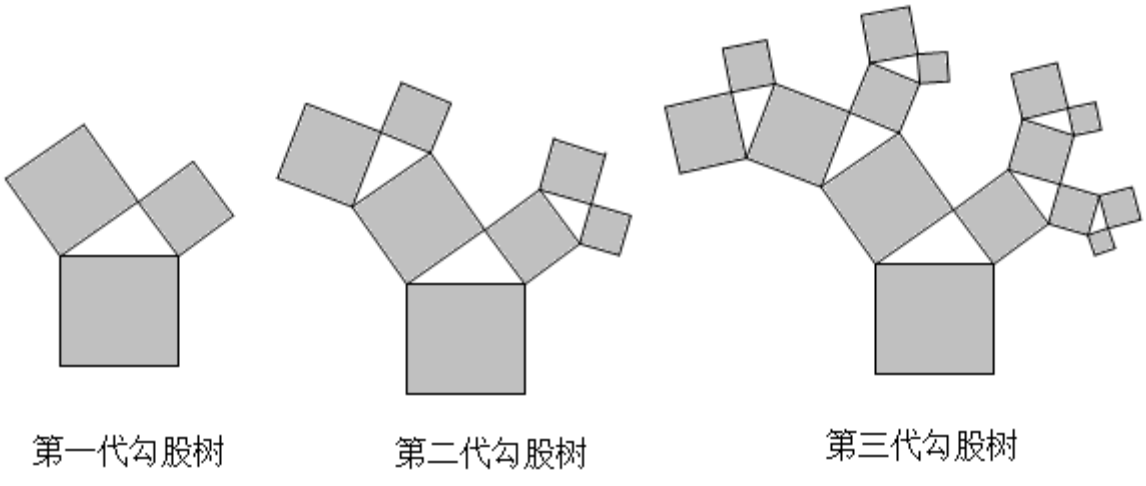

2、已如 $A-B=3x^2-2x+1, B-C=4-2x^2$，则 $C-A=$_____.

3、已知整数 a_1，a_2，a_3，a_4，…满足下列条件：$a_1=0$，$a_2=-|a_1+1|$，$a_3=-|a_2+2|$，$a_4=-|a_3+3|$，…，依此类推，则 a_{2019} 的值为_____.

4、如果单项式 $3x^my$ 与 $-5x^3y^n$ 可以合并，那么 $m+n=$_____.

5、单项式 $-\frac{x^2y^3z}{2}$ 的系数是_____，次数是_____.

6、计算：$2a-3a=$_____.

7、若 $(a-1)^2+|b+2|=0$，则 $\frac{a+b}{a-b}$ 的值是_____.

8、已知 $a-3b=3$，则 $6b+2(4-a)$ 的值是_____.

9、长春市净月潭国家森林公园门票的价格为成人票每张 30 元，儿童票每张 15 元．若购买 m 张成人票和 n 张儿童票，则共需花费_____元.

10、某种桔子的售价是每千克 x 元，用面值为 100 元的人民币购买了 6 千克，应找回_____元.

三、解答题（5 小题，每小题 10 分，共计 50 分）

1、阅读材料：“整体思想”是中学数学解题中的一种重要的思想方法，如把某个多项式看成一个整体进行合理变形，它在多项式的化简与求值中应用极为广泛．例：化简 $4(a+b)-2(a+b)+(a+b)$．解：原式 $=(4-2+1)(a+b)=3(a+b)$．参照本题阅读材料的做法解答：

（1）把 $(a-b)^6$ 看成一个整体，合并 $3(a-b)^6-5(a-b)^6+7(a-b)^6$ 的结果是_____.

（2）已知 $x^2-2y=1$，求 $3x^2-6y-2021$ 的值.

（3）已知 $a-2b=2$，$2b-c=-5$，$c-d=9$，求 $(a-c)+(2b-d)-(2b-c)$ 的值.

2、用代数式表示：

(1)比 x 的平方的 5 倍少 2 的数；

(2) x 的相反数与 y 的倒数的和；

(3)x与y的差的平方；

(4)某商品的原价是 a 元，提价 15%后的价格；

(5)有一个三位数，个位数字比十位数字少 4，百位数字是个位数字的 2 倍，设 x 表示十位上的数字，用代数式表示这个三位数.

3、【观察】1×49=49，2×48=96，3×47=141，…，23×27=621，24×26=624，25×25=625，26×24=624，27×23=621，…，47×3=141，48×2=96，49×1=49.

【发现】根据你的阅读回答问题：

（1）上述内容中，两数相乘，积的最大值为_____；

（2）设参与上述运算的第一个因数为 a，第二个因数为 b，用等式表示 a 与 b 的数量关系是_____.

【类比】观察下列两数的积：1×59，2×58，3×57，4×56，…，m×n，…，56×4，57×3，58×2，59×1.

猜想 mn 的最大值为_____，并用你学过的知识加以证明.

4、在长方形纸片 $ABCD$ 中，边长 $AB=m$，$AD=n$（$m>8$，$n>8$），将两张边长分别为 8 和 6 的正方形纸片按图 1，图 2 两种方式放置（图 1，图 2 中两张正方形纸片均有部分重叠），长方形中未被这两张正方形纸片覆盖的部分用阴影表示，设图 1 中阴影的面积为 S_1，图 2 中阴影部分的面积为 S_2.

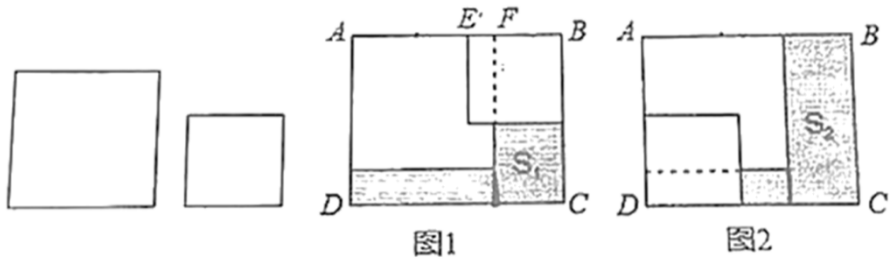

图1　　图2

（1）请用含 m 的式子表示图 1 中 EF，BF 的长；

（2）请用含 m，n 的式子表示图 1，图 2 中的 S_1，S_2，若 $m-n=3$，请问 S_2-S_1 的值为多少？

5、如图，将连续的奇数 1，3，5，7…按图 1 中的方式排成一个数表，用一个十字框框住 5 个数，这样框出的任意 5 个数（如图 2）分别用 a，b，c，d，x 表示.

（1）若 x=17，则 a+b+c+d=_____.

（2）移动十字框，用 x 表示 a+b+c+d=_____.

（3）设 M=a+b+c+d+x，判断 M 的值能否等于 2020，请说明理由.

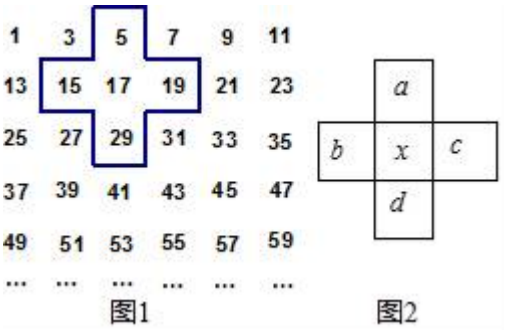

图1　　图2

-参考答案-

一、单选题

1、C

【解析】

【分析】

根据齐次多项式的定义列出关于 x 的方程，最后求出 x 的值即可.

【详解】

解：由题意,得 $x+2+3=1+3+2$

解得 $x=1$.

故选 C.

【考点】

本题主要考查了学生的阅读能力与知识的迁移能力以及单项式的次数，根据齐次多项式列出方程成为解答本题的关键.

2、D

【解析】

【分析】

如果两个单项式，他们所含的字母相同，并且相同字母的指数也分别相同，那么就称这两个单项式为同类项.

【详解】

A、B、C 说法均是正确的，D 中3^2xy^3是四次单项式.

【考点】

本题考察单项式知识的相关应用.

3、C

【解析】

【分析】

由题可知，代入x、y值前需先判断y的正负，再进行运算方式选择，据此逐项进行计算即可得.

【详解】

A 选项$y\geqslant 0$，故将x、y代入x^2+2y，输出结果为15，不符合题意；

B 选项$y\leq 0$，故将x、y代入x^2-2y，输出结果为20，不符合题意；

C 选项$y\geqslant 0$，故将x、y代入x^2+2y，输出结果为12，符合题意；

D 选项$y\geqslant 0$，故将x、y代入x^2+2y，输出结果为20，不符合题意，

故选 C.

【考点】

本题主要考查程序型代数式求值，解题的关键是根据运算程序，先进行y的正负判断，选择对应运算方式，然后再进行计算.

4、C

【解析】

【分析】

根据去括号和添括号法则解答.

【详解】

A、原式＝-a-2，故本选项变形错误.

B、原式＝$-a+\frac{1}{2}$，故本选项变形错误.

C、原式＝-（a-1），故本选项变形正确.

D、原式＝-（a-1），故本选项变形错误.

故选：C.

【考点】

本题主要考查了去括号与添括号，①去括号法则是根据乘法分配律推出的；②去括号时改变了式子的形式，但并没有改变式子的值；③添括号时，如果括号前面是正号，括到括号里的各项都不变号，如果括号前面是负号，括号里的各项都改变符号．添括号与去括号可互相检验.

5、A

【解析】

【分析】

根据题意可知个位数字按照 7、9、3、1 每四个一循环，每四个数字的个位数所得和为 20，进而问题可求解.

【详解】

解：由 $7^1=7$，$7^2=49$，$7^3=343$，$7^4=2401$，$7^5=16807$，$7^6=117649$…，可知个位数字按照 7、9、3、1 每四个一循环，每四个数字的个位数所得和为 7+9+3+1=20，即和的个位数为 0，

∵2020÷4=505，

∴$7^1+7^2+\cdots+7^{2020}$ 的结果的个位数字是 0；

故选 A.

【考点】

本题主要考查数字规律，解题的关键是得到个位数的循环及和.

6、D

【解析】

【分析】

根据去括号的法则逐项判断即可求解.

【详解】

解：A、$1-(a-b)=1-a+b$，故本选项错误，不符合题意；

B、$1+2(a-b)=1+2a-2b$，故本选项错误，不符合题意；

C、$1-(a-b)=1-a+b$，故本选项错误，不符合题意；

D、$1-(a-b)=1-a+b$，故本选项正确，符合题意.

故选：D.

【考点】

本题主要考查了去括号法则，熟练掌握去括号法则——如果括号外的因数是正数，去括号后原括号内各项的符号与原来的符号相同；如果括号外的因数是负数，去括号后原括号内各项的符号与原来的符号相反是解题的关键.

7、D

【解析】

【分析】

直接利用合并同类项法则分别分析得出答案.

【详解】

A、3a+2b，无法计算，故此选项错误；

B、$5a^2-2a^2=3a^2$，故此选项错误；

C、7a+a=8a，故此选项错误；

D、$2a^2b-4a^2b=-2a^2b$，正确.

以上内容仅为本文档的试下载部分，为可阅读页数的一半内容。如要下载或阅读全文，请访问：https://d.book118.com/155104104232012022