【备考 2023 年】陕西省商洛市公务员省考行政职业能力测验真题二卷(含答案)

学校:_____ 班级:_____ 姓名:_____ 考号:_____

一、图形推理(6 题)

1. 下列选项中，符合所给图形变化规律的是（　　）。

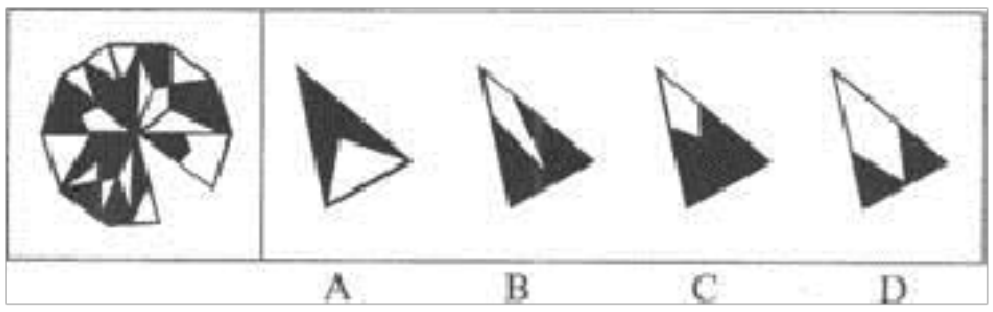

2.从所给的四个选项中，选择最合适的一个填人问号处，使之呈现一定的规律性：

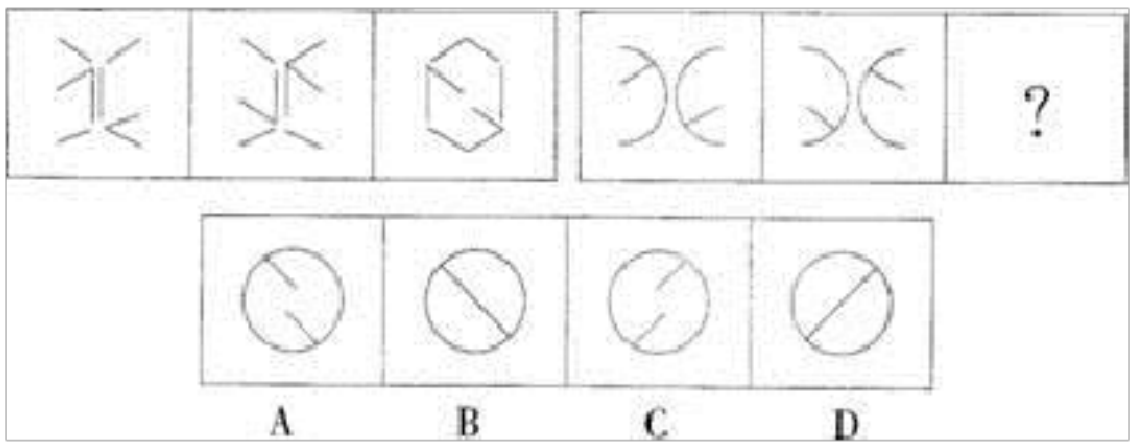

3.从所给的四个选项中，选择最合适的一个填人问号处，使之呈现一定的规律性：



ABCD

A.如上图所示 B.如上图示 C.如上图 D.如图所示

4. 把下面的六个图形分为两类，使每一类图形都有各自的共同特征或规律，分类正确的一项是：

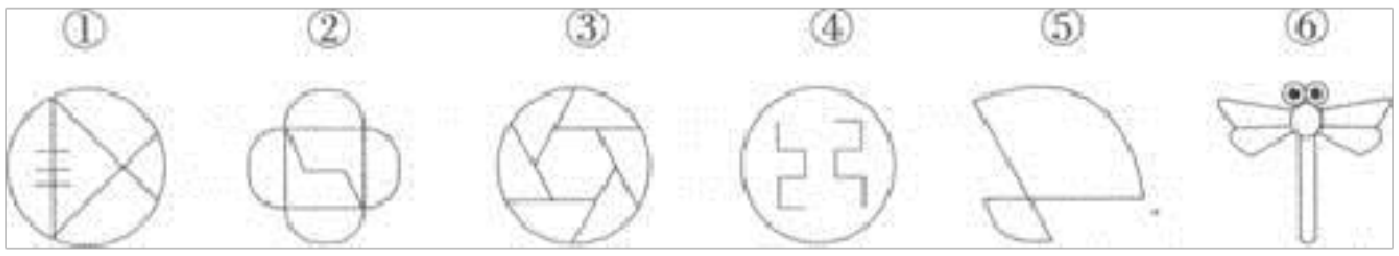

A.①②③，④⑤⑥ B.①②⑤，③④⑥ C.①③⑤，②④⑥ D.①⑤⑥，②③④

5. 从所给的四个选项中，选择最合适的一个填入问号处，使之呈现一定的规律性：

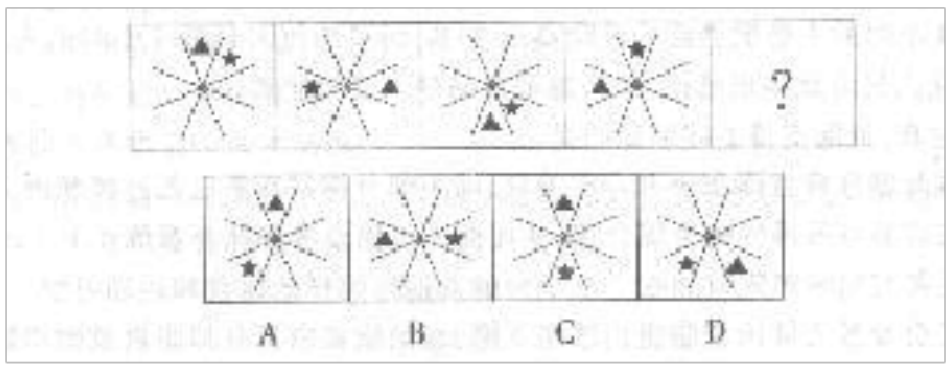

6.

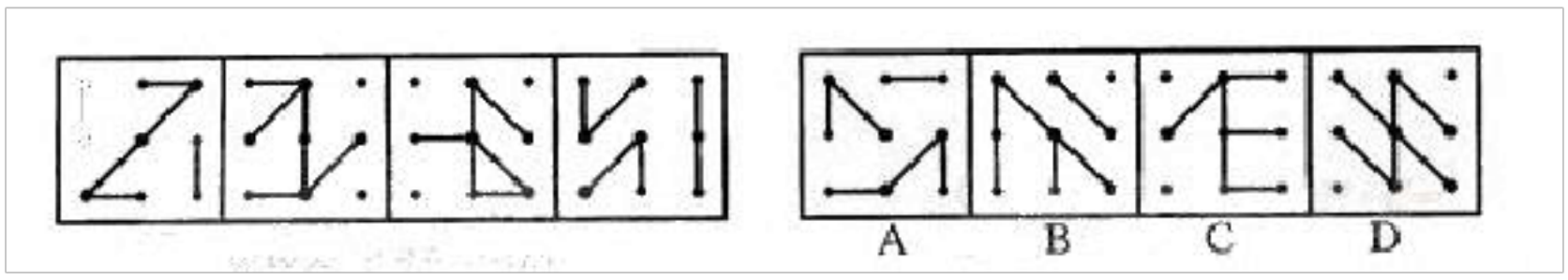

二、定义判断(10 题)

7. 所谓“城市病”是指由于城市人口、工业、交通运输过度集中而造成的种种弊病。它给生活在城市的人们带来了烦恼和不便，也对城市的运行产生了一些影响，所以被人们形象地称之为“城市病”。

根据上述定义，下列哪项中的现象不属于城市病的范畴？

A.就业压力增大 B.市民住宿紧张 C.大城市的交通拥堵 D.城市的经济实力下降

8. 失语症，顾名思义就是丧失语言能力，但是在职场中并不仅限于此，最主要的表现为，在工作中已经失去了发表个人意见和观点的权利，无法和同事以及上司进行正常的工作交流和沟通，和自己所在的团体缺乏应有的正常沟通，被日渐边缘化，这被称之为职场失语症。根据匕述定义，下列选项属于职场失语症的是（　　）

A.老王是公司里的“老好人”，对上级命令绝对服从，不懂得拒绝别人，即使有想法，也得不到他人的重视

B.小宋是一个客服人员，每天要接待大量的客户，最近一段时间，每到下午四点左右，他就感觉嗓子十分疼痛说不出话来

C.小李平时在开会发表意见时经常跑题，变成对自己的搭档的控诉演讲，

久而久之，大家虽然在工作中还会与他合作，但在开会时不再仔细听他发言了

D.老刘最近非常郁闷，他的几个下属联合起来架空他，每次的工作都直接向他的上级进行汇报．而目．也不听他的指挥，他决定向上司反映这个情况

9. 职客也叫“职场经纪人”或“求职顾问”，是指以求职者的利益为中心，以求职者的就业需求为导向，为求职者提供一系列就业相关的咨询服务，并最终帮助求职者成功就业的人。

根据上述定义，下列各项属于职客的是（　　）。

A.某公司计划招聘 2 名行政人员，领导将该任务交由小张负责，小张开始着手发布信息、面试，最终找到合适的应聘者

B.王铭今年大学毕业，在网络上投了很多简历，终于找到了工作，主要负责公司的人力资源管理相关事务

C.李岩听朋友说某大型企业正在进行招聘，积极推荐其同学去参加面试，并顺利通过

D.唐星利用空余时间在某网站兼职，根据自己丰富的经验和人际关系，帮助小敏顺利找到工作．并从中获得报酬

10.蓝海指的是未知的市场空间。企业要启动和保持获利性增长，就必须超越产业竞争，开创全新市场，这其中包括突破性增长业务（旧市场新产品或新模式）和战略性新业务开发（创造新市场、新细分行业甚至全

新行业）。相对于蓝海指代的未知的市场空间，红海泛指那些竞争激烈的市场。在红海中，产业边界是明晰和确定的，游戏的竞争规则是已知的。身处红海的企业试图表现得超过竞争对手，以攫取已知需求下的更大市场份额。

根据上述定义。下列案例对应于红海市场的是：

A.许多中国企业将既有业务延伸到亚非拉地区。使收入倍增

B.虽然出版业发展缓慢，但电子书的出现使网络文学更加繁荣

C.鉴于美国亚马逊的发展模式．中国的电商竞相以低价挤压对手

D.一些旧网络游戏推出虚拟道具商城后吸引了很多老玩家消费

11. 享乐主义是指所有动作皆可被一个人会产生的享受与痛楚所决定，力求将享乐与痛苦的距差增至最大，它认为人要感到幸福，就应尽情享乐，尽量避免苦痛。

根据上述定义，下列行为属于享乐主义的是（　　）。

A.李某高考失利后心灰意冷，在网络游戏中寻找安慰

B.二丫在周末跟好朋友逛街，她感到很开心

C.妈妈给小明报了钢琴班，小明感到很痛苦就不想去

D.刘三觉得工作和学习都很乏味，整天喝酒打牌才“痛快”

12. 责任扩散效应指当发生了某种紧急事件时，如果有其他人在场，那么在场者所分担的责任就会减小。因为每个人都认为助人的责任和助人的失败所带来的可能成本应由大家共同承担，就是说提供帮助的责任扩

散到其他人身上。

根据上述定义，下列哪项体现了责任扩散效应?（　　）

A.一个和尚挑水喝，两个和尚抬水喝，三个和尚没水喝

B.小柳家发生火灾，大家纷纷来救火，火很快就被扑灭了

C.某区执法部门强行拆迁，被拆迁者义愤填膺，一起砸毁了执法车辆，事后大家并没有感到害怕，因为他们觉得法不责众

D.某女孩被汽车撞倒在地，小红本想上前帮忙，但看周围还有很多人，觉得肯定会有人管的，就去忙自已的事了

13. 职客，也叫“职场经纪人”或“求职顾问”，是指以求职者的利益为中心，以求职者的就业需求为导向，为求职者提供一系列就业相关的咨询服务，并最终帮助求职者成功就业的人。

根据上述定义，下列各项属于职客的是：

A.某公司计划招聘 2 名行政人员，领导将该任务交由小张负责，小张开始着手发布信息、面试，最终找到合适的应聘者

B.王铭今年大学毕业，在网络上投了很多简历，终于找到了工作，主要负责公司的人力资源管理相关事务

C.李岩听朋友说某大型企业正在进行招聘，积极推荐其同学去参加面试，并顺利通过

D.唐星利用空余时间在某网站兼职，根据自己丰富的经验和人际关系，帮助小敏顺利找到工作，并从中获得报酬

14.休闲体育，是指在相对自由的社会生活环境和条件下，人们自愿选择并从事的各种形式的体育活动的统称，它是体育的一种社会现象，也是体育的一种存在形态，是社会休闲活动的主要方式之一。根据上述定义，下列属于休闲体育的是（ ）。

A.马拉松运动员小李在假期陪朋友打球

B.作为私人保镖的小王每天接受 4 个小时的擒拿格斗训练

C.某高中全体学生按照学校要求每天下午完成半小时的长跑锻炼

D.受过腿伤.正处于恢复期的赵先生应医生要求, 每天由护士指导到户外散步 15 分钟

15.香蕉人是指出国之后，黄色的皮肤不变，但内心已经被外国同化，“变成”白色的人。芒果人是指出国之后，黄色的皮肤不变，而内心还是中国人应有的，与皮肤一样颜色的。

根据上述定义，下列属于芒果人的是：

A.小王的孩子出国两年后就不愿意回国了，而且每次回国后总觉得周围的人不理解自己

B.丽丽虽然父母都是中国人，但是从小在美国养父母家长大，不会说汉语，结婚后和丈夫一起来中国旅游，觉得中国是个很不错的地方

C.佩佩出生在美国一条唐人街，从小就学习汉语和中国文化，能用汉语交流，但是觉得自己和中国人的思维差异太大，无法交流

D.雯雯出国后经常回国，觉得还是家乡的伙伴更能明白她，国外也没有什么很吸引人的

16. 民事单方法律行为是指根据民事主体－方的意思表示即可成立的法律行为。

依据上述定义，下列属于单方法律行为的是（　　）。

A.美国公民约翰在中国某大学访学期间，租用该大学学术中心406房间，租期为三个月

B.王－在自动存款机上将4500元现金存进去了

C.王二发现洗发精用完了．到设在楼下超市的自动售货柜上付款后，取走了－瓶洗发精

D.小张搬家时，将－套旧沙发和－台四成新洗衣机，丢弃在小区垃圾分类回收处

三、常识判断(10题)

17.下列绘画作品取材于历史事件的是（ ）。

A. 《蒙娜丽莎》 B. 《但丁小舟》 C. 《苏格拉底之死》 D. 《俄狄浦斯和斯芬克斯》

18.

卢梭法治理论的基本点是（ ）。

A.三权分立 B.公民自由权 C.人民立法权 D.有限政府

19. 人民法院可以判决变更的情形是：

A.行政强制执行违法 B.行政处罚显失公正 C.行政处罚违法 D.行政强

制措施不当

20.
张某被某市公安局强制遣返，途中窒息而死。以下表述中正确的是（　　）。

A.张某已死，根据《行政诉讼法》的规定，即使提起行政诉讼也只能终结诉讼，因而已没有必要提起行政诉讼

B.能提起行政诉讼，但只能由其近亲属提出

C.只能由其近亲属申请行政赔偿

D.可以提起行政诉讼，但只能以王某的名义提起

21. 根据我国《行政诉讼法》的规定，下列哪一情形可以提起行政诉讼?

A.甲政府对其工作人员乙的警告决定

B.某政府责令某企业停产治理环境的决定

C.政府关于某日某时对某条街禁止通行的决定

D.某国家机关对其内部公务员的降职决定

22. 《左传》、《公羊传》、《穀梁传》三部书，是哪本书的演绎？（　）

A.《春秋》 B.《尚书》 C.《诗经》 D.《史记》

23. 下列不能设定行政许可的是：

A.省级人民政府规章 B.国务院部委规章 C.省级人大制定的地方性法规 D.行政法规

24. 关于气象，下列说法错误的是（　　）。

A.信风在北半球为东北信风，在南半球为东南信风

B.天气是指相对快速的冷热改变或是暂时的冷热条件，气候则是指一般情况下具有的天气状况或长期存在的主要天气状况

C.在气象学上对流雨又被称为锋面雨

D.台风和飓风都是产生于热带洋面上的强烈热带气旋

25.
“不愤不启，不悱不发，举一隅不以三隅反，则不复也。”这句话出自( )。

A.《周易》 B.《论语》 C.《孟子》 D.《道德经》

26. 下列典故中，除了哪一项都和《孟子》有关?（　　）

A.出类拔萃 B.B 始作俑者 C.见贤思齐 D.好为人师

四、数量关系(10 题)

27. 如图是一个立体图形的展开图。这个立体图形的体积是多少立方厘米?

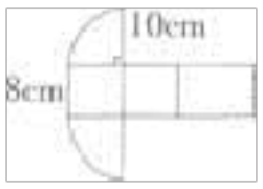

A. $\frac{800}{3}\pi$
B.800
C.640
D.200π

28. 某班共有 48 人，喜欢打乒乓球的有 30 人，喜欢打羽毛球的有 25

人，既喜欢打乒乓球又喜欢打羽毛球的至少有多少人?
A.5 B.7 C.10 D.18

29.**第 17 题** 林老师的教学实践是对这种教育理念的无声挑战。在这个“升学率就是一切”的年代，林老师的故事之所以动人，就是因为其中包含了一种完全不同的教育理念：教育的理想是培养有独立人格和思想的人，他们能够感到“思想着的独立的人的可贵”，而不仅仅是拥有“一技之长”。他们可以被培养为医生、工程师或中学教师等“有用”的人，但前提是他们必须首先是一个真正的完整的“人”。这段话中作者的核心观点是（ ）。

A. 重点中学和重点大学中可培养出优精尖的人才
B. 热爱民族文化、关心时代社会的医生、工程师、中学教师等是我们培养人才的目标
C. 音乐家、世界乒乓球冠军或其他有一技之长的人只是一些特例
D. 培养的人才应有着丰富的想象力和创造能力，并具备实用技能

30.有甲、乙、丙、丁 4 人，每 3 个人的平均年龄加上余下一人的年龄分别为 29，23，21 和 17．这 4 人中最大年龄与最小年龄的差是：
A.14 B.16 C.18 D.20

31.30，12，360，21，80，1680，（ ），3，99
A.33 B.9 C.720 D.15

32.第 19 题 $\frac{1}{80\times81}+\frac{1}{81\times82}+\ldots+\frac{1}{99\times100}$的值是（ ）。

以上内容仅为本文档的试下载部分，为可阅读页数的一半内容。如要下载或阅读全文，请访问：https://d.book118.com/208071142137006053