小学二年级上册数学应用题 100 道

一. 解答题(共 100 题，共 582 分)

1. 有一本书一共有 60 篇小故事。小明每天看 3 篇小故事，看了 6 天。

（1）小明一共看了多少篇小故事？

（2）还剩多少篇小故事没有看？

2. 一辆大客车原有乘客 34 人，到光明路下车的人比上车的人少 7 人，大客车上现在有多少人？

3. 马小虎计算 56 加一个一位数时，把这个一位数加到十位上去了，结果是 96．正确的结果应是多少呢？

4. 同学们去登山。男同学去了 28 人，女同学去了 23 人．女同学比男同学少去多少人？一共去了多少人？

5. 第一小组有 9 个同学，每人浇 6 棵树。

（1）第一小组共浇了多少棵树。

（2）第二小组浇了 50 棵树，第一小组比第二小组多浇多少棵树。

6. 用 100 元钱买下面的玩具，哪两件的价钱是最贵的？要用多少元钱？



7. 张叔叔今年栽了 4 行核桃树，每行 8 棵，又栽了 19 棵苹果树。张叔叔今年共栽了多少棵果树?

8. 有 45 朵，比 多 16 朵，有多少朵？

9. 一年级举行图画展览。一(1)班有 23 张，一(2)班有 18 张。一(1)班比一(2)班多多少张。

10. 第一组植树 17 棵，第二组和第三组各植树 11 棵，三个组一共植树多少棵？

11. 已知一食杂店中，方便面标价 2 元 / 袋，饼干标价 4 元 / 盒，糕点标价 3 元 / 盒，奶糖标价 5 元 / 袋，薯片标价 4 元 / 袋。

如果你有 10 元钱，你可以买几袋奶糖？

12.20 个工人排成一行,其中有两个工人戴帽子,从左往右数,第 5 个戴红帽子;从右往左数,第 8 个戴蓝帽子。戴帽子的两个工人中间有几人?
13.王大爷有高血压，需长期吃药，医生嘱咐他每天吃 6 片。王大爷有事要外出 8 天，药瓶里已有 25 片药，应再放多少片药就够了?
14.一个小熊玩具 5 元，小明用 20 元钱可以买几个小熊玩具?
15.解答题。


12元



8元


46元


35元

（1） 比  贵多少元?

（2）小林买一个  ，找回 4 元，他付了多少元?

（3）小丽付出 20 元，找间 12 元，她买了什么？（先计算再圈一圈）

16.一、二年级有 6 个班，每个班有 4 人参加舞蹈组，一共有多少人？后来，舞蹈组增加了 10 人，现在舞蹈组有多少人?
17.用一根 10 米长的竹竿测量井深，竹竿露出井面 2 米，井深多少米?
18.看图回答下列问题：



（1）爷爷比爸爸大多少岁?

（2）妈妈比爸爸小 2 岁，妈妈多少岁？

（3）你还能提出其他的数学问题吗？并解答。

19.看图回答。



（1）一班有 9 组同学在玩跳皮筋，玩跳皮筋的一共有多少人？

（2）1 班共有 56 名同学，除了玩跷跷板的，玩其他游戏的有多少人？

（3）你还能提出什么问题？

20.淘淘购物。



（1）淘淘拿了 10 元钱，买 3 把尺子，还剩几元？

（2）用 10 元钱买 5 支铅笔，还剩几元？

21. 小芳买了一些水果。给销售员 80 元钱，销售员找回 14 元。买的这些水果一共花了多少钱？

22. 应用题。



算算看，4 辆小车共有多少轮子？

23. 数一数图中有几个直角？

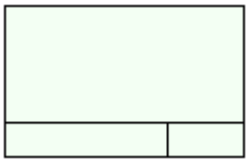

24. 停车场有小汽车 8 辆，大卡车的辆数是小汽车的 6 倍，停车场有小汽车和大卡车多少辆？

25. 农场养了 35 只黑兔，养的白兔比黑兔多 17 只。白兔和黑兔一共有多少只？

26. 商店里有红气球 7 个，黄气球的个数是红气球的 7 倍，黄气球有多少个？卖出了 32 个黄气球，还剩多少个黄气球？

27. 一本《智慧智囊》6 元，小红有 20 元，买 3 本《智慧智囊》，钱够吗？

28. 书架上有 23 本漫画书，连环画比漫画书少 5 本。谁多谁少？有多少本连环画？

29. 练习本的价钱是一本 8 角，买 5 本练习本要多少钱？

30. 蝴蝶和鸽子一共有多少只？



32 只



9 只

31. 学校体育室有足球 21 个，一年级借走 8 个，还剩下多少个足球没被借走？

32.商店原有 96 块橡皮，卖出一些后还剩 46 块，卖出多少块？
33.动物园里有 7 只小象，大象的只数是小象的 3 倍，动物园里有大象多少只？
34.张阿姨买了 4 盒奶和一个皮球，一共需要多少元？



列式：_____

口答：一共需要（_____）元.

35.小刚和小红去超市买学习用品，小红买了 18 支铅笔，小刚买了 20 支铅笔，他们两个一共买了多少支铅笔？
36.植树节到了，我和另外 3 位小朋友一起去植树，每人植了 9 棵。一共植几棵?
37.一根木头锯掉 25 米，还剩 60 米，这根木头原来长多少米？
38.一共有多少只兔？



39.菜站上午进 10 筐西红柿，下午进 12 筐西红柿，一共运进多少筐西红柿?卖出 11 筐后，还剩多少筐?
40.从白兔家走到黑兔家，一共要走多少米？请提出其他问题并解答。

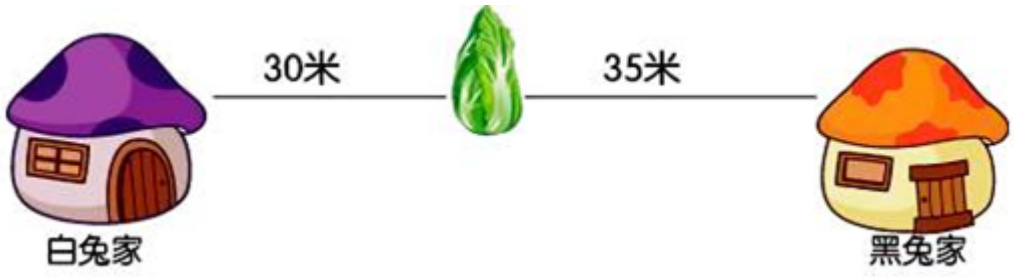

41.解答题。



（1）买一辆小汽车比买一架小飞机可以少花多少元？

_____ _____ _____= _____(　　)

（2）一架小飞机比一艘小轮船贵多少元？

_____ _____ _____= _____(　　)

（3）小明有 100 元，打算买一架小飞机和一艘小轮船够吗？若够，还剩多少元？

42.看图列式。



43. 购物。



（1）妈妈买了 7 盒牙膏，应付多少元钱?

（2）买 4 条毛巾和一把牙刷，带 40 元钱，够吗?

（3）你还能提出其他数学问题并解答吗?

44.



（1）丽丽回收了多少节电池?

（2）小军回收了多少节?

（3）小军和亮亮一共回收了多少节?

45.丽丽在做一道减法题时，把减数 34 看成了 43，结果差是 52，你能算出正确的得数吗?

46.小朋友们玩游戏，每行站 4 人，站了 5 行，还多 3 人，一共有多少个小朋友在玩游戏？

47.


40 元


8 元


20 元

小雨拿了 50 元，买一个  和一只  ，钱够吗？

48.买文具。


铅笔刀2元


水彩笔13元


书包58元


文具盒7元

（1）买一个铅笔刀和一盒水彩笔，共需多少元？

（2）买一盒水彩笔和一个书包，付了 100 元，应找回多少元？

（3）淘气拿出 50 元买哪两种文具，剩下的钱最多？最多剩下多少元？

（4）如果要买任意三种文具，我想买（　　）、（　　）和（　　）。算一算，要花多少元？

49.看图回答。



5元



8元



9元

（1）9 个杯子多少元？

（2）50 元买 6 本笔记本，够吗？

（3）请你再提出一个数学问题，并尝试解答。

50. 王奶奶养了 28 只母鸡，养的公鸡比母鸡少 9 只。公鸡有的多少只？



51. 看一看，填一填.

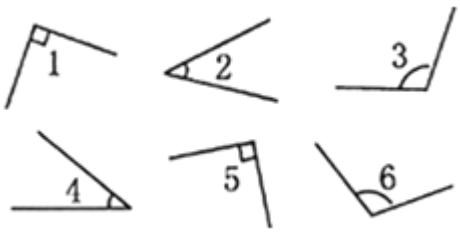

锐角有：

直角有：

钝角有：

52.学校三年级同学参加兴趣小组,参加美术小组的有 9 人,参加电子琴小组的人数是美术小组人数的 2 倍,参加数学小组的人数是电子琴小组的 3 倍。参加数学小组的有多少人?

53.用一个长 8 厘米，宽 4 厘米的长方形形纸改一个正方形。最大的正方形的周长是多少厘米？

54.学校生物组收集蝴蝶标本 68 只，蜻蜓标本 43 只？蜻蜓标本比蝴蝶标本少多少只？

55.小明买了一本《儿童文学》40 元，一本《连环画》8 元，一共用了多少钱？

56.有一根 5 米长的塑料管，将 4 根这样的管子连起来，新的部件有多长？

57.在方框里写出钟面上所指的时刻，在括号里算出中间经过的时间。

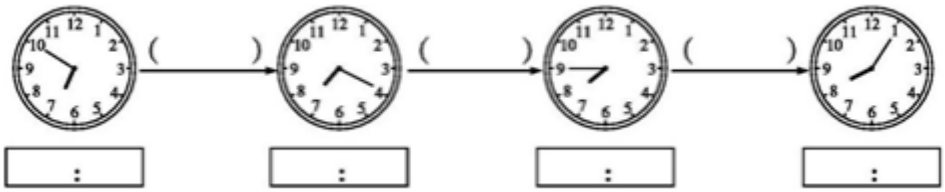

58.食品商店运进 15 箱鸡蛋，运进的鸭蛋比鸡蛋多 8 箱。运进鸡蛋和鸭蛋一共多少箱？

59.艺术比赛。

打球	跳绳	画画
36人	25人	19人

（1）二年级学生参加学校兴趣小组学打球、跳绳和画画的一共有多少人？

（2）自己再提出一个问题并列式计算。

以上内容仅为本文档的试下载部分，为可阅读页数的一半内容。如要下载或阅读全文，请访问：
https://d.book118.com/218120035033007047