预览—收藏-关注

考点课堂 素材精粹

第十版

依据考试大纲 总结命题规律

辅导备考策略 历年考题详析

梳理考试要点 总结核心知识

筛选最新考点 拓展解题思路

精编典型习题 积累备考经验

全真模拟测试 预测考试趋势

注：下载前请仔细阅读资料，以实际预览内容为准

让学习为我们创造终生价值

2022年怀化市初中学业水平考试试卷

地理

一、选择题（每小题2分，共50分。每小题的四个选项中只有一个符合题目要求。）

下图为北极航线示意图。读图，完成下面小题。

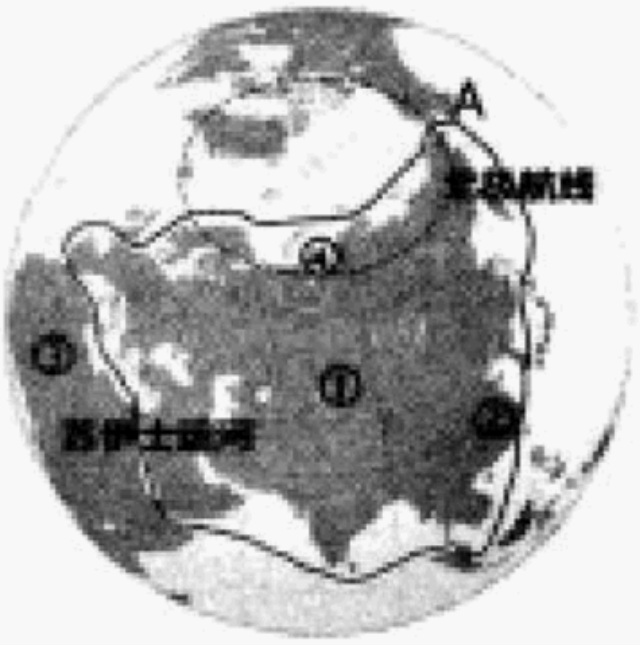

1. 图中，A处是____海映。它是____两洲的分界线。（　　）

A. 霍尔木兹海峡　亚洲、非洲　　B. 直布罗陀海峡　非洲、欧洲

C. 白令海峡　亚洲、北美洲　　D. 土耳其海峡　亚洲、欧洲

2. 图中①②③④四地中，人口最稠密的是（　　）

A. ①　　B. ②　　C. ③　　D. ④

3. 下列关于北极地区的叙述，不正确的是（　　）

A. 降水稀少，淡水资源匮乏　　B. 酷寒，多狂风，降水稀少

C. 北极地区的“主人”是北极熊　　D. 北极地区的科学考察站有极昼极夜现象

【答案】1. C　　2. B　　3. A

【解析】

【1题详解】

由图可知，A处是位于亚洲与北美洲分界线上的白令海峡，同时也是太平洋与北冰洋的分界线。亚、非两大洲分界线是苏伊士运河，非洲与欧洲的分界线是直布罗陀海峡，亚洲与欧洲的分界线上乌拉尔山脉、乌拉尔河、大高加索山脉和土耳其海峡，故ABD错误、C正确，根据题意，故选C。

【2题详解】

世界上的人口主要分布在中低纬度的近海平原地区，图中①处位于亚欧大陆内陆、气候干旱；②处位于亚欧大陆东部、气候湿润、农业发展早，人口稠密；③处是位于非洲北部的撒哈拉沙漠，气候极其干旱，人口稀少；④处位于亚洲北部，纬度高、气候寒冷，人口稀疏，故选B。

【3题详解】

北极地区气温低、降水少，但以冰雪形式存在的固体淡水资源丰富，故 A 不正确。这里纬度高、气温低，气候特征是酷寒、多狂风、降水稀少，故 B 正确。北极地区的”主人“是北极熊，故 C 正确。北极地区的科学考察站--黄河站位于北极圈以内，有极昼极夜现象，故 D 正确。根据题意要求选择叙述不正确的选项，故选 A。

【点睛】极地酷寒，多狂风，降水稀少。夏季出现极昼时，太阳总在地平线上，但太阳高度小，阳光娇弱无力，根本无法驱散冰原上　寒气。冬季出现极夜时，长夜漫漫，暴风雪在冰原上不停地咆哮。

北京时间 2022 年 4 月 16 日，神舟十三号载人飞船返回舱在东风着陆场（约为 101° E，42° N）成功着陆。下图为经纬网局部图。读图，完成下面小题。

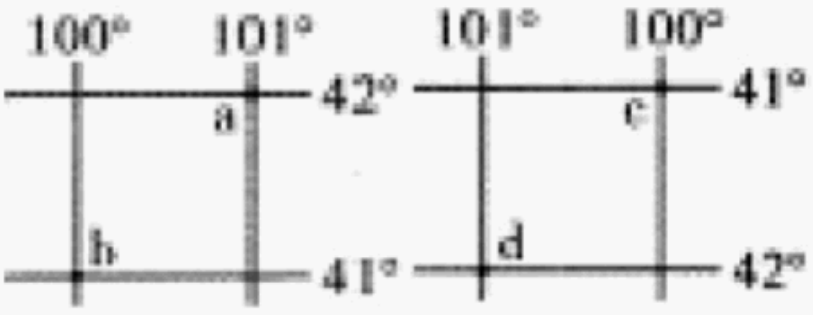

4. 图中四点，最靠近东风着陆场的是（　　）

A. a 点　　B. b 点　　C. c 点　　D. d 点

5. 神舟十三号载人飞船返回地球时（　　）

A. 湖南省稻谷飘香　　B. 怀化市昼长夜短　　C. 最适合到南极科考　　D. 太阳直射南半球

6. 以下关于影响我国载人航天事业发展的主要因素，用雷达图表示合理的是（　　）

A.


B.


C.


D.


【答案】4. A　　5. B　　6. B

【解析】

【4 题详解】

由经线和纬线相互交织所构成的网络叫做经纬网，利用经纬网可以确定地球表面任何一个地点的位置，在经纬网上，经线的度数叫做经度，若相邻两条经线的经度向东增大，就是东经，用符号 E 表示，若相邻两条经线的经度向西增大，就是西经，用符号 W 表示；纬线的度数叫纬度，若相邻两条纬线的

纬度向北增大，就是北纬，用符号 N 表示，若相邻两条纬线的纬度向南增大，就是南纬，用符号 S 表示。东风着陆场（约为 101°E，42°N）的经度向东增大、纬度向北增大，是位于图中 a 处，故 A 正确、BCD 错误，故选 A。

【5 题详解】

神舟十三号载人飞船返回地球时是北京时间 2022 年 4 月 16 日，此时是北半球的春季，湖南省的水稻刚插秧，故 A 错误。此时太阳直射在赤道与北回归线之间的北半球，位于北温带的怀化市昼长夜短，故 B 正确、D 错误。此时南极地区刚过了暖季，气温骤降，不适合考察，故 C 错误。故选 B。

【6 题详解】

载人航天事业属于高新技术产业，影响其发展的最有利条件是科技和人才，地形、交通的影响很小，资金的影响也不是最主要的，故 B 图所示的雷达图符合，故 ACD 错误、B 正确，根据题意，故选 B。

【点睛】高新技术产业是以高新技术为基础，从事一种或多种高新技术及其产品的研究、开发、生产和技术服务的企业集合。这种产业所拥有的关键技术往往开发难度很大，但一旦开发成功，却具有高于一般的经济效益和社会效益。

小美同学对法国特别感兴趣，她查找了一些关于法国旅游资源的图片。读图，完成下面小题。

7. 以下旅游资源中，有一幅图不属于法国，请你帮她找出来（　　）

A. 

B. 

C. 

D. 

8. 下列天气。适合小美外出游玩的是（　　）

A. 

B. 

C. 

D. 

【答案】7. D　　8. B

【解析】

【7 题详解】

由图可以看出，图中 A 是位于法国的艾菲尔铁塔；B 是位于法国的蓬皮杜艺术中心；C 是位于法国的凯旋门；D 是位于印度的泰姬陵，故 ABC 正确、D 错误。故选 D。

【8 题详解】

外出游玩要根据天气情况，一般来说，天气晴朗或阴天适合外出游玩，以上四个天气预报符号中，A

以上内容仅为本文档的试下载部分，为可阅读页数的一半内容。如要下载或阅读全文，请访问：https://d.book118.com/226102151155010040