乌龙木齐第四中学数学七年级上册整式的加减专项攻克

考试时间：90 分钟；命题人：教研组

考生注意：

1、本卷分第 I 卷（选择题）和第 II 卷（非选择题）两部分，满分 100 分，考试时间 90 分钟

2、答卷前，考生务必用 0.5 毫米黑色签字笔将自己的姓名、班级填写在试卷规定位置上

3、答案必须写在试卷各个题目指定区域内相应的位置，如需改动，先划掉原来的答案，然后再写上新的答案；不准使用涂改液、胶带纸、修正带，不按以上要求作答的答案无效。

第 I 卷（选择题　20 分）

一、单选题（10 小题，每小题 2 分，共计 20 分）

1、下列式子中 a，$-\frac{2}{3}xy^2$，$\frac{-2x+y}{9}$，0，是单项式的有（　　）个.

A．2　　B．3　　C．4　　D．5

2、把黑色三角形按如图所示的规律拼图案，其中第①个图案中有 1 个黑色三角形，第②个图案中有 3 个黑色三角形，第③个图案中有 6 个黑色三角形，…，按此规律排列下去，则第⑤个图案中黑色三角形的个数为（　　）



A．10　　B．15　　C．18　　D．21

3、若多项式$2y^2+3x$的值为 2，则多项式$4y^2+6x-9$的值是（　　）

A．11　　B．13　　C．-7　　D．-5

4、下列说法中，正确的是（　　）

A．0 不是单项式　　B．$\frac{\pi a}{2}$的系数是$\frac{1}{2}$

C．xyz^2的次数是 4　　D．$2x^2-3x-1$的常数项是 1

5、一列火车长x米，以每秒a米的速度通过一个长为b米的大桥，用代数式表示它完全通过大桥（从车头进入大桥到车尾离开大桥）所需的时间为（　　）

A．$\frac{x+b}{a}$秒　　B．$\frac{b}{a}$秒　　C．$\frac{x}{a}$秒　　D．$\frac{x-b}{a}$秒

6、多项式$8x^2-3x+5$与多项式$3x^3+2mx^2-5x+7$相加后，不含二次项，则常数m的值是（　　）

A．2　　B．-4　　C．-2　　D．-8

7、代数式 $3x^2y-4x^3y^2-5xy^3-1$ 按 x 的升幂排列，正确的是（　　）

A．$-4x^3y^2+3x^2y-5xy^3-1$　　B．$-5xy^3+3x^2y-4x^3y^2-1$

C．$-1+3x^2y-4x^3y^2-5xy^3$　　D．$-1-5xy^3+3x^2y-4x^3y^2$

8、如图，填在下面各正方形中的四个数之间都有相同的规律，根据这种规律，m的值应是（　　）

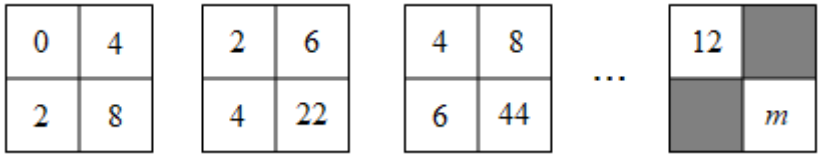

A．110　　B．168　　C．212　　D．222

9、如果一个多项式的各项的次数都相同，那么这个多项式叫做齐次多项式．如$x^3+3xy^2+4xyz+2y^3$是 3 次齐次多项式，若$a^{x+3}b^2-6ab^3c^2$是齐次多项式，则x的值为（　　）

A．-1　　B．0　　C．1　　D．2

10、下列不能用$4m$表示的是（　　）

A．葡萄的价格是 4 元/千克，买$m$kg 葡萄的价钱

B．一个正方形的边长是 m，这个正方形的周长

C．甲平均每小时加工 m 个零件，4h 后共加工的零件个数

D．若 4 和 m 分别表示一个两位数中的十位数字和个位数字，表示这个两位数

第Ⅱ卷（非选择题　80 分）

二、填空题（10 小题，每小题 3 分，共计 30 分）

1、在多项式 $6x^2-4x+5-3x^2+8x-3$ 中，$6x^2$ 与_____是同类项，$-4x$ 与_____是同类项，-3 与_____也是同类项，合并后是_____.

2、一个多项式 M 减去多项式 $-2x^2+5x-3$，小马虎却误解为先加上这个多项式，结果，得 x^2+3x+7，则正确的结果是_____.

3、若代数式 $x^2+ax-\left(bx^2-x-3\right)$ 的值与字母 x 无关，则 $\boldsymbol{a-b}$ 的值为_____.

4、观察下面的一列单项式：$-2x,4x^2,-8x^3,16x^4,\cdots$,根据你发现的规律，第 n 个单项式为_____.

5、如图，用大小相同的小正方形拼大正方形，拼第 1 个正方形需要 4 个小正方形，拼第 2 个正方形需要 9 个小正方形……，按这样的方法拼成的第 $(n+1)$ 个正方形比第 n 个正方形多_____个小正方形.

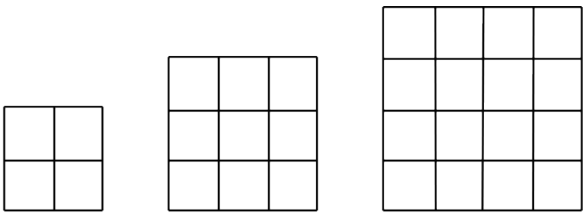

第1个正方形　第2个正方形　第3个正方形

6、某书店新进了一批图书，甲、乙两种书的进价分别为 4 元/本、5 元/本．现购进 m 本甲种书和 n 本乙种书，共付款 Q 元.

（1）用含 m，n 的代数式表示 $Q=$_____；

（2）若共购进 5×10^3 本甲种书及 3×10^3 本乙种书，$Q=$_____（用科学记数法表示）.

7、若 $|1-a|+|b-2|=0$，则 $2a^3+b^3+3a^3-2b^3$ 的值为_____.

8、如果 a，b 互为倒数，c，d 互为相反数，且 $\boldsymbol{m=-1}$，则代数式 $2ab-(c+d)+m=$_____.

9、如图是一组有规律的图案，它们由边长相同的正方形和正八边形组成，其中正方形涂有阴影，依此规律，第 n 个图案中有_____个涂有阴影的正方形．（用含 n 的代数式表示）

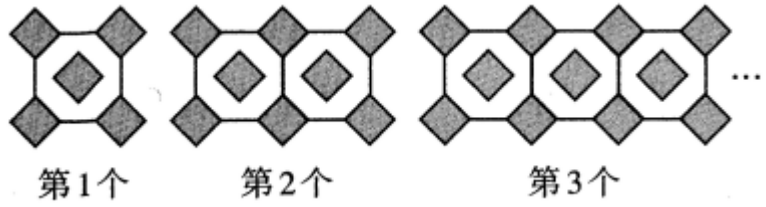

10、有理数 a、b、c 在数轴上的位置如图：

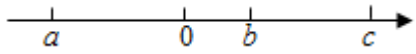

化简：$|a+c|-2|a-b|-c$.

三、解答题（5 小题，每小题 10 分，共计 50 分）

1、为给同学们创造更好的读书条件，学校准备新建一个长度为 L 的读书长廊，并准备用若干块带有花纹和没有花纹的两种大小相同的正方形地面砖搭配在一起，按如图所示的规律拼成图案铺满长廊，已知每块正方形地面砖的边长均为 0.6m .

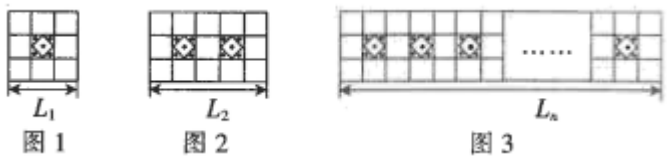

图 1　　图 2　　图 3

(1)按图示规律，第一个图案的长度 $L_1=$_____ m；第二个图案的长度 $L_2=$_____ m .

(2)请用式子表示长廊的长度 L_n，与带有花纹的地面砖块数 n 之间的关系.

(3)当长廊的长度 L 为 60.6m 时，请计算出所需带有花纹的地面砖的块数.

2、如图，数轴上的三个点 A，B，C 分别表示实数 a，b，c.

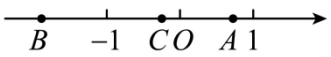

(1)如果点 C 是 AB 的中点，那么 a，b，c 之间的数量关系是_____；

(2)比较 $b-4$ 与 $c+1$ 的大小，并说明理由；

(3) 化简：$-|a-2|+|b+1|+|c|$.

3、【做一做】列代数式

（1）已知一个三位数的个位数字是 a，十位数字是 b，百位数字是 c，则这个三位数可表示为_____；

（2）某地区夏季高山的温度从山脚处开始每升高 100 米，降低 0.7℃，若山脚温度是 28℃，则比山脚高 x 米处的温度为_____℃；

（3）已知某礼堂第 1 排有 18 个座位，往后每一排比前一排多 2 个座位．则第 n 排共有座位数_____个．

【数学思考】

（4）上面所列的代数式都属于我们所学习的整式中的_____；

（5）请你任意写一个关于 x 的这种类型的数字系数的二次式_____；

（6）用字母表示系数，写一个关于 x 的二次三项式，并注明字母系数应满足的条件_____；

【问题解决】

（7）若代数式 $3x^{|m|}-（m-2）x+4$ 是一个关于 x 的二次三项式，求 m 的值．

4、用同样大小的两种不同颜色（白色．灰色）的正方形纸片，按如图方式拼成长方形．

[观察思考]

第（1）个图形中有 $2=1\times2$ 张正方形纸片；

第（2）个图形中有 $2\times(1+2)=6=2\times3$ 张正方形纸片；

第（3）个图形中有 $2\times(1+2+3)=12=3\times4$ 张正方形纸片；

第（4）个图形中有 $2\times(1+2+3+4)=20=4\times5$ 张正方形纸片；

……

以此类推

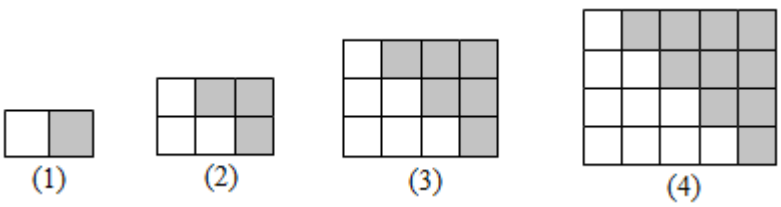

(1)[规律总结]第（5）个图形中有_____张正方形纸片（直接写出结果）.

(2)根据上面的发现我们可以猜想：$1+2+3+\cdots+n=$_____.（用含 n 的代数式表示）

(3)[问题解决]根据你的发现计算：$101+102+103+\cdots+200$.

5、已知 $A=a^2-2ab+b^2$，$B=a^2+2ab+b^2$.

（1）求 $A+B$；

（2）求 $\frac{1}{4}(B-A)$；

（3）如果 $2A-3B+C=0$，那么 C 的表达式是什么？

-参考答案-

一、单选题

1、B

【解析】

【分析】

根据单项式的定义：表示数或字母的积的式子叫做单项式，单独的一个数或一个字母也是单项式进行逐一判断即可.

【详解】

解：式子中 a，$-\frac{2}{3}xy^2$，$\frac{-2x+y}{9}$，0，是单项式的有 a，$-\frac{2}{3}xy^2$，0，一共 3 个.

故选 B.

【考点】

本题主要考查了单项式的定义，解题的关键在于能够熟练掌握单项式的定义.

2、B

【解析】

【分析】

根据前三个图案中黑色三角形的个数得出第 n 个图案中黑色三角形的个数为 1+2+3+4+……+n，据此可得第⑤个图案中黑色三角形的个数.

【详解】

解：∵第①个图案中黑色三角形的个数为 1，

第②个图案中黑色三角形的个数 3＝1+2，

第③个图案中黑色三角形的个数 6＝1+2+3，

……

∴第⑤个图案中黑色三角形的个数为 1+2+3+4+5＝15，

故选：*B*.

【考点】

本题主要考查图形的变化规律，解题的关键是根据已知图形得出规律：第 n 个图案中黑色三角形的个数为 1+2+3+4+……+n.

3、D

【解析】

【分析】

将多项式 $4y^2+6x-9$ 变形为 $2(y^2+3x)-9$，再将 $2y^2+3x=2$ 整体代入即可得解；

【详解】

解：∵ $2y^2+3x=2$，

∴ $4y^2+6x-9=2(y^2+3x)-9=2\times 2\text{-}9=\text{-}5$，

故选择：D

【考点】

本题主要考查代数式的求值，利用整体代入思想求解是解题的关键.

4、C

【解析】

【分析】

根据单项式和多项式的定义选出正确选项.

【详解】

A 正确，一个数也是单项式；

B 错误，系数是$\frac{\pi}{2}$；

C 正确，次数是$1+1+2=4$；

D 错误，常数项是-1.

故选：C.

【考点】

本题考查单项式和多项式，解题的关键是掌握单项式的系数、次数的定义，多项式的常数项的定义.

5、A

【解析】

【分析】

【详解】

Q 火车走过的路程为$(x+b)$米，火车的速度为a米/秒，

∴火车过桥的时间为$\frac{x+b}{a}$（秒）.

故选：A .

6、B

【解析】

【分析】

合并同类项后使得二次项系数为零即可；

【详解】

解析：$\left(8x^2-3x+5\right)+\left(3x^3+2mx^2-5x+7\right)=3x^3+(2m+8)x^2-8x+12$，当这个多项式不含二次项时，有$2m+8=0$，解得$m=-4$.

故选 B.

【考点】

本题主要考查了合并同类项的应用，准确计算是解题的关键.

7、D

【解析】

【分析】

先分清多项式的各项，然后按多项式升幂排列的定义排列.

【详解】

解：$3x^2y-4x^3y^2-5xy^3-1$ 的项是 $3x^2y$、$-4x^3y^2$、$-5xy^3$、-1，

按 x 的升幂排列为$-1-5xy^3+3x^2y-4x^3y^2$，故 D 正确；

故选 D.

【考点】

考查了多项式，我们把一个多项式的各项按照某个字母的指数从大到小或从小到大的顺序排列，称为按这个字母的降幂或升幂排列．要注意，在排列多项式各项时，要保持其原有的符号.

8、C

【解析】

【分析】

观察不难发现，左上角、左下角、右上角为三个连续的偶数，右下角的数是左下角与右上角两个数的乘积减去左上角的数的差，根据此规律先求出阴影部分的两个数，再列式进行计算即可得解.

【详解】

解：根据排列规律，12 下面的数是 14，12 右面的数是 16，

∵8＝2×4-0，22＝4×6-2，44＝6×8-4，

∴m＝16×14-12＝212，

故选：C.

【考点】

本题是对数字变化规律的考查，仔细观察前三个图形，找出四个数之间的变化规律是解题的关键.

9、C

【解析】

【分析】

根据齐次多项式的定义列出关于 x 的方程，最后求出 x 的值即可.

【详解】

解：由题意,得 x+2+3=1+3+2

解得 x=1.

故选 C.

【考点】

本题主要考查了学生的阅读能力与知识的迁移能力以及单项式的次数，根据齐次多项式列出方程成为解答本题的关键.

10、D

【解析】

以上内容仅为本文档的试下载部分，为可阅读页数的一半内容。如要下载或阅读全文，请访问：https://d.book118.com/238050105103007014