# 重庆市实验中学数学七年级上册整式的加减单元测试

考试时间：90 分钟；命题人：教研组

**考生注意：**

1、本卷分第 I 卷（选择题）和第 II 卷（非选择题）两部分，满分 100 分，考试时间 90 分钟

2、答卷前，考生务必用 0.5 毫米黑色签字笔将自己的姓名、班级填写在试卷规定位置上

3、答案必须写在试卷各个题目指定区域内相应的位置，如需改动，先划掉原来的答案，然后再写上新的答案；不准使用涂改液、胶带纸、修正带，不按以上要求作答的答案无效。

## 第 I 卷（选择题　20 分）

**一、单选题（10 小题，每小题 2 分，共计 20 分）**

1、下面说法中①$-a$一定是负数；②$0.5\pi ab$是二次单项式；③倒数等于它本身的数是$\pm 1$；④若$|a|=-a$，则$a<0$；⑤由$-2(x-4)=2$变形为$x-4=-1$，正确的个数是（　　）

A．1 个　　B．2 个　　C．3 个　　D．4 个

2、若$x+y=2$，$z-y=-3$，则$x+z$的值等于（　　）

A．5　　B．1　　C．-1　　D．-5

3、已知$a^2+2a=1$，则代数式$2\left(a^2+2a\right)-1$的值为（　　）

A．0　　B．1　　C．−1　　D．−2

4、下列说法正确的是（　　）

A．$3x^2-2x+5$的项是$3x^2$，$2x$，5　　B．$\frac{x}{3}-\frac{y}{3}$与$2x^2-2xy-5$都是多项式

C．多项式$-2x^2+4xy$的次数是 3　　D．一个多项式的次数是 6，则这个多项式中只有一项的次数是 6

5、下列代数式中单项式共有（　　）

$\frac{a^2+1}{3},-m,\frac{2}{a},-0.3,\frac{b}{5},\frac{3}{\pi},ax+b,\frac{1}{x-y},0,\frac{4}{3}\pi r^3$.

A．2 个　　B．4 个　　C．6 个　　D．8 个

6、小文在做多项式减法运算时，将减去$2a^2+3a-5$误认为是加上$2a^2+3a-5$，求得的答案是$a^2+a-4$（其他运算无误），那么正确的结果是（　　）

A．$-a^2-2a+1$　　B．$-3a^2+a-4$

C．$a^2+a-4$　　D．$-3a^2-5a+6$

7、下列式子中不是代数式的是（　　）

A．$3a+2b$　　B．$5+2$　　C．$a+b=1$　　D．$\frac{b}{a+1}$

8、下列关于多项式 $2a^2b+ab-1$ 的说法中，正确的是（　　）

A．次数是 5　　B．二次项系数是 0　　C．最高次项是 $2a^2b$　　D．常数项是 1

9、下列图形都是由同样大小的实心圆点按一定规律组成的，其中第①个图形一共有 5 个实心圆点，第②个图形一共有 8 个实心圆点，第③个图形一共有 11 个实心圆点，…，按此规律排列下去，第⑥个图形中实心圆点的个数为（　　）

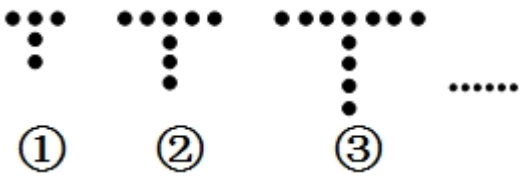


A．18　　B．19　　C．20　　D．21

10、下列代数式中是二次三项式的是（　　）

A．$2x+x^2-x^3$　　B．$x^2+2xy+y^2$　　C．$2\left(m^2-mn\right)$　　D．$a^3+2a^2-1$

## 第Ⅱ卷（非选择题　80 分）

**二、填空题（10 小题，每小题 3 分，共计 30 分）**

1、如图所示的图形是按一定规律排列的.




则第$n$个图形中$O$的个数为_____.

2、观察下列图中所示的一系列图形，它们是按一定规律排列的，依照此规律，第2018个图形中共有_____个○.




3、“勾股树”是以正方形一边为斜边向外作直角三角形，再以该直角三角形的两直角边分别向外作正方形，重复这一过程所画出来的图形，因为重复数次后的形状好似一棵树而得名．假设如图分别是第一代勾股树、第二代勾股树、第三代勾股树，按照勾股树的作图原理作图，则第六代勾股树中正方形的个数为_____.

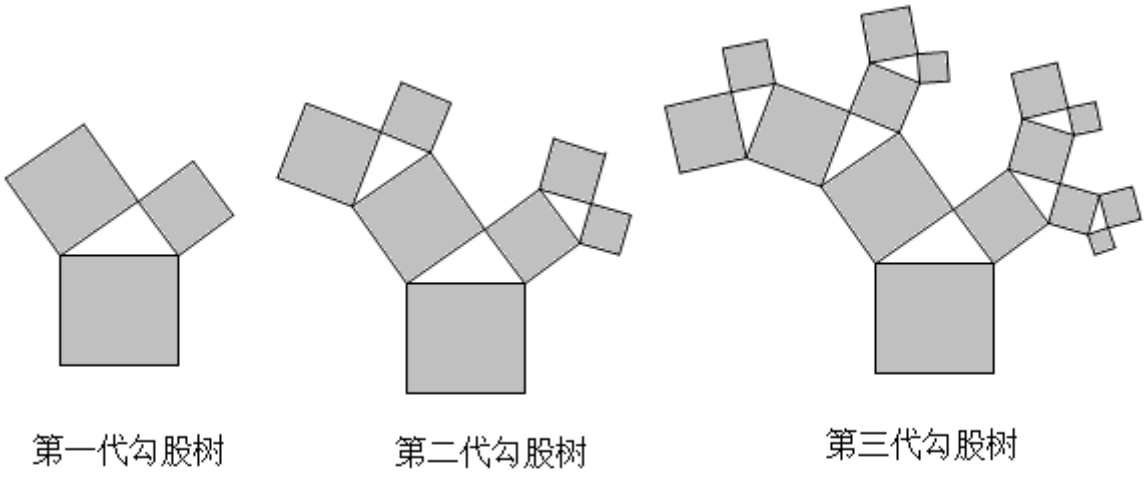


4、某市出租车收费标准为：起步价为8元，3千米后每千米的价格为2.5元，在计价器最终所显示数字的基础上再加$b$元燃油附加费，小赵乘坐出租车走了$x$千米$(x>3)$，则小赵应该共付车费_____元

（用含$x$和$b$的代数式表示）.

5、围棋是一种起源于中国的棋类游戏，在春秋战国时期即有记载，围棋棋盘由横纵各 19 条等距线段构成，围棋的棋子分黑白两色，下在横纵线段的交叉点上．若一个白子周围所有相邻（有线段连接）的位置都有黑子，白子就被黑子围住了．如图 1，围住 1 个白子需要 4 个黑子，固住 2 个白子需要 6 个黑子，如图 2，围住 3 个白子需要 8 个或 7 个黑子，像这样，不借助棋盘边界，只用 15 个黑子最多可以围住___个白子．

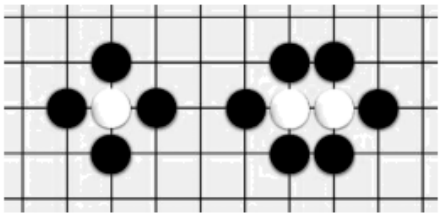

图 1

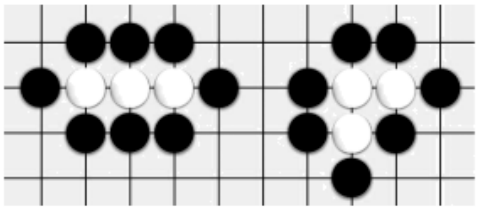

图 2

6、$\left(2x^2-\frac{2}{3}x+1\right)-$_____$=3x^2-2x+5$．

7、在代数式$3xy^2$，$m$，$6a^2-a+3$，12，$4x^2yzx-\frac{1}{5}xy^2$，$\frac{2}{3ab}$中，单项式有_____个．

8、某书店新进了一批图书，甲、乙两种书的进价分别为 4 元/本、5 元/本．现购进 $m$ 本甲种书和 $n$ 本乙种书，共付款 $Q$ 元．

（1）用含 $m$，$n$ 的代数式表示$Q=$_____；

（2）若共购进$5\times10^3$本甲种书及$3\times10^3$本乙种书，$Q=$_____（用科学记数法表示）．

9、若 $x$ 是不等于 1 的实数，我们把$\frac{1}{1-x}$称为 $x$ 的差倒数，如 2 的差倒数是$\frac{1}{1-2}=-1$，-1 的差倒数为$\frac{1}{1-(-1)}=\frac{1}{2}$，现已知$x_1=-\frac{1}{3}$，$x_2$是$x_1$的差倒数，$x_3$是$x_2$的差倒数，$x_4$是$x_3$的差倒数，…，依此类推，则$x_{2022}=$_____．

10、在下列各式①$\frac{a^2bc^3}{5}$，②0，③$\frac{x-y}{3}$，④$\frac{3}{\pi}$，⑤$s=\pi r^2$，⑥$-\frac{7}{x+5}$，⑦$b^2-4ac$，⑧$m$，⑨$\frac{1}{a}+1$中，其中单项式是_____，多项式是_____，整式是_____．（填序号）

**三、解答题（5 小题，每小题 10 分，共计 50 分）**

1、若$(x^2+px+q)(x^2-2x-3)$展开后不含 $x^2$、$x^3$项，求 $pq$ 的值．

2、

为了加强公民的节水意识，合理利用水资源，某市采用价格调控的手段达到节水的目的．该市自来水收费的价目表如下（注：水费按月份结算）：

| 每月用水量 | 价格 |
| --- | --- |
| 不超出 5m³ 的部分 | 2 元/m³ |
| 超出 5m³ 不超出 10m³ 的部分 | 4 元/m³ |
| 超出 10m³ 的部分 | 8 元/m³ |

设李老师家某月用水量为$x\left(\mathrm{m}^3\right)$．

(1)若$x=7$，则李老师当月应交水费多少元？

(2)若$0<x<15$，则李老师当月应交水费多少元？（用含$x$的代数式表示，并化简）

3、【做一做】列代数式

（1）已知一个三位数的个位数字是 $a$，十位数字是 $b$，百位数字是 $c$，则这个三位数可表示为_____；

（2）某地区夏季高山的温度从山脚处开始每升高 100 米，降低 0.7℃，若山脚温度是 28℃，则比山脚高 $x$ 米处的温度为_____℃；

（3）已知某礼堂第 1 排有 18 个座位，往后每一排比前一排多 2 个座位．则第 $n$ 排共有座位数_____个．

【数学思考】

（4）上面所列的代数式都属于我们所学习的整式中的_____；

（5）请你任意写一个关于 $x$ 的这种类型的数字系数的二次式_____；

（6）用字母表示系数，写一个关于 $x$ 的二次三项式，并注明字母系数应满足的条件_____；

【问题解决】

（7）若代数式 $3x^{|m|}-(m-2)x+4$ 是一个关于 $x$ 的二次三项式，求 $m$ 的值．

4、先化简，再求值：$4a^2+3ab-3\left(2a^2-ab\right)$，其中$a=-2$，$b=1$.

5、先化简，再求值：$2(3a^2b-ab^2)-3(a^2b-1-2ab^2)-3$，其中$a=-\frac{1}{2},b=2$.

## -参考答案-

一、单选题

1、C

【解析】

【分析】

①-a 不一定是负数，例如 a=0 时；

②0.5πab 中字母为 a 与 b，指数和为 2，故是二次单项式，本选项正确；

③倒数等于它本身的数是±1，本选项正确；

④若|a|=-a，a 为非正数，本选项错误；

⑤由-2（x-4）=2 两边除以-2 得到 x-4=-1，本选项正确.

【详解】

①-a 不一定是负数，例如 a=0 时，-a=0，不是负数，本选项错误；

②0.5πab 是二次单项式，本选项正确；

③倒数等于它本身的数是±1，本选项正确；

④若|a|=-a，则 a≤0，本选项错误；

⑤由-2（x-4）=2 两边除以-2 得：x-4=-1，本选项正确，

则其中正确的选项有 3 个.

故选 C.

【考点】

此题考查了等式的性质，相反数，绝对值，倒数，以及单项式，熟练掌握各自的定义是解本题的关键.

2、C

【解析】

【分析】

将两整式相加即可得出答案.

【详解】

∵$x+y=2$，$z-y=-3$，

∴$(x+y)+(z-y)=x+z=-1$，

∴$x+z$的值等于$-1$，

故选：C.

【考点】

本题考查了整式的加减，熟练掌握运算法则是解本题的关键.

3、B

【解析】

【分析】

把$a^2+2a=1$代入代数式$2(a^2+2a)-1$，求出算式的值为多少即可.

【详解】

解：∵$a^2+2a=1$，

∴$2(a^2+2a)-1=2\times1-1=1$

故选 B.

【考点】

本题考查了代数式的求值：求代数式的值可以直接代入、计算．如果给出的代数式可以化简，要先化简再求值．

4、B

【解析】

【分析】

根据多项式的项数、次数和多项式定义，即几个单项式的和叫做多项式判断即可；

【详解】

解：*A*. $3x^2-2x+5$的项是$3x^2,-2x$，5，故错误；

*B*. $\frac{x}{3}-\frac{y}{3}$与$2x^2-2xy-5$都是多项式，故正确；

*C*. 多项式$-2x^2+4xy$的次数是 2，故错误；

*D*. 一个多项式的次数是 6，则这个多项式中不一定只有一项的次数是 6，如$2a^6+a^3b^3-1$，故错误．

故选 *B*.

【考点】

本题主要考查了多项式的定义、项数、次数，准确分析判断是解题的关键．

5、C

【解析】

【分析】

根据单项式的定义，即可得到答案．

【详解】

解：$\frac{a^2+1}{3},-m,\frac{2}{a},-0.3,\frac{b}{5},\frac{3}{\pi},ax+b,\frac{1}{x-y},0,\frac{4}{3}\pi r^3$中，单项式有$-m,-0.3,\frac{b}{5},\frac{3}{\pi},0,\frac{4}{3}\pi r^3$，共 6 个，

故选 C.

【考点】

本题主要考查单项式的定义，掌握“数字和字母，字母和字母的乘积叫做单项式，单独的字母和数字也叫单项式”是解题的关键.

6、D

【解析】

【分析】

根据加减互逆运算关系得出这个多项式为：$\left(a^2+a-4\right)-\left(2a^2+3a-5\right)$，去括号，合并同类项可得该多项式为：$-a^2-2a+1$，再根据题意列出$\left(-a^2-2a+1\right)-\left(2a^2+3a-5\right)$进一步求解即可

【详解】

根据题意，这个多项式为：

$\left(a^2+a-4\right)-\left(2a^2+3a-5\right)$，

$=a^2+a-4-2a^2-3a+5$
$=-a^2-2a+1$，

则正确的结果为：

$\left(-a^2-2a+1\right)-\left(2a^2+3a-5\right)$，

$=-a^2-2a+1-2a^2-3a+5$ ，

$=-3a^2-5a+6$ ，

故选：D.

【考点】

本题主要考查多项式的运算，解题关键是掌握整式的加减运算顺序和运算法则及加减互逆的运算关系.

7、C

【解析】

【分析】

根据代数式的定义：用基本运算符号（基本运算包括加减乘除、乘方和开方）把数或表示数的字母连接起来的式子，由此可排除选项.

【详解】

解：A、是代数式，故不符合题意；

B、是代数式，故不符合题意；

C、中含有“=”，不是代数式，故符合题意；

D、是代数式，故不符合题意；

故选 C.

【考点】

本题主要考查代数式的定义，熟练掌握代数式的定义是解题的关键.

8、C

【解析】

【分析】

根据多项式的概念逐项分析即可.

【详解】

A. 多项式 $2a^2b+ab-1$ 的 次数是 3，故不正确；

B. 多项式 $2a^2b+ab-1$ 的二次项系数是 1，故不正确；

C. 多项式 $2a^2b+ab-1$ 的最高次项是 $2a^2b$ ，故正确；

D. 多项式 $2a^2b+ab-1$ 的常数项是-1，故不正确；

故选：C.

【考点】

以上内容仅为本文档的试下载部分，为可阅读页数的一半内容。如要下载或阅读全文，请访问：https://d.book118.com/268063026103007014