河北石家庄市42中物理八年级下册期末考试定向练习

考试时间：90分钟；命题人：教研组

考生注意：

1、本卷分第Ⅰ卷（选择题）和第Ⅱ卷（非选择题）两部分，满分100分，考试时间90分钟

2、答卷前，考生务必用0.5毫米黑色签字笔将自己的姓名、班级填写在试卷规定位置上

3、答案必须写在试卷各个题目指定区域内相应的位置，如需改动，先划掉原来的答案，然后再写上新的答案；不准使用涂改液、胶带纸、修正带，不按以上要求作答的答案无效。

第Ⅰ卷（选择题　20分）

一、单选题（10小题，每小题2分，共计20分）

1、根据实验事实和合理理的理论推理来揭示自然规律是科学研究的重要方法．如图所示,从斜面上同一高度释放一个小车,观察小车在水平面上的运动情况,并做出合理的推理,小明同学给出了如下的一些表述:

① 在木板表面的水平面上,小车运动路程较长

② 如果在没有摩擦的水乎面上,小车将做匀速直线运动

③ 如果在较光滑的水平面上,小车运动路程很长

④ 在铺有棉布的水平面上,小车运动路程较短

⑤ 在铺有毛巾的水平面上,小车运动路程很短

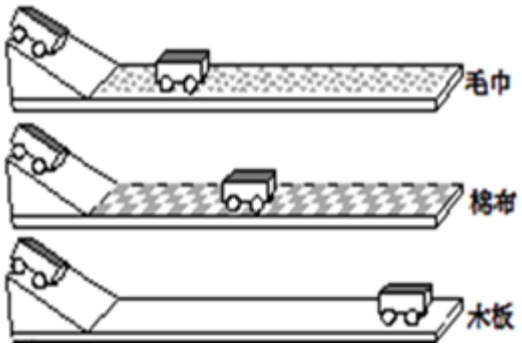

为揭示小车以一定的速度在水平面滑行的规律,下面的判断和排列次序正确的是_____

A．事实①④⑤,推论②③　　B．事实⑤④①,推论③②

C．事实①②3③,推论④⑤　　D．事实①③②,推论⑤④

2、图中的两个容器中盛有同种相同质量的液体，容器底部受到液体的压强分别为P_A、P_B，容器底部受到液体的压力分别为F_A、F_B,则（　　）

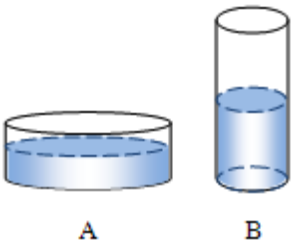

A．$P_A=P_B$　　B．$P_A>P_B$　　C．$F_A=F_B$　　D．$F_A>F_B$

3、如图所示，在水平放置的玻璃瓶内注入水其中有一气泡。瓶子由静止向右运动时，小气泡将要移动的方向是：（　　）

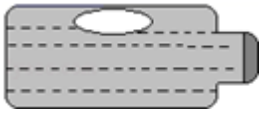

A．向右　　B．向左　　C．静止　　D．不能确定

4、小明用两个相同的滑轮组成不同的滑轮组，如图，在相同时间内分别将同一物体匀速提高到相同高度，滑轮组的机械效率分别为η_1、η_2，拉力F的功率P_1、P_2，忽略绳重及摩擦，下列关系正确的是（　　）

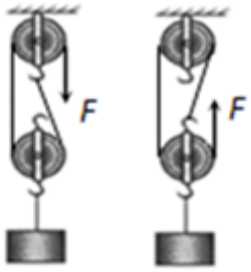

A．$P_1:P_2=2:3$　　$\eta_1:\eta_2=3:2$

B．$P_1:P_2=1:1$　　$\eta_1:\eta_2=1:1$

C．$P_1:P_2=3:2$　　$\eta_1:\eta_2=1:1$

D. $P_1:P_2=2:3$　　$\eta_1:\eta_2=1:1$

5、图甲是往浴缸中匀速注水直至标记处的示意图。在图右侧所示的图像中，能正确表示此过程中浴缸底部受到水的压强随时间变化的图像是（　　）



A. 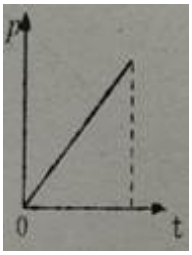

B. 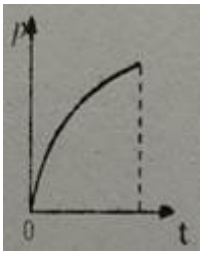

C. 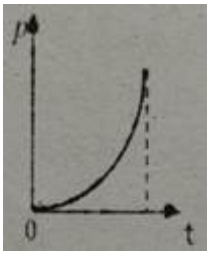

D. 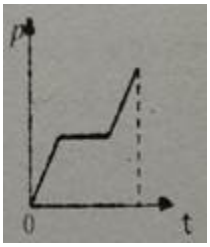

6、如图所示，手用力 F=10N 把重量为 5N 的一木块压在竖直墙面上静止，以下分析（　　）

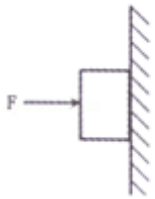

①手对木块的压力和木块对手的弹力是一对平衡力

②手对木块的压力和墙对木块的弹力是一对平衡力

③墙面对木块的摩擦力是 5N

④增大压力 F，木块受到的摩擦力随之增加

A．只有①正确　　B．只有④正确

C．只有②③正确　　D．只有③④正确

7、如图所示．放在水平地面上的物体 a 上放一物体 b，a 和 b 间用轻质弹相连，已知弹簧处于拉伸状态．整个装置处于静止状态，则关于 a、b 的受力分析错误的是（　　）

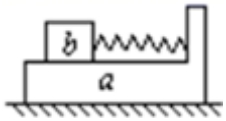

A．a 受到 b 对它向右的摩擦力　　B．a 受到地面对它向左的摩擦力

C．a 没有受到地面对它的摩擦力　　D．b 受到 a 对它向左的摩擦力

8、第 24 届冬季奥林匹克运动会 2022 年将在我国北京隆重举行。如图所示，冰壶运动就是其中一项比赛项目，下列关于冰壶运动的说法正确的是（　　）



A．冰壶在水平冰面上运动的过程中，所受重力没有做功

B．冰壶比赛中运动员穿的两只鞋的鞋底材质不同，蹬冰脚的鞋底是塑料制成的，而滑行脚的鞋底是橡胶制成的

C．冰壶离开运动员的手后继续运动过程中所受的推力和摩擦力是一对平衡力

D．冰壶离开运动员的手后仍能继续运动是因为受到惯性的作用

9、如图所示，当从管的一端吹气时，A 管中的液面会下降，B 管中的液面会上升。下列现象产生的原理与此实验原理相同的是（　　）

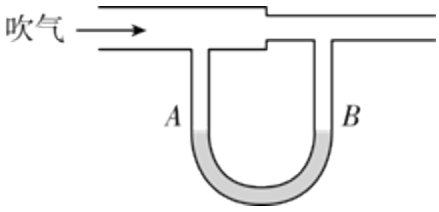

A．热气球升空

B．风沿窗外的墙面吹过，窗口悬挂的窗帘飘向窗外

C．用吸管喝酸奶

D．用抽水机把井中的水抽上来

10、如图所示，我省竞走运动员王钦在全国竞走大赛中获得冠军，同时也创造了中国运动员 7 年以来在此项目上的最好成绩，下列与之有关的描述正确的是（　　）



A．王钦在冲刺时相对于终点是静止的

B．王钦在前进中后脚蹬地时受到的摩擦力向前

C．王钦在竞走时脚对地面的压强比静止站立时小

D．王钦站在领奖台上时受到的重力和奖台对他的支持力是一对相互作用力

第Ⅱ卷（非选择题　80 分）

二、填空题（10 小题，每小题 3 分，共计 30 分）

1、两物体 A 和 B 的质量分别为 M 和 m（M＞m），用跨过定滑轮的轻绳相连，A 静止在水平地面上，如图所示，不计绳重和摩擦，地面对 A 的作用力大小为_____。

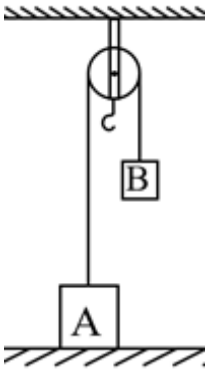

2、小明在学习了大气压强的知识后，自制了一个如图所示的气压计，瓶中装有适量的水，当他将自制气压计由楼下拿到楼上时发现细玻璃管中液面上升，说明大气压随高度的增加而_____（选填“增大”、“减小”或“不变”）。若他将这个瓶子装满水，戴着隔热手套捏瓶子，发现细玻璃管中液面也能上升，说明力能使物体发生_____。他还发现将装满水的瓶子放入热水中，细玻璃管中液面仍能上升，这又成了一支自制温度计，它的工作原理是_____，在此过程中瓶内水的密度将_____。（选填“变大”、“变小”或“不变”）



3、如图所示，用滑轮组提升重为 200N 的物体。动滑轮重为 40N ，不计滑轮与轴之间的摩擦及绳重。若在 5s 内将物体匀速提升 2m ，拉力的功率为_____ W 。滑轮组的机械效率为_____ % ；若匀速提升重为 100N 的物体，则这个滑轮组的机械效率将_____（选填增大/减小/不变）。



4、滑雪运动员在高速下滑时，常采用“下蹲”的姿势，这是为了_____

；假如教室里悬挂电灯的绳子突然断了，且同时受到的所有的力全部消失，电灯将_____。

5、杠杆在我国古代就有许多巧妙应用护城河上安装的吊桥就是一个杠杆，如图所示，它的支点是___点，动力作用点是_____点，阻力是_____。



6、如图甲中，将木板固定，水平匀速拉动木块，待测力计示数稳定后，测力计的示数为为 1.5N，则木块受到的滑动摩擦力大小为_____N；如图乙中，用 3.0N 力水平匀速拉动木板，则木块受到的滑动摩擦力大小为_____N。

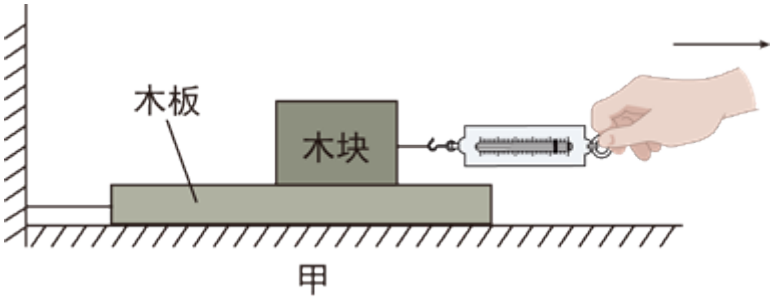

甲

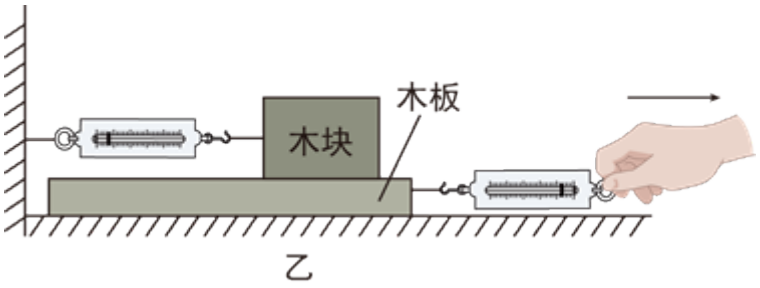

乙

7、如图甲，在一档中央电视台拍摄的节目中，实验员正在亲身实践：当汽车被水浸没，该如何逃生（此操作危险，切勿模仿）。工作人员将汽车缓缓浸入水中，坐在车里的实验员尝试推开车门逃生他们用传感器测出了车门受到的外部水的压力，如图乙。如果某个时刻，车门底部处在水下 10 厘米处，则车门底部受到的水的压强为_____帕。我们从图乙中看到，当车门受到水的压力为 9.19 千牛时，门打不开，而当车门受到的压力增大到 10.06 千牛时，车门反而打开了，猜测此时车里_____（选填“充满水”或“没有水”），解释此时可以打开车门的原因_____。

汽车被水浸没，该如何逃生？　　汽车被水浸没，该如何逃生？



甲　　乙

8、如图所示，在“探究压力的作用效果与哪些因素有关”的实验中，当把小桌甲倒放在海绵上，其上放一个物块乙，在它们静止时，物块乙的下表面和小桌甲的桌面均水平。已知小桌甲重 G_1，桌面面积为 S_1；物块乙重 G_2，下表面的面积为 S_2，则小桌对海绵的压强_____（用已知字母表示）。

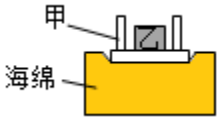

9、用天平测量某实心物块的质量，天平右盘中的砝码及游码的示数如图甲。把该物块放入盛有液体的烧杯中，物块恰好处于悬浮状态，如图乙所示。已知液体密度为 $\rho_{液}=1.2\mathrm{g/cm^3}$，则物块受到的浮力为_____N 。

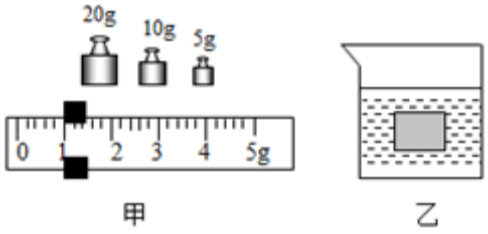

10、如图所示，轻质杠杆 AB 可以绕 O 点转动，OA∶OB＝1∶3，A 端用细线悬挂一质量为 7.9kg 的空心铁球。当铁球二分之一体积浸入水中，在 B 端施加 15N 竖直向下的拉力 F 时，杠杆恰好在水平位置平衡。则杠杆的 A 端受到的拉力为_____N，铁球空心部分的体积为_____$\mathrm{m^3}$（$\rho_{球}=7.9\times10^3\mathrm{kg/m^3}$）。

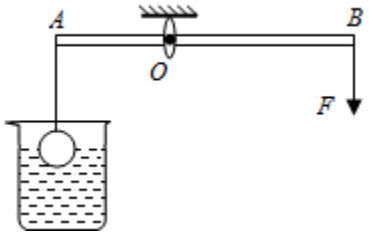

三、计算题（3 小题，每小题 10 分，共计 30 分）

1、如图，容器重 1N，底面积为 20cm^2，高为 25cm，容积为 600cm^3

，盛满水后置于水平桌面上，求水对容器底的压力和桌面所受的压强（g 取 10N/kg）

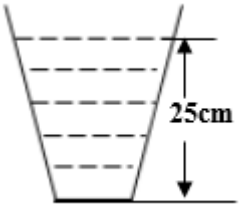

2、如图所示，放在水平地面上的两个实心长方体 A、B，已知 A 的质量为 6kg，A 与地面的接触面积为 0.04㎡；B 与 A 对地面的压强相等，B 与地面的接触面积为 0.02㎡。求：

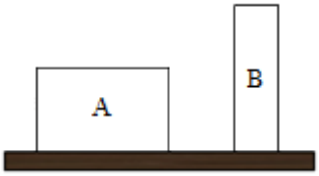

（1）A 对水平地面的压力和压强；

（2）B 的重力。

3、如图所示是小芳家新买的保温电热水壶，它的容积为 3L，壶身和底座的总质量是 1.5kg，底座与水平桌面的接触面积为 $100cm^2$ ，装 2kg 水后水深 25cm。求：



（1）水对电热水壶底部的压强是多少？

（2）桌面受到的压强是多少？

四、实验探究（2 小题，每小题 10 分，共计 20 分）

1、夏琛同学为了探究物体在水中不同深度所受浮力的变化情况，如图所示，将一挂在弹簧秤下的圆柱体金属块缓慢地浸入水中（水足够深），在圆柱体接触容器底之前，分别记下圆柱体下表面在水中的深度 h 和弹簧秤相应的示数 F．已知圆柱体高为 8cm，实验记录如下表：

以上内容仅为本文档的试下载部分，为可阅读页数的一半内容。如要下载或阅读全文，请访问：https://d.book118.com/315231222234012022