河北石家庄市42中物理八年级下册期末考试综合练习

考试时间：90分钟；命题人：教研组

考生注意：

1、本卷分第Ⅰ卷（选择题）和第Ⅱ卷（非选择题）两部分，满分100分，考试时间90分钟

2、答卷前，考生务必用0.5毫米黑色签字笔将自己的姓名、班级填写在试卷规定位置上

3、答案必须写在试卷各个题目指定区域内相应的位置，如需改动，先划掉原来的答案，然后再写上新的答案；不准使用涂改液、胶带纸、修正带，不按以上要求作答的答案无效。

第Ⅰ卷（选择题　20分）

一、单选题（10小题，每小题2分，共计20分）

1、如图所示，轻质杠杆OB可绕O点转动，　$OA=AB$　，用细线将重物悬挂在A点，在B点作用竖直向上的拉力F。则在保持杠杆水平静止的情况下（　　）

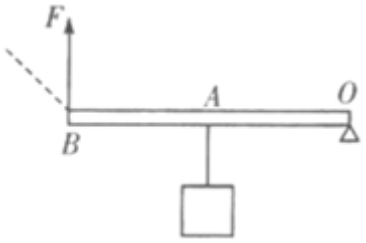

A．拉力F的大小为物重的2倍

B．当悬挂点左移时，F将减小

C．若F改为沿图中虚线方向施力，F将增大

D．若物重增加2N，F的大小也增加2N

2、一位体重为600N的同学在跳绳测试中，1min跳120次，每次腾空的最大高度平均为4cm，则他在跳绳过程中，克服重力做功的平均功率是（　　）

A．48W　　B．4.8×10^{3}W　　C．4.8×10^{4}W　　D．4.8×10^{5}W

3、

一个盛有足够多水的溢水杯放在水平桌面上，先往溢水杯中投入一个质量为 m 的小球 A，从溢水杯中溢出的水的质量为 20 g，再往溢水杯中投入一个质量为 2 m 的小球 B，从溢水杯中再次溢出的水的质量为 80 g，此时 A、B 小球受到的总浮力为 $F_{浮}$，水对溢水杯底部产生的压力比两小球投入溢水杯前增加了 $_{\Delta}F$ ，已知小球 A、B 的密度均小于水的密度，则（　　）

A．$F_{浮}$ = 1.2 N，$_{\Delta}F$ = 0.2 N　　B．$F_{浮}$ = 1.2 N，$_{\Delta}F$ = 1.2 N

C．$F_{浮}$ = 1.0 N，$_{\Delta}F$ = 1.0 N　　D．$F_{浮}$ = 1.0 N，$_{\Delta}F$ = 0 N

4、如图所示，置于地面上的物体甲，沿水平地面做直线运动时，受到大小不变、水平向左的拉力 F，受到地面的滑动摩擦力 f。若物体甲水平向右运动，它水平方向受到的合力大小为 10 牛，若物体甲水平向左运动，它水平方向受到的合力大小为 6 牛，则物体甲受到地面的滑动摩擦力 f 的大小（　　）



A．一定为 2 牛　　B．可能为 8 牛　　C．可能为 4 牛　　D．一定为 16 牛

5、如图所示，某人将物体沿水平方向匀速拉动了 5m，所用时间为 10s。物体和地面之间的摩擦力为 320N。滑轮组的机械效率为 80%，不计绳重和滑轮组的摩擦，下列说法中正确的是（　　）

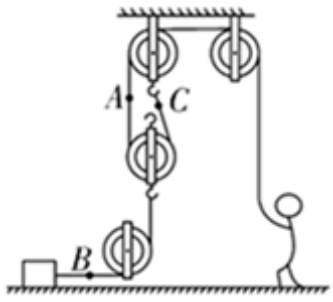

A．A，B，C 处绳子受力的大小关系是 $F_B > F_C > F_A$

B．绳子 A 处向上的速度为 0.5m/s

C．动滑轮重为 80N

D．拉力 F 做功的功率为 160W

6、起重机吊着重 2×10^4N 的物体，以 0.5m/s 的速度在空中匀速直线上升。若不计空气的阻力，则起重机钢丝绳对物体的拉力 F 的大小是（　　）

A．$F>2\times10^4N$　　B．$F<2\times10^4N$　　C．$F=2\times10^4N$　　D．$F\geqslant2\times10^4N$

7、关于重力、弹力和摩擦力，下列说法中正确的是（　　）

A．摩擦力的方向一定与物体运动的方向相反

B．物体受到的重力的方向总是竖直向下，有时还垂直于接触面

C．物体的重心一定在物体上

D．物体间如果有相互作用的弹力，就定存在摩擦力

8、如图所示，四个体积相同而材料不同的球甲、乙、丙、丁分别静止在水中的不同深度处。所受浮力分别为$F_{甲}$、$F_{乙}$、$F_{丙}$、$F_{丁}$。密度分别为$\rho_{甲}$、$\rho_{乙}$、$\rho_{丙}$、$\rho_{丁}$以下说法正确的是（　　）

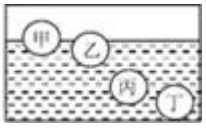

A．$F_{甲}<F_{乙}<F_{丙}<F_{丁}$，$\rho_{甲}<\rho_{乙}<\rho_{丙}<\rho_{丁}$

B．$F_{甲}>F_{乙}>F_{丙}=F_{丁}$，$\rho_{甲}=\rho_{乙}<\rho_{丙}<\rho_{丁}$

C．$F_{甲}<F_{乙}<F_{丙}<F_{丁}$，$\rho_{甲}>\rho_{乙}>\rho_{丙}>\rho_{丁}$

D．$F_{甲}<F_{乙}<F_{丙}=F_{丁}$，$\rho_{甲}<\rho_{乙}<\rho_{丙}<\rho_{丁}$

9、如图所示是我国新型万吨级055型导弹驱逐舰，其排水量可达12500t，该型驱逐舰在海上航行过程中，下列说法正确的是（　　）



A．发射导弹后，驱逐舰所受浮力变小

B．排水量指的是驱逐舰所受的重力

C．驱逐舰直线行驶时，运动状态不变

D．发射导弹后，驱逐舰会下沉一些

10、如图所示．放在水平地面上的物体 a 上放一物体 b，a 和 b 间用轻质弹相连，已知弹簧处于拉伸状态．整个装置处于静止状态，则关于 a、b 的受力分析错误的是（　　）

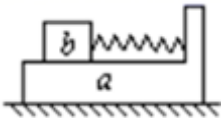

A．a 受到 b 对它向右的摩擦力　　B．a 受到地面对它向左的摩擦力

C．a 没有受到地面对它的摩擦力　　D．b 受到 a 对它向左的摩擦力

第Ⅱ卷（非选择题　80 分）

二、填空题（10 小题，每小题 3 分，共计 30 分）

1、重 5N 的电灯，由灯绳吊着在竖直方向静止不动，电灯受_____力和_____力作用，施力物体分别是_____和 _____，这两个力的关系是_____ 。

2、如图所示的弹簧测力计分度值为_____N，测力计的示数是_____N。

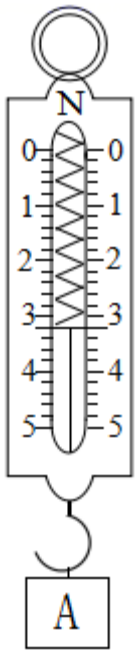

3、如图所示，一艘轮船在甲海洋中航行，水面在轮船上的 A 位置。当该轮船驶入乙海洋中时，水面在轮船上的 B 位置。设轮船的总质量不变，轮船在甲、乙两海洋中所受浮力分别为 F_1 和 F_2，甲、乙两海洋的海水密度分别为 ρ_1 和 ρ_2。则 F_1_____F_2，ρ_1_____ρ_2。（都选填“＞”、“＜”或“＝”）



4、图是华为最新发布的 5G 手机－华为Mate30pro，该手机使用我国自主研发的海思麒麟 990 芯片，该芯片采用 7nm 工艺制程，7nm=_____m；它的双 4000 万像素徕卡四摄镜头相当于一个_____透镜(填“凸”或“凹”)。



5、如图,是三种类型剪刀的示意图,请你为铁匠师傅选择一把剪铁皮的剪刀,你会选择_____(选填“A”、“B” 或“C”)剪刀，这样选择的目的是为了省_____。

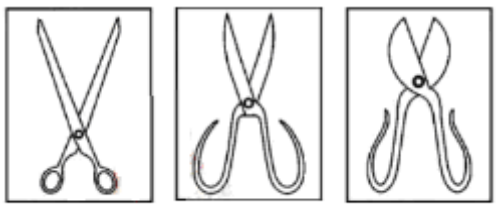

6、如图甲所示，两个完全相同的木块 A 和 B 叠放在水平桌面上，每个木块的质量 5 kg，在 16 N 的水平拉力 F_1 作用下，A、B 一起向右做匀速直线运动，此时 A 对 B 的支持力大小为_____N。如图乙所示，若将 A、B 木块紧靠着放在水平桌面上，用水平力 F_2 推 A 使它们一起也向右做匀速直线运动，则 F_2 是_____N。

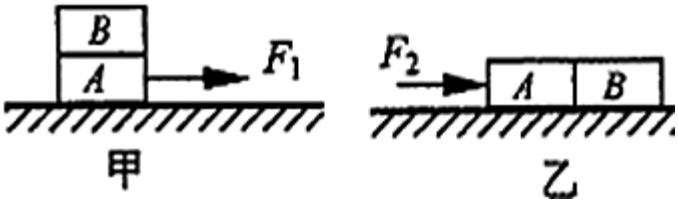

甲　　乙

7、如图所示的照相机，它的镜头是凸透镜，拍摄时，底片上成的是_____（填成像性质）实像，如果将照相机镜头靠近被拍摄的物体时，像的大小将_____，像距将_____（后两空选填“变大”“变小”或“不变”）。



8、“蛟龙号”完成第 20 次下潜任务后，逐渐浮出水面，当排开水的质量为 2000t 时，受到水的浮力为_____N；在“蛟龙号”浮出水面前的过程中，浮力将_____，压强将_____(选填“变大”、“变小”或“不变”)。

9、小明是个科幻迷，他创作了一篇科幻题材的短篇小说——《我是超人》。小说中有这样的故事情节：超人小明上天入海无所不能，有次为营救小伙伴，情急之下让地球骤然停止自转，结果小伙伴却被甩向了天空。他这样幻想的科学依据是_____。地球骤然停止自转，你认为可能发生的现象还有_____（写出一条即可）

10、两物体 A 和 B 的质量分别为 M 和 m（M＞m），用跨过定滑轮的轻绳相连，A 静止在水平地面上，如图所示，不计绳重和摩擦，地面对 A 的作用力大小为_____。

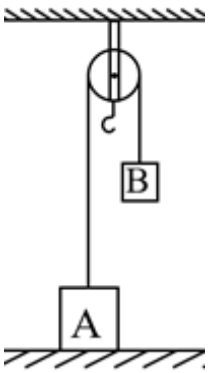

三、计算题（3 小题，每小题 10 分，共计 30 分）

1、我国首款大型水陆两栖飞机如图所示，该飞机蓄满水后总质量 60t。检测飞机牲能先后进行了模拟灭火和水面滑行测试。在灭火测试中：飞机盘悬在火场上方 200m 处，将所蓄水分次投下，每次投水 150kg，用时 10s 到达地面。在水面滑行测试中。飞机在水平面上以 10m/s 的速度沿直线匀速滑行了 60s，若飞机发动机牵引力的总功率始终保持 2.5×10^{6}W。（$\rho_{水}=1.0\times10^{3}$kg/m³，g=10N/kg）求：



（1）飞机蓄满水静止在水面上时排开水的体积；

（2）每次投下的水在下落过程中重力做功的平均功率；

（3）飞机在水面沿直线匀速滑行时，飞机所受的牵引力。

2、如图所示，某同学将重 1.6N，底面积 10cm² 为的锥形瓶放在水平桌面中央做实验，锥形瓶内有体积为 100ml，深为 15cm 的酒精（酒精密度为 $\rho_{酒精}=0.8\times10^{3}$kg/m³，g 取 10N/kg）。求：



（1）酒精对锥形瓶底产生的压力和压强；

（2）锥形瓶对桌面产生的压强。

3、 2013 年 6 月 1 日，由武汉造船厂制造的"中国海监 5001"在江苏南通交付使用，它是当时我国最先进的海洋公务执法船之一.其部分技术参数如下表（计算时取 g=10 N/kg，海水密度 $\rho_{海水}=1.0\times10^{3}$kg/m³）.求：

船名	中国海监 5001

型号	船长 88 mX 型宽 12 mX 型深 5.6 m
满载排水量	1 500 t
巡航速度	30 km/h

（1）海监船连续巡航 5 h，通过的路程是多少?

（2）海监船在某海域巡航时，船底在海水中的深度达到 3.0m，求船底受到的海水压强是多少?

（3）海监船满载时受到的浮力是多少?

四、实验探究（2 小题，每小题 10 分，共计 20 分）

1、在探究凸透镜成像规律时，小芳用红色的发光二极管按“F″字样镶嵌在白色不透明方格板上代替烛焰作为光源，实验使用的凸透镜焦距为 10cm，实验装置如图所示。

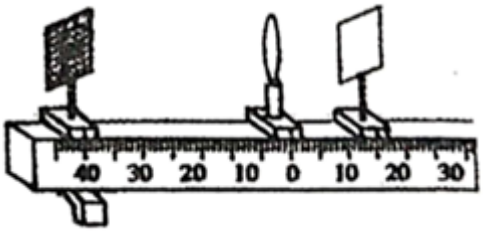

（1）实验时，她先调节光源、凸透镜和光屏，使它们的中心大致在_____；

（2）凸透镜固定在光具座零刻度线上，她将光源移至 15cm 处，移动光屏，得到_____（倒立，正立）_____（放大， 缩小）的_____像;

（3）将光源“F″放在 30cm 处，其大小如图所示，凸透镜固定在光具座零刻度线上.调整后，在光屏上得到清晰像，再用遮光板将凸透镜的上半部分遮住，在光屏上所成像可能是下列四幅图中的____。



A.  B.  C.  D. 

2、在探究“浮力的大小跟哪些因素有关”的实验中弹簧测力计的示数如图所示。请回答以下问题：（ $\rho_{水}$ =1.0×10³kg/m³）

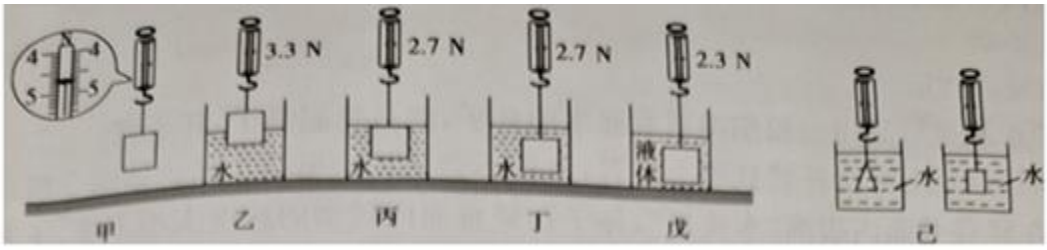

（1）如图甲所示，弹簧测力计的示数为_____N；

（2）金属块浸没在水中时，受到的浮力为_____N；

（3）分析如图_____两图实验数据可得：物体所受的浮力大小与排开液体的体积有关；分析如图丁、戊两图实验数据可知，浮力大小跟_____有关；

（4）综合分析实验数据可得出：金属块的体积为_____cm³；金属块的密度为_____kg/m³；

（5）为了研究“浮力的大小可能与物体的形状有关”，小明用橡皮泥分别捏成圆锥体和圆柱体，进行如图己所示的实验，由此小明得出的结论是：浮力的大小与物体的形状有关。你认为这结论_____(选填“可靠”或“不可靠”)，理由是_____。

-参考答案-

一、单选题

1、【答案】C

【解析】【解答】A．由杠杆的平衡条件可知，拉力 F 的大小为 $F=\frac{G\times l_{OA}}{l_{OB}}=\frac{1}{2}G$

A 不符合题意；

B．当悬挂点左移时，阻力臂增大，阻力不变，动力臂不变，则动力变大，即 F 将增大，B 不符合题意；

C．若 F 改为沿图中虚线方向施力，动力臂减小，阻力和阻力臂不变，则动力 F 变大，C 符合题意；

D．若物重增加 2N，因为动力臂大于阻力臂，则动力 F 的大小增加量小于 2N，D 不符合题意。

故答案为：C。

【分析】杠杆平衡时，如果阻力和阻力臂固定，根据杠杆的平衡条件可得，如果动力臂越大，那么动力就越小，如果动力臂越小，动力就越大。

2、【答案】A

【解析】【解答】每次跳绳克服重力做的功为 $W=Gh=600\mathrm{N}\times4\times10^{-2}\mathrm{m}=24\mathrm{J}$

每次跳绳所用的时间为 $t=\dfrac{60\mathrm{s}}{120}=0.5\mathrm{s}$

克服重力做功的功率为 $P=\dfrac{W}{t}=\dfrac{24\mathrm{J}}{0.5\mathrm{s}}=48\mathrm{W}$

故答案为：A。

【分析】求解外力做功，利用外力大小乘以位移在力的方向上移动的距离即可，即 W=Fs；利用外力做的功除以做功需要的时间即为功率。

3、【答案】A

【解析】【解答】因为小球 A、B 的密度均小于水的密度，投入水中都漂浮，排出水的质量应当等于自身的质量。因为小球 A 的质量为 m、 B 的质量为 2 m，如果溢水杯已经装满，B 球排出水的质量应该是 A 球的二倍。那么 B 排出 80g 水，说明 B 的质量为 80g；A 的质量为 40g，A 应当排出 40g 水，但 A 球只排出了 20g 水。这说明溢水杯没有装满，A 球放入时有 20g 水没有排出溢水杯。A、B 小球受到的总浮力为 $F_{浮}$ 为

$$F_{浮}=G_{\mathrm{A}}+G_{\mathrm{B}}=\left(m_{\mathrm{A}}+m_{\mathrm{B}}\right)g=\left(0.04\mathrm{kg}+0.08\mathrm{kg}\right)\times10\mathrm{N/kg}=1.2\mathrm{N}$$

水对溢水杯底部产生的压力比两小球投入溢水杯前增加了

$$\Delta F=G_{未排出}=m_{未排出}g=0.02\mathrm{kg}\times10\mathrm{N/kg}=0.2\mathrm{N}$$

故答案为：A

【分析】漂浮的物体受到的浮力等于物体的重力，根据物体的间的质量关系，计算物体的总质量和总重力；利用未排出的液体质量计算重力，也是容器底压力的。

以上内容仅为本文档的试下载部分，为可阅读页数的一半内容。如要下载或阅读全文，请访问：https://d.book118.com/318102102105007014