重庆市实验中学数学七年级上册整式的加减专项测评

考试时间：90 分钟；命题人：教研组

考生注意：

1、本卷分第 I 卷（选择题）和第 II 卷（非选择题）两部分，满分 100 分，考试时间 90 分钟

2、答卷前，考生务必用 0.5 毫米黑色签字笔将自己的姓名、班级填写在试卷规定位置上

3、答案必须写在试卷各个题目指定区域内相应的位置，如需改动，先划掉原来的答案，然后再写上新的答案；不准使用涂改液、胶带纸、修正带，不按以上要求作答的答案无效。

第 I 卷（选择题　20 分）

一、单选题（10 小题，每小题 2 分，共计 20 分）

1、下列代数式中是二次三项式的是（　　）

A．$2x+x^2-x^3$　　B．$x^2+2xy+y^2$　　C．$2\left(m^2-mn\right)$　　D．a^3+2a^2-1

2、下列运算结果正确的是（　　）

A．$2a+3b=5ab$　　B．$7x^2y-4xy^2=3x^2y$

C．$a-(3b-2)=a-3b-2$　　D．$-2(a+b)=-2a-2b$

3、已知 $2a+3b=4$，则整式 $-4a-6b+1$ 的值是（　　）

A．5　　B．3　　C．－7　　D．－10

4、已知 $2x^{n+1}y^3$ 与 $\frac{1}{3}x^4y^3$ 是同类项，则 n 的值是（　　）

A．2　　B．3　　C．4　　D．5

5、下列各组中的两项，不是同类项的是（　　）

A．$-x^2y$ 和 $2x^2y$　　B．2^3 和 3^2　　C．$-m^3n^2$ 与 $\frac{1}{2}m^2n^3$　　D．$2\pi R$ 与 π^2R

6、给定一列按规律排列的数：$1,\frac{4}{3},\frac{3}{2},\frac{8}{5},\cdots$，则这列数的第 9 个数是（　　）

A．$\frac{9}{10}$　　B．$\frac{9}{5}$　　C．$\frac{16}{9}$　　D．$\frac{20}{11}$

7、用a表示的数一定是（　　）

A．正数　　B．正数或负数　　C．正整数　　D．以上全不对

8、已知 a、b、c 在数轴上的位置如图，下列说法：①$abc>0$；②$c+a>0$；③$c-b<0$；④$\frac{c}{b}>0$．正确的有（　　）



A．1 个　　B．2 个　　C．3 个　　D．4 个

9、下列各式中，与$2a^2b$为同类项的是（　　）

A．$-2a^2b$　　B．$-2ab$　　C．$2ab^2$　　D．$2a^2$

10、已知mx^2y^{m+1}是关于x，y的单项式，且这个单项式的次数为 5，则该单项式是（　　）

A．$5x^2y^3$　　B．$-5x^2y^3$　　C．$2x^2y^3$　　D．$-2x^2y^3$

第Ⅱ卷（非选择题　80 分）

二、填空题（10 小题，每小题 3 分，共计 30 分）

1、按一定规律排列的单项式：$-a^2$，$4a^3$，$-9a^4$，$16a^5$，$-25a^6$，…，第n个单项式是_____.

2、$\left(2x^2-\frac{2}{3}x+1\right)-$_____$=3x^2-2x+5$.

3、关于 x 的多项式$(a+2)x^3-3x^b+5$的次数是 2，那么$a=$_____，$b=$_____.

4、某数学老师在课外活动中做了一个有趣的游戏：首先发给 A、B、C 三个同学相同数量的扑克牌(假定发到每个同学手中的扑克牌数量足够多)，然后依次完成以下三个步骤：

第一步，A 同学拿出二张扑克牌给 B 同学；

第二步，C 同学拿出三张扑克牌给 B 同学；

第三步，A 同学手中此时有多少张扑克牌，B 同学就拿出多少张扑克牌给 A 同学.

请你确定，最终 B 同学手中剩余的扑克牌的张数为_____.

5、如图是一组有规律的图案，它们由边长相同的正方形和正八边形组成，其中正方形涂有阴影，依此规律，第n个图案中有_____个涂有阴影的正方形.（用含n的代数式表示）

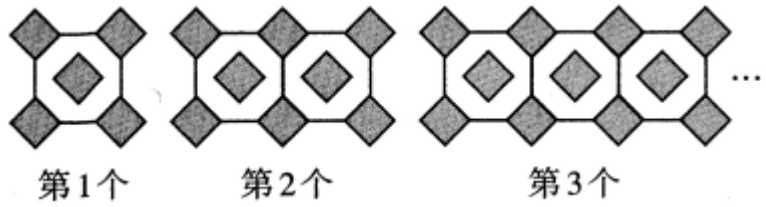

6、观察下列一系列数：

按照这种规律排下去，那么第 8 行从左边数第 14 个数是_____.

```
                -1
            2   -3    4
        -5   6   -7    8    -9
10  -11  12  -13   14   -15   16
•••
```

7、长春市净月潭国家森林公园门票的价格为成人票每张 30 元，儿童票每张 15 元. 若购买m张成人票和n张儿童票，则共需花费_____元.

8、若 $7a^xb^2$ 与 $-a^3b^y$ 的和为单项式，则 y^x＝_____.

9、一个多项式减去 $3x$ 等于 $5x^2-3x-5$，则这个多项式为_____.

10、某厢式货车从物流中心出发，向东行驶 2 小时，速度为 a 千米/小时，卸下一部分货后，掉头以同样的速度向西行驶 5 小时后，把其余货物卸掉，接着向东再行驶 1 小时又装满了货，问此时货车距离物流中心_____千米.

三、解答题（5 小题，每小题 10 分，共计 50 分）

1、观察下列单项式：$-x$，$3x^2$，$-5x^3$，$7x^4$，…$-37x^{19}$，$39x^{20}$，…，写出第 n 个单项式，为了解这个问题，现提供下面的解题思路：

（1）这组单项式的系数的规律是什么？

（2）这组单项式的次数的规律是什么？

（3）根据上面的归纳，你可以猜想出第 n 个单项式是什么？

（4）请你根据猜想，写出第 2018 个，第 2019 个单项式.

2、如图所示，在数轴上点 A，B，C 表示得数为 - 2，0，6，点 A 与点 B 之间的距离表示为 AB，点 B 与点 C 之间的距离表示为 BC，点 A 与点 C 之间的距离表示为 AC.



(1)求 AB、AC 的长；

(2)点 A，B，C 开始在数轴上运动，若点 A 以每秒 2 个单位长度的速度向左运动，同时，点 B 和点 C 分别以每秒 3 个单位长度和 4 个单位长度的速度向右运动. 请问：BC - AB 的值是否随着运动时间 t 的变化而变化？若不变，请求其值；若变化，请说明理由并判断是否有最值，若有求其最值.

3、请把多项式 $x^4-y^4+3x^5y-2xy^2-5x^2y^5$ 重新排列.

（1）按 x 降幂排列：

（2）按 y 降幂排列.

4、观察算式：

$1\times3+1=4=2^2$； $2\times4+1=9=3^2$； $3\times5+1=16=4^2$； $4\times6+1=25=5^2$，…

（1）请根据你发现的规律填空：$6\times8+1=$（_____）^{2}；

（2）用含 n 的等式表示上面的规律：_____；（n 为正整数）

（3）利用找到的规律解决下面的问题：

计算：$\left(1+\frac{1}{1\times3}\right)\times\left(1+\frac{1}{2\times4}\right)\times\left(1+\frac{1}{3\times5}\right)\times\cdots\times\left(1+\frac{1}{98\times100}\right)$.

5、如图，有一个零件，由三部分组成，底座是一个长方体，底面正方形边长为 $2R$cm，高为 3cm，中间部分是底面半径为 Rcm，高为 3cm 的圆柱，上部是底面半径为 $r$cm，高为 2cm 的圆柱，计算它的体积.

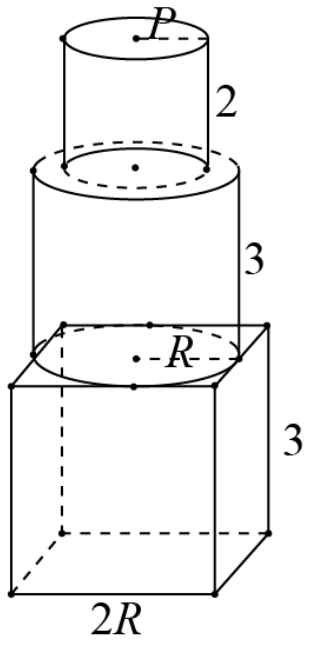

-参考答案-

一、单选题

1、B

【解析】

【分析】

根据多项式的次数和项数的概念，逐一判断即可.

【详解】

解：A. $2x+x^2-x^3$是三次三项式，不符合题意，

B. $x^2+2xy+y^2$是二次三项式，符合题意，

C. $2\left(m^2-mn\right)$是二次二项式，不符合题意，

D. a^3+2a^2-1是三次三项式，不符合题意，

故选 B.

【考点】

本题主要考查多项式的次数和项数，掌握多项式的次数是多项式的最高次项的次数，是解题的关键.

2、D

【解析】

【分析】

根据合并同类项运算法则、去括号法则依次计算，从而作出判断.

【详解】

解：A. $2a$和 $3b$不是同类项不能合并，故此选项错误；

B. $7x^2y$和$4xy^2$不是同类项不能合并，故此选项错误；

C. $a-（3b-2）=a-3b+2$，故此选项错误；

D. $-2（a+b）=-2a-2b$，故此选项正确；

故选 D.

【考点】

本题考查整式的加减运算，掌握合并同类项（系数相加，字母及其指数不变）的运算法则、去括号法则是解题关键.

3、C

【解析】

【分析】

整式$-4a-6b+1$可变形为$-2(2a+3b)+1$，然后把$2a+3b=4$代入变形后的算式，求出算式的值是多少即可.

【详解】

解：$\because 2a+3b=4$，$-4a-6b+1=-2(2a+3b)+1$

$\therefore -4a-6b+1=-2\times 4+1=-7$，

故选：C.

【考点】

此题主要考查了代数式求值的方法，要熟练掌握，解答此题的关键是要明确：求代数式的值可以直接代入、计算．如果给出的代数式可以化简，要先化简再求值．题型简单总结以下三种：①已知条件不化简，所给代数式化简；②已知条件化简，所给代数式不化简；③已知条件和所给代数式都要化简．

4、B

【解析】

【分析】

根据同类项的概念可得关于 n 的一元一次方程，求解方程即可得到 n 的值.

【详解】

解：∵ $2x^{n+1}y^3$ 与 $\frac{1}{3}x^4y^3$ 是同类项，

∴n+1=4，

解得，n=3，

故选：B.

【考点】

本题考查了同类项，解决本题的关键是判断两个项是不是同类项，只要两看，即一看所含有的字母是否相同，二看相同字母的指数是否相同.

5、C

【解析】

【分析】

根据同类项的定义（所含字母相同，相同字母的指数相同）即可作出判断.

【详解】

解：A、$-x^2y$ 和 $2x^2y$ 所含字母相同，相同字母的指数相同，是同类项；

B、2^3和3^2，都是整数，是同类项；

C、$-m^3n^2$与$\frac{1}{2}m^2n^3$，所含字母相同，相同字母的指数不同，不是同类项；

D、$2\pi R$与$\pi^2 R$，所含字母相同，相同字母的指数相同，是同类项；

故选 C.

【考点】

本题考查了同类项定义，同类项定义中的两个“相同”：（1）所含字母相同；（2）相同字母的指数相同，是易混点，因此成了中考的常考点.

6、B

【解析】

【分析】

把数列$1,\frac{4}{3},\frac{3}{2},\frac{8}{5},\cdots$变$\frac{2}{2},\frac{4}{3},\frac{6}{4},\frac{8}{5},\cdots$，分别观察分子和分母的规律即可解决问题.

【详解】

解：把数列$1,\frac{4}{3},\frac{3}{2},\frac{8}{5},\cdots$变$\frac{2}{2},\frac{4}{3},\frac{6}{4},\frac{8}{5},\cdots$，

可知分子是从 2 开始的连续偶数，

分母是从 2 开始的连续自然数，

则第 n 个数为$\frac{2n}{n+1}$所以这列数的第 9 个数是$\frac{18}{10}=\frac{9}{5}$，

故选：B.

【考点】

本题考查了数字类规律探索，将原式整理为$\frac{2}{2},\frac{4}{3},\frac{6}{4},\frac{8}{5},\cdots$，分别得出分子分母的规律是解本题的关键.

7、D

【解析】

【分析】

字母可以表示任何数，A、B、C 三个选项说法都不全面.

【详解】

字母可以表示任何数，即 a 可以表示正数、0 或负数，

故选 D.

【考点】

本题考查了代数式，需要注意字母可以表示任意数，既可以是正数，也可以是负数和 0，带有负号的数不一定就是负数.

8、C

【解析】

【分析】

根据 a、b、c 在数轴上的位置可得出 $a>0$、$c<b<0$，$|b|<a<|c|$，对各选项一一判断即可.

【详解】

解：∵a、b、c 在数轴上的位置如图，

∴$a>0$，$c<b<0$，$|b|<a<|c|$，

∵a、b、c 中两负一正，故①$abc>0$ 正确；

∵$a<|c|$，$c<0$，

∴$a+c<0$

故②$c+a>0$ 不正确；

∵$c<b$，$|b|<a<|c|$

∴$c-b<0$，

故③$c-b<0$ 正确；

∵$c<b<0$，

∴$\frac{c}{b}$根据有理数的除法法则，两数相除同号得正异号得负，

∴$\frac{c}{b}>0$，

故④$\frac{c}{b}>0$ 正确；

正确的个数有 3 个.

故选择 C.

【考点】

本题考查利用数轴上表示数判定代数式的符号问题，掌握有理数的加减乘除的符号的确定方法，数形结合思想的利用，关键从数轴确定 a、b、c 的大小与绝对值的大小.

9、A

【解析】

【分析】

含有相同字母，并且相同字母的指数相同的单项式为同类项，据此分析即可

【详解】

与$2a^2b$是同类项的特点为含有字母a,b，且对应a的指数为 2，b 的指数为 1,

只有 A 选项符合；

故选 A.

【考点】

本题考查了同类项的概念，掌握同类项的概念是解题的关键.

10、C

【解析】

以上内容仅为本文档的试下载部分，为可阅读页数的一半内容。如要下载或阅读全文，请访问：https://d.book118.com/326123125151011020