2024年沪科版选修4地理上册阶段测试试卷760

考试试卷

考试范围：全部知识点；考试时间：120分钟

学校：_____ 姓名：_____ 班级：_____ 考号：_____

总分栏

题号	一	二	三	总分
得分				

评卷人	得 分

一、选择题(共9题，共18分)

1、

剪纸是我国民间传统艺术，入选了联合国教科文组织人类非物质文化遗产代表作名录。下图是一帧以当地民居为主题的剪纸作品。

据此；回答下题。

剪纸所反映的区域特征及该景观可能分布的地区是

A. 地势低平，降水集中-川渝地区

B. 地势起伏，气候湿热-湘黔地区

C. 山高谷深，河网密布-青藏地区

D. 黄土广布，沟壑纵横-甘陕地区

2、下列关于聚落保护的说法，不正确的是( )

A. 如不对传统聚落加以保护，将导致无法挽回的损失

B. 应尽力保护那些具有传统特色的、民族特色的聚落

C. 传统聚落是历史时期人类活动与自然环境相互作用的结果

D. 对于那些较为破旧的聚落，应当拆除以利于美化环境

3、不同类型的聚落呈现出的景观有较大差异，其主要原因是( )

A. 社会制度的差异
B. 建筑风格的差异
C. 风俗习惯的差异
D. 劳动生产方式的差异

4、下图是我国两地区乡村民居景观图；造成两地民居差异最主要的因素是(　　)

A. 降水
B. 光照
C. 地形
D. 水源

5、目前广东呈现出发达的珠江三角洲地区和相对落后的粤北山区经济发展格局。珠江三角洲地区年末户籍总人口为 2451 万，其中农业人口 678 万。按户籍人口计算，此地区城市化水平是(保留整数)(　　)
A. 72%
B. 73%
C. 27%
D. 28%

6、浦东开发开放所取得的成就为世界瞩目；改革开放积极促进了浦东地区（ ）
①城市空间结构的变化②城市用地不断扩大③第二产业比重大幅增长④第一产业比重大幅增长
A. ①②
B. ②③
C. ③④
D. ①④

7、应用地理信息系统进行城市地铁规划时；优先考虑的图是（ ）
①城市地下排水管分布图　②城市道路分布图。
③城市商业网点分布图　④城市行政区划图
A. ①②
B. ③④
C. ②③
D. ①④

8、单位土地面积上投放的劳动力和资金多；产出多，则土地利用的集约度高，为集约利用；反之，土地利用集约度低，为粗放利用。下图是 2000 年和 2009 年吉林省土地集约利用程度区域差异图。读图，吉林省土地集约利用程度的变化特点是（ ）

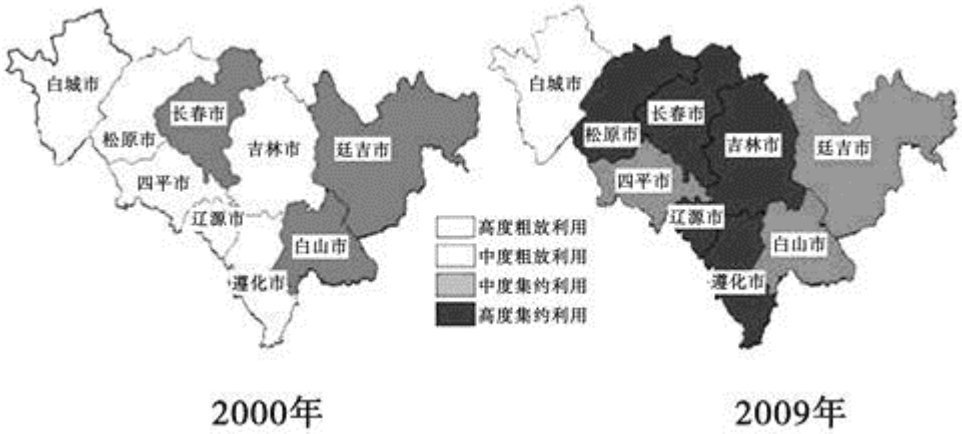

A. 2000 年全省土地利用集约度自西向东逐渐升高
B. 2000 年以来全省土地利用集约度的地区差异没有变化
C. 2009 年全省土地利用集约度较 2000 年总体提升
D. 长春市土地利用集约水平提高幅度最大

9、据《中国文化报》“现代企业流水线的激越高昂与昆曲的柔媚清丽，工业园的开阔疏朗与网师园的精致古雅，白发苏州以它闲看庭前花开花落的雍容气度，将它们统统接纳在怀抱之中”上述材料最能体现苏州保护城乡特色景观和传统文化的哪项措施(　　)
A. 以严格的法律法规作为保护的依据
B. 新旧城协调、共同发展
C. 注意保存非物质文化遗产
D. 分类、分区保护

评卷人	得 分

二、填空题(共 9 题，共 18 分)

10、分析我国某 X 城市郊外四种农作物生产；运费与市场价格资料；完成下列各题。
。

项目。作物	花卉。	蔬菜。	稻米。	甘薯。
	30	20	12	6

市场价格/(元/kg)				
生产成本/(元/kg)	15	12	6	2
运费/(元/kg.km)	3.0	2.0	0.5	0.2
单位面积产量/kg	20	15	4	10

（1）该 X 城市可能位于我国_____气候类型区。

（2）四种农作物中；单位面积产量利润最小的是_____。

（3）该地区最适宜经营哪两种作物？_____。

（4）该城市郊外农业土地利用离城市的最远边界是多少 km？_____。

11、居住小区是指达到一定的_____和_____，基础设施配套比较齐全的_____。在居住小区内设有基本的_____服务设施，居民不必穿越城市主要交通线即可满足基本的生活需求。

12、完善的城乡公共服务设施的重要意义：_____、为社会提供丰富的文化产品和优质的文化服务；弘扬民族优秀文化；推动文化交融等。

13、人居环境即人类的居住环境，包括_____要素和_____要素两部分。

14、上海的南京路是上海市的商业中心，它的布局是以_____原则。

15、分析我国某 X 城市郊外四种农作物生产；运费与市场价格资料；完成下列各题。

。

项目。作物	花卉。	蔬菜。	稻米。	甘薯。
市场价格/(元/kg)	30	20	12	6
	15	12	6	2

生产成本/(元/kg)				
运费/(元/kg·km)	3.0	2.0	0.5	0.2
单位面积产量/kg	20	15	4	10

（1）该 X 城市可能位于我国_____气候类型区。
（2）四种农作物中；单位面积产量利润最小的是_____。
（3）该地区最适宜经营哪两种作物？_____。
（4）该城市郊外农业土地利用离城市的最远边界是多少 km？_____。

16、上海的南京路是上海市的商业中心，它的布局是以_____原则。

17、居住小区是指达到一定的_____和_____，基础设施配套比较齐全的_____。在居住小区内设有基本的_____服务设施，居民不必穿越城市主要交通线即可满足基本的生活需求。

18、完善的城乡公共服务设施的重要意义：_____、为社会提供丰富的文化产品和优质的文化服务；弘扬民族优秀文化；推动文化交融等。

评卷人	得 分

三、综合题(共 8 题，共 16 分)

19、阅读材料；回答以下各题。

材料 1：

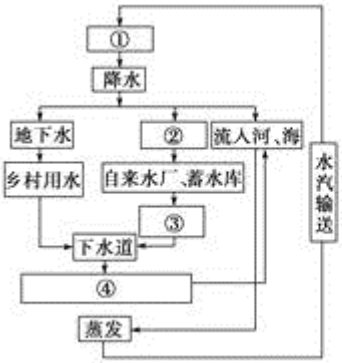

材料 2：城市的发展除了保证有正常能源；水源等供应外；还要有特色。在北京，一个马来西亚建筑师去看北京的城市建筑，转了一圈一时难以找到传统建筑。他惊讶于北京的现代建筑如此之多，但很多都是从国外复制过来的二三流设计作品。他惋惜那么多北京的四合院没有了，北京的传统建筑越来越少，已变得千城一面，万楼一样了。

材料 3：四川成都的芙蓉古城被公认为继承传统建筑文化；突出地域文化特点的全国著名房地产项目。它集川西民居之灵气、巴蜀文化之精华、古老成都之淳朴、江南园林之情趣于一身；是目前国内屈指可数的融居住、旅游、休闲、度假、商务为一体的超大规模园林和传统民居风格建筑。在此居住的人们不仅有舒适的住宅，而且享受到浓郁的川西建筑文化。

（1）材料 1 图中序号表示的含义分别是：①_____；②_____；③_____；④_____。

（2）流经城市河流的径流水流平稳；利于航运，但极易受城市工业及生活用水的污染，请为经过城市的河流的治理与利用提供合理建议。

（3）在现代城市建设规划和设计中；要使一个城市有特色，应做到：

一是_____；即及时有效地保护现有的地域建筑特色。

二是_____；即将传统的；民族的建筑特征融入现代建筑设计中，传承优秀的传统建筑文化艺术。

三是_____，即让传统的建筑艺术精华在现代城市建筑中得以传承、延续，并在原有的基础上进行新颖的设计，使民族文化在现代社会中得以延续和发扬光大。

20、（城乡规划）阅读图文资料；回答下列问题。

如图为“广东省中山市坦洲镇总体规划图”，该镇荣获全国建设宜居示范小镇。该镇还拥有三圣宫、龙溪陈公祠、可林陈家祠、水仙宫、永济桥和龙塘记事碑等不可移动文物。

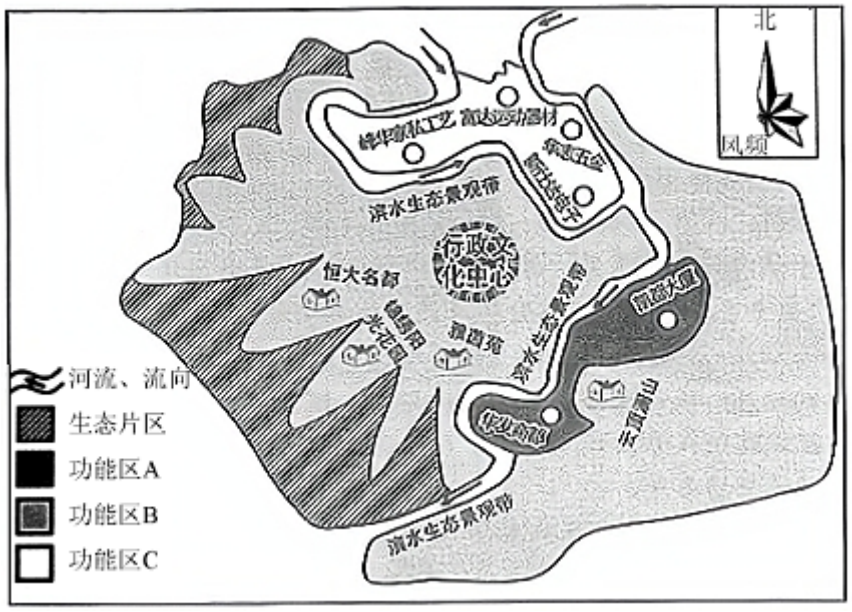

（1）该镇拟规划的功能区分别是 A _____ ，B _____ ，C 功能区主导产业的显著特点是 _____ 。

（2）该镇功能区规划的合理性主要体现 _____ ，存在的不足有 _____ 。
（3）该镇在城市规划建设中还可以采取 _____ 等措施彰显当地历史文化特色。

21、（城乡规划）下图为“某城市总体规划图”。读图回答问题。

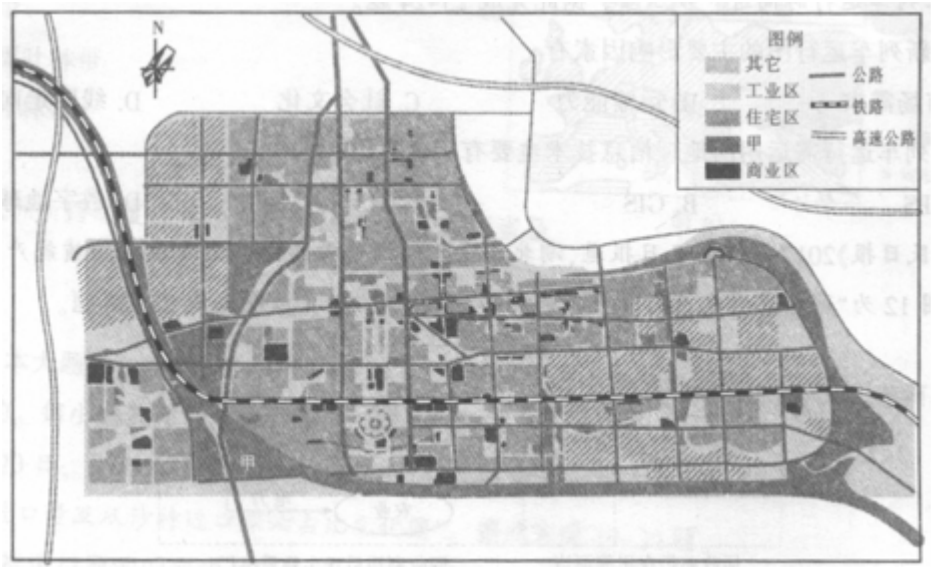

（I）图中甲为_____用地；其功能主要有_____。
（2）为优化城市规划；最需调整_____的布局，理由有_____。
（3）简述未来城市规划中协调城乡发展的主要途径。_____

22、阅读图文资料；完成下列要求。

窑洞是黄土高原的传统民居,它利用了黄土直立性强的特点，具有冬暖夏凉、少占耕地的优点,是人类利用自然环境的杰作。目前,由于村落空巢化，窑洞空置率不断增加，窑洞废弃现象严重,有效保护窑洞已刻不容缓。下图是废弃窑洞景观。

（1）说明窑洞传统民居所反映的自然环境特征。
（2）推测黄土高原地区窑洞空置率增加的原因。
（3）分析保护窑洞对当地可持续发展的意义。

23、读图文材料，回答下列问题。

“京津冀协同发展”是我国发展战略之一。京津冀交通一体化、生态环境保护、产业升级转移被确定为京津冀协同发展要率先取得突破的重点领域。

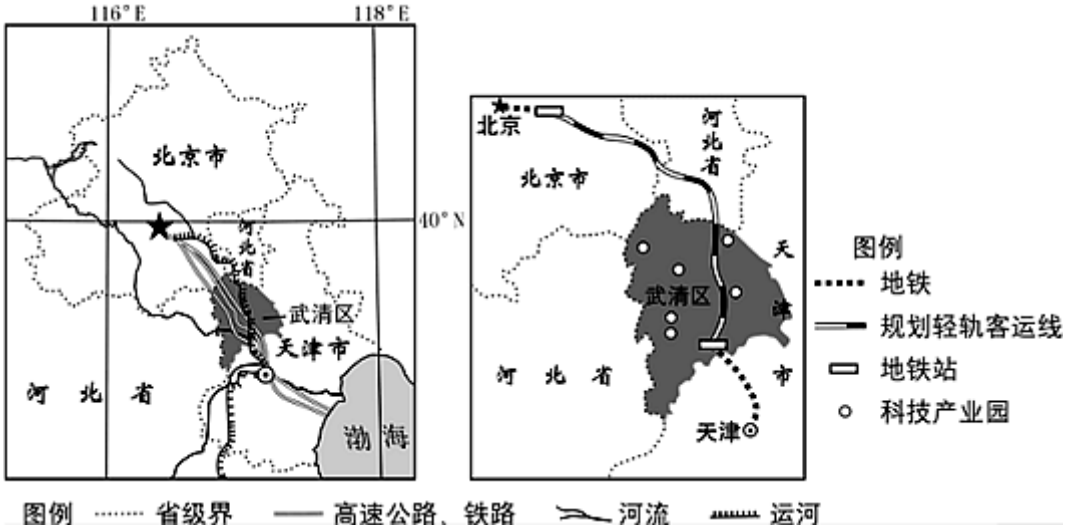

北京的非首都功能向周边地区转移；天津市；河北省成为制造业的主要承接地。

（1）说明天津武清区承接北京先进制造业的优势条件。（6 分）

（2）图中所示区域内规划修建一条轻轨客运铁路。说明这一举措对促进京津冀交通一体化的意义。（6 分）

（3）历史上的天津因运河而兴，运河文化是天津地域文化之一。京津冀三地正在共同建设运河文化带，你认为天津市应当采取哪些措施，保护性开发运河文化遗产。（6 分）

24、（城乡规划）阅读图文资料；回答下列问题。

如图为“广东省中山市坦洲镇总体规划图”，该镇荣获全国建设宜居示范小镇。该镇还拥有三圣宫、龙溪陈公祠、可林陈家祠、水仙宫、永济桥和龙塘记事碑等不可移动文物。

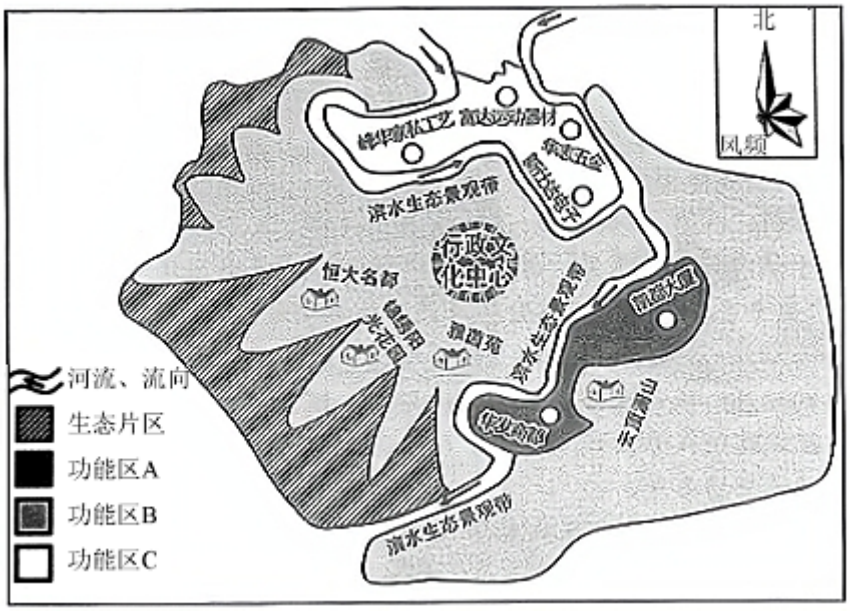

（1）该镇拟规划的功能区分别是 A _____ ，B _____ ，C 功能区主导产业的显著特点是 _____ 。

（2）该镇功能区规划的合理性主要体现 _____ ，存在的不足有 _____ 。

（3）该镇在城市规划建设中还可以采取 _____ 等措施彰显当地历史文化特色。

25、[城乡规划]阅读材料；回答下列问题。

图为某城镇农业高新示范园区总体规划示意图。该城镇位于广州东北部，距市中心 45 千米。城镇东北及西南属低山丘陵区，东部及东南部地势较高。规划目标是建成一个广州近郊城乡融合的生态和谐新城镇。

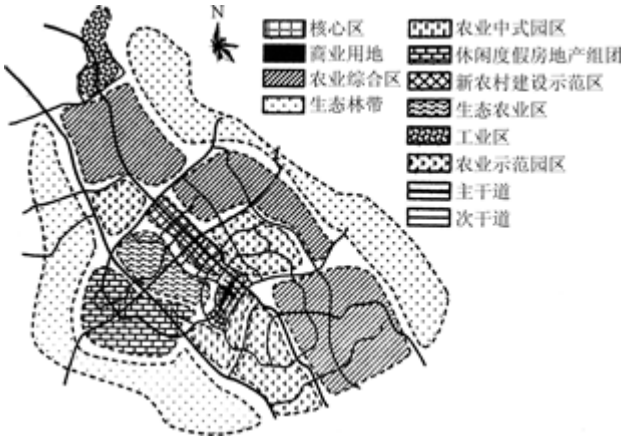

（1）为实现规划目标；该城镇在建设过程中必须保护_____用地及_____用地。

（2）该园区外围规划生态林带的自然因素是_____；其主要的生态功能是_____。

（3）规划考虑将园区西北部的工业区保留下来；其意义是_____。该工业区适合发展的工业部门有_____。

（4）该园区规划有旅游观光功能，其发展条件主要是_____。

26、就地式城市化是指农村人口一般不离开居住地；而农村逐步向城镇转化，这是城市化的一种新趋势。阅读下列图文资料，回答问题。

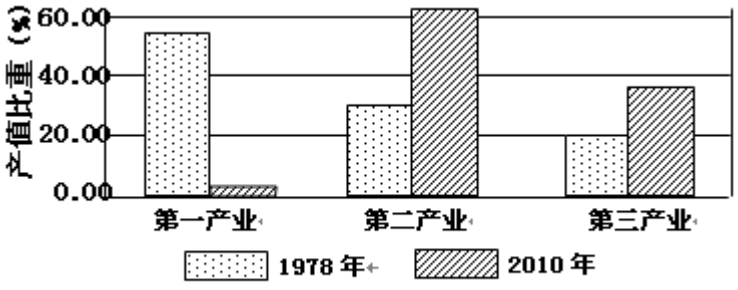

1978 年和 2010 年乐清市产业结构变化图

材料一：乐清市地处浙江省东部沿海，2010 年常住人口约 138.93 万人，其中农村人口约占 82.6%。据 2009 年统计，农林牧渔业的从业人员为 16.31 万人，比 1999 年减少了约 25%。材料二： 2009 年以来，乐清市实现了电话、有线电视家家通;自来水受益村数达到 858 个，比重为 94%;垃圾集中处理村数达 811 个，比重为 89%；村级全民健身苑达 715 个，篮球场 506 个。“十一五”期间，该市实行城乡免费义务教育，60 周岁以上农村居民基础养老金享受率达到 100%。

（1）归纳乐清市城市化过程中劳动人口结构；产业结构发生的变化。

（2）在城市化进程中；乐清市就地式城市化方式起到了显著作用。分析乐清市就地式城市化过程中采取的主要措施。

（3）乐清市农村就地式城市化进程对我国城市化发展有什么意义?

以上内容仅为本文档的试下载部分，为可阅读页数的一半内容。如要下载或阅读全文，请访问：https://d.book118.com/336000013144011030