浙江高考地理模拟测试试题含答案

1. 也门索科特拉岛拥有世界上最神奇的动植物物种。在该岛 800 多种植物中，有超过 1/3 的物种是其所特有的。岛上的龙血树是地球上最具生命力的树种之一。龙血树形态奇特，好像向四周撑开了一把伞。据此完成小题。



（1）索科特拉岛物种具有独特性的最主要因素是该岛（　　）

A．平原面积广大　　B．长期与大陆隔绝

C．火山活动频繁　　D．人类活动影响小

（2）龙血树的奇特形态主要有利于（　　）

A．为根部遮挡阳光，减少水分蒸发

B．抗击强台风带来的狂风暴雨

C．进行光合作用

D．收集水分并使其汇集到根部

某校地理学习小组在教师的指导下，去湖南山区开展了一次“土壤形成与地理环境关系”的野外实习。他们挖掘了一个土壤剖面，发现剖面呈均匀的土红色，腐殖质少，质地较黏重。据此完成下面小题。

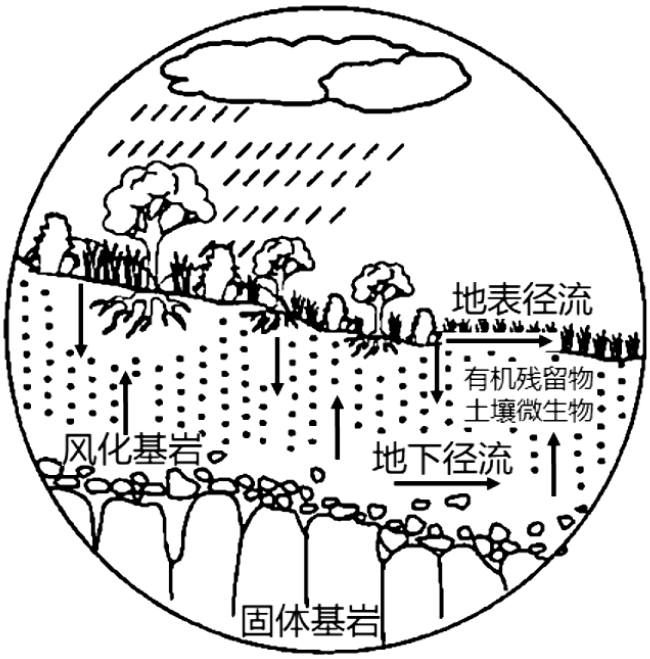

2．推测该地的土壤类型名称是（　　）

A．黄壤　　B．红壤　　C．黑土　　D．棕壤

3．同学们还测得该土壤的有机质含量少，关于其成因说法正确的是（　　）

①气温低，植被稀疏，土壤有机质积累少②气温高，土壤有机质分解较快，有机质积累少

③降水少，土壤中的有机物质留存比较少④降水多，淋溶作用强，土壤中的有机质易流失

A．①③　　B．②④　　C．①④　　D．②③

4．读非洲及周边洋流分布图，完成下列各题

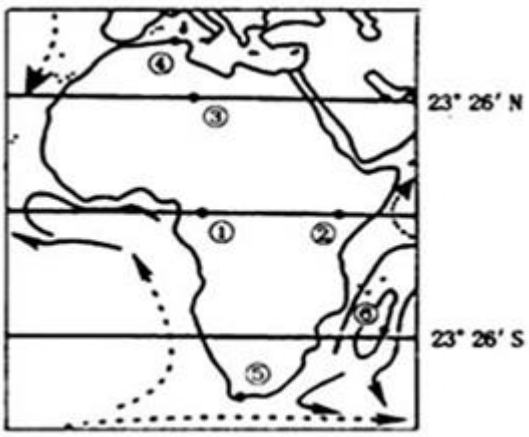

（1）图中序号所示各地中，气候类型体现了非地带性气候的是（　　）

A．②⑥　　B．④⑤　　C．①⑥　　D．①②

（2）年日照时数自①地向③地变化趋势和主要影响因素是（　　）

A．减少，太阳高度　　B．增多，大气环流

C．增多，地形　　D．增多，纬度

（3）图中海域面积有减小趋势的是（　　）

A．地中海　　B．莫桑比克海峡

C．红海　　D．曼德海峡

下图为大西洋表层海水年平均温度、盐度和密度随纬度变化示意图。据此完成下面小题。

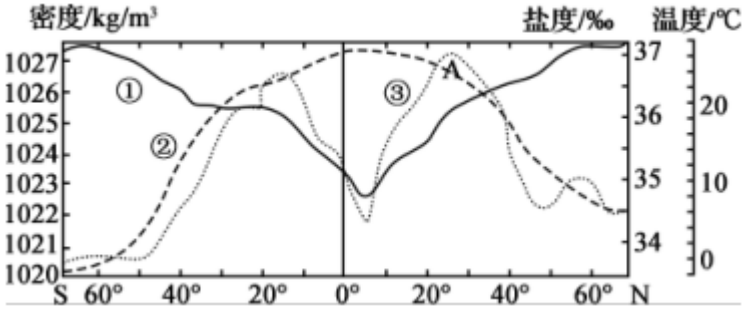

5．大西洋表层海水的主要热量来源于（　　）

A．太阳辐射　　B．对流层　　C．地面辐射　　D．地球内部

6．①、②、③分别表示大西洋表层海水年平均（　　）

A．温度、密度、盐度　　B．盐度、温度、密度

C．密度、温度、盐度　　D．密度、盐度、温度

7．在大西洋表层海水年平均密度最低的地方，海水的（　　）

A．纬度约为 5°N　　B．温度约为 10℃

C．盐度约为 35.6‰　　D．密度约为 1020.5kg/m³

8. 据报道，我国新疆生产建设兵团与乌克兰某农业公司签署协议，后者将向中国提供 10 万公顷农田，用于粮食与肉类的生产；将来乌克兰还会向中国提供 300 万公顷农田。有专家认为，走出国门、海外寻求机会成为中国努力满足国内日益增长的食品需求的积极举措。据此完成下列问题。有关中国新疆建设兵团到乌克兰承包土地的原因，正确的是（　　）

A．乌克兰热量充足

B．乌克兰耕地面积大，土壤肥沃，农业基础好

C．乌克兰日照充足

D．乌克兰农产品市场需求大

重庆归原小镇依托一个百年村庄——荆竹村，以“活化乡村，留住乡愁”为目标，规划了民宿、文创、生态农业等版块，力图为古老村庄注入更多的活力。荆竹村曾经是贫困的喀斯特山村，村子非常漂亮，但是有空心化的现象。下图为该村规划前后的民居景观图，据此完成下面小题。

9．荆竹村空心化现象产生的根本原因是（　　）

A．水土流失严重　　B．人口大量外流

C．经济水平低下　　D．农民易地搬迁

10．归原小镇的规划设计可以（　　）

①保护耕地②发展商品粮生产③增加就业岗位④保持民居原貌

A．①②　　B．①③　　C．②④　　D．③④

11．最能体现“活化乡村，留住乡愁”的规划是（　　）

A．民宿　　B．生态农业　　C．天坑剧场　　D．学院游学

12．在生态建设中，只有因地制宜，才能收到良好的效果。下列叙述不正确的是（　　）

A．在干旱地区大力种植乔木树种　　B．在草原自然带退耕还草

C．在湿润地区植树造林　　D．在湿地区域退耕还湿

近年来我国农村电商发展势头迅猛，但物流配送成本高、效率低是很大的制约因素。为此，部分物流企业将无人机(下图)配送视为解决农村电商配送“最后一千米”的方案之一，但也面临续航时间短、安全性不高等困扰， 目前只是在少数地区进行了试点。据此完成小题。



13．农村电商物流配送成本高、效率低的主要原因是农村（　　）

A．人口外流，缺配送人员　　B．交通拥堵，配送费时长

C．订单分散，人口密度小　　D．地形崎岖，道路密度小

14．和传统的配送方式相比，无人机配送的优势是（　　）

①速度快　②载重大　③人力成本低　④受天气的影响小

A．①②　　B．①③　　C．②④　　D．③④

15．若使用图示无人机进行配送试点，最适合的区域是（　　）

A．海港附近的渔村　　B．机场周边的农村

C．低山丘陵区山村　　D．草原牧区居民点

在城市土地开发利用过程中，形成了居住区、工业区和商业区等不同性质的功能区。如图示意某城市功能区分布，该城市功能区布局合理，据此完成下面小题。

以上内容仅为本文档的试下载部分，为可阅读页数的一半内容。

如要下载或阅读全文，请访问：

https://d.book118.com/376041011151011020