北师大版一年级（上）数学期末测试卷（三）

时间：60 分钟　　满分：100 分

题号	一	二	三	四	五	六	总分
得分							

座位号_____　班级_____　姓名_____

装　订　线　内　不　要　答　题

一、填一填。（20 分）

1. 数一数，填一填。

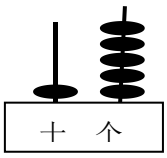

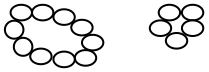



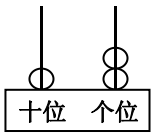

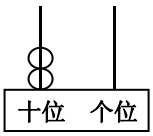

（　　）　（　　）　（　　）　（　　）

（　　）

2. 18 里面有（　　）个十和（　　）个（　　）；6 个一和 3 个十组成的数是（　　）。

3. 顺着数，17 前一位是（　　）；12 后面第 3 位是（　　）。

4. 最大的一位数比最小的两位数少（　　）。

5. （　　）里最大能填几？

（　　）<9　　（　　）<7＋8　　19>（　　）＋3

6. 按规律填数。

20	18			

7. 把下列数从大到小的顺序排一排。（2 分）

15　　7　　10　　9　　3

_____

二、算一算。（24 分）

(1) 9 - 4=　　13 - 10=　　6 + 8=　　9 - 9=

13 - 8=　　16 - 6=　　5 - 0=　　6 + 7=

7 + 7 - 4=　　6 - 3 + 10=　　8 - 4 + 9=

(2) 在○里填上“+”或“-”。

9○4=13　　6○7=13　　5○3=10○2

7○5=2　　9○3<12　　6○6○6=6

(3) 在（　　）里填上合适的数。

4 +（　　）=9　　7 +（　　）=13　　13 -（　　）=5

（　　）=4 + 7　　7 + 5=（　　）- 3 =（　　）+8 =（　　）

三、选一选。（16 分）

1. 最重的画“○”，最轻的画“√”。

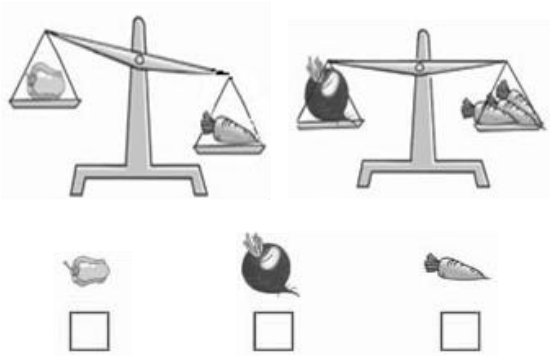

2. 最高的画“○”，最矮的画“√”。



3. 观察下列时钟，正确的打“√”，错误的打“×”。

（　）

（　）

（　）



（　）

四、数一数，填一填。（8 分）

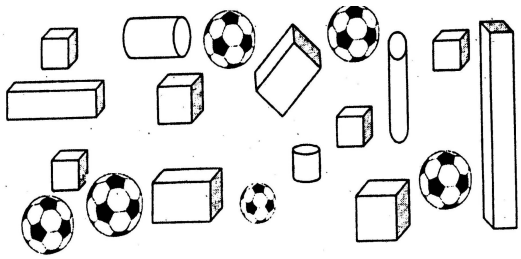

长方体有(　　)个；

正方体有(　　)个；

圆柱有（　　）个；

球有（　　）个。

五、看图列式。（12 分）

（1）

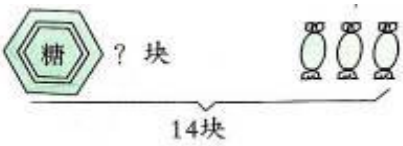

□○□=□（块）　　□○□=□（只）

（2）一共有多少只小鸟？

□○□○□=□（只）

六、我能解答。（20 分）

1.

□○□=□（个）

2.

□○□=□（只）

3.



□○□=□（条）

4.



□○□○□=□（人）

参考答案

一、填一填。

1. 15、15、17、12、20

2. 1、8、一、36

3. 16、15

4. 1

5. 8、14、15

6. 16、14、12

7. 15 > 10 > 9 > 7 > 3

二、算一算。

（1）5　　3　　14　　0

　　5　　10　　5　　13

　　10　　13　　13

（2）+　　+　　+　　-

　　-　　-　　+　　-

（3）5　　6

　　8　　11

　　15　　4　　12

三、略

四、数一数，填一填。

4　　6　　3　　6

五、看图列式。

（1）14-3=11　　9+6=15

（2）4+3+3=10

六、我能解答。

1. 7+6=13

2. 5+3=8

3. 10-3=7

4. 10-3+2=9

北师大版一年级（上）数学期末测试卷（一）

时间：60 分钟　　满分：100 分

题号	一	二	三	四	五	六	七	八	九	总分
得分										

座位号_____　班级_____　姓名_____

装　订　线　内　不　要　答　题

一、我会填。(共 21 分)

1．(4 分)看图写数。



(　　)



(　　)

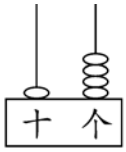

(　　)

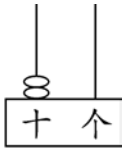

(　　)

2．(5 分)填数。

8			11				15				19	

3．(1 分)个位上是 9，十位上是 1，这个数是(　　)。

4．(2 分)11 里面有(　　)个十和(　　)个一。

5．(3 分)给从左数第 6 朵☁涂上颜色，把右边的 3 朵☁圈起来。

6．(4 分)看图补充算式。

★ ★ ★ ★ ★ ★ ☆ ☆ ☆ ☆

□ + 4 = □　　10 - □ = □

4 + □ = □　　□ - 4 = □

7．(2 分)△△△△△△△　　7(　　)10

○○○○○○○○○○　　10(　　)7

二、我会算。(共 28 分)

9 + 8 =　　17 - 4 =　　3 + 9 =　　18 - 6 =

10 - 8 =　　0 + 9 =　　9 + 9 =　　8 + 5 =

3 + 7 =　　19 - 6 =　　17 - 2 =　　5 + 10 =

16 - 4 =　　14 + 3 =　　8 + 7 =　　4 + 8 =

7 + 9 - 3 =　　8 + 7 - 10 =　　9 - 2 + 6 =

9 + 8 - 6 =　　3 + 5 + 4 =　　14 - 4 - 3 =

6 + (　　) = 8　　12 - (　　) = 10　　9 - (　　) = 4

4 + (　　) = 9　　17 - (　　) = 13　　9 + (　　) = 11

三、分一分。(共 6 分)

帮妈妈把买的东西分装在两个袋里，用线连一连。



四、认一认。(共 8 分)

_____　　_____　　_____　　_____

五、数一数。(共 6 分)

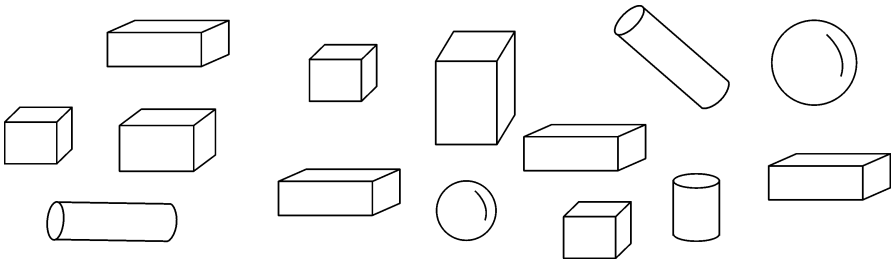

1．(4 分) (　　)个， 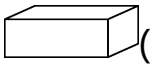 (　　)个， (　　)个， (　　)个。

2．(2 分)一共有(　　)个图形。

六、画一画。(共 6 分)

1．(4 分)(1)在最短的后面画“○”。　(2)在最矮的下面画“△”。

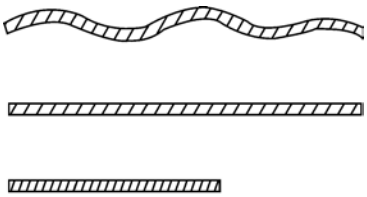



2．(2 分)画□，使□比☆多 4 个。

☆　☆　☆　☆

_____

七、看图写算式。(每题 3 分，共 9 分)

1. 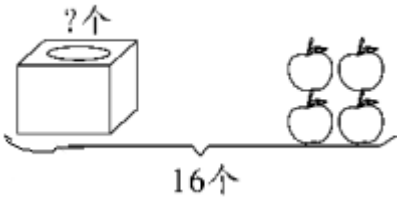

□○□=□

2. 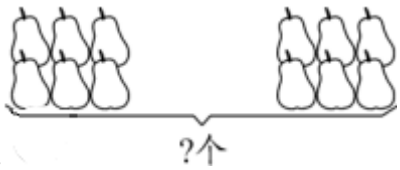

□○□=□

3. 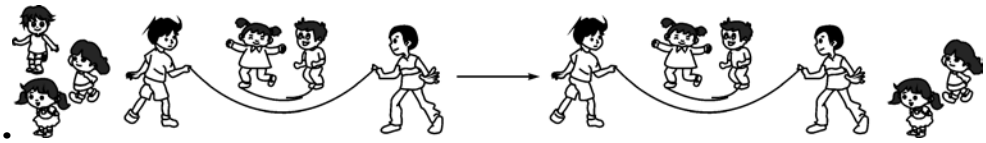

7○□○□=□

八、解决问题。(共 12 分)

1．(4 分)小明家的果园有 8 棵梨树，6 棵苹果树。

两种果树一共有多少棵?

□○□=□

2．(4 分)学校图书馆里原来有 14 本《数学故事》。

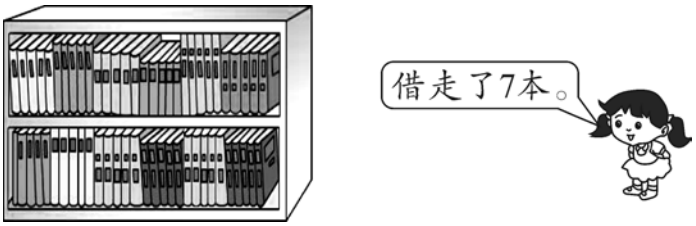

还有多少本?

□○□=□

3．(4 分)先列式计算，再想一想，够不够？在你认为正确的答案后的□里打“√”。



够□　　不够□

□○□=□

九、动脑筋。(共 4 分)

小兔子拔的萝卜有两堆。第一堆 10 个，第二堆有 4 个。从第一堆拿(　　)个放到第二堆后，两堆一样多。这时每堆有(　　)个。

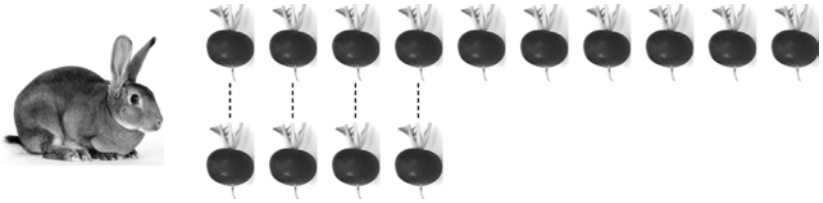

智力冲浪

(10 分)谁最重？画“√”。谁最轻？画“○”。

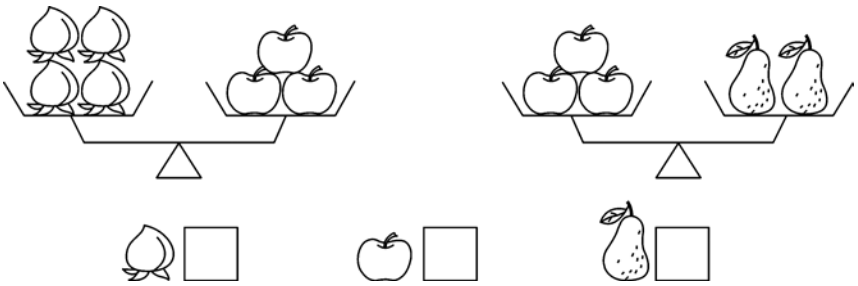

参考答案

一、**1.**8　13　14　20

2.9　10　12　13　14　16　17　18　20

3.19

4.1　1

5.涂色略

6.6　10　6　4　6　10　10　6

7. <　>

二、17　13　12　12　2　9　18　13　10　13　15　15　12　17　15　12　13　5　13　11　12　7　2　2　5　5　4　2

三、略

四、8：00　4：00　10：30　2：30

五、**1.**3　6　3　2　**2.**14

六、**1.**略　**2.**略

七、**1.**16 - 4 = 12　**2.**6 + 6 = 12　**3.**7 - 3 + 2 = 6

八、**1.**8 + 6 = 14　**2.**14 - 7 = 7　**3.**4 + 9 = 13

九、3　7

智力冲浪

略

以上内容仅为本文档的试下载部分，为可阅读页数的一半内容。如要下载或阅读全文，请访问：https://d.book118.com/376223040024011013