山西太原市外国语学校物理八年级下册期末考试专题练习

考试时间：90 分钟；命题人：教研组

考生注意：

1、本卷分第 I 卷（选择题）和第 II 卷（非选择题）两部分，满分 100 分，考试时间 90 分钟

2、答卷前，考生务必用 0.5 毫米黑色签字笔将自己的姓名、班级填写在试卷规定位置上

3、答案必须写在试卷各个题目指定区域内相应的位置，如需改动，先划掉原来的答案，然后再写上新的答案；不准使用涂改液、胶带纸、修正带，不按以上要求作答的答案无效。

第 I 卷（选择题　20 分）

一、单选题（10 小题，每小题 2 分，共计 20 分）

1、眼睛好像一架照相机。晶状体和角膜的共同作用相当于凸透镜，如图所示表示的是来自远处的光经小强眼球折光系统的光路示意图。下列分析正确的是（　　）

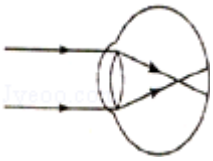

A．小强的眼睛是近视眼，应配凸透镜做成的眼镜

B．小强的眼睛是近视眼，应配凹透镜做成的眼镜

C．小强的眼睛是远视眼，应配凸透镜做成的眼镜

D．小强的眼睛正常，无须配戴眼镜

2、“木桶理论”指出木桶能盛下水的容量由最短的木板来决定。如图将水注进水平面的木桶时，水对木桶底部的压强说法正确的是（　　）



A．最大压强由最长木板决定　　B．木桶的质量决定压强大小

C．木桶的底面积决定压强大小　　D．补齐短木板能增加最大压强

3、用10N的水平拉力拉着重40N的物体在水平面上做匀速直线运动，物体受到的摩擦力为f_1，当拉力增大到20N时，物体受到的摩擦力为f_2，则f_1和f_2的大小分别是（　　）

A．10N，20N　　B．40N，40N　　C．50N，60N　　D．10N，10N

4、如图吊灯静止挂在天花板下，下列哪一对力是平衡力　（　　）



A．线对灯的拉力和灯对线的拉力　　B．线对灯的拉力和灯受到的重力

C．灯对线的拉力和灯受到的重力　　D．线对天花板拉力和灯对线拉力

5、同一物体在月球表面受到的重力是在地球表面所受重力的六分之一，也就是说月球表面上物体重力与质量的比值约为$g_{月}$=1.6N/kg。设想我们乘宇宙飞船从地球登上月球，以下说法正确的是（　　）

A．地球上质量是60kg人，在月球上质量变为10kg

B．地球表面重力为600N的人，在月球表面重力约为100N

C．在地球表面最多能举起重600N物体的人，在月球表面最多能举起重100N的物体

D．在地球表面最多能举起60kg物体的人，在月球表面最多能举起60kg的物体

6、一位体重为600N的同学在跳绳测试中，1min跳120次，每次腾空的最大高度平均为4cm，则他在跳绳过程中，克服重力做功的平均功率是（　　）

A．48W　　B．4.8×10^3W　　C．4.8×10^4W　　D．4.8×10^5W

7、如图所示，用轻质杠杆提升物体，O点为杠杆的支点,杠杆在水平位置处于静止状态，下列说法中正确的是（　　）

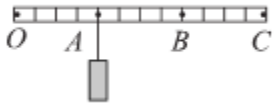

A．当物体悬挂在 A 点时，动力作用在 C 点，该杠杆一定是省力杠杆

B．当物体悬挂在 B 点时，动力作用在 C 点，动力的方向可以竖直向下

C．当物体悬挂在 C 点时，动力作用在 A 点一定比作用在 B 点要费力

D．当物体悬挂在 C 点时，无论动力作用在 A 点还是 B 点该杠杆一定是费力杠杆

8、关于功、功率、机械效率，下列说法中正确的是（　　）

A．物体做功越多，功率越大

B．作用在物体上的力越大，物体所做的功越多

C．机械效率是表示物体做功快慢的物理量

D．同一滑轮组，增加物重可以提高机械效率

9、手机扫描二维码，相当于给二维码照了一张照片，如图是手机扫描物品上的二维码，登录网址、查看物品相关信息，下列说法中正确的是（　　）



A．二维码位于摄像头的一倍焦距和二倍焦距之间

B．物体上的二维码是光源

C．二维码位于摄像头的二倍焦距以外

D．当二维码超出手机上设定的方框时，物品不动，把手机靠近物品

10、如图甲所示，一底面积为 100cm²、密度为 ρ_A 的实心圆柱体 A，用细线拴在一个空容器的底部，然后向容器中加入某种液体（ $\rho_{液}>\rho_A$

）直到圆柱体上表面与液面相平（整个过程圆柱体始终处于竖直状态），乙图是圆柱体下表面受到液体的压强与容器中液体深度的变化关系图像，g=10N/kg．则下列判断正确的是（　　）

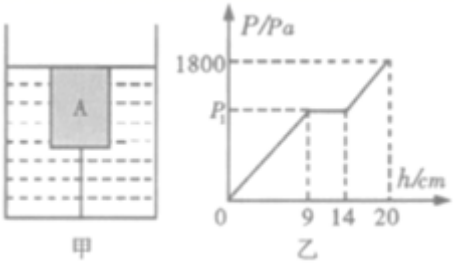

A．乙图中的 p_1=810Pa

B．液体对圆柱体的最大浮力为 10.8N

C．圆柱体 A 的密度为 0.72×10^3kg/m^3

D．细线对圆柱体的最大拉力为 18N

第Ⅱ卷（非选择题　80 分）

二、填空题（10 小题，每小题 3 分，共计 30 分）

1、现有 20 包大米，总质量为 120kg。小明想尽快将它们搬上 10m 高处的库房。如图 13 为小明可以提供的用于搬动物体的功率与被搬运物体质量之间的关系图象。由图分析可知，他为了尽可能快地将大米搬上库房，他每次应搬_____包。若每次下楼时间是上楼时间的一半，则他最快完成搬运务并返回原地所用的时间为_____s。(g 取 10Nkg)

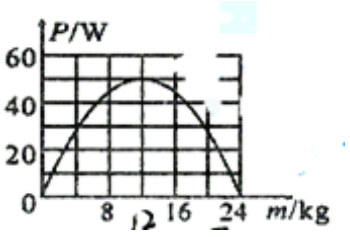

2、如图所示的照相机，它的镜头是凸透镜，拍摄时，底片上成的是_____（填成像性质）实像，如果将照相机镜头靠近被拍摄的物体时，像的大小将_____，像距将_____（后两空选填“变大”“变小”或“不变”）。



3、每年 6 月 6 日是全国“爱眼日”，这是提醒大家关注眼睛健康的国家节日。近视眼的成像示意图是如图的_____图，应该佩戴由_____透镜制成的眼镜来矫正。

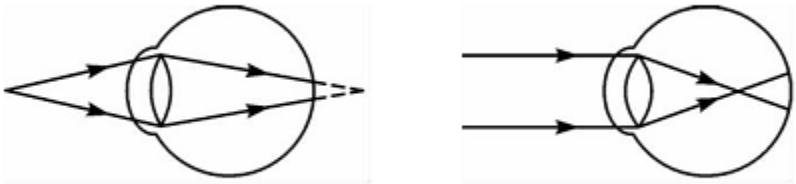

4、在“探究凸透镜成像规律”的实验中，当蜡烛、凸透镜和光屏位置如图所示时，恰能在光屏上成一个清晰的像，该像的性质为_____（包括倒立或正立、放大或缩小、虚像或实像），利用此成像原理可以制成_____。



5、杠杆在我国古代就有许多巧妙应用护城河上安装的吊桥就是一个杠杆，如图所示，它的支点是___点，动力作用点是_____点，阻力是_____。



6、图是华为最新发布的 5G 手机－华为Mate30pro，该手机使用我国自主研发的海思麒麟 990 芯片，该芯片采用 7nm 工艺制程，7nm=_____m；它的双 4000 万像素徕卡四摄镜头相当于一个_____透镜(填“凸”或“凹”)。



7、著名的_____实验有力地证明了大气压的存在，海拔高度越高，大气压强越_____，若在同一地点用水代替水银做实验，则测出的大气压值将_____（选填“变小”、“不变”或“变大”）。

8、一个工人用类似如图所示的滑轮组提起 2000N 的货物，所用的拉力是 800N，绳子自由端被拉下 4m。则这个工人做的有用功是_____J；该滑轮组的机械效率是_____。

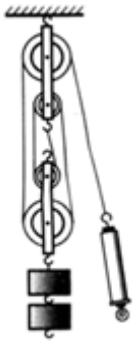

9、虽然受冠状病毒的影响人们出行较少，但是今年五一期间仍然发生许多交通事故，阜营高速公路上就发生了一起这样的交通事故，两辆同向行驶的汽车发生“追尾”。如图所示汽车 B 刹车后由于_____撞到汽车 A，此时对汽车 A 中的司机起保护作用的是_____（选填“汽车座椅上的头枕”或“座位前方安全气囊”）；我们常说汽车靠牵引力前进，实际上是靠后胎与地面间的_____力来推动汽车前进。



10、体育课上，小朱同学在 20s 内能做 16 个引体向上。已知小朱同学重 500N，他每次重心平均升高 0.5m，则小朱同学做引体向上时的平均功率是_____W。

三、计算题（3 小题，每小题 10 分，共计 30 分）

1、小明用如图所示的滑轮组将重 85N 的物体匀速提升 2m，拉力 F 为 50N。求在此过程中

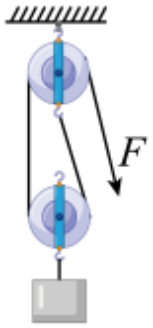

（1）有用功为多少 J？

（2）该滑轮组机械效率为多少？

2、如图所示，面积为 1m² 的水平桌面的正中央放着一个底面积为 1200cm²，重为 30N 的圆形鱼缸。鱼缸内装有深 0.2m，质量为 27kg 的水。求（$\rho_{水}$取 1.0×10^3kg/m³，g 取 10N/kg）



（1）鱼缸底部受到的水的压强；

（2）水对鱼缸底部的压力；

（3）鱼缸对桌面产生的压强。

3、如图所示，某同学将重 1.6N，底面积 10cm² 为的锥形瓶放在水平桌面中央做实验，锥形瓶内有体积为 100ml，深为 15cm 的酒精（酒精密度为 $\rho_{酒精}=0.8\times10^3$kg/m³，g 取 10N/kg）。求：



（1）酒精对锥形瓶底产生的压力和压强；

（2）锥形瓶对桌面产生的压强。

四、实验探究（2 小题，每小题 10 分，共计 20 分）

1、如图所示是某同学用铁块“探究浮力的大小跟哪些因素有关”的实验；

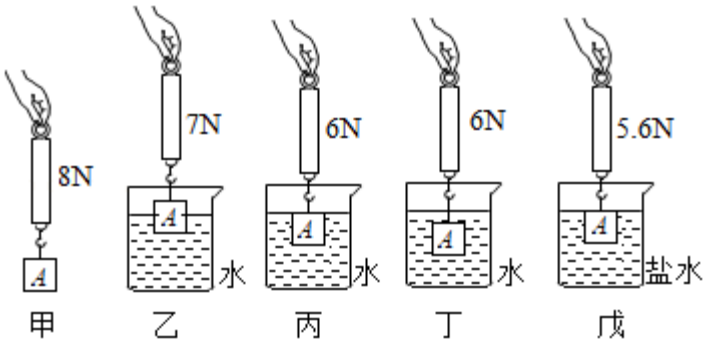

（1）从实验中数据可知：物体的重力为_____N；铁块浸没在水中时，受到的浮力是_____N；

（2）比较实验丙、丁可知：物体受到浮力的大小跟物体浸没在液体中的深度_____；

（3）比较实验丙、戊可知：浸在液体中的物体受到的浮力的大小跟_____有关；同时可计算出盐水的密度为_____kg/m^3；

（4）小旭想“探究物体受到浮力的大小与其形状是否有关”，他用橡皮泥代替铁块，再进行实验，步骤如下：

步骤一：将橡皮泥捏成“碗”状并放入盛水的烧杯中，漂浮在水面上；

步骤二：把橡皮泥从水中取出捏成团状，放入盛水的烧杯中，下沉至杯底；

橡皮泥第一次受到的浮力_____（选填“大于”“小于”或“等于”）第二次受到的浮力；

②由此小旭认为：物体受到的浮力与其形状有关；其结论错误的原因是：他只关注了橡皮泥形状的改变，而忽略了橡皮泥_____对浮力大小的影响。

2、实验桌上有带横杆的铁架台、刻度尺、弹簧测力计、细绳，另外还有相同规格的钩码一盒，质量不等的滑轮 2 个。小华选用这些器材，探究“利用动滑轮提升重物时，总功与被提升的物体所受的重力大小是否有关”。小华的主要实验步骤如下：

①用调好的弹簧测力计分别测出几个钩码和一个动滑轮所受的重力，分别用 G 和 $G_{动}$

表示。如图所示组装实验器材，用弹簧测力计竖直向上匀速拉绳子自由端，绳子自由端所受拉力用F表示，绳子自由端移动的距离用s表示，钩码上升的高度用h表示。用弹簧测力计测出F，用刻度尺分别测出s、h。并把测量数据记录在表格中。

②更换另一个动滑轮，保持被提升钩码数量和钩码上升的高度h不变，仿照步骤①分别测量对应的F、s，用弹簧测力计测出动滑轮所受重力$G_{动}$，并把测量数据记录在表格中。

③根据$W_{总}=Fs$算出总功，并将$W_{总}$记录在表格中。

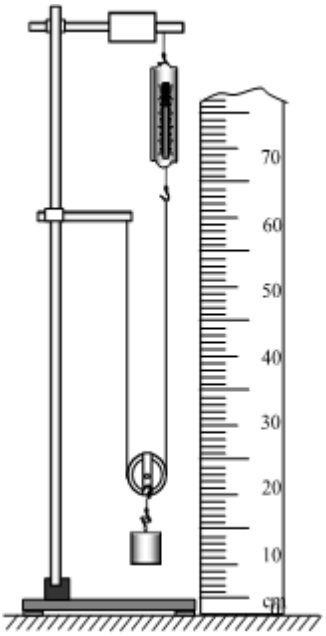

根据以上叙述，回答下列问题。（滑轮的轮与轴之间的摩擦很小，可忽略不计）：

（1）小华计划探究的问题中的自变量是_____；

（2）根据以上实验步骤可知，小华实际探究的是总功与_____是否有关；

（3）针对小华计划探究的问题，在实验步骤②中，正确操作是_____。

（4）针对小华计划探究的问题，设计实验数据记录表。

-参考答案-

一、单选题

1、【答案】B

【解析】【解答】解：由图可知，物体成像在了视网膜的前面，这是近视眼的特征；

以上内容仅为本文档的试下载部分，为可阅读页数的一半内容。如要下载或阅读全文，请访问：https://d.book118.com/385310041234012022