合肥市第四十八中学数学七年级上册整式的加减同步测评

考试时间：90 分钟；命题人：教研组

考生注意：

1、本卷分第 I 卷（选择题）和第 II 卷（非选择题）两部分，满分 100 分，考试时间 90 分钟

2、答卷前，考生务必用 0.5 毫米黑色签字笔将自己的姓名、班级填写在试卷规定位置上

3、答案必须写在试卷各个题目指定区域内相应的位置，如需改动，先划掉原来的答案，然后再写上新的答案；不准使用涂改液、胶带纸、修正带，不按以上要求作答的答案无效。

第 I 卷（选择题　20 分）

一、单选题（10 小题，每小题 2 分，共计 20 分）

1、下列运算结果正确的是（　　）

A．$2a+3b=5ab$　　B．$7x^2y-4xy^2=3x^2y$

C．$a-(3b-2)=a-3b-2$　　D．$-2(a+b)=-2a-2b$

2、下列运算中，正确的是（　　）

A．$3x+4y=12xy$　　B．$x^9\div x^3=x^3$

C．$(x^2)^3=x^6$　　D．$(x-y)^2=x^2-y^2$

3、下列说法中，正确的是（　　）

A．0 不是单项式　　B．$\frac{\pi a}{2}$的系数是$\frac{1}{2}$

C．xyz^2的次数是 4　　D．$2x^2-3x-1$的常数项是 1

4、下面说法中①$-a$一定是负数；②$0.5\pi ab$是二次单项式；③倒数等于它本身的数是±1；④若$|a|=-a$，则$a<0$；⑤由$-2(x-4)=2$变形为$x-4=-1$，正确的个数是（　　）

A．1 个　　B．2 个　　C．3 个　　D．4 个

5、下列图中所有小正方形都是全等的．图（1）是一张由 4 个小正方形组成的“L”形纸片，图（2）是一张由 6 个小正方形组成的3×2方格纸片．把“L”形纸片放置在图（2）中，使它恰好盖住其中的 4 个小正方形，共有如图（3）中的 4 种不同放置方法，图（4）是一张由 36 个小正方形组成的6×6方格纸片，将“L”形纸片放置在图（4）中，使它恰好盖住其中的 4 个小正方形，共有n种不同放置方法，则n的值是（　　）

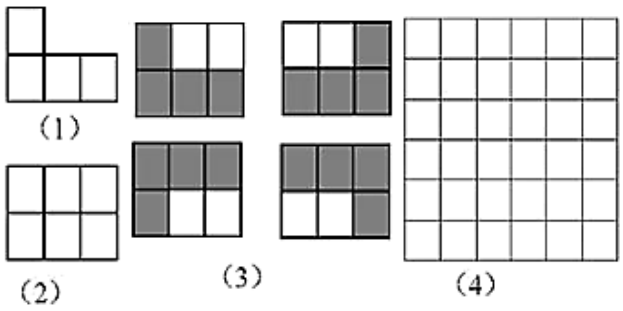

A．160　　B．128　　C．80　　D．48

6、如图，填在下面各正方形中的四个数之间都有相同的规律，根据这种规律，m的值应是（　　）

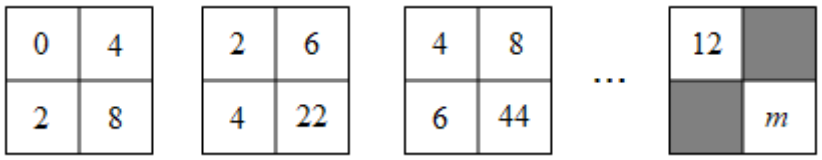

A．110　　B．168　　C．212　　D．222

7、语句“比x的$\frac{1}{5}$小 5 的数”可以表示成（　　）

A．$\frac{1}{5}x-5$　　B．$\frac{1}{5}(x-5)$　　C．$\frac{1}{5}x+5$　　D．$5x-\frac{1}{5}$

8、下列说法错误的是(　　)

A．单项式a^2h 的系数是 1　　B．多项式 a-2.5 的次数是 1

C．m+2 和 3 都是整式　　D．3^2xy^3是六次单项式

9、如图是一张长方形的拼图卡片，它被分割成 4 个大小不同的正方形和一个长方形，若要计算整张卡片的周长，则只需知道其中一个正方形的边长即可，这个正方形的编号是（　　）

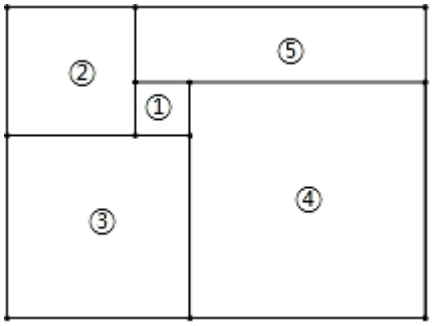

A．①　　B．②　　C．③　　D．④

10、用代数式表示：a 的 2 倍与 3 的和.下列表示正确的是（　　）

A．$2a-3$　　B．$2a+3$　　C．$2(a-3)$　　D．$2(a+3)$

第Ⅱ卷（非选择题　80 分）

二、填空题（10 小题，每小题 3 分，共计 30 分）

1、有一列数按如下规律排列：$\frac{\sqrt{2}}{2}$，$\frac{\sqrt{3}}{4}$，$\frac{1}{3}$，$\frac{\sqrt{5}}{8}$，$\frac{\sqrt{6}}{10}$，$\frac{\sqrt{7}}{12}$，…，则第 2022 个数是 _____.

2、观察下列一系列数：

按照这种规律排下去，那么第 8 行从左边数第 14 个数是_____.

			-1			
		2	-3	4		
	-5	6	-7	8	-9	
10	-11	12	-13	14	-15	16

…

3、若 $a-2b=1$，则 $3-2a+4b$ 的值是__.

4、若 $x^2-3x=-3$，则 $3x^2-9x+7$ 的值是 _____.

5、已如 $A-B=3x^2-2x+1, B-C=4-2x^2$，则 $C-A=$_____.

6、在多项式 $6x^2-4x+5-3x^2+8x-3$ 中，$6x^2$ 与_____是同类项，$-4x$ 与_____是同类项，-3 与_____也是同类项，合并后是_____.

7、某种桔子的售价是每千克 x 元，用面值为 100 元的人民币购买了 6 千克，应找回_____元.

8、如果单项式$3x^m y$与$-5x^3y^n$的和仍是单项式，那么$m+n=$_____.

9、观察下列各式的规律：①$1\times3-2^2=3-4=-1$；②$2\times4-3^2=8-9=-1$；③$3\times5-4^2=15-16=-1$．请按以上规律写出第 4 个算式_____．用含有字母的式子表示第 n 个算式为_____.

10、如图，在数轴上，点 A 表示 1，现将点 A 沿x轴做如下移动：第一次将点 A 向左移动 3 个单位长度到达点A_1，第二次将点A_1向右移动 6 个单位长度到达点A_2，第三次将点A_2向左移动 9 个单位长度到达点A_3，按照这种移动规律移动下去，第n次移动到点A_n，如果点A_n与原点的距离不小于 20，那么n的最小值是_____.

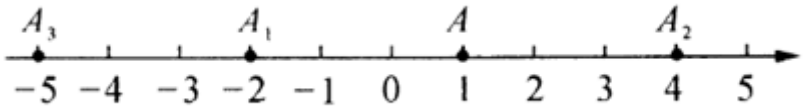

三、解答题（5 小题，每小题 10 分，共计 50 分）

1、如图，数轴上的三个点 A，B，C 分别表示实数 a，b，c.

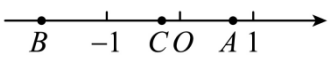

(1)如果点 C 是 AB 的中点，那么 a，b，c 之间的数量关系是_____；

(2)比较$b-4$与$c+1$的大小，并说明理由；

(3)化简：$-|a-2|+|b+1|+|c|$.

2、计算：3（x^2﹣2xy）﹣（x^2﹣6xy）﹣4y.

3、计算：

(1)5﹣（﹣2）^{2}×3+（﹣36）÷6；

(2) $25\times\frac{3}{4}-(-25)\times\frac{1}{2}+25\times(-\frac{1}{4})$；

(3)5a^2﹣7﹣3a﹣5+a﹣2a^2；

(4)﹣2y^3+（﹣x^2y+3xy^2）﹣2（xy^2﹣y^3）.

4、已知多项式$A=2x^2+my-12$，$B=nx^2-3y+6$，且$(m+2)^2+|n-3|=0$，化简$A-B$.

5、为了响应“阳光体育运动”，学校大力开展各项体育项目，现某中学体育队准备购买100个足球和x个篮球作为训练器材．现已知有A、B两个供应商给出标价如下：

足球每个200元，篮球每个80元；

供应商A的优惠方案：每买一个足球就赠送一个篮球；

供应商B的优惠方案：足球、篮球均按定价的80%付款．

(1)若$x=100$，请计算哪种方案划算？

(2)$x>100$，请用含x的代数式，分别把两种方案的费用表示出来．

-参考答案-

一、单选题

1、D

【解析】

【分析】

根据合并同类项运算法则、去括号法则依次计算，从而作出判断．

【详解】

解：A. $2a$和$3b$不是同类项不能合并，故此选项错误；

B. $7x^2y$和$4xy^2$不是同类项不能合并，故此选项错误；

C. $a-(3b-2)=a-3b+2$，故此选项错误；

D. $-2(a+b)=-2a-2b$，故此选项正确；

故选D.

【考点】

本题考查整式的加减运算，掌握合并同类项（系数相加，字母及其指数不变）的运算法则、去括号法则是解题关键.

2、C

【解析】

【分析】

直接应用整式的运算法则进行计算得到结果

【详解】

解：A、原式不能合并，错误；

B、原式＝x^6，错误；

C、原式＝x^6，正确；

D、原式＝$x^2-2xy+y^2$，错误，

故选：C.

【考点】

整式的乘除运算是进行整式的运算的基础，需要完全掌握.

3、C

【解析】

【分析】

根据单项式和多项式的定义选出正确选项.

【详解】

A 正确，一个数也是单项式；

B 错误，系数是$\frac{\pi}{2}$；

C 正确，次数是$1+1+2=4$；

D 错误，常数项是-1.

故选：C.

【考点】

本题考查单项式和多项式，解题的关键是掌握单项式的系数、次数的定义，多项式的常数项的定义.

4、C

【解析】

【分析】

①-a 不一定是负数，例如 a=0 时；

②0.5πab 中字母为 a 与 b，指数和为 2，故是二次单项式，本选项正确；

③倒数等于它本身的数是±1，本选项正确；

④若|a|=-a，a 为非正数，本选项错误；

⑤由-2（x-4）=2 两边除以-2 得到 x-4=-1，本选项正确.

【详解】

①-a 不一定是负数，例如 a=0 时，-a=0，不是负数，本选项错误；

②0.5πab 是二次单项式，本选项正确；

③倒数等于它本身的数是±1，本选项正确；

④若|a|=-a，则 a≤0，本选项错误；

⑤由-2（x-4）=2 两边除以-2 得：x-4=-1，本选项正确，

则其中正确的选项有 3 个.

故选 C.

【考点】

此题考查了等式的性质，相反数，绝对值，倒数，以及单项式，熟练掌握各自的定义是解本题的关键.

5、A

【解析】

【分析】

先计算出6×6方格纸片中共含有多少个3×2方格纸片，再乘以 4 即可得.

【详解】

由图可知，在6×6方格纸片中，3×2方格纸片的个数为$5\times4\times2=40$（个）

则$n=40\times4=160$

故选：A.

【考点】

本题考查了图形类规律探索，正确得出在6×6方格纸片中，3×2方格纸片的个数是解题关键.

6、C

【解析】

【分析】

观察不难发现，左上角、左下角、右上角为三个连续的偶数，右下角的数是左下角与右上角两个数的乘积减去左上角的数的差，根据此规律先求出阴影部分的两个数，再列式进行计算即可得解.

【详解】

解：根据排列规律，12 下面的数是 14，12 右面的数是 16，

∵8＝2×4-0，22＝4×6-2，44＝6×8-4，

∴m＝16×14-12＝212，

故选：C.

【考点】

本题是对数字变化规律的考查，仔细观察前三个图形，找出四个数之间的变化规律是解题的关键.

7、A

【解析】

【分析】

根据题目中的数量关系解答即可.

【详解】

解：∵x的$\frac{1}{5}$是$\frac{1}{5}x$，

∴“比x的$\frac{1}{5}$小5 的数”可以表示成$\frac{1}{5}x-5$.

故选 A.

【考点】

本题考查了列代数式：把问题中与数量有关的词语，用含有数字、字母和运算符号的式子表示出来，就是列代数式．解答本题的关键是仔细读题，找出题目所给的数量关系.

8、D

【解析】

【分析】

如果两个单项式，他们所含的字母相同，并且相同字母的指数也分别相同，那么就称这两个单项式为同类项.

【详解】

A、B、C 说法均是正确的，D 中3^2xy^3是四次单项式.

【考点】

本题考察单项式知识的相关应用.

9、C

【解析】

【分析】

以上内容仅为本文档的试下载部分，为可阅读页数的一半内容。如要下载或阅读全文，请访问：https://d.book118.com/386050113151011020