重庆市九龙坡区数学七年级上册整式的加减定向攻克

考试时间：90 分钟；命题人：教研组

考生注意：

1、本卷分第 I 卷（选择题）和第 II 卷（非选择题）两部分，满分 100 分，考试时间 90 分钟

2、答卷前，考生务必用 0.5 毫米黑色签字笔将自己的姓名、班级填写在试卷规定位置上

3、答案必须写在试卷各个题目指定区域内相应的位置，如需改动，先划掉原来的答案，然后再写上新的答案；不准使用涂改液、胶带纸、修正带，不按以上要求作答的答案无效。

第 I 卷（选择题　20 分）

一、单选题（10 小题，每小题 2 分，共计 20 分）

1、下列说法不正确的是(　　)

A．$2a$ 是 2 个数 a 的和　　B．$2a$ 是 2 和数 a 的积

C．$2a$ 是单项式　　D．$2a$ 是偶数

2、下列图中所有小正方形都是全等的．图（1）是一张由 4 个小正方形组成的“L”形纸片，图（2）是一张由 6 个小正方形组成的3×2方格纸片．把“L”形纸片放置在图（2）中，使它恰好盖住其中的 4 个小正方形，共有如图（3）中的 4 种不同放置方法，图（4）是一张由 36 个小正方形组成的6×6方格纸片，将“L”形纸片放置在图（4）中，使它恰好盖住其中的 4 个小正方形，共有n种不同放置方法，则n的值是（　　）

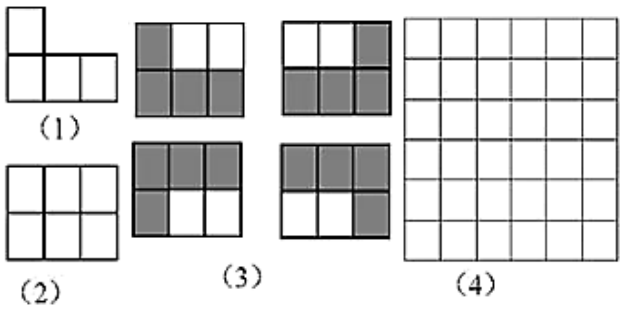

A．160　　B．128　　C．80　　D．48

3、下列不能用$4m$表示的是（　　）

A．葡萄的价格是 4 元/千克，买 $m$kg 葡萄的价钱

B．一个正方形的边长是 m，这个正方形的周长

C．甲平均每小时加工 m 个零件，4h 后共加工的零件个数

D．若 4 和 m 分别表示一个两位数中的十位数字和个位数字，表示这个两位数

4、$2x$ 与 $(x-3)$ 的 5 倍的差（　　）.

A．$x+3$　　B．$-3x-15$　　C．$-3x+15$　　D．$-3x+3$

5、下列计算正确的是(　　)

A．3a＋2b＝5ab　　B．$5a^2-2a^2=3$

C．7a＋a＝$7a^2$　　D．$2a^2b-4a^2b=-2a^2b$

6、某天数学课上老师讲了整式的加减运算，小颖回到家后拿出自己的课堂笔记，认真地复习老师在课堂上所讲的内容，她突然发现一道题目：$\left(2a^2+3ab-b^2\right)-\left(-3a^2+ab+5b^2\right)=5a^2$ ▬ $-6b^2$，空格的地方被墨水弄脏了，请问空格中的一项是（ ）

A．$+2ab$　　B．$+3ab$　　C．$+4ab$　　D．$-ab$

7、小王利用计算机设计了一个程序，输入和输出的数据如下表：

输入	…	1	2	3	4	5	…
输出	…	$\frac{1}{2}$	$\frac{2}{5}$	$\frac{3}{10}$	$\frac{4}{17}$	$\frac{5}{26}$	…

那么，当输入数据 8 时，输出的数据是（　　）

A．$\frac{8}{61}$　　B．$\frac{8}{63}$　　C．$\frac{8}{65}$　　D．$\frac{8}{67}$

8、下列单项式中，a^2b^3 的同类项是（　　）

A．a^3b^2　　B．$2a^2b^3$　　C．a^2b　　D．ab^3

9、给定一列按规律排列的数：$1,\frac{4}{3},\frac{3}{2},\frac{8}{5},\cdots$，则这列数的第 9 个数是（　　）

A．$\frac{9}{10}$　　B．$\frac{9}{5}$　　C．$\frac{16}{9}$　　D．$\frac{20}{11}$

10、如果 $-2x^{2}yn$ 与 $-5xm^{-1}y$ 的和是单项式，那么 m，n 的值分别是

A．$m=2$，$n=1$　　B．$m=1$，$n=2$

C．$m=3$，$n=1$　　D．$m=3$，$n=2$

第Ⅱ卷（非选择题　80 分）

二、填空题（10 小题，每小题 3 分，共计 30 分）

1、多项式 $\frac{5x-2}{3}+3y$ 的项是_____.

2、如图，在数轴上，点 A 表示 1，现将点 A 沿 x 轴做如下移动：第一次将点 A 向左移动 3 个单位长度到达点 A_1，第二次将点 A_1 向右移动 6 个单位长度到达点 A_2，第三次将点 A_2 向左移动 9 个单位长度到达点 A_3，按照这种移动规律移动下去，第 n 次移动到点 A_n，如果点 A_n 与原点的距离不小于 20，那么 n 的最小值是_____.

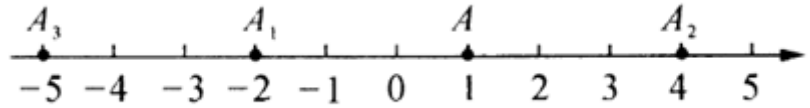

3、若 $x^{2}-3x=-3$，则 $3x^{2}-9x+7$ 的值是 _____.

4、如图是一组有规律的图案，它们由边长相同的正方形和正八边形组成，其中正方形涂有阴影，依此规律，第 n 个图案中有_____个涂有阴影的正方形.（用含 n 的代数式表示）

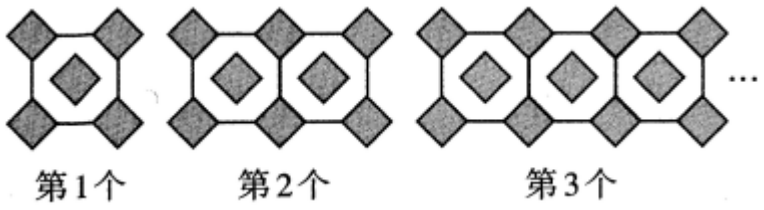

5、已知当 $x=2$ 时，代数式 $ax^{3}+bx-5$ 的值为 20，则当 $x=-2$ 时，代数式 $ax^{3}+bx-5$ 的值是_____.

6、已知有理数 a 和有理数 b 满足多项式 A，$A=(a-1)x^3+x^{|b+2|}-x^2+bx-a$ 是关于 x 的二次三项式，则 $a=$

_____，$b=$_____；当$x=-2$时，多项式A的值为_____.

7、如图所示的图形是按一定规律排列的.



则第n个图形中O的个数为_____.

8、观察下列图中所示的一系列图形，它们是按一定规律排列的，依照此规律，第2018个图形中共有_____个○.



9、$-\frac{2\pi x^3 y}{5}$的系数是_____.

10、将一串有理数按下列规律排列，回答下列问题：$\frac{1}{2}$，$-\frac{2}{3}$，$\frac{1}{4}$，$-\frac{4}{5}$，$\frac{1}{6}$，$-\frac{6}{7}$，…问题：第2020个数是_____.

三、解答题（5小题，每小题10分，共计50分）

1、小明在计算 $5x^2+3xy+2y^2$加上多项式A时，由于粗心，误算成减去这个多项式而得到$2x^2-3xy+4y^2$.

(1)求多项式 A;

(2)求正确的运算结果.

2、如图图案是用长度相同的火柴棒按一定规律拼搭而成，图案需8根火柴棒，图案②需15根火柴棒，图案②需15根火柴棒，…

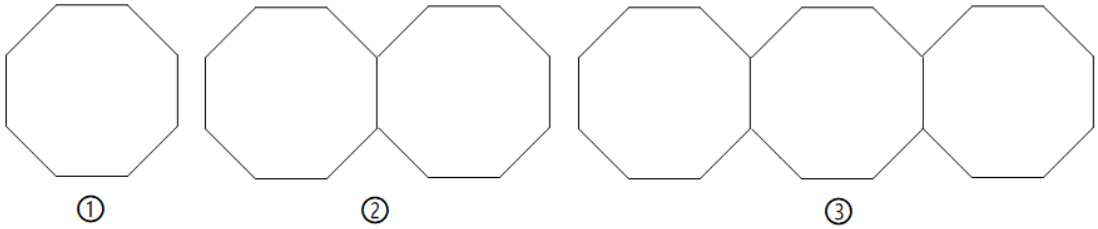

(1)按此规律，图案⑦需_____根火柴棒；

(2)用含 n 的代数式表示第 n 个图案需根火柴棒根数.

3、探究规律题：按照规律填上所缺的单项式并回答问题：

（1）a，$-2a^2$，$3a^3$，$-4a^4$，_____，_____；

（2）试写出第 2017 个和第 2018 个单项式；

（3）试写出第 n 个单项式；

（4）当 $a=-1$ 时，求代数式 $a+2a^2+3a^3+4a^4+\cdots+99a^{99}+100a^{100}+101a^{101}$ 的值.

4、先化简，再求值：$2(3a^2b-ab^2)-3(a^2b-1-2ab^2)-3$，其中 $a=-\frac{1}{2},b=2$.

5、已知：$x^2+xy=12$，$xy+y^2=15$，求 $(x+y)^2-(x+y)(x-y)$ 的值

-参考答案-

一、单选题

1、D

【解析】

【分析】

根据 2a 的意义，分别判断各项即可.

【详解】

解：A、$2a=a+a$，是 2 个数 a 的和，故选项正确；

B、$2a$ =2×a，是 2 和数 a 的积，故选项正确；

C、$2a$ 是单项式，故选项正确；

D、当 a 为无理数时，$2a$ 是无理数，不是偶数，故选项错误；

故选 D.

【考点】

本题考查了代数式的意义，注意 a 不一定为整数是解题的关键.

2、A

【解析】

【分析】

先计算出6×6方格纸片中共含有多少个3×2方格纸片，再乘以 4 即可得.

【详解】

由图可知，在6×6方格纸片中，3×2方格纸片的个数为$5\times4\times2=40$（个）

则$n=40\times4=160$

故选：A.

【考点】

本题考查了图形类规律探索，正确得出在6×6方格纸片中，3×2方格纸片的个数是解题关键.

3、D

【解析】

【分析】

对选项逐个计算，查看是否为$4m$即可.

【详解】

解：A. m千克葡萄的价钱是$4m$，不合题意；

B．正方形的周长是$4m$，不合题意；

C．甲4h后共加工$4m$个零件，不合题意；

D．这个两位数是$4\times10+m$，也就是$40+m$，符合题意．

故选D.

【考点】

此题考查了根据题意列代数式，解题的关键是理解题意．

4、C

【解析】

【分析】

先根据题意列出代数式，然后去括号，合并同类项，即可求解．

【详解】

解：根据题意得：

$2x-5(x-3)$

$=2x-5x+15=-3x+15$ ．

故选：C．

【考点】

本题主要考查了列代数式，整式的加减运算，明确题意，准确列出代数式是解题的关键．

5、D

【解析】

【分析】

直接利用合并同类项法则分别分析得出答案．

【详解】

A、3a+2b，无法计算，故此选项错误；

B、$5a^2-2a^2=3a^2$，故此选项错误；

C、7a+a=8a，故此选项错误；

D、$2a^2b-4a^2b=-2a^2b$，正确.

故选 D.

【考点】

此题主要考查了合并同类项，正确掌握运算法则是解题关键.

6、A

【解析】

【分析】

将等式右边的已知项移到左边，再去括号，合并同类项即可.

【详解】

解：依题意，空格中的一项是：

$(2a^2+3ab-b^2)-(-3a^2+ab+5b^2)-(5a^2-6b^2)=2a^2+3ab-b^2+3a^2-ab-5b^2-5a^2+6b^2=2ab$.

故选 A.

【考点】

本题考查了整式的加减运算，熟练掌握移项的知识，同时熟记去括号法则，熟练运用合并同类项的法则解题的关键.

7、C

【解析】

【分析】

根据图表找出输出数字的规律：输出的数字中，分子就是输入的数，分母是输入的数字的平方加 1，直接将输入数据代入即可求解.

【详解】

解：根据表中数据可得：输出数据的规律为$\frac{n}{n^2+1}$，

当输入数据为8时,输出的数据为$\frac{8}{8^2+1}=\frac{8}{65}$.

故答案选：C.

【考点】

本题考查的知识点是有理数的混合运算及列代数式，解题的关键是找到规律列出相应代数式.

8、B

【解析】

【分析】

比较对应字母的指数,分别相等就是同类项

【详解】

∵a的指数是3，b的指数是2，与a^2b^3中a的指数是2，b的指数是3不一致，

∴a^3b^2不是a^2b^3的同类项，不符合题意；

∵a的指数是2，b的指数是3，与a^2b^3中a的指数是2，b的指数是3一致，

∴$2a^2b^3$是a^2b^3的同类项，符合题意；

∵a的指数是2，b的指数是1，与a^2b^3中a的指数是2，b的指数是3不一致，

∴a^2b不是a^2b^3的同类项，不符合题意；

∵a的指数是1，b的指数是3，与a^2b^3中a的指数是2，b的指数是3不一致，

∴ab^3不是a^2b^3的同类项，不符合题意；

故选B

【考点】

以上内容仅为本文档的试下载部分，为可阅读页数的一半内容。如要下载或阅读全文，请访问：https://d.book118.com/398000054050007012