2022-2023学年河南省焦作市公务员省考行政职业能力测验真题一卷（含答案）

学校:_____ 班级:_____ 姓名:_____ 考号:_____

一、图形推理(6题)

1. 左边给定的是纸盒的外表面，下面哪一项能由它折叠而成?

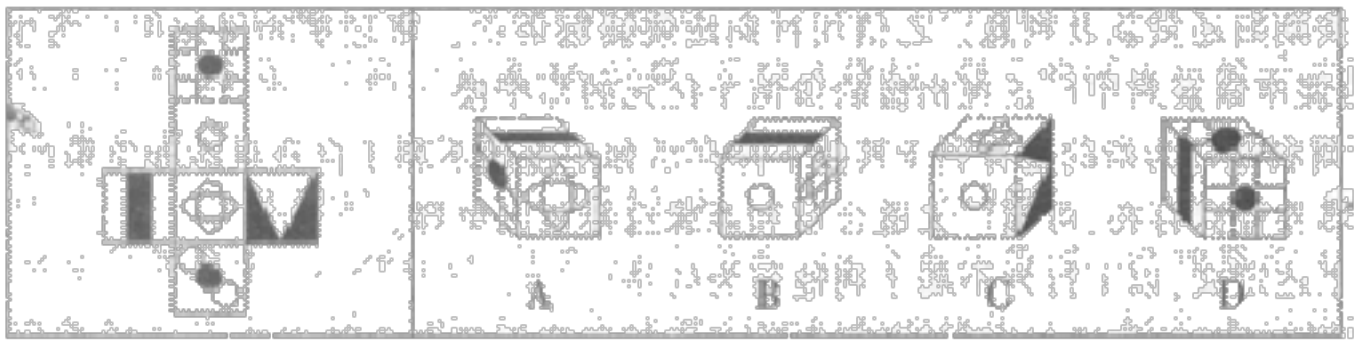

2. 从所给的四个选项中，选择最合适的一个填入问号处，使之呈现一定的规律性。(　　)

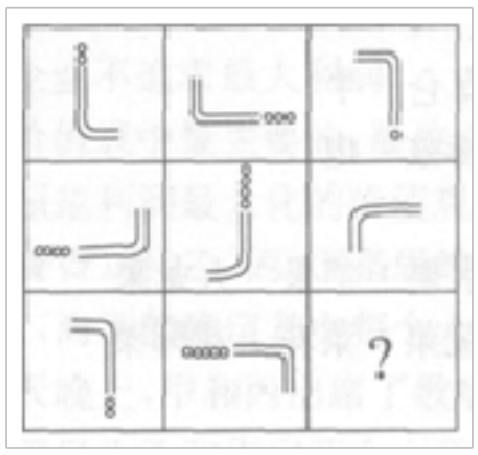

A.

B. 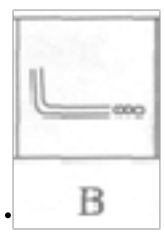

C. 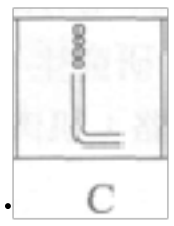

D. 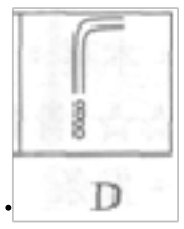

3. 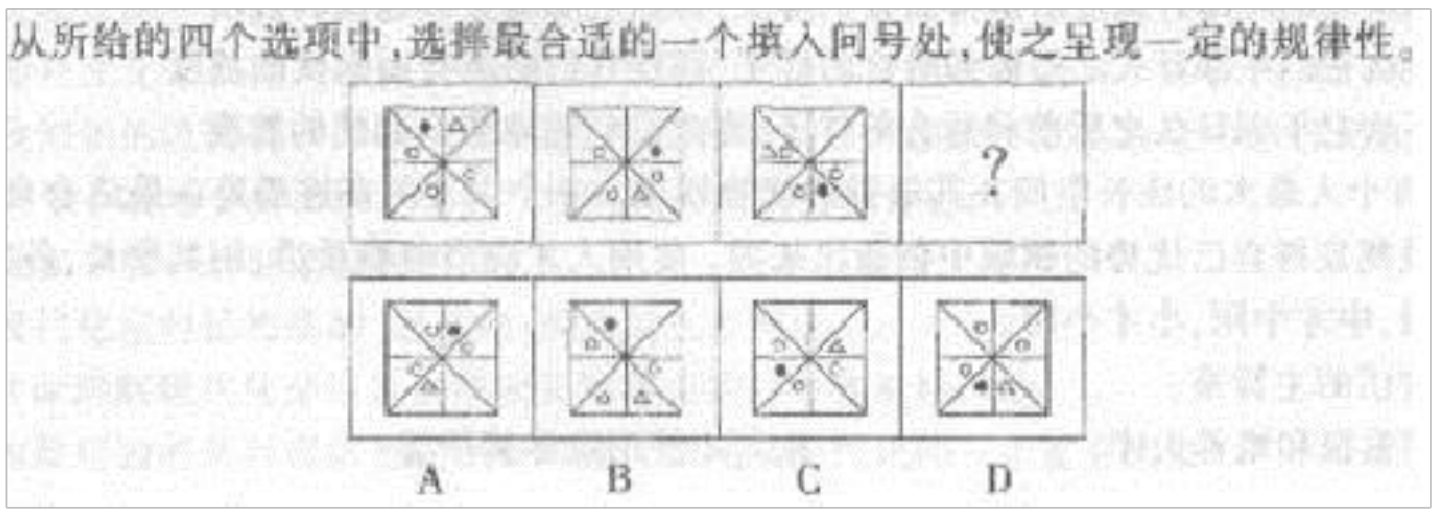

4.从所给的四个选项中，选择最合适的一个填入问号处，使之呈现一定的规律性。



5.从所给的四个选项中，选择最合适的一个填入问号处，使之呈现一定的规律性。

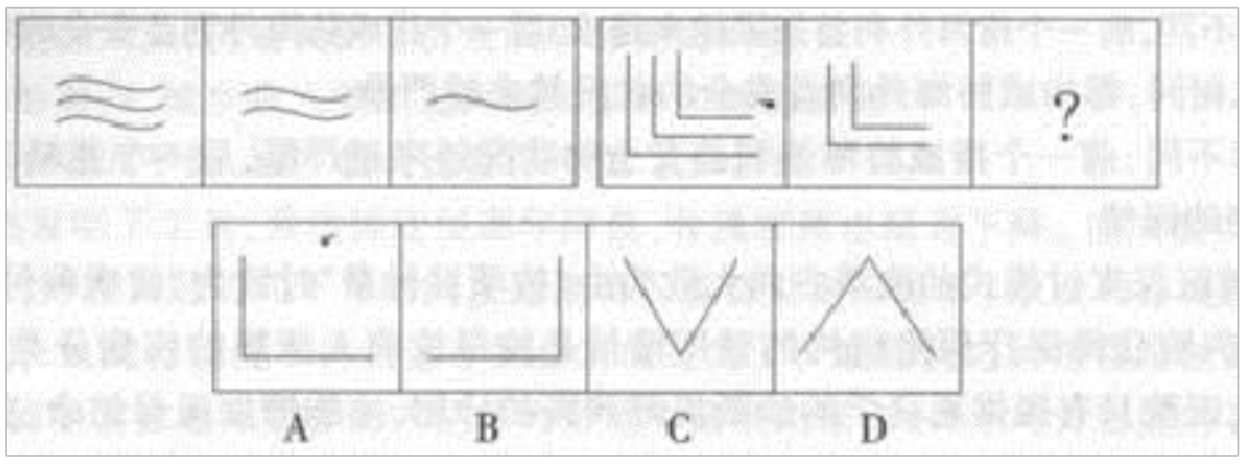

6.从所给的四个选项中，选择最合适的一个填入问号处，使之呈现一定的规律性：

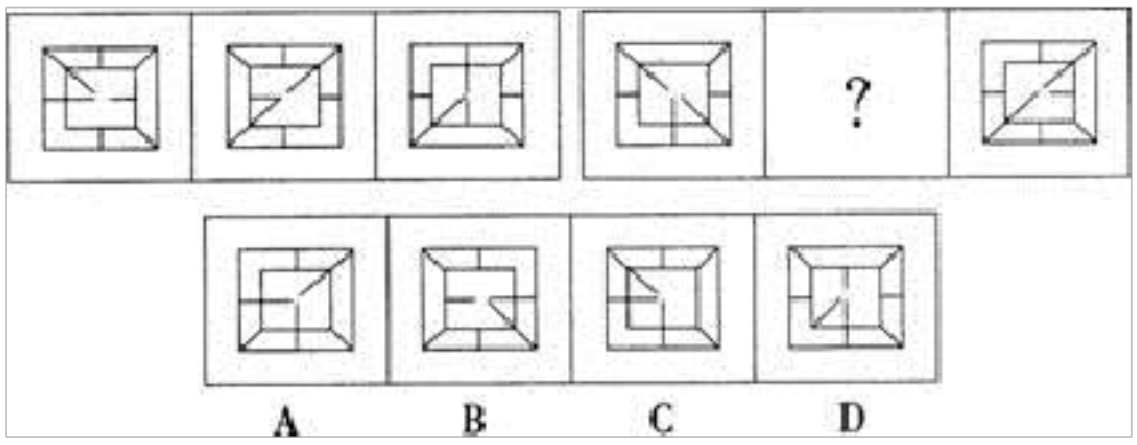

二、定义判断(10题)

7.

习得性无助是指人或动物经历了某种学习后，面对反复出现的不好的事件．感到难以控制从而学会放弃和感到无望的现象。下列选项中，不属于习得性无助的是：

A.小明每次考试都不及格，于是产生了厌学情绪，上课开始不喜欢听讲，经常走神，有时还会捣乱课堂纪律

B.小王每次都想把烟戒掉，但是每次总在关键时候又开始抽烟，因此他

认为自己自制力太差。永远也不可能戒烟了

C.由于没有完成公司的任务，小李认为自己肯定会被开除，因此感到非常的绝望

D.把小狗关在笼里，每次铃声一响就电击它，小狗无法躲避电击。经过很多次以后，当把笼子的门打开，铃声再响起时. 小狗也不会跑出笼子，而是等待电击

8. 产业联盟：出于确保合作各方的市场优势，寻求新的规模、标准、机能或定位，应对共同的竞争者或将业务推向新领域等目的，企业间结成的互相协作和资源整合的一种合作模式。

根据上述定义，下列不属于产业联盟的是：

A.国内电子信息龙头企业联想、TC1、海信、康佳、长城、长虹、创维等成立了闪联技术标准联盟. 该联盟制定了闪联技术标准。并领导闪联技术标准的发展升级

B.阎良被誉为“中国航空城”，有 100 多个与飞机研究制造有关的科研单位，先后设计完成了歼八、运八、飞豹、新舟 60 等 30 多种型号的飞机

C.富士通、日立、三菱机电、日本电气和东芝 5 家主要的 13 本半导体公司进行超大规模集成电路技术研发合作，帮助 13 本实现技术赶超

D.为了促进 TD—SCDMA 通信产业的快速健康发展，覆盖了 TD—SCDMA 产业链从系统、芯片、终端到测试仪表的各个环节的 48 家企业共同组成 TD—SCDMA 联盟

9.有形磨损和无形磨损是描述机器设备价值下降的概念。人才作为一种资源，也面临着有形磨损和无形磨损。人才的有形磨损是指随着年龄和工作时间的增长，同人才的身体和心理状况有关的体力、进取性和合作性等因素水平的下降。人才的无形磨损是指由于人才的观念、知识、方法的相对落后造成人才使用价值的下降。

根据上述定义，下列属于人才无形磨损的是（　　）。

A.科室的陈力对新引进的遥感设备不感兴趣，也不积极学习

B.在同一个岗位做了 20 年。刘主任有时觉得烦躁、意志减退

C.大学毕业生赵刚工作方法简单，经常受到同事的批评

D.45 岁的王组长常觉得体力不支，发出“心有余而力不足”的感慨

10. 寒蝉效应是一个法律用语，特别在讨论言论自由或集会自由时，指人民害怕因为言论遭到国家的刑罚，或是必须面对高额的赔偿，不敢发表言论，如同蝉在寒冷天气中噤声一般。寒蝉效应的发生，将导致公共事务乏人关心，被视为过度限制言论或集会自由的不良后果。

根据上述定义，下列属于寒蝉效应的一项是：

A.老王在开会时一直心不在焉。结果当领导询问他的意见时，只能说：“我同意大家的说法。”

B.大学教授李某在一次学术会议上因自己的观点和国家政策相抵触，虽然知道很多同事也有相同的观点，但是还是没敢说出来

C.某杂志记者小刘想要报导当地一房地产商勾结政府和黑社会对民房

进行强拆的新闻，但因为房地产商是杂志的广告客户，主编没有通过

D.小张不喜欢与人争辩，每次自己的意见在会议上被否决，他都是闭口不言

11. 低碳生活是指在正常的生活作息时所耗用的能量要尽量减少，从而降低碳，特别是二氧化碳的排放。下列行为不属于低碳生活的是：

A.小王每次出门购物都自带购物袋，从不使用免费或收费的塑料袋

B.小李因为身体胖，最近开始调整饮食习惯，每天多吃素菜

C.小张把自家的灯泡全部更换成了节能灯泡

D.小红喜欢在网上买衣服，可有的衣服买回来觉得不好看．就闲置在衣柜中

12. 失范行为是与教育规范不相一致、不协调甚至是冲突的行为。可以划分为：目的取向型失范行为、价值取向型失范行为、情感型失范行为、传统型失范行为这四类理想类型。其中情感型失范行为．主要指为了满足生理、心理或情感上的需要而做出的失范行为。

根据上述定义，下列属于情感型失范行为的是：

A.两名职校学生受李某之邀，一起为其被欺负的女友找对方“理论”，引发了一场殴斗

B.某校 4 名无聊的中学生为寻找乐趣，用烟头烫同学小明，甚至强迫其吞下他们的痰

C.一群未满 16 周岁的学生组成盗窃团伙，趁自己不会被判刑抓紧时间

进行“无罪偷窃”

D.中学生杨某发现网吧服务器存在漏洞后，多次利用该漏洞修改上网卡的账号金额数据

13.决策民主化：是指将民主机制引入决策过程，使决策方案经过充分的协商、论证后，再由决策机构集体审议作出决定的一种制度安排。

根据上述定义，下列事项没有体现决策民主化的一项是：

A.某村兴办水利。通过“一事一议”筹资筹劳

B.某市就地铁票价调整举行听证会

C.某企业在职工代表大会召开之前，分别向广大职工发出了为职代会总经理工作报告和厂长工作报告建言献策的倡议书

D.为防止突击购车甚至突击购车屯牌．某市紧急宣布实施“限牌令”

14. 激情管理就是通过各级领导的真情服务，激发起员工的一种高昂的精神状态，并使这种高昂状态得以延续和保持的一种管理模式。

根据上述定义，下列不属于激情管理的是（　　）。

A.中秋节前夕，甲公司给员工家里寄了月饼和慰问信

B.在每周五下午，乙公司对员工开展了“与总裁面对面”的活动

C.丙公司各个部门主动为员工提供了专业知识培训、业余生活关怀、健康关怀等方面的服务

D.丁公司是“按劳分配，多劳多得”，因此员工经常加班加点

15.声望定价策略．是指针对消费者“便宜无好货、价高质必优”的心理，对在消费者心目中享有一定声望，具有较高信誉的产品制定高价。

根据上述定义．下列不符合声望定价策略的是：

A.我国同仁堂的药品，尽管价格较高，但是仍比一般的低价药畅销

B.虽然近期韩元对欧元快速升值，但是欧洲奢侈品牌的价格在韩国依然保持螺旋式的上扬趋势

C.雷诺公司最早将圆珠笔引入美国时，尽管以生产成本价 40 倍的高价出售，却仍然很快就风靡美国

D.金利来领带，一上市就以优质、高价定位，对有质量问题的金利来领带，他们决不上市销售。更不会降价处理

16. 史华兹论断是指所有的坏事情,只有在我们认为它是不好的情况下，才会真正成为不幸事件。面对挫败，是自暴自弃，让它成为不可逆转的事实，还是让它变成促使重新奋发的动力，取决人们的主观努力。能从坏中看好，把坏事变成好事．就会别有洞天。

根据上述定义，下列没有体现史华兹论断的是：

A.甲认为丈夫迷恋足球影响了夫妻关系而向法院控告，要求生产足球的厂商赔偿她精神损失费 10 万元。该厂商利用这一离谱的案例，为公司大造声势，产品销量一下子就翻了四倍

B.乙使用某公司出产的一种药品而发生了中毒。该公司迅速制定了“终止使用，找出原因．解决问题、通告公众”的决策，消除了公众的误解，几个月后就恢复了生机

C.某航空公司因机械故障在纽约被迫降落后禁飞。乘客对此极为不满，该公司立即调度班机，将旅客送到了目的地并呈递了一封道歉信，弱化了乘客的不满情绪，提高了公司的声誉

D.根据食品安全检验检测情况,某食品店的汉堡因大肠杆菌超标6倍多，位列不合格名单。该食品店对外称检测汉堡的标准不对，要求卫生局重新考量

三、常识判断(10题)

17. 下述关于主要市场经济模式的划分，错误的是（　　）。

A.以中国、俄罗斯为代表的社会主义市场经济模式

B.以美国、英国为代表的自由市场经济模式

C.以德国、瑞典为代表的社会市场模式’

D.以日本、韩国为代表的政府主导型市场经济模式

18. 在我国解放初期,中国人民志愿军远赴朝鲜,与朝鲜人民并肩作战，进行了一场艰苦卓绝的抗美援朝的战争。中国人民志愿军赴朝作战的主要原因是（　）。

A.我国要充分显示自己在国际上的伟大

B.美帝国主义企图以朝鲜为跳板，威胁我国边境，我国人民要奋起保家卫国

C.我国武器先进，军事力量强大

D.我国要发扬无产阶级的国际主义精神

(PPI)和消费者物价指数(CPI)的说法，正确的是（　　）。

A.我国 CPI 的统计范围包括食物、交通通讯、居民购房消费等八大类

B.当 PPI 指数增幅很大而且持续加速上升时，该国央行应该采取减息对策

C.消费者物价指数(CPI)是一个滞后性数据

D.PPI 反映生产环节价格水平，CPI 反映消费环节的价格水平，因此，根据价格传导规律，CPI 不会对 PPI 产生影响

20. 只有主权国家参加的国际组织是(　　)

A.联合国、世界贸易组织 B.联合国、世界卫生组织 C.联合国、国际红十字会 D.国际奥委会、亚太经合组织

21.下列作品、作家、时代(或国别)及体裁对应正确的一项是：

A.《秋浦歌》——杜牧——唐代——诗歌

B.《北京人》——曹禺——现代——话剧

C.《哈姆雷特》——莎士比亚——英国——小说

D.《欧根·奥涅金》——歌德——德国——诗体小说

22.民国初年，政府动荡，中央政府失去对地方的有效控制。以下对造成这种局面的相关因素的表述，不正确的一项是（　　）。

A.武昌起义后各省宣布反清独立

C.帝国主义加紧对中国掠夺

D.民主共和观念冲击君主专制思想

23.地中海周边夏季的气候特征为：

A.湿润多雨 B.干燥少雨 C.高温多雨 D.寒冷干燥

24.
根据《刑法》关于拘役的规定，下列说法错误的是：

A.张某在拘役期间参加劳动并得到了报酬

B.李某因某事被判处拘役十四个月

C.王某被判处拘役．由公安机关就近执行

D.黄某在拘役期间可以每月回家一天

25.
观察我国树木的年轮，从方位上来看，一般是：

A.南宽北窄 B.南窄北宽 C.东宽西窄 D.东窄西宽

26.
社会主义初级阶段包含了四个方面的内容，其中，基本路线的核心和主体是：

A.“一个中心．两个基本点” B.坚持改革开放 C.领导和团结全国各族人民 D.物质文明与精神文明建设

题)

题 25　7，18，121，39，（ ）

A. 186
B. 27
C. 143
D. 150

28.

某校周一有 15 名学生迟到，周二有 12 名学生迟到，周三有 9 名学生迟到。如果有 22 名学生在这三天中至少迟到一次．则这三天都迟到的学生最多有多少人?

A.5 B.6 C.7 D.8

29.一次检阅，接受检阅的一列彩车车队共 30 辆，每辆车长 4 米，前后每辆车相隔 5 米。如果车队每秒行驶 2 米，那么这列车队要通过 535 米长的检阅场地，需要多少秒?

A.380 B.400 C.410 D.420

30.第 119 题 小华每分钟吹一次肥皂泡，每次恰好吹 100 个，肥皂泡吹出后，经过一分钟有一半破了，经过两分钟还有二十分之一没有破，经过两分半钟肥皂泡全破了。小华在第 20 次吹出 100 个新的肥皂泡的时候，没有破的肥皂泡有多少个?（　）。

A. 100
B. 150
C. 155
D. 165

31.第 14 题

以上内容仅为本文档的试下载部分，为可阅读页数的一半内容。如要下载或阅读全文，请访问：https://d.book118.com/418052042124006130