小学二年级上册数学应用题100道

一.解答题(共100题，共590分)

1.小明和小红共拾废塑料瓶85个，小红拾了30个。小明拾了多少个？
2.干农活。

（1）米奇拔萝卜，已经拔了16个，地里还剩下48个。地里原来有多少个？

□○□=□（个）

（2）米奇和小猪摘香蕉。米奇摘了48个，小猪比米奇多摘了12个。小猪摘了多少个？

□○□=□（个）

（3）米奇和小猪摘茄子。米奇摘了20个，小猪摘了34个。一共摘了多少个？送给宝宝餐厅50个，还剩多少个？

□○□=□（个）

□○□=□（个）
3.小兰买3块橡皮，每块橡皮3角钱，还买了一支5角钱的笔，小兰一共花了多少钱？
4.车上原有32人，现在有多少人？



5.明明一家去果园摘苹果，明明、爸爸和妈妈每人摘了9个苹果，妹妹摘了6个，全家一共摘了多少个苹果？
6.小华每天要写9个大字，她一个星期能写几个大字？
7.买玩具。

玩具名称	飞机	吉普车	起重机	火车
价格	30元	22元	25元	17元

小明和小红各有50元钱，他们想一起把上面四个玩具全部买下，钱够吗?

8.争星比赛。



（1）小红得了多少颗星?

（2）他们三人一共得了多少颗星?

9.每个花瓶插8枝菊花，6个花瓶可以插多少枝菊花？
10.小明有2个笔盒，每个笔盒里面有3只笔，小红有3个笔盒，每个笔盒有2只笔。请问小明和小红有的笔是否一样多？
11.一批零件有90个，李师傅第一天加工了27个，第二天加工了36个，还剩下多少个？
12.一双袜子9元，妈妈买了9双，付给售货员90元，应找回多少元？
13.如果尺子的前面断了，看不到0刻度了，怎么办？
14.玩具商店。



（1）买1辆玩具汽车和1只玩具熊猫，需要多少钱?

（2）小丽买了 4 只玩具狗和 1 部玩具电话，共需要多少钱?

（3）请你再提出一个用乘法解决的问题并解答。

15. 明光小学有排球 8 只，小足球比排球多 9 只。小足球有多少只。



16. 看图解决问题。



（1）母鸡和小鸡共有多少只?

（2）小鸡比鹅多几只?

（3）请你提出一个数学问题，并试着解答。

17. 学校买来了 38 盒白粉笔，24 盒彩色粉笔，用去 34 盒，还剩多少盒?

18. 在方框里写出钟面上所指的时刻，在括号里算出中间经过的时间。

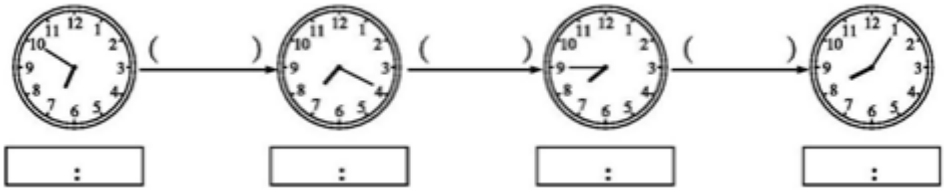

19. 王刚看一本故事书，每天看 6 页，看了 8 天，还剩 20 页，这本书一共有多少页？

20.  有 45 朵， 比  多 16 朵， 有多少朵？

21. 学校买了 48 盒粉笔，其中白色粉笔 30 盒，其他的都是彩色粉笔。

（1）彩色粉笔有多少盒?

（2）彩色粉笔比白色粉笔少多少盒?

22. 水果店有水果 86 筐，上午卖出去 58 筐，下午又运进来 23 筐，水果店现在有水果多少筐？

23. 贝贝家离学校有多远？

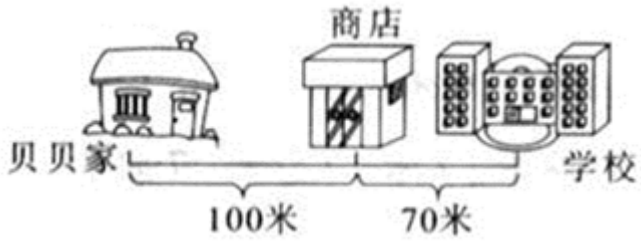

24. 妈妈带了 90 元，买鞋子花了 56 元，她还想买一条 33 元的裤子，钱够吗?

25. 果园里苹果树有 8 行，每行 8 棵，梨树比苹果树多 10 棵，梨树有多少棵?

26. 星期日跟妈妈去超市买东西．妈妈买了 3 块洗衣皂，还买了 48 元的水果．妈妈一共花了多少钱？



洗衣皂一块 6 元

27.看图回答。



5元



8元



9元

（1）9 个杯子多少元？

（2）50 元买 6 本笔记本，够吗？

（3）请你再提出一个数学问题，并尝试解答。

28.二年级（1）班上体育课，老师让 24 名同学做操，剩下的 18 名同学打篮球。全班共有多少名同学？打篮球的同学比做操的同学少几名？

29.有多少个桃子？

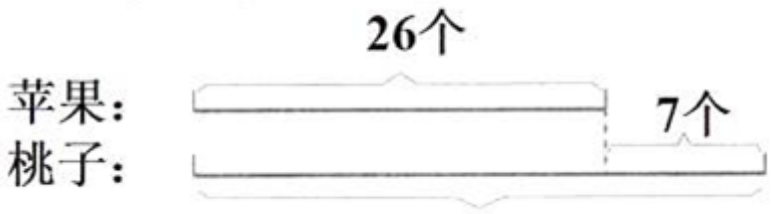

30.我们班有学生 40 人，如果每人一个苹果，还差 4 个，有多少个苹果？

31.看图回答。



（1）大客车有多少辆？

（2）小汽车有多少辆？

（3）你还能提出其他数学问题吗？并解答。

32.体育课上，二(1)班同学在做操，每排站 9 人，站了 4 排，其中男同学有 19 人。女同学有多少人?

33.同学们分成 4 组做风车，每组做了 8 只，送给幼儿园小朋友 18 只，还有多少只?

34.文具店原有 80 个文具盒，上午卖出了 25 个，下午卖出了 31 个，还剩下多少个？

35.学校运动会，参加跑步的有 7 个，参加跳绳的人数是跑步的 5 倍。参加跳绳的有多少人？

□○□=□（人）

36.



（1）丽丽回收了多少节电池?

（2）小军回收了多少节?

（3）小军和亮亮一共回收了多少节?

37.有一种时钟，1 时整时敲 1 下，2 时整时敲 2 下，3 时整时敲 3 下……另外每到半时还要敲 1 下。你知道从 12 时 20 分到下午 3 时 50 分，这个时钟一共敲了几下吗?

38.购物。



54元



32元



40元



9元

（1）买一盏台灯和一个计算器一共要多少元?

（2）台灯比地球仪贵多少元?

（3）你还能提出什么数学问题并列式解答?

39.小胖拍皮球，第一次拍了 45 下，第二次拍的与第一次同样多，两次共拍多少下?

40.学校田径队，男生 52 人，女生 46 人。

（1）女生比男生少多少人?

（2）田径队一共有多少人?

41.一张桌子配一把椅子，还差多少把椅子?



45 张



40 把

42. 解决问题。

饼干每包 4 元	巧克力每盒 6 元	蛋糕每块 5 元

（1）小明买 3 包饼干用了多少钱？

（2）小亮买 5 块蛋糕用了多少钱？

43.



46元



8元

买一辆玩具车和一只存钱罐一共要花多少钱？

44. 每个同学浇 3 棵树，第一小组共有 9 人，一共浇多少棵树？

45. 1 只小兔拔 2 个萝卜，7 只小兔拔多少个萝卜？



加法算式：_____

乘法算式：_____

口答：7 只小兔拔（_____）个萝卜.

46.河里有一群鸭子，小鸭子有 27 只，大鸭子比小鸭子少 15 只。大鸭子有多少只？河里一共有多少只鸭子？
47.有 9 名同学站排，每两个人之间的距离是 2 米，求排有多长？
48.购物。



（1）一顶帽子比一个书包便宜 24 元，一顶帽子多少钱？

（2）一双鞋比一顶帽子贵 45 元，一双鞋多少钱？

（3）一个书包、一本书和一个布娃娃一共多少钱？

49.



小雨拿了 50 元，买一个  和一只  ，钱够吗？

50.正方体的一个表面有 4 个直角，那么这个正方体一共有多少个直角？
51.小巧有 36 张云南丽江的明信片，从中选出 4 张送给小亚．小巧还有多少张明信片？
52.星期天，小明和四个好朋友一起去游乐园玩，每张门票 9 元，他们一共要付多少元?

53. 一捆电线长 20 米，第一次用去 5 米，第二次用去 6 米。

（1）一共用去多少米？

（2）还剩多少米？

54. 一共有多少个轮子？



55. 手工课上，缝一个沙包要用 6 块布，缝 5 个沙包要用多少块布？缝 5 个沙包准备 35 块布够吗？
56. 马上就要过年了，同学们开始剪窗花，有 5 个同学一起剪，每人剪 7 朵，还有 5 朵没有剪，一共要剪多少朵窗花。
57. 画角。一个角由一个顶点两条边组成。
58. 同学们种了 60 棵月季花，又种了 4 行菊花，每行 8 棵。种的月季花比菊花多多少棵?
59. 小胖送给灾区小朋友 38 本图书，自己还剩下 27 本，他原来有多少本书？
60. 妈妈带了 90 元钱要买一套衣服，可以怎么买？还剩多少元？



61. 幼儿园有花皮球和红皮球共 59 个，其中花皮球有 25 个，红皮球有多少个？
62. 5 棵果树结了多少个果子？



63. 商店有圆珠笔 53 枝，钢笔比圆珠笔少 18 枝。钢笔有多少枝?
64. 黑兔有 47 只，比白兔多 19 只，白兔有多少只？黑兔和白兔一共有多少只？

65.25 人乘船去游玩，每船限乘 4 人，至少需要几条船?

以上内容仅为本文档的试下载部分，为可阅读页数的一半内容。如要下载或阅读全文，请访问：
https://d.book118.com/436213213043011103