专题 04　发展社会主义市场经济

【2022 年真题】

1．（2022·全国乙卷）2022 年中央一号文件明确要求：适当提高稻谷、小麦最低收购价，健全农民种粮收益保障机制；在黄淮海、西北、西南地区推广玉米大豆带状复合种植，在东北地区开展粮豆轮作，在长江流域开发冬闲田扩种油菜。这是为了（　　）

①保护农民种粮积极性，稳定粮食产量

②发挥市场决定作用，有效配置农业资源

③优化农作物种植结构，更好满足市场需求

④扩大农作物种植面积，实现农产品自给自足

A．①③　　B．①④　　C．②③　　D．②④

2．（2022·全国甲卷）为统筹利用东部地区日益增长的数据算力需求和西部地区丰富的空间资源、自然资源和电力资源优势，我国于 2022 年 2 月正式全面启动“东数西算”工程，通过构建一体化新型算力网络体系，把东部地区大量生产生活数据输送到西部地区进行存储、计算、反馈，推动算力资源有序向西转移，促进解决东西部算力供需失衡问题，推动数字经济均衡发展。“东数西算”工程正在吸引企业和资本的积极参与，其经济动因是（　　）

①西部算力具有资源比较优势，成本相对较低

②西部算力供应链完整，数字字经济的优势显著

③西部对算力需求大，资本投入有良好收益预期

④算力市场的供需缺口大，具有广阔的发展空间

A．①③　　B．①④　　C．②③　　D．②④

3．（2022·全国乙卷）在美丽乡村建设行动中，某县深入实施城乡环卫一体化工程，配备环卫基础设施，招标引进专业环卫公司负责全县范围的污染水体治理。该县招标引进专业环卫公司的目的是（　　）

①发挥社会资本作用，增加公共产品供给

②节约公共服务支出，缓解财政资金压力

③引入市场竞争机制，提高公共服务效率

④改善公共产品结构，增强地方经济实力

A．①②　　B．①③　　C．②④　　D．③④

4．（2022·湖南）2021年底召开的中央经济工作会议提出，要正确认识和把握资本的特性和行为规律。要发挥资本作为生产要素的积极作用，同时有效控制其消极作用。既要依法加强对资本的有效监管，防止资本野蛮生长，也要支持和引导资本规范健康发展。这要求（　　）

①完善市场准入制度，加强对资本的源头治理

②健全行业监管机制，消除垄断和资本逐利性

③营造公平市场环境，激发各类市场主体活力

④积极参与国际循环，引领资本全球化的进程

A．①③　　B．①④　　C．②③　　D．②④

5．（2022·广东）农民工是我国“稳就业”的重点群体之一。根据国家统计局数据，本地农民工和外出农民工（包括省内流动和跨省流动）的变化如图（农民工结构变化图）：

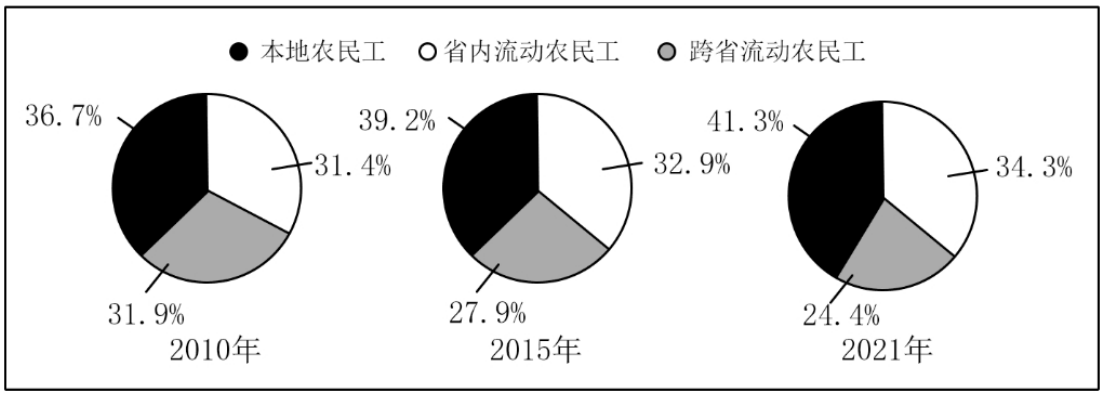

图 农民工结构变化

据此，以下分析合理的是（　　）

①本地农民工比重提高的原因是就业岗位从城市向乡村转移

②省内流动农民工不断增加主要是由于跨省农民工回流引起

③跨省农民工持续回流反映出我国区域发展差距正在逐步缩小

④县域经济发展和乡村振兴政策吸引农民工主动返乡就业创业

A．①②　　B．①④　　C．②③　　D．③④

6．（2022·湖南）《中共中央国务院关于加快建设全国统一大市场的意见》强调，要加快建设高效规范、公平竞争、充分开放的全国统一大市场，为构建高水平社会主义市场经济体制提供重要支撑。能正确反映其内在联系的是（　　）

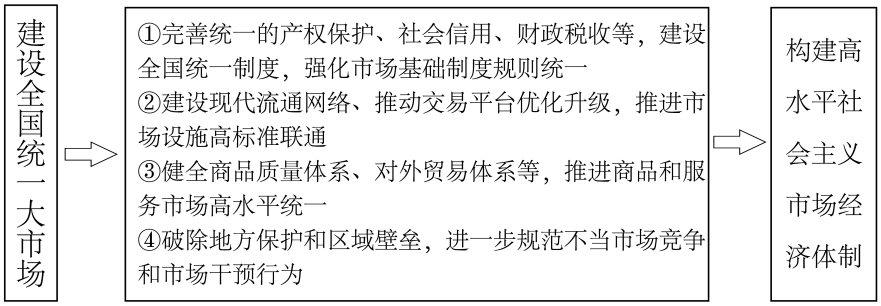

A．①③　　B．①④　　C．②③　　D．②④

2021年真题

1．（2021·全国高考真题乙卷）经济合作与发展组织数据显示：2020 年全球外国直接投资（FDI）总规模为 8460 亿美元，比上年下降 38%，但中国 FDI 逆势增至 2120 亿美元，增幅为 14%，成为全球最大外资流入国。2020 年中国 FDI 逆势增长，得益于（　　）

①中国有效控制新冠肺炎疫情，经济增长率先恢复

②中国进一步扩大开放，货物进出口总额大幅增长

③中国营商环境不断优化，对外资更具吸引力

④中国对外直接投资不断增大，投资结构改善

A．①③　　B．①④　　C．②③　　D．②④

2．（2021·河北高考真题）我国在坚持高质量引进来的同时，鼓励高水平走出去，扩大对外直接投资。近年来，我国涌现出一批重要的海外并购项目，如河钢集团成功收购塞尔维亚斯梅代雷沃钢厂，使百年老厂重焕生机。目前我国已成为双向投资大国，对外直接投资多年居全球前三名，吸引外资 2020 年居全球首位。我国双向投资快速发展的原因包括（　　）

①实现引进外资与对外投资平衡的目标要求

②经济全球化的深入发展与跨国公司生产经营的全球布局

③我国国际产能合作的大力推进与近年来国际经济安全性的不断提高

④发挥我国大市场优势与积极参与多双边区域投资贸易合作机制

A．①②　　B．①③　　C．②④　　D．③④

3．（2021·湖南高考真题）湖南发展先进制造业有基础、有优势。截至 2019 年底，全省有 16 家企业和 27 个项目列入国家智能制造试点示范和专项项目，制造业占工业增加值比重超过 90%，对经济增长贡献率

超过 30%。从“单项冠军”来看，工程机械产业规模连续 10 年居全国第一，电力机车产品全球市场份额第一。湖南先进制造业（　　）

①突破了关键技术“卡脖子”制约

②筑牢了湖南实体经济的发展基础

③成为了湖南高质量发展的重要引擎

④占据了全球制造业市场的主导地位

A．①②　　B．①④　　C．②③　　D．③④

4．（2021·湖南高考真题）近年来新疆现代农业发展迅速。作为我国棉花的主产区，2020 年全区棉花机械采摘率达到 69．83%；“中国薰衣草之乡”伊犁，通过传感器监测、自动化农机耕作，薰衣草品质显著提高；“瓜果之乡”哈密，推广智慧农业云系统，瓜果种植更加精细更具特色。现代农业科技的广泛应用（　　）

①保障了新疆农产品的市场占有率

②提升了新疆农业的规模化集约化水平

③创新了新疆农产品的生产和销售模式

④推动了新疆资源优势转化为经济优势

A．①②　　B．①③　　C．②④　　D．③④

5．（2021·广东高考真题）2021 年，国务院在政府工作报告中提出了大型商业银行普惠小微企业贷款增长 30%以上、中小企业宽带和专线平均资费再降 10%、纵深推进“放管服”改革等工作任务。以上政策意在（　　）

①调整和优化资金流向，集中信贷优先支持小微企业

②通过进一步优化营商环境，激发市场微观主体活力

③降低中小企业信息化投入成本，加快推动其数字化转型

④加大财政政策和货币政策的扩张力度，保证经济高速运行

A．①②　　B．①④　　C．②③　　D．③④

6．（2021·浙江高考真题）国家“十四五”规划指出，我们要推动共建“一带一路”高质量发展，建设数字丝绸之路，创新丝绸之路，绿色丝绸之路，健康丝绸之路。推动共建“一带一路”高质量发展（　　）

①使得我国全方位、宽领域、多层次的对外开放格局逐步形成

②需要加强科技、生态、医疗等多个领域的国际合作

③是发展更高层次开放经济的重要举措

④意味着我国新发展格局要以国际大循环为主体

A．①②　　B．②③　　C．①④　　D．③④

7．（2021·浙江高考真题）2021 年 4 月 10 日，国家市场监督管理总局依法对某集团的垄断行为开出巨额罚单，国家对垄断行为进行处罚（　　）

①可以防止市场调节的自发性　　②有利于维护国家的整体利益

③旨在维护公平公正的市场秩序　　④是使用经济手段进行宏观调控

A．①②　　B．②③　　C．①④　　D．③④

8．（2021·全国高考真题甲卷）近些年来，中国经济总量和发展水平不断提高同时，中国经济外部环境日益错综复杂。2020 年 7 月 21 日，习近平在企业家座谈会上强调，要逐步形成以国内大循环为主体、国内国际双循环相互促进的新发展格局。构建双循环新发展格局应当（　　）

①发挥内需潜力，更好联通和利用国内国际两个市场

②建立独立的产业链供应链，有效应对外部经济波动

③立足自给自足，逐步降低经济的对外依存度

④强化开放合作，提升国内循环的效率和水平

A．①③　　B．①④　　C．②③　　D．②④

2020年真题

1．（2020·新课标 I）2019 年 10 月，《中共中央关于坚持和完善中国特色社会主义制度、推进国家治理体系和治理能力现代化若干重大问题的决定》首次将数据与劳动、资本、土地等并列，将其列为生产要素。数据被列为生产要素是因为（　　）

①数据广泛融入生产过程，具有独特创造力

②数据是最具流动性的基础性资源

②数据的所有权和使用权可以分离

④数据对提高生产效率的作用日益凸显

A．①②　　B．①④　　C．②③　　D．③④

2．（2020·新课标II）自 2013 年以来，我国已累计设立 18 个自由贸易试验区（简称自贸区），区内试行贸易和投资便利化制度，进一步放宽金融和制造业领域的市场准入，完善知识产权保护制度，自贸区成为制度创新的“高地”。设立自贸区的意义在于（　　）

①发挥自贸区在国民经济中的主导作用

②优化营商环境，发展更高层次的开放型经济

③探索完善新时代社会主义市场经济体制的新途径

④全面开放市场，强化竞争机制，培育中国经济新优势

A．①②　　B．①④　　C．②③　　D．③④

3．（2020·新课标III）下图反映2018～2019年中国对外货物贸易顺差情况（本题将全球经济体分为中国、“一带一路”沿线国家、美国和其他经济体）。

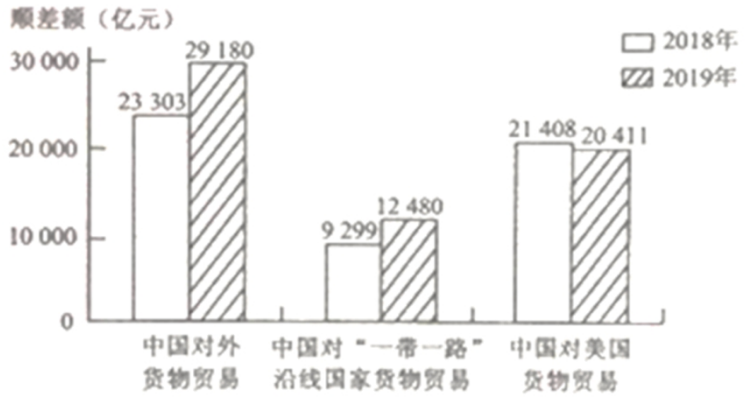

2018～2019年中国对外货物贸易顺差

据图可推断出（　　）

①中国对其他经济体存在货物贸易逆差

②美国是中国货物贸易顺差的重要来源

③中国货物进口额大于出口额，且差额扩大

④中国从“一带一路”沿线国家进口的商品增加

A．①②　　B．①③　　C．②④　　D．③④

4．（2020·江苏卷）我国西部某乡村，通过实施“互联网+农村”工程，短短五年时间，人均年收入从不到3600元提高到8000元，把一个偏远的乡村打造成数字乡村，成为当地引领乡村振兴的标杆。对该材料的正确解读是（　　）

A．信息消费已成为拉动我国乡村经济发展的重要引擎

B．发展互联网经济是构筑现代化经济体系的坚实基础

C．实现城乡融合发展是促进乡村经济振兴的根本途径

D．发展农村新产业新业态是乡村经济振兴的重要手段

5．（2020·山东卷）某农业物联网示范小镇，引入农业物联网技术，为农作物安装传感器，农民可以实时了解农作物水分状态、果实增重与膨大速率等生长状况，用手机就能实现对作物生长过程的精准管理，可以节水、省肥、减少劳动力的投入。此举旨在（　　）

①改进农业生产工具，扩大农作物种植面积

②提高农业科技水平，推进农业现代化

③调整农村生产关系，促进—二三产业融合发展

④促进农业生产节能降耗，发展高效农业

A．①②　　B．①③　　C．②④　　D．③④

6．（2020·天津卷）对漫画《摇身一变》反映的经济现象认识正确的是（）



《摇身一变》作者：王铎

①这是市场调节自发性的表现

②市场交易应该遵循诚实守信的原则

③供求关系决定价格，供不应求价格上涨

④名人效应影响价格是市场调节盲目性的表现

A．①④　　B．①②　　C．②③　　D．③④

7．（2020·天津卷）近年来，有外资企业将部分产业链转移至成本更低的东南亚国家，但中国劳动力的素质、技能较东南亚国家有优势，且产业链转移并非一朝一夕的事，加之中国营商环境不断优化，外资企业出于自身利益考虑，不会大规模流出。对此现象理解正确的是（　　）

A．中国坚持引进来和走出去并重

B．跨国公司是经济全球化的重要载体

C．资本的流动是为了追求利润最大化

D．对外开放有利于缩小国家间的发展差距

8．（2020·浙江卷）近年来，中央财政、中央企业出资设立产业扶贫基金。该基金独立运营、自负盈亏，以股权、债权等方式，投资贫困地区产业建设，增强贫困地区的造血功能。这种扶贫方式（　　）

①引入了市场机制

②改变了国家的扶贫政策

③直接刺激消费需求

④注重经济效益和社会效益的统一

A．①②　　B．③④　　C．②③　　D．①④

9．（2020·浙江卷）肯尼亚鲜花、乌干达芒果……随着网上中非经贸博览会正式上线，只要点击鼠标，来自非洲多国的特产最快两天就可到达中国；非洲消费者也能在线选择成千上万种中国产品。这表明（　　）

①贸易全球化离不开数字技术

②外贸新模式促进中非经济交往

③经济全球化促成数字技术大发展

④科技进步为中非经贸往来增添新动力

A．①②　　B．③④　　C．①③　　D．②④

10．（2020·新课标 I）国家主席习近平在 2019 年 4 月第二届“一带一路”国际合作高峰论坛开幕式上的主旨演讲中，用“万物得其本者生，百事得其道者成”来形容共建“一带一路”。下列选项与“本”和“道”含义不相符的是（　　）

A．经济全球化的历史潮流

B．全球治理体系变革的时代要求

C．各国人民过上更好日子的强烈愿望

D．发展中国家实现区域经济一体化的迫切需要

2019年真题

1．（2019·江苏卷）面对全球汽车行业的巨大创新机遇和挑战，国内某企业以 90 亿美元收购一家国外汽车制造巨头，成为该家企业的最大股东，以期通过协同与分享来占领技术制高点。材料表明

①跨国公司是经济全球化的强有力载体

②企业并购是打造核心竞争力的重要途径

③我国企业在国际竞争中居于主导地位

④企业并购是规避国际经营风险的重要手段

A．①②　　B．①④　　C．②③　　D．③④

2．（2019·新课标全国卷II）2019 年 1 月，证监会发布《关于在上海证券交易所设立科创版并试点注册制的实施意见》。科创板是专门服务有良好发展前景和市场认可度的科技型与创新型企业的股票板块。与现行股票市场中的主板不同，科创板试行注册制，并允许尚未盈利的公司上市。设立科创板旨在

①放宽市场准入，支持科创企业发展

②完善资本市场，提高资本配置效率

③增加投资选择，控制资本市场风险

④加速资金流动，提高股市投资回报率

A．①②　　B．①③　　C．②④　　D．③④

3．（2019·新课标全国卷III）2019 年 2 月，中共中央、国务院印发《粤港澳大湾区发展规划纲要》，对推动粤港澳大湾区发展，建设世界级城市群做出重大战略部署。粤港澳大湾区位于“一带一路”的交汇点，具有“一个国家、两种制度、三个关区”的特点。从产业结构看，港澳地区以金融、信息技术等现代服务业为主，广东九个城市以生产制造为主。关于打造粤港澳大湾区的重大意义，下列判断中不恰当的是

A．促进产业转型升级，实现中国东中西区域协调发展

B．丰富“一国两制”实践内涵，进一步密切内地与港澳交流合作

C．推进供给侧结构性改革，加快培育发展新动能、实现创新驱动发展

D．建立与国际接轨的开放型经济新体制，建设高水平参与国际经济合作新平台

4．（2019·新课标全国卷III）2012～2018 年间甲国对乙国服务贸易出口变化如图所示。促成这一变化的经济现象有

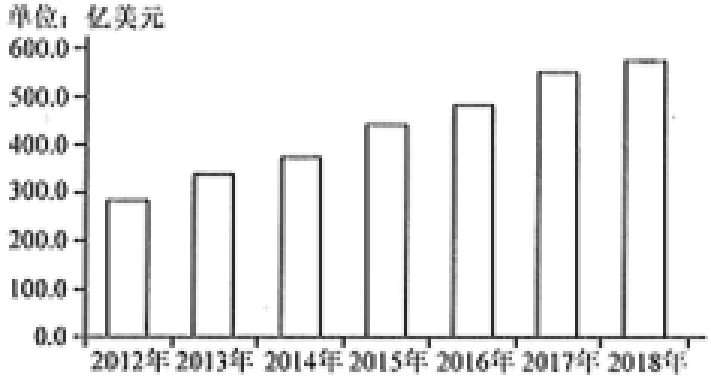

①乙国吸引甲国的游客数量逐年增长

②乙国在甲国的留学生人数不断增加

③乙国出口到甲国的文化产品日趋丰富

④乙国向甲国支付的知识产权费用持续上升

A．①②　　B．①③　　C．②④　　D．③④

5．（2019·浙江 4 月）某互联网平台仅依据医疗机构的竞价排名向网民提供医疗信息，引发医疗乱象，受到严厉惩处。这告诉我们

A．企业的经营具有自发性、盲目性

B．医疗行业的经营不能让市场来调节

C．互联网平台的发展要引入市场机制

D．市场主体应当遵守市场道德

2018年真题

1．（2018 年全国I卷） 我国 2013—2017 年消费和投资对经济增长贡献率如图 5 所示。



图 5

从图 5 可以推断出

①经济结构在逐步转型升级

②全社会资本形成总额逐年下降

③消费在经济增长中的作用不断增长

④经济增长逐渐由投资拉动转向消费拉动

A．①②　　B．①③　　C．②④　　D．③④

2．（2018 年全国II卷）近三年来，某国财政赤字率和通货膨胀率的变化如表 2 所示。

表 2

年份 指标	22015 年	22016 年	22017 年
财政赤字率	33%	44．2%	66．7%
通货膨胀率	55%	77．5%	13%

为了应对这种局面，该国可采取的政策措施是

①降低企业所得税税率

②央行在市场上出售债券

③降低存款准备金率

④压缩政府开支

A． ①③　　B． ①④　　C． ②③　　D． ③④

3．（2018 年高考全国 2 文综政治 15）2018 年 4 月，在博鳌亚洲论坛年会上，中国人民银行宣布了中国金融业对外开放 12 大举措，包括取消银行和金融资产管理公司的外资持股比例限制，大幅度扩大外资银行的业务范围等。扩大中国金融业对外开放，意味着

①金融市场结构将发生变化，系统性金融风险降低

②金融产品将更加丰富，市场主体有更多选择

③金融机构的成本将降低，金融资产的收益率提高

④将形成新的竞争格局，促进中国金融业改革

A． ①③　　B． ①④　　C． ②③　　D． ②④

4． （2018 年全国III卷）某国 2013～2017 年对外贸易差额变化如图 6 所示。

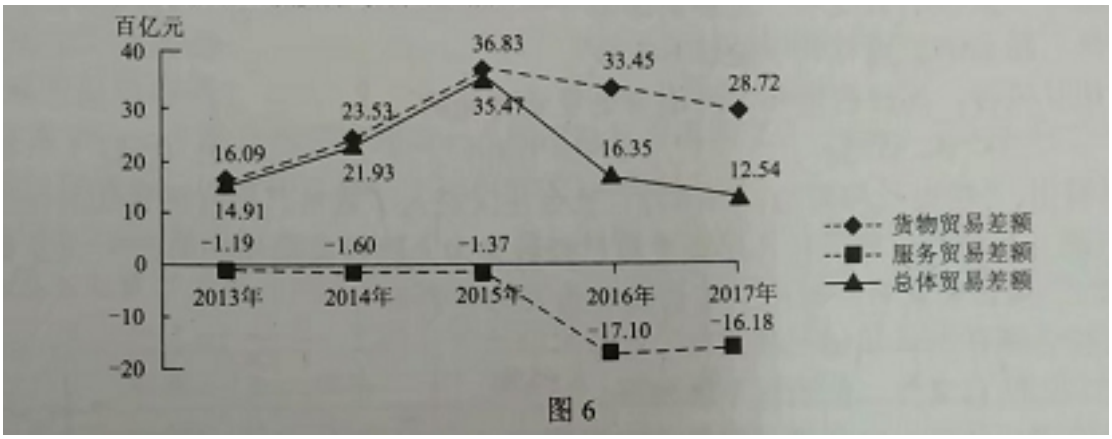

图 6

下列措施中，有助于该国平衡总体贸易收支的是

①降低进口关税，扩大成套设备进口

②制定配套政策，引进国外高新技术

③完善产业体系，减少关键零部件进口

④优化旅游环境，大力吸引海外游客

A．①②　　B．①③　　C．②④　　D．③④

5．（2018 年高考天津卷政治 1）改革开放 40 年来，中国从低收入发展中国家发展成为世界第二大经济体，并迈向中等收入国家行列，其成就得益于全球化。同时，中国为全球化创造巨大市场，已成为世界经济增长的重要引擎，多年来对世界经济增长的贡献率超过 30%。这说明全球化

A．是以平等互利为基础的

B．是解决发展问题的根本途径

C．有利于推动国际新秩序的建立

D．既有利于中国的发展也有利于世界的发展

6．（2018 年天津卷）党的十八大以来的五年，面对极其错综复杂的国内外形势，以习近平同志为核心的党中央团结带领全国各族人民砥砺前行，推动经济社会发展取得历史性成就：

①贫困人口减少 6800 多万

②居民人均可支配收入增加 9000 多万

③经济年均增速超过 7%

④第三产业占 GDP 比重超过 50%

以上成就的传导路径是

A．①→②→③　　B．③→②→④

C．③→②→①　　D．④→①→③

7．（2018 年高考天津卷政治 10）根据图中信息，下列说法正确的是

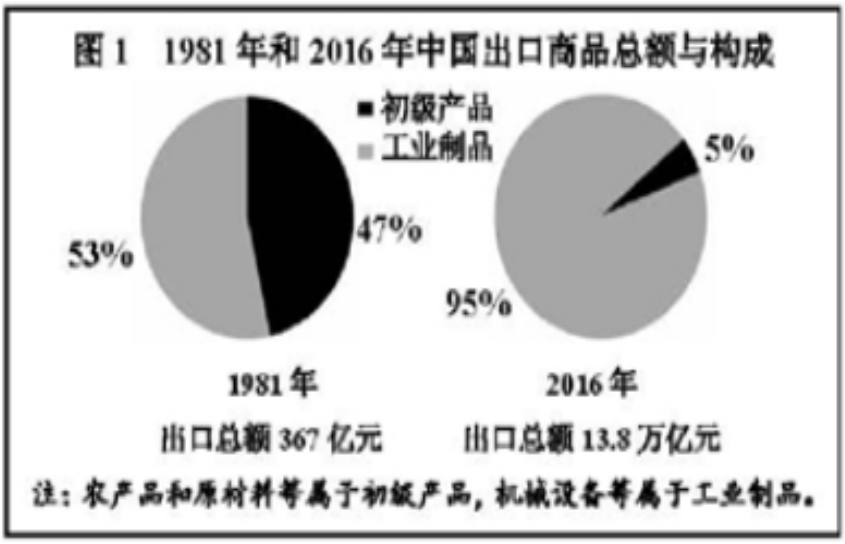

A．　我国开放型经济水平显著提高

B．　我国经济社会发展获得了良好的国际环境

C．　我国对外开放中“走出去”的规模不断扩大

D．　我国形成了全方位、宽领域、多层次的对外开放格局

8．（2018年江苏卷）中国共产党第十九次全国代表大会的主题是：不忘初心，牢记使命，高举中国特色社会主义伟大旗帜，决胜全面建成小康社会，夺取新时代中国特色社会主义伟大胜利，为实现中华民族伟大复兴的中国梦不懈奋斗。中国共产党人的初心和使命是

A．　艰苦奋斗，全面建成小康社会

B．　为中国人民谋幸福，为中华民族谋复兴

C．　不懈努力，实现社会主义现代化

D．　以人民为中心，建设中国特色社会主义

9．（2018年高考江苏卷政治2）2017年12月召开的中央经济工作会议指出，中国特色社会主义进入了新时代，我国经济发展也进入了新时代，基本特征就是我国经济已由

A．　传统经济转向现代经济

B．　不均衡发展阶段转向协调发展阶段

C．　虚拟经济转向实体经济

D．　高速增长阶段转向高质量发展阶段

10．（2018年江苏卷）证监会针对内幕交易，利用大数据筛查异常交易线索，本着“零容忍”“全覆盖”“无死角”的原则从严监管，2017年共作出行政处罚决定224件，罚没款金额74．79亿元，市场禁入44人。上述举措旨在

①提高资本市场交易效率

②促进资本市场健康发展

③保护投资者的合法权益

④消除资本市场投资风险

A．①②　　B．①④　　C．②③　　D．③④

11．（2018年高考海南卷政治3）我国某制鞋企业在意大利设立设计中心，负责设计鞋型；在西班牙设立采购中心，负责采购皮革：在柬埔寨设立生产基地，负责制作鞋底；在广州总部加工后，经香港配送世界各地。该经营方式反映的理念是：

A．整合全球资源，充分利用各地的比较优势

B．通过产业转移，带动其他国家的技术升级

C．以国内市场换取海外经销渠道和先进技术

D．与国外企业联手经营，快速扩大市场份额

12．（2018年高考海南卷政治4）2007～2017年，金砖国家经济总量占全球的比重从12%上升到23%，贸易总额比重从11%上升到16%，对外投资比重从7%上升到12%，对世界经济增长的贡献率达到50%。这表明：

①金砖国家是全球经济增长的重要引擎

②金砖国家与世界各国经济联系日益紧密

③区域经济一体化成为经济全球化的主流形式

④经济全球化的发展正逐步转向由金砖国家主导

A．①②　　B．①③　　C．②④　　D．③④

2017年真题

1（2017年高考全国1文综政治13）．某地政府逐步将市政道路、地下管网、污水和垃圾处理、土壤和水土修复等公益类项目和非运营类项目向社会开放，允许企业参股投资和经营。这一做法的目的在于

①发挥不同所有制经济的优势

②提高公益类项目的运营效率

③让市场决定公共资源的配置

④逐步建立国有资本退出机制

A．①②　　B．①③　　C．②④　　D．③④

2（2017 年高考全国 1 文综政治 14）． 国内生产总值（GDP）表示一个国家（或地区）在一定时期（通常为一年）内所生产的最终产品和劳务的价格总和。下列计入中国 GDP 的产品或劳务是

A．北京厨师为家人做了一顿丰盛晚餐

B．上海商人购买的一件精美的清代瓷器

C．中国某企业在纽约工厂生产的汽车玻璃

D．外国某企业在武汉工厂生产的空调和冰箱

3（2017 年高考全国 2 文综政治 14）． 图 4a 和图 4b 分别反映 1995 年和 2014 年亚太区主要国家的贸易依存网络。箭头“甲→乙”表示乙国为甲国最大的贸易伙伴。图 4a 到图 4b 的变化说明

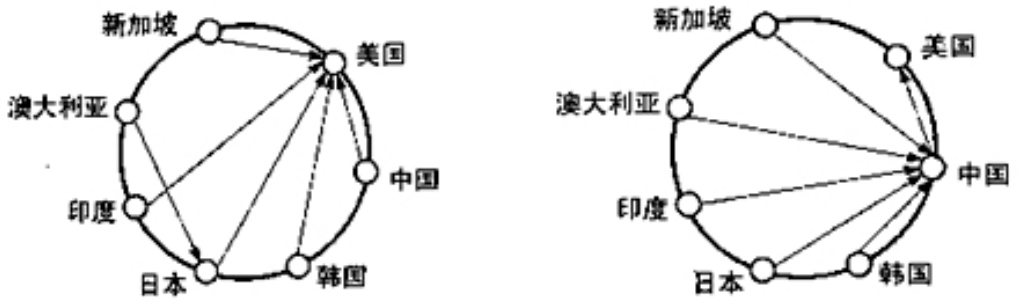

a　1995年亚太区贸易依存网络　　b　2014年亚太区贸易依存网络

图 4

①中国逐步成为亚太地区的贸易中心

②亚洲区域内贸易在全球贸易中的作用日益突出

③日本与亚太国家之间的相互依赖相互联系增强

④国际贸易从多边贸易为主向双边贸易为主转变

A．①②　　B．①④　　C．②③　　D．③④

4（2017 年高考天津卷政治 6）． 2014 年至 2016 年，中国同“一带一路”眼线国家贸易总额超过 3 万亿美元，对沿线国家投资累计超过 500 亿美元。中国企业已经在 20 多个国家建设 56 个经贸合作区，为有关国家创造近 11 亿美元税收和 18 万个就业岗位。这表明“一带一路”建设

①促进了生产要素的国际流动　　②提高了利用外资的总体效益

③拓宽了相关国家经济发展空间　　④推动了跨国企业劳动生产率的提高

A．①②　　B．①③　　C．②④　　D．③④

5（2017 年高考江苏卷政治 4）． 2016 年 11 月 20 日，亚太经合组织第二十四次领导人非正式会议在秘鲁首都利马举行。本次会议的主题是

A．创新驱动，造福人类

B．打造包容性经济，建设更美好世界

C．高质量增长和人类发展

D．构建创新、活力、联动、包容的世界经济

6（2017 年高考江苏卷政治.7）． 数字经济是随着信息技术发展而产生的一种新的经济形态，近年来呈蓬勃发展态势。据某研究机构测算，2015 年中美日英等主要国家数字经济平均增速约为 7．．5%，显著高于当年全球 GDP 增速。材料表明，发展数字经济

A．有助于增强国有经济的控制力

B．可以为经济发展提供新的动力

C．有利于完善我国收入分配制度

D．能提高我国在国际分工中地位

7（2017 年高考全国 3 卷文综政治 15）．2016 年，我国境内投资者对全球 164 个国家和地区进行了非金融类直接投资，累计实现投资 11299．2 亿人民币元，居世界第二位，近 10 年平均增幅超过 25%。中国对外投资蓬勃发展的积极意义在于

①减少中国外汇储备规模，降低汇率风险

②促进投资对象国的就业增长和经济发展

③推进经济全球化和资本市场一体化发展

④实现中国企业“走出去”，提高国际化经营能力

A．①②　　B．①③　　C．②④　　D．③④

2016年真题

1． （2016·北京文综政治·31） 在封闭经济条件下，某国国内市场土豆价格为每千克 5 元，国际市场土豆价格为每千克 4 元（按该国货币计价）。该国政府决定放开土豆的进出口贸易。假定不考虑国际贸易的成本，以及该国国内土豆供求变化对国际市场土豆价格的影响。在自由贸易条件下，下列说法正确的是

A．该国国内市场土豆价格为每千克 4 元，该国为土豆出口国

B．当该国政府大力宣传土豆出口中国时，该国土豆产量将会增加

C．当该国土豆种植技术有大幅改进时，该国国内市场土豆价格不会发生变化

D．当国际市场土豆价格上涨 50%时，该国国内市场土豆价格将为每千克 5 元

2．（2016·浙江文综政治·5）城乡居民在社会保障方面的差别性待遇一直为社会所关注。2016年初，我国政府发布《关于整合城乡居民基本医疗保险制度的意见》，要求各地根据自身情况统一城乡医保的覆盖范围、筹资政策、保障待遇、医保目录、定点管理、基金管理。此举旨在

①提高医疗服务质量　　②促进社会公平

③促进城乡协调发展　　④减轻财政负担

A．①②　　B．①④　　C．②③　　D．③④

3．（2016·浙江文综政治·8）小规模、零散经营在我国农业经济中所占比重大，发展水平低，这是农村经济发展中存在的问题。某村将农户组成农业合作社，利用从外国引进的优良品种和先进技术发展绿色产业，农户收入普遍大幅度提高。材料表明发展农村经济应该坚持

①通过产业发展带动共同富裕　　②引进外资与引进技术相结合

③通过区域分工实现生产专业化　　④高效农业与生态农业相结合

A．①②　　B．①④　　C．②③　　D．③④

4．（2016·浙江文综政治·9）分享经济是指资源所有者适应需求变化，通过社会化平台有偿分享闲置资源的一种全新商业模式。业内预计，未来5年我国分享经济年均增长将在40%左右。发展分享经济

①是公有制的有效实现形式　　②有助于缩小我国收入分配差距

③有利于实现资源优化配置　　④能为经济发展提供新的增长点

A．①②　　B．①③　　C．②④　　D．③④

5．（2016·浙江文综政治·10）大飞机是国之重器。上世纪八十年代，我国中止大于飞机研制，转为与国外合作组装生产，但在长期合作过程中并没得到核心技术。九十年代后期我国转向自行研制，经过十多年攻坚，大飞机终于在2015年成功下线。材料启示我们，发展战略性产业应

A．坚持独立自主、自力更生的原则

B．不断提高我国经济的国际化水平

C．把“引进来”和“走出去”有机结合

D．把跨国公司作为实施“走出去”战略载体

6．（2016·上海卷·15）根据 WTO 的最惠国待遇原则，各成员国（地区）应该

A．以低于国内市场的价格出口产品

B．通过关税削减全面放开国内市场

C．对所有成员国（地区）实行无差别贸易待遇

D．对境内的外国国民实行与本国国民相同待遇

7．（2016·上海卷·16）小杨同学列表比较了财政政策与货币政策的异同。其中存在错误的是

		财政政策	货币政策
A.	制定者	国务院财政部等	中国人民银行
B.	调控工具	税率等	利率等
C.	主要调控对象	社会总供求	
D.	调控目标	促进经济发展、增加就业、稳定物价、保持财政收支平衡	

8．（2016·上海卷·19）造成右图中两个变量走势相异的最可能的原因是，2007-2015 年我国

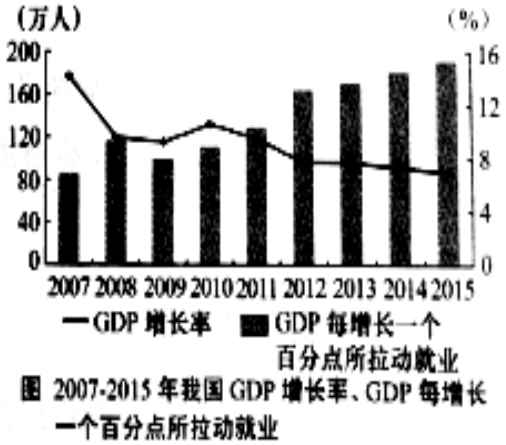

图 2007-2015 年我国 GDP 增长率、GDP 每增长一个百分点所拉动就业

A.农业现代化、专业化进程加快

B．高科技战略性新兴工业发展

C．服务业在国民经济中的比重上升

D．出口总量增长及产品结构优化

9．（2016·北京文综政治·29）“跑步热”的兴起，使一些城市的马拉松比赛吸引了众多的爱好着，赛事组织者常常面临报名者众多而参赛名额有限的困难。在解决参赛名额这一稀缺资源配置的难题时

①先到先得的排队法能缓解供求矛盾

②随机分配的抽签法能实现资源的优质配置

③价高者得的拍卖法违背了市场竞争的公平原则

④优先本地报名者的做法是采用计划手段配置资源

A． ①②　　B． ①④　　C． ②③　　D． ③④

以上内容仅为本文档的试下载部分，为可阅读页数的一半内容。如要下载或阅读全文，请访问：https://d.book118.com/468037116075006045