2025年沪教版选修4地理下册阶段测试试卷546

考试试卷

考试范围：全部知识点；考试时间：120分钟

学校：_____ 姓名：_____ 班级：_____ 考号：_____

总分栏

题号	一	二	三	总分
得分				

评卷人	得 分

一、选择题(共8题，共16分)

1、

剪纸是我国民间传统艺术，入选了联合国教科文组织人类非物质文化遗产代表作名录。下图是一帧以当地民居为主题的剪纸作品。

据此；回答下题。

剪纸所反映的区域特征及该景观可能分布的地区是

A. 地势低平，降水集中-川渝地区

B. 地势起伏，气候湿热-湘黔地区

C. 山高谷深，河网密布-青藏地区

D. 黄土广布，沟壑纵横-甘陕地区

2、城市是以非农业产业和非农业人口集聚形成的较大居民点，是生产力进步的结果，是人类走向成熟和文明的标志，也是人类群居生活的高级形式。有关世界城市发展的叙述，正确的是(　　)

A. 工业革命前，城市数量少，规模小，多以经济职能为主

B. 工业革命后，城市数量增加，规模扩大，功能扩展

C. 第二次世界大战后，城市发展趋缓，逆城市化现象严重

D. 世界城市发展最快的时期是在20世纪初

3、城乡中小学布局要遵循的原则是（ ）
①保证学生能就近上学。
②不应穿越铁路；城市交通干线。
③不穿越厂矿生产区和市中心人多车多的地段。
④应建在居民区内，以方便学生就近上学
A. ①②③
B. ①②④
C. ②③④
D. ①③④

4、有关理想的居住环境的说法，不正确的是（ ）
A. 中国古人所说“负阴抱阳，背山面水”是对良好居住环境的感性描述
B. 理想的居住环境必须有优美的居所环境、近便的文化娱乐设施、宽敞的购物场所
C. 理想的居住环境强调健康舒适的居民生活、完善的公共服务设施、良好的生态环境与自然环境协调发展，是物质文明、精神文明和生态文明的高度统一
D. 理想的居住环境仅是指高质量的住宅等建筑物

5、香港地处“岭南文化区”；是重要的国际金融中心。下图为当地传统民居建筑中的“趟栊门”，反映该地（ ）

A. 昼夜温差大
B. 光照充足
C. 潮湿闷热
D. 台风频发

6、据《中国文化报》“ 现代企业流水线的激越高昂与昆曲的柔媚清丽，工业园的开阔疏朗与网师园的精致古雅，白发苏州以它闲看庭前花开花落的雍容气度，将它们统统接纳在怀抱之中 ”上述材料最能体现苏州保护城乡特色景观和传统文化的哪项措施(　　)
A. 以严格的法律法规作为保护的依据
B. 新旧城协调、共同发展
C. 注意保存非物质文化遗产
D. 分类、分区保护

7、据《青岛市重点镇布局规划》显示，到 2020 年，青岛市将建成 12 个具有较高的人口与产业集聚度较强的综合竞争力和区域辐射与带动力的“小城市”，首期建设 6 个重点镇，人口规模 10 万～15 万。在编制该规划过程中，需要分析劳动后备军的数量和被抚养人口比例，目的是（ ）

A. 推算人口自然增长率

B. 制定托儿所、幼儿园及中小学的规划指标

C. 分析就业情况和劳动力的发展状况

D. 确定城市住宅类型的选择

8、城市与乡村相比，最基本的特征是(　　)

A. 密集

B. 以非农业活动为主

C. 高效率和高效益

D. 多功能

评卷人	得 分

二、填空题(共 6 题，共 12 分)

9、分析我国某 X 城市郊外四种农作物生产；运费与市场价格资料；完成下列各题。

。

项目。作物	花卉。	蔬菜。	稻米。	甘薯。
市场价格/(元/kg)	30	20	12	6
	15	12	6	2

生产成本/(元/kg)				
运费/(元/kg.km)	3.0	2.0	0.5	0.2
单位面积产量/kg	20	15	4	10

（1）该 X 城市可能位于我国_____气候类型区。
（2）四种农作物中；单位面积产量利润最小的是_____。
（3）该地区最适宜经营哪两种作物？_____。
（4）该城市郊外农业土地利用离城市的最远边界是多少 km？_____。

10、居住小区是指达到一定的_____和_____，基础设施配套比较齐全的_____。在居住小区内设有基本的_____服务设施，居民不必穿越城市主要交通线即可满足基本的生活需求。

11、上海的南京路是上海市的商业中心，它的布局是以_____原则。

12、分析我国某 X 城市郊外四种农作物生产；运费与市场价格资料；完成下列各题。
。

项目。 作物	花卉。	蔬菜。	稻米。	甘薯。
市场价格/(元/kg)	30	20	12	6
生产成本/(元/kg)	15	12	6	2
运费/(元/kg.km)	3.0	2.0	0.5	0.2

	20	15	4	10

单位面积产量/kg				

（1）该 X 城市可能位于我国_____气候类型区。
（2）四种农作物中；单位面积产量利润最小的是_____。
（3）该地区最适宜经营哪两种作物？_____。
（4）该城市郊外农业土地利用离城市的最远边界是多少 km？_____。

13、上海的南京路是上海市的商业中心，它的布局是以_____原则。

14、居住小区是指达到一定的_____和_____，基础设施配套比较齐全的_____。在居住小区内设有基本的_____服务设施，居民不必穿越城市主要交通线即可满足基本的生活需求。

评卷人	得 分

三、综合题(共 7 题，共 14 分)

15、阅读材料；回答以下各题。
材料 1：

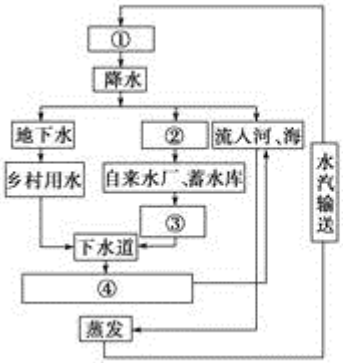

材料 2：城市的发展除了保证有正常能源；水源等供应外；还要有特色。在北京，一个马来西亚建筑师去看北京的城市建筑，转了一圈一时难以找到传统建筑。他惊讶于北京的现代建筑如此之多，但很多都是从国外复制过来的二三流设计作品。他惋惜那么多北京的四合院没有了，北京的传统建筑越来越少，已变得千城一面，万楼一样了。
材料 3：四川成都的芙蓉古城被公认为继承传统建筑文化；突出地域文化特点的全国著名房地产项目。它集川西民居之灵气、巴蜀文化之精华、古老成都之淳朴、江南园林之情趣于一身；是目前国内屈指可数的融居住、旅游、休闲、度假、商务为一体的超大规模园林和传统民居风格建筑。在此居住的人们不仅有舒适的住宅，而且享受到浓郁的川西建筑文化。
（1）材料 1 图中序号表示的含义分别是：①_____；②_____；③_____；④_____。

（2）流经城市河流的径流水流平稳；利于航运，但极易受城市工业及生活用水的污染，请为经过城市的河流的治理与利用提供合理建议。

（3）在现代城市建设规划和设计中；要使一个城市有特色，应做到：

一是_____；即及时有效地保护现有的地域建筑特色。

二是_____；即将传统的；民族的建筑特征融入现代建筑设计中，传承优秀的传统建筑文化艺术。

三是_____，即让传统的建筑艺术精华在现代城市建筑中得以传承、延续，并在原有的基础上进行新颖的设计，使民族文化在现代社会中得以延续和发扬光大。

16、（城乡规划）阅读材料；回答下列问题。

材料一　重庆朝天门位于长江和嘉陵江两江交汇地；是重庆的十七座古城门之一，朝天门对于重庆人而言具有极高的地位。朝天门的来福士广场是新加坡凯德集团和星桥腾飞集团联合开发的项目，由 8 栋超高层塔楼；底部裙楼及一座横跨天际的空中连廊组成，涵盖高端住宅、购物中心、办公楼、五星级酒店和服务公寓五大核心业态，将成为重庆新地标。

材料二　下图为“来福士广场位置及效果对比图”。

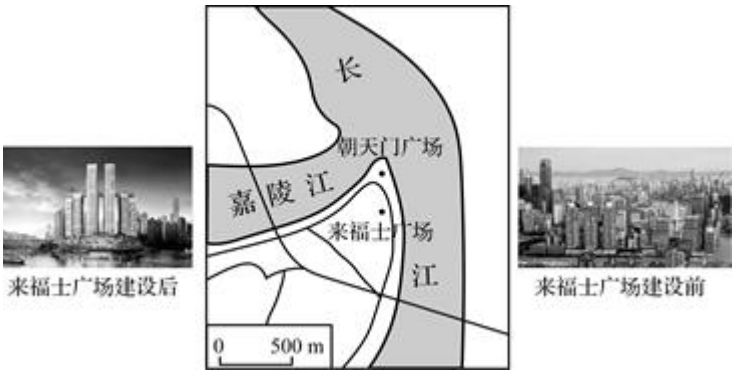

（1）来福士广场选址朝天门的理由是_____。

（2）如何协调该项目建设与保护当地历史文化遗产之间的关系？

（3）请你谈谈来福士广场项目对重庆市发展的意义。

17、就地式城市化是指农村人口一般不离开居住地；而农村逐步向城镇转化，这是城市化的一种新趋势。阅读下列图文资料，回答问题。

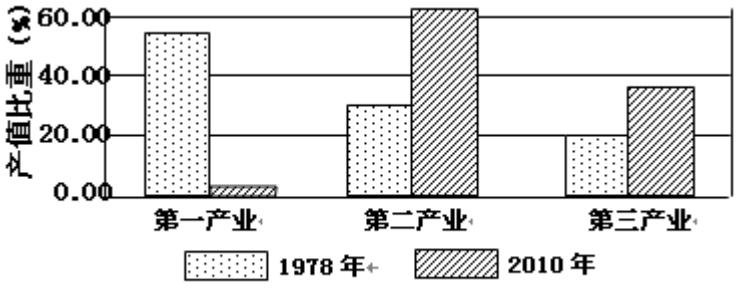

1978 年和 2010 年乐清市产业结构变化图

材料一：乐清市地处浙江省东部沿海，2010 年常住人口约 138.93 万人，其中农村人口约占 82.6%。据 2009 年统计，农林牧渔业的从业人员为 16.31 万人，比 1999 年减少了约 25%。材料二： 2009 年以来，乐清市实现了电话、有线电视家家通;自来水受益村数达到 858 个，比重为 94%;垃圾集中处理村数达 811 个，比重为 89%；村级全民健身苑达 715 个，篮球场 506 个。“十一五”期间，该市实行城乡免费义务教育，60 周岁以上农村居民基础养老金享受率达到 100%。

（1）归纳乐清市城市化过程中劳动人口结构；产业结构发生的变化。

（2）在城市化进程中；乐清市就地式城市化方式起到了显著作用。分析乐清市就地式城市化过程中采取的主要措施。

（3）乐清市农村就地式城市化进程对我国城市化发展有什么意义?

18、读图文材料，回答下列问题。

“京津冀协同发展”是我国发展战略之一。京津冀交通一体化、生态环境保护、产业升级转移被确定为京津冀协

同发展要率先取得突破的重点领域。

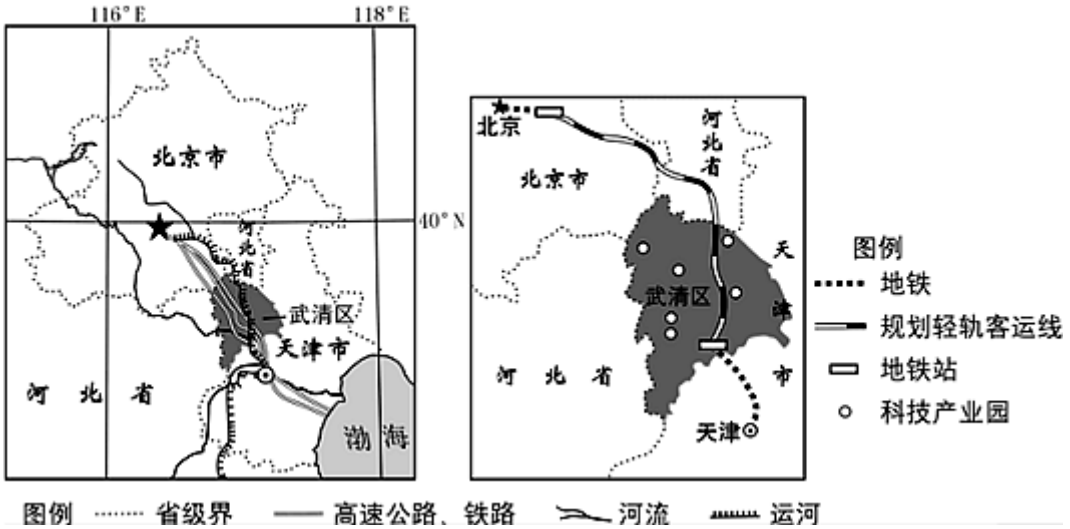

北京的非首都功能向周边地区转移；天津市；河北省成为制造业的主要承接地。

（1）说明天津武清区承接北京先进制造业的优势条件。（6 分）

（2）图中所示区域内规划修建一条轻轨客运铁路。说明这一举措对促进京津冀交通一体化的意义。（6 分）

（3）历史上的天津因运河而兴，运河文化是天津地域文化之一。京津冀三地正在共同建设运河文化带，你认为天津市应当采取哪些措施，保护性开发运河文化遗产。（6 分）

19、（城乡规划）阅读下列材料；回答问题。

材料一　康养小镇是指以“健康”为小镇开发的出发点和归缩点，以健康产业为核心，将健康、养生、养老、休闲、旅游等多种功能融为一体的特色小镇。浙江省湖州市依托环太湖湿地打造田园康养小镇。

材料二　下图为“田园康养小镇土地利用规划图”。

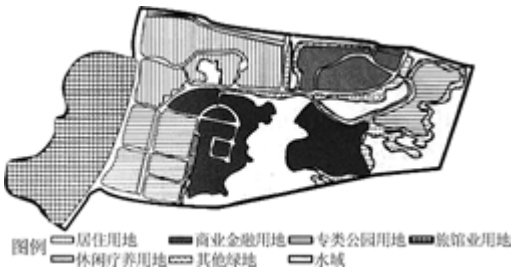

（1）简述康养小镇建设的区位条件。

（2）与一般城镇相比；田园康养小镇土地利用的特点有_____。

（3）湿地在小镇规划中的功能有___。

（4）康养小镇土地利用规划中应遵循的原则有_____。

20、[城乡规划]阅读材料；回答下列问题。

图为某城镇农业高新示范园区总体规划示意图。该城镇位于广州东北部，距市中心 45 千米。城镇东北及西南属低山丘陵区，东部及东南部地势较高。规划目标是建成一个广州近郊城乡融合的生态和谐新城镇。

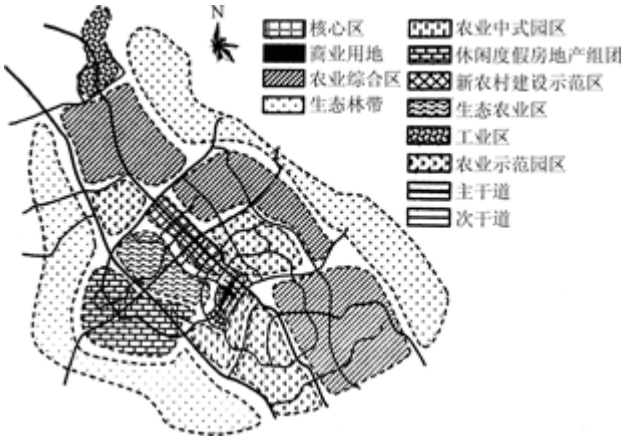

（1）为实现规划目标；该城镇在建设过程中必须保护_____用地及_____用地。

（2）该园区外围规划生态林带的自然因素是_____；其主要的生态功能是_____。

（3）规划考虑将园区西北部的工业区保留下来；其意义是_____。该工业区适合发展的工业部门有_____。

（4）该园区规划有旅游观光功能，其发展条件主要是_____。

21、（城乡规划）阅读材料；回答下列问题。

材料一 南京江北新区将规划建设成为全国重要的科技创新基地和先进产业基地；南京都市区的北部服务中心和综合交通枢纽，南京市生态宜居的生态副中心。

材料二 下图为南京市江北新区规划示意图。

以上内容仅为本文档的试下载部分，为可阅读页数的一半内容。如要下载或阅读全文，请访问：https://d.book118.com/477121013142010032