四川成都市华西中学数学七年级上册整式的加减难点解析

考试时间：90 分钟；命题人：教研组

考生注意：

1、本卷分第 I 卷（选择题）和第 II 卷（非选择题）两部分，满分 100 分，考试时间 90 分钟

2、答卷前，考生务必用 0.5 毫米黑色签字笔将自己的姓名、班级填写在试卷规定位置上

3、答案必须写在试卷各个题目指定区域内相应的位置，如需改动，先划掉原来的答案，然后再写上新的答案；不准使用涂改液、胶带纸、修正带，不按以上要求作答的答案无效。

第 I 卷（选择题　20 分）

一、单选题（10 小题，每小题 2 分，共计 20 分）

1、一列火车长 x 米，以每秒 a 米的速度通过一个长为 b 米的大桥，用代数式表示它完全通过大桥（从车头进入大桥到车尾离开大桥）所需的时间为（　　）

A．$\frac{x+b}{a}$ 秒　　B．$\frac{b}{a}$ 秒　　C．$\frac{x}{a}$ 秒　　D．$\frac{x-b}{a}$ 秒

2、用 a 表示的数一定是（　　）

A．正数　　B．正数或负数　　C．正整数　　D．以上全不对

3、代数式 a^2+b^2 的意义是（ ）.

A．a 的平方与 b 的和　　B．a 与 b 的平方的和

C．a 与 b 两数的平方和　　D．a 与 b 的和的平方

4、下列说法中正确的是（　　）

A．$\frac{x+y}{2}$ 是单项式　　B．$\frac{1}{x}$ 是单项式　　C．$-\frac{2x}{3}$ 的系数为-2　　D．$-5a^2b$ 的次数是 3

5、已知 mx^2y^{m+1} 是关于 x，y 的单项式，且这个单项式的次数为 5，则该单项式是（　　）

A．$5x^2y^3$　　B．$-5x^2y^3$　　C．$2x^2y^3$　　D．$-2x^2y^3$

6、下列是按一定规律排列的多项式：$-x+y$，x^2+2y，$-x^3+3y$，x^4+4y，$-x^5+5y$，x^6+6y，…，则第 n 个多项式是（　　）

A.（－1）$nxn+ny$　　B. $-1nxn+ny$

C.（－1）$n^{+1}xn+ny$　　D.（－1）$nxn+$（－1）nny

7、下列说法中，正确的是（　　）

A. 0 不是单项式　　B. $\frac{\pi a}{2}$的系数是$\frac{1}{2}$

C. xyz^2的次数是 4　　D. $2x^2-3x-1$的常数项是 1

8、下列对代数式$a-\frac{1}{b}$的描述，正确的是（ ）

A. a 与 b 的相反数的差

B. a 与 b 的差的倒数

C. a 与 b 的倒数的差

D. a 的相反数与 b 的差的倒数

9、如果 $-2x^2yn$ 与 $-5xm^{-1}y$ 的和是单项式，那么 m，n 的值分别是

A. $m=2$，$n=1$　　B. $m=1$，$n=2$

C. $m=3$，$n=1$　　D. $m=3$，$n=2$

10、下列各选项中，不是同类项的是（　　）

A. $3a^2b$ 和 $-5ba^2$　　B. $\frac{1}{2}x^2y$ 和 $\frac{1}{2}xy^2$

C. 6 和 2^3　　D. $5x^n$ 和 $-\frac{3x^n}{4}$

第Ⅱ卷（非选择题　80 分）

二、填空题（10 小题，每小题 3 分，共计 30 分）

1、我国的《洛书》中记载着世界上最古老的一个幻方：将 1－9 这九个数字填入 3×3 的方格内，使三行、三列、两对角线上的三个数之和都是 15，如图所示幻方中，字母 m 所表示的数是_____.

m		2
3	5	

2、某厢式货车从物流中心出发，向东行驶 2 小时，速度为 a 千米/小时，卸下一部分货后，掉头以同样的速度向西行驶 5 小时后，把其余货物卸掉，接着向东再行驶 1 小时又装满了货，问此时货车距离物流中心_____千米.

3、在下列各式①$\frac{a^2bc^3}{5}$，②0，③$\frac{x-y}{3}$，④$\frac{3}{\pi}$，⑤$s=\pi r^2$，⑥$-\frac{7}{x+5}$，⑦b^2-4ac，⑧m，⑨$\frac{1}{a}+1$中，其中单项式是_____，多项式是_____，整式是_____.（填序号）

4、如图是一组有规律的图案，它们由边长相同的正方形和正八边形组成，其中正方形涂有阴影，依此规律，第 n 个图案中有_____个涂有阴影的正方形.（用含 n 的代数式表示）

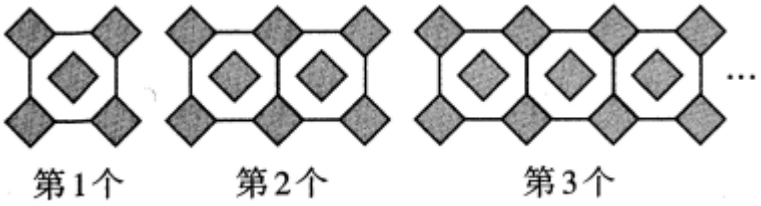

5、若 $a-2b=1$，则 $3-2a+4b$ 的值是__.

6、观察下列一系列数：

按照这种规律排下去，那么第 8 行从左边数第 14 个数是_____.

-1

2 -3 4

-5 6 -7 8 -9

10 -11 12 -13 14 -15 16

…

7、已知 $x^2-3x+1=0$，则 $3x^2-9x+5=$_____.

8、如果多项式$4x^3-2x^2-\left(kx^2+17x-6\right)$中不含$x^2$的项，则$k$的值为_____

9、如果单项式$3x^m y$与$-5x^3 y^n$的和仍是单项式，那么$m+n=$_____.

10、按如图所示的程序计算，若开始输入的x的值为48，我们发现第一次得到的结果为24 ，第二次得到的结果为12 …，请你探索第2021次得到的结果为_____.

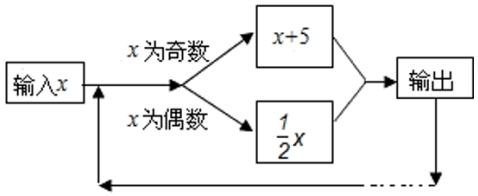

三、解答题（5小题，每小题10分，共计50分）

1、已知$A=2a^2-a$， $B=a^2-2a+1$

(1)化简：$A-2(A-B)-3$；

(2)当$a=-\frac{1}{3}$时，求$A-2(A-B)-3$的值.

2、先化简再求值：$2(x^2+3y)-(2x^2+3y-x)$，其中$x=1, y=-2$.

3、如图，一个点从数轴上的原点开始，先向左移动3cm到达A点，再向右移动4cm到达B点，然后再向右移动$\frac{7}{2}cm$到达C点，数轴上一个单位长度表示1cm.

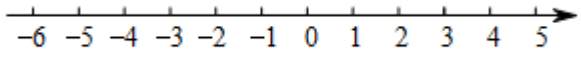

(1)请你在数轴上表示出A，B，C三点的位置；

(2)把点C到点A的距离记为CA，则CA=_____cm.

(3)若点A沿数轴以每秒3cm匀速向右运动，经过多少秒后点A到点C的距离为3cm?

(4)若点A以每秒1cm的速度匀速向左移动，同时点B、点C分别以每秒4cm、9cm的速度匀速向右移动．设移动时间为t秒，试探索：$BA-CB$的值是否会随着t的变化而改变？若变化，请说明理由，若无变化，请直接写出$BA-CB$的值.

4、观察下列单项式：$-x$，$3x^2$，$-5x^3$，$7x^4$，…$-37x^{19}$，$39x^{20}$，…，写出第 n

个单项式，为了解这个问题，现提供下面的解题思路：

（1）这组单项式的系数的规律是什么？

（2）这组单项式的次数的规律是什么？

（3）根据上面的归纳，你可以猜想出第 n 个单项式是什么？

（4）请你根据猜想，写出第 2018 个，第 2019 个单项式.

5、将正整数 1，2，3，4，5，……排列成如图所示的数阵：

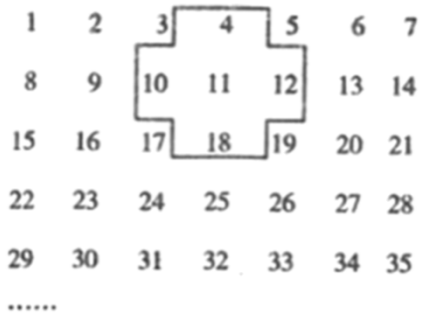

（1）十字框中五个数的和与框正中心的数 11 有什么关系？

（2）若将十字框上下、左右平移，可框住另外五个数，这五个数的和与框正中心的数还有这种规律吗？请说明理由；

（3）十字框中五个数的和能等于 180 吗？若能，请写出这五个数；若不能，请说明理由；

（4）十字框中五个数的和能等于 2020 吗？若能，请写出这五个数；若不能，请说明理由.

-参考答案-

一、单选题

1、A

【解析】

【分析】

【详解】

Q 火车走过的路程为$(x+b)$米，火车的速度为a米/秒，

∴火车过桥的时间为$\frac{x+b}{a}$（秒）.

故选：A .

2、D

【解析】

【分析】

字母可以表示任何数，A、B、C 三个选项说法都不全面.

【详解】

字母可以表示任何数，即 a 可以表示正数、0 或负数，

故选 D.

【考点】

本题考查了代数式，需要注意字母可以表示任意数，既可以是正数，也可以是负数和 0，带有负号的数不一定就是负数.

3、C

【解析】

【分析】

说出代数式的意义，实际上就是把代数式用语言叙述出来。叙述时，要求既要表明运算的顺序，又要说出运算的最终结果.

【详解】

代数式a^2+b^2的意义是 a 与 b 两数的平方的和.

故选：C.

【考点】

此题考查了代数式的意义，用语言表达代数式的意义，一定要理清代数式中含有的各种运算及其顺序.

4、D

【解析】

【分析】

根据单项式的定义，单项式系数、次数的定义来求解．单项式中数字因数叫做单项式的系数，所有字母的指数和叫做这个单项式的次数.

【详解】

A. $\frac{x+y}{2}$是多项式，故本选项错误；

B. $\frac{1}{x}$不是整式，所以不是是单项式，故本选项错误；

C. $-\frac{2x}{3}$的系数为$-\frac{2}{3}$，故本选项错误；

D. $-5a^2b$的次数是 3，正确.

故选：D.

【考点】

考查了单项式的定义．确定单项式的系数和次数时，把一个单项式分解成数字因数和字母因式的积，是找准单项式的系数和次数的关键.

5、C

【解析】

【分析】

先根据单项式的次数计算出 m 的值即可.

【详解】

解：∵已知 mx^2y^{m+1} 是关于 x ， y 的单项式，且 mx^2y^{m+1} 的次数为 5，

$\therefore m+1+2=5$，

即 $m=2$.

∴该单项式为 $2x^2y^3$.

故选：C

【点评】

本题考查了单项式的系数、次数的概念；正确理解单项式的系数和次数是解决问题的关键.

6、A

【解析】

【分析】

从三方面（符号、系数的绝对值、指数）总结规律，再根据规律进行解答便可.

【详解】

解：按一定规律排列的多项式：$-x+y$，x^2+2y，$-x^3+3y$，x^4+4y，$-x^5+5y$，x^6+6y，…，

则第 n 个多项式是：$(-1)^n x^n+ny$，

故选：A.

【考点】

本题考查的是整式中的多项式的规律探究，掌握探究的方法是解题的关键.

7、C

【解析】

【分析】

根据单项式和多项式的定义选出正确选项.

【详解】

A 正确，一个数也是单项式；

B 错误，系数是$\frac{\pi}{2}$；

C 正确，次数是$1+1+2=4$；

D 错误，常数项是-1.

故选：C.

【考点】

本题考查单项式和多项式，解题的关键是掌握单项式的系数、次数的定义，多项式的常数项的定义.

8、C

【解析】

【分析】

根据代数式的意义逐项判断即可.

【详解】

解：A. a 与 b 的相反数的差：$a-(-b)$，该选项错误；

B. a 与 b 的差的倒数：$\frac{1}{a-b}$，该选项错误；

C. a 与 b 的倒数的差：$a-\frac{1}{b}$；该选项正确；

D. a 的相反数与 b 的差的倒数：$\frac{1}{-a-b}$，该选项错误.

故选：C.

【考点】

此题主要考查列代数式，注意掌握代数式的意义.

9、C

【解析】

以上内容仅为本文档的试下载部分，为可阅读页数的一半内容。如要下载或阅读全文，请访问：https://d.book118.com/485033040234012022