国家电网招聘考试人力资源类(习题卷2)

第1部分：单项选择题，共157题，每题只有一个正确答案,多选或少选均不得分。

1.[单选题]u＝－100sin（6πt＋10°）V超前i＝5cos（6πt－15°）A的相位差是（ ）
A)25°
B)95°
C)115°
答案:C
解析:

2.[单选题]当人们无偿地享有了别的经济体带来的额外收益时，经济学中称之为（ ）。
A)公共产品
B)外部经济
C)交易成本
D)外部不经济
答案:B
解析:

3.[单选题]直线AB的正方位角aAB= 255° 25'48"，则其反方位角aBA为：
A)-225° 25'48''
B)75° 25'48''
C)104° 34'12''
D)-104° 3'12"
答案:B
解析:提示：aBA=aAB+180°（±360°）。

4.[单选题]根据总需求曲线可知（ ）。
A)产品市场达到均衡时，总需求与价格水平之间的关系
B)货币市场达到均衡时，总需求与价格水平之间的关系
C)产品市场与货币市场同时达到均衡时，国民收入与利率之间的关系
D)产品市场与货币市场同时达到均衡时，总需求与价格水平之间的关系
答案:D
解析:

5.[单选题]设f(x)



=dt,g(x)=

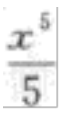

+

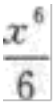

,则当x→0时,f(x)是g(x)的().

A)低阶无穷小
B)高阶无穷小
C)等价无穷小
D)同阶但非等价的无穷小
答案:B
解析:

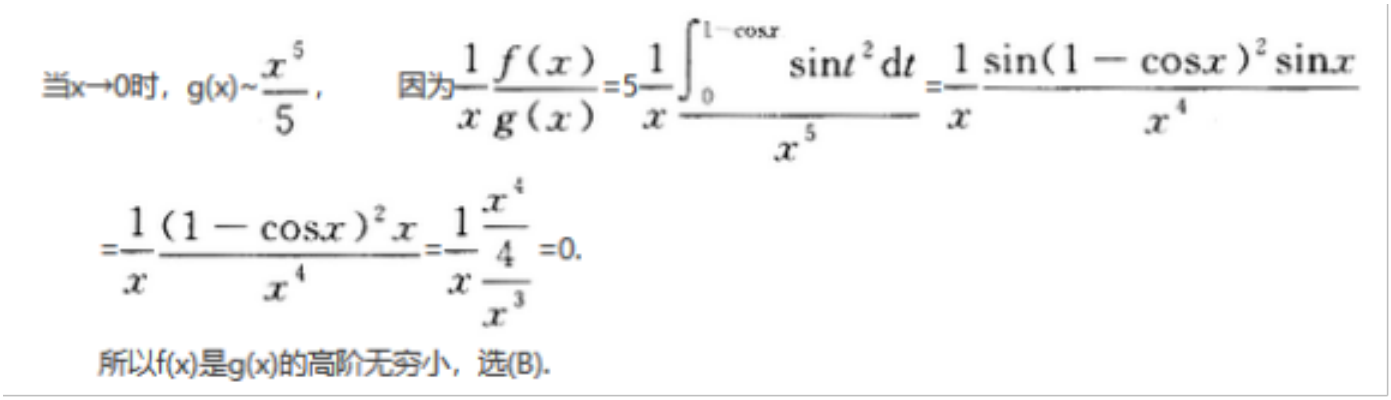

6.[单选题]操作系统的功能是( )。
A)控制和管理系统资源的使用
B)便于进行数据处理
C)把源程序翻译成目标程序
D)实现硬、软件转接
答案:A
解析:操作系统的主要功能是资源管理，程序控制和人机交互等。它是控制其他程序运行，管理系统资源并为用户提供操作界面的系统软件的集合。

7.[单选题]设函数

$$f(x)=\frac{\ln|x|}{|x-1|}\sin x$$

，则f(x)有
A)1个可去间断点，1个跳跃间断点
B)1个可去间断点，1个无穷间断点
C)2个跳跃间断点
D)2个无穷间断点
答案:A
解析:

8.[单选题]下列表述中，正确的是( )。
A)内力不但与梁的长度方向的尺寸和外力(包括反力)有关，而且与支承条件有关
B)应力不但与内力有关，而且与材料性能有关
C)应力和内力均与材料性能有关
D)内力只与梁的长度方向的尺寸和外力(包括反力)有关，与其他无关；而应力只与内力及截面形状和尺寸有关，与其他无关
答案:A
解析:梁的内力与梁的长度方向的尺寸和外力(包括反力)及支承条件有关；应力是内力的集度，应力只与内力及截面形状和尺寸有关，而与材料的性能无关。

9.[单选题]对于编辑中的Word文档的保存，下列描述不正确的是（ ）。

显然f(x)只有两个间断点x=0和x=1，因为

$$\lim_{x\to0}f(x)=\lim_{x\to0}\frac{\ln|x|}{|x-1|}\sin x=\lim_{x\to0}\ln|x|\cdot\sin x\quad\left(\lim_{x\to0}\frac{1}{|x-1|}=1\right)$$

$$=\lim_{x\to0}\ln|x|\cdot x\ (\text{等价无穷小代换})$$

$$=\lim_{x\to0}\frac{\ln|x|}{\frac{1}{x}}=\lim_{x\to0}\frac{\frac{1}{x}}{-\frac{1}{x^2}}\ (\text{洛必达法则})$$

$$=-\lim_{x\to0}x=0.$$

则x=0为f(x)的可去间断点，又

$$\lim_{x\to1^+}f(x)=\lim_{x\to1^+}\frac{\ln|x|}{|x-1|}\sin x=\sin1\cdot\lim_{x\to1^+}\frac{\ln[1+(x-1)]}{x-1}$$

$$=\sin1\cdot\lim_{x\to1^+}\frac{x-1}{x-1}\ (\text{等价无穷小代换})$$

$$=\sin1,$$

$$\lim_{x\to1^-}f(x)=\lim_{x\to1^-}\frac{\ln|x|}{|x-1|}\sin x=\sin1\cdot\lim_{x\to1}\frac{\ln[1+(x-1)]}{-(x-1)}=\sin1\cdot\lim_{x\to1^-}\frac{x-1}{-(x-1)}=-s$$

则x=1是f(x)的跳跃间断点，故应选(A).

A)允许自动保存
B)允许后台保存
C)按Ctrl+S手动保存
D)按Ctrl+A组合键手动保存
答案:D
解析:Ctrl+A是全选功能的快捷键，无法实现Word文档的保存。

10.[单选题]配置高速缓冲存储器(Cache)是为了解决( )。
A)内存与辅助存储器之间速度不匹配问题
B)CPU与辅助存储器之间速度不匹配问题
C)CPU与内存储器之间速度不匹配问题
D)主机与外设之间速度不匹配问题
答案:C
解析:目前微机在 CPU和主板上都配有高速缓冲存储器(C A Che)，解决CPU与内存储器之间速度不匹配问题。

11.[单选题]测绘1：1000比例尺地形图时，根据比例尺精度可知，测量地物时的准确程度为( )。
A)0.05m
B)0.1m
C)0.1mm
D)1m
答案:B
解析:根据比例尺精度的含义1，量距精度=0.1mm×M=0.1m。

12.[单选题]任何创造性行为都必须产生出对组织、对社会、对人类有价值的新成果，这体现了创造性行为的（ ）
A)首创性
B)有用性
C)主动性

D)高效性
答案:B
解析:

13.[单选题]使用某种高级语言编写的程序一般称为( )。
A)源程序
B)编辑程序
C)编译程序
D)解释程序
答案:A
解析:高级编写的程序称为源程序，它必须由编译程序和解释程序翻译成目标程序后才能被计算机识别并执行。

14.[单选题]一个组织以刚性管理为主还是以柔性管理为主的决定因素不包括（ ）。
A)组织规模
B)组织员工的素质
C)工作的性质
D)组织的文化传统
答案:A
解析:一个组织是以刚性管理为主，还是以柔性管理为主，完全取决于组织员工的素质、工作的性质及组织的文化传统。而组织规模并不影响组织管理方法的选择。故本题正确答案为A选项。

15.[单选题]计算机的主存储器是指( )。
A)RAM和C磁盘
B)ROM
C)ROM和RAM
D)硬盘和控制器
答案:C
解析:

16.[单选题]平均消费倾向与平均储蓄倾向之和（ ）。
A)大于1
B)等于1
C)小于1
D)与1无关
答案:B
解析:

17.[单选题]在其他条件不变的情况下，假如生产某种商品所需原材料的价格上升，则该商品（ ）。
A)需求曲线向左方移动
B)需求曲线向右方移动
C)供给曲线向左方移动
D)供给曲线向右方移动
答案:C
解析:

18.[单选题]某双频测距仪，测程为1km，设计了精、粗两个测尺，精尺为10m（载波频率f1=15MHz），粗尺为1000m（载波频率f2=150kHz），测相精度为1/1000，则下列何项为仪器所能达到的精度？（ ）
A)m
B)dm
C)cm
D)mm

答案:C
解析:根据

$$D=\frac{\lambda}{2}(N+\Delta N)$$

精测尺为10m，测相精度为1/1000，故得仪器所能达到的精度为1cm。

19.[单选题]同轴电缆的内、外导体半径分别为a和b，中间介质的电导率为g，则内外导体之间单位长度的绝缘电阻为（ ）。
A)A
B)B
C)C
D)D
答案:A
解析:

20.[单选题]常用于识别某一特定的变革活动的动力或阻力的工具是（ ）。
A)力场分析
B)标杆超越法
C)六西格玛方法
D)业务过程再造
答案:A
解析:力场分析是库尔特·勒温发展的一种咨询分析方式，是他所提出的组织变革理念中的一部分。勒温指出，任何一个组织中，存在两种力量：推动变革的力量及阻碍变革的力量，如果这两组力量的实力均衡，组织就会处于均衡状态。因此常用于识别某一特定的变革活动的动力或阻力的工具是力场分析。

21.[单选题]多媒体中的“媒体”有两重含义，一是指存储信息的实体；二是指表达与传递信息的载体。（ ）是存储信息的实体。
A)文字、图形、磁带、半导体存储器
B)声卡、磁带、半导体存储器
C)文字、图形、图像、声音
D)磁盘、光盘、磁带、半导体存储器
答案:D
解析:通常所说的“媒体（Media）”包括两重含义：一是指信息的物理载体，即存储和传递信息的实体，如手册、磁盘、光盘、磁带以及相关的播放设备等（本题只涉及存储信息）；二是指承载信息的载体，即信息的表现形式（或者说传播形式），如文字、声音、图像、动厕和视频等，即CCITT定义的存储媒体和表示媒体。表示媒体又可以分为三种类型：视觉类媒体（如位图图像、矢量图形、图表、符号、视频和动画等）、听觉类媒体（如音响、语音和音乐等）和触觉类媒体（如点、位置跟踪，力反馈与运动反馈等）。视觉和听觉类媒体是信息传播的内容，触觉类媒体是实现人机交互的手段。

22.[单选题]在Internet中，主机的IP地址与域名的关系是：
A)IP地址是域名中部分信息的表示
B)域名是IP地址中部分信息的表示
C)IP地址和域名是等价的
D)IP地址和域名分别表达不同含义
答案:C
解析:提示：简单地说，IP就是门牌号码，域名就是房子的主人名字。IP地址是Internet网中主机地址的一种数字标志，IP就使用这个地址在主机之间传递信息。所谓域名，是互联网中用于解决地址对应问题的一种方法。域名的功能是映射互联网上服务器的IP地址，从而使人们能够与这些服务器连通。

23.[单选题]狭义的劳动争议，是指员工与用人单位之间关于劳动关系与下列哪一项的争议，在多数情况下，劳动争议是针对狭义而言？（ ）

A)劳动权利与义务
B)行政关系
C)劳动报酬
D)劳动合同
答案:A
解析:在社会生活中，不可避免地会出现劳动争议。狭义的劳动争议，是指员工与用人单位之间关于劳动关系、劳动权利与义务的争议。在多数情况下，劳动争议是针对狭义而言。因此，本题应该选A。

24.[单选题]某电磁波测距仪的标称精度为±(3+3ppm)mm，用该仪器测得500m距离，如不顾及其他因素影响，则产生的测距中误差为：
A)+18mm
B)+3mm
C)+4. 5mm
D)±6mm
答案:C
解析:提示：mD = ±(A+B * D)。

25.[单选题]以下有关网络管理功能的描述中，错误的是( )。
A)配置管理是掌握和控制网络的配置信息
B)故障管理是对网络中的故障进行定位
C)性能管理用于监视和调整工作参数，改善网络性能
D)安全管理是使网络性能维持在较好水平
答案:D
解析:安全管理的目标是按照一定的策略控制对网络资源的访问，保证重要的信息不被未授权的用户访问，并防止网络遭到恶意或是无意的攻击。

26.[单选题]政治性价值观，以权力、地位为中心，强调权力的获取和（ ）。
A)金钱
B)地位
C)知识
D)影响力
答案:D
解析:

27.[单选题]三相异步电动机降压起动与直接接额定电压起动相比，降压起动( )。
A)起动电流和起动转矩都大
B)起动电流大，起动转矩较小
C)起动电流较小，起动转矩大
D)起动电流和起动转矩都较小
答案:D
解析:

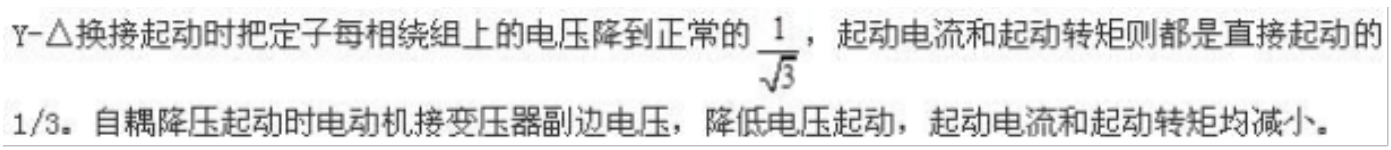

28.[单选题]当今管理的新趋势：人由“劳动力”转变为“人力资源”，进而成为（ ）。
A)“人力价值”
B)“人力资本”
C)“人力优势”
D)“人力潜能”

答案:B
解析:当今管理的新趋势是：企业由追求利润最大化转向追求整体价值最大化；人由“劳动力”转变为“人力资源”，进而成为“人力资本”；传统的监控型管理转向授权型管理，最终转向为潜能开发、人力资本价值增值为主；金字塔式的权力型组织结构转向为扁平化组织结构、团队式管理协作模式；传统的物力、财力竞争转向企业对市场瓜分能力的竞争；依靠严格、完备的规章制度转向以共同的愿景来集聚企业的向心力；短期激励转向为长短期激励相结合，物质推动型激励转向为情感满足型激励；网络信息技术应用由单一的信息处理转向为组织的信息分享、共同合作、工作流程改造、虚拟性活动；员工由被动接受型转向参与管理型，进而转向为自我管理型等等。故本题选B。

29.[单选题]如图所示，测量结果标注于图2-3-1上，则水平角度β为（ ）

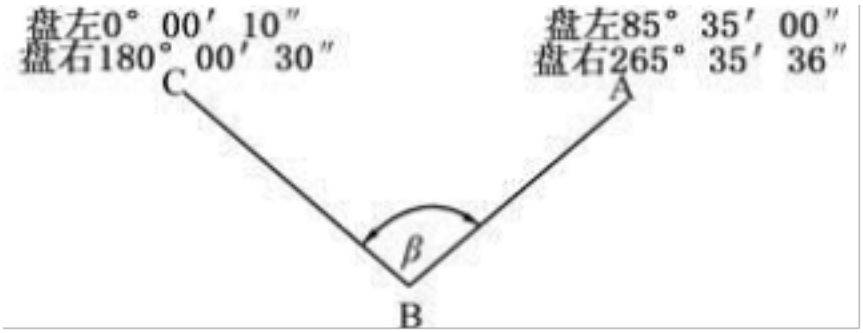

A)85° 34′ 50″
B)85° 34′ 58″
C)85° 35′ 06″
D)90° 00′ 28″
答案:B
解析:盘左半测回角值为：β左＝a左－c左＝85° 35′ 00″－0° 00′ 10″＝85° 34′ 50″；盘右半测回角值为：β右＝a右－c右＝265° 35′ 36″－180° 00′ 30″＝85° 35′ 06″。用盘左、盘右两个位置观测水平角，可以抵消仪器误差对测角的影响，同时可作为观测中有无错误的检核。Δβ＝β左－β右
＝85° 34′ 50″－85° 35′ 06″＝－16″＜±60″，取盘左、盘右角值的平均值作为一测回观测的结果：β＝（β左+β右）/2＝85° 34′ 50″+85° 35′ 06″＝85° 34′ 58″。

30.[单选题]下列方程中代表单叶双曲面的是：

A. $\frac{x^2}{2}+\frac{y^2}{3}-z^2=1$　　B. $\frac{x^2}{2}+\frac{y^2}{3}+z^2=1$

C. $\frac{x^2}{2}-\frac{y^2}{3}-z^2=1$　　D. $\frac{x^2}{2}+\frac{y^2}{3}+z^2=0$

A)A
B)B
C)C
D)D
答案:A
解析:提示：由单叶双曲面的标准型可知，A正确。

31.[单选题]目前微机使用的主流操作系统属于( )。
A)批处理操作系统
B)分时操作系统
C)实时操作系统
D)网络操作系统
答案:D
解析:

32.[单选题]以下关于税收的作用的理解不正确的是（ ）。
A)合理制定不同的税种和税率来调节生产和流通
B)调节一部分组织的利润水平
C)刺激消费增长
D)使社会经济的内部结构、发展趋势、活动规律等趋于合理
答案:C
解析:国家根据宏观控制的需要，合理制定不同的税种和税率来调节生产和流通，调节一部分组织的利润水平，控制消费的过快增长，使社会经济的内部结构、发展趋势、活动规律等趋于合理。只有C项错误，故答案为C。

33.[单选题]CAD的中文含义是（ ）。
A)计算机仿真技术
B)计算机控制技术
C)计算机办公软件
D)计算机辅助设计
答案:D
解析:计算机辅助设计（CAD-ComputerAidedDesign）指利用计算机及其图形设备帮助设计人员进行设计工作。

34.[单选题]某钢尺尺长方程式为lt = 50. 0044m+1. 25 X 10-5 X (t-20) X 50m，在温度为31. 4° C和标准拉力下量得均匀坡度两点间的距离为49. 9062m，高差为-0. 705m。则该两点间的实际水平距离为：
A)49. 904m
B)49. 913m
C)49. 923m
D)49. 906m
答案:B
解析:提示：参见尺长改正计算。

35.[单选题]“事由政养”“以政代事”“以事代政”的体制必然造成（ ）。
A)政事不分
B)管理行政化
C)布局不合理
D)社会属性缺位
答案:A
解析:由于我国的事业单位基本上是由国家出资兴办的，所以形成了国家办事业、国家管事业、国家养事业的格局。这种“事由政养”“以政代事”“以事代政”的体制必然造成政事不分。故选A。

36.[单选题]电子计算机最早的应用领域是()。
A)信息处理
B)科学计算
C)过程控制
D)人工智能
答案:B
解析:阿塔纳索夫-贝瑞计算机(Atanasoff-BerryComputer，简称ABC)是法定的世界上第一台电子计算机，不可编程，仅仅设计用于求解线性方程组，并在1942年成功进行了测试。而ENIAC是世界上第一台通用计算机，也是继ABC(阿塔纳索夫一贝瑞计算机)之后的第二台电子计算机。它是图灵完全的电子计算机，能够重新编程，解决各种计算问题。它的研制主要是为了大炮和导弹的弹道计算。可见计算机的最初应用主要是科学计算。

37.[单选题]按照奎因和卡梅隆的组织生命周期理论，（ ）是组织的迅速成长期。
A)创业阶段
B)规范化阶段
C)集合阶段
D)成熟阶段

答案:C
解析:按照奎因和卡梅隆的组织生命周期理论，集合阶段是组织的迅速成长期。

38.[单选题]图示的控制电路中，SB为按钮，KM为接触器，若按动SB2，试判断下列哪个结论正确？

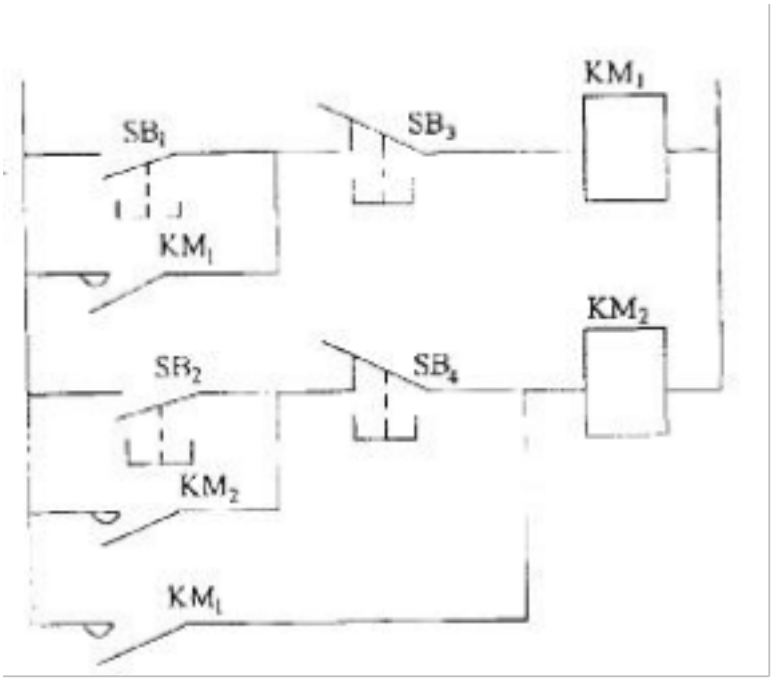

A)接触器KM2通电动作后，KM1跟着动作
B)只有接触器KM2动作
C)只有接触器KM1动作
D)以上答案都不对
答案:B
解析:提示：控制电路图中各个控制电器的符号均为电器未动作时的状态。当有启动按钮按下时，相关电器通电动作，各个控制触点顺序动作。

39.[单选题]设随机变量X的分布函数为F(x),则下列函数中可作为某随机变量的分布函数的是( ).
A)F(x^2)
B)F(-z)
C)1-F(x)
D)F(2x-1)
答案:D
解析:函数Φ(x)可作为某一随机变量的分布函数的充分必要条件是：(1)0≤Φ(x)≤1；(2)Φ(x)单调不减；(3)Φ(x)右连续；(4)Φ（-∞）-0，Φ(+∞)=1.显然只有F（2x-1）满足条件，选(D).

40.[单选题]如图所示，结构CD杆的内力是（ ）。

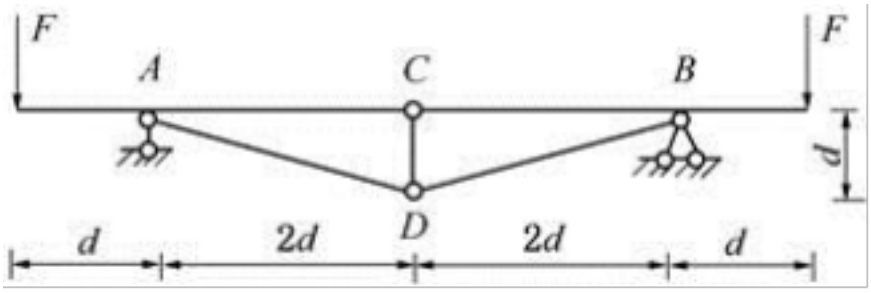

A)－F/2
B)0
C)F/2
D)F

答案:C
解析:采用截面法进行计算。对整体进行分析，由结构对称性可知，AB支座反力相等，均为F，方向向上。将结构沿BC杆上一点与AD杆上一点的连线方向截开，对右半部分进行分析，由A点力矩平衡可知，

$$\sum M_A = F \cdot 5d - F_B \cdot 4d - F_{CD} \cdot 2d = 0$$

解得，CD杆的内力

$$F_{CD} = \frac{F}{2}$$

41.[单选题]进程和程序的本质区别是( )。
A)存储在内存和外存
B)顺序和非顺序执行机器指令
C)分时使用和独占使用计算机资源
D)动态和静态特征
答案:D
解析:程序是指令的有序集合，进程是正在执行的程序。所以程序和进程的关系：是静态与动态的关系。

42.[单选题]在Excel中输入字符串时，若该字符串的长度超过单元格的显示宽度，则超过的部分最有可能()。
A)被截断删除
B)继续超格显示
C)给出错误提示
D)作为另一个字符串存入右侧相邻单元格
答案:B
解析:在Excel中输入字符串时，若该字符串的长度超过单元格的显示宽度，则超过的部分最有可能继续超格显示。

43.[单选题]如图所示的结构，EI＝常数，杆端弯矩（顺时针为正）正确的是（ ）。

A. $M_{BC}=M_{CB}=-M_{CD}=-M_{DC}=Fl/4$
B. $M_{BC}=-M_{CB}=M_{CD}=M_{DC}=Fl/4$
C. $M_{BC}=M_{CB}=-M_{CD}=M_{DC}=Fl/4$
D. $M_{BC}=-M_{CB}=M_{CD}=-M_{DC}=Fl/4$

A)A
B)B
C)C
D)D
答案:B
解析:
由于水平横梁BC的刚度无穷大，因此竖杆AB和CD的反弯点均在各自的中点处，由此可知，杆端弯矩为$-M_{BA}=M_{CD}=M_{DC}=Fl/4$；由结点B弯矩平衡可得：$M_{BC}=-M_{BA}=Fl/4$；由结点C弯矩平衡可得：$-M_{CB}=M_{CD}=Fl/4$。

44.[单选题]人们平时讲的态度主要指（ ）情感成分。
A)认知
B)意识
C)意向
D)情感
答案:D

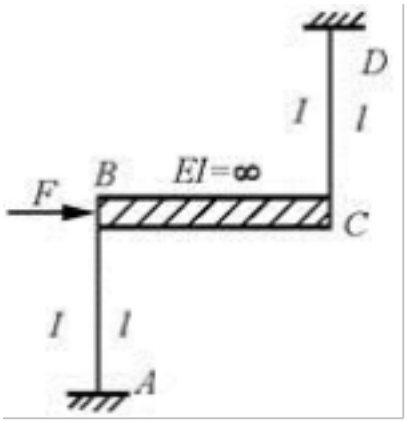

解析:

45.[单选题]（ ）位于管理活动过程的终点，把好这最后一关，才不会使错误的势态扩大，有助于保证系统处于正常状态。

A)直接控制

B)预先控制

C)过程控制

D)事后控制

答案:D

解析:事后控制是在管理活动中出现最早因而历史最久的控制类型，传统的控制办法几乎都是属于这一类型。事后控制位于管理活动过程的终点，把好这最后一关，才不会使错误的势态扩大，有助于保证系统处于正常状态。所以选D。

46.[单选题]已知经纬仪一测回的方向中误差为±6″，用此经纬仪观测一三角形的所有内角，各角均采用一测回观测，则三角形的角度容许闭合差为（ ）。

A)±10″

B)±15″

C)±21″

D)±30″

答案:D

解析:三角形闭合差f=180°－α－β－γ，α、β、γ均是一测回两方向平均读数之差，三角形的角度容许闭合差和各角的中误差关系如下：

$$m_f = \pm\sqrt{m_\alpha^2 + m_\beta^2 + m_\gamma^2}$$

$$m_\alpha = m_\beta = m_\gamma = \pm\sqrt{6^2 + 6^2} = \pm\sqrt{72},$$

则三角形的角度容许闭合差取2mf=±30″。

47.[单选题]当他们代表组织向外界表态时，管理者是在扮演（ ）的角色。

A)监听者

B)联络者

C)发言人

D)传播者

答案:C

解析:

48.[单选题]在构建岗位胜任特征模型的方法中，回归分析需在（ ）之后进行。

A)相关分析

B)因子分析

C)频次选择法

D)T检验分析
答案:B
解析:回归分析只能在其他分析的基础上进行，一般情况下，回归分析要放在因子分析之后，原因是如果不进行因子分析，就很难找到科学的量化数据。

49.[单选题]要插入页眉和页脚，首先要切换到()视图方式下。
A)普通
B)页面
C)大纲
D)Web版式
答案:B
解析:在Word中，只有在页面视图中才能显示“页眉页脚”，所以要插入“页眉和页脚”，首先要切换到“页面视图”方式下。

50.[单选题]行为改造型激励理论中被称为“认知理论”的是（ ）
A)归因理论
B)挫折理论
C)强化理论
D)公平理论
答案:A
解析:

51.[单选题]决策程序中的最后阶段是（ ）
A)决定决策方案
B)实验决策方案
C)评估决策方案
D)实施决策方案
答案:D
解析:

52.[单选题]图a)、b)两种状态中，梁的转角φ与竖向位移δ间的关系为：



A) φ=δ
B) φ与δ关系不定，取决于梁的刚度大小
C) φ>δ
D) φ
答案:A
解析:提示：位移互等定理。

53.[单选题]下列各式中正确的是哪一个（c为任意常数）？
A)A
B)B
C)C
D)D
答案:A

A. $\int f'(3-2x)dx=-\frac{1}{2}f(3-2x)+c$

B. $\int f'(3-2x)dx=-f(3-2x)+c$

C. $\int f'(3-2x)dx=f(x)+c$

D. $\int f'(3-2x)dx=\frac{1}{2}f(3-2x)+c$

解析:提示：凑成∫f '(u)du的形式，写出不定积分。

54.[单选题]对低碳钢试件进行拉伸试验，测得其弹性模量E=200GPa。当试件横截面上的正应力达到320MPa时，测得其轴向线应变

$\varepsilon=3.6\times10^{-3}$

，此时开始卸载,直至横截面上正应力

$\sigma=0$

。最后试件中纵向塑性应变（残余应变）是：

A. 2.0×10^{-3}

B. 1.5×10^{-3}

C. 2.3×10^{-3}

D. 3.6×10^{-3}

A)A

B)B

C)C

D)D

答案:A

解析:提示：低碳钢试件拉伸试验中的卸载规律如解图所示。

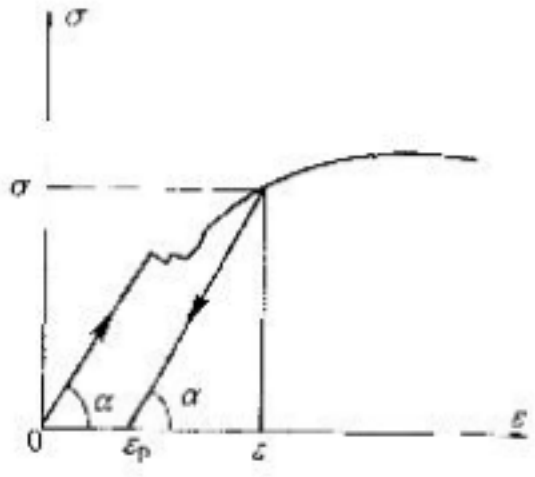

因

，故塑性应变为

$$E=\tan\alpha=\frac{\sigma}{\varepsilon-\varepsilon_p}$$

$$\varepsilon_p=\varepsilon-\frac{\sigma}{E}=2\times10^{-3}。$$

55.[单选题]测得两角度观测值及其中误差分别为∠A=100° 1440″ ±5″和∠B=84° 55′ 20″ ±5″。由此可知( )。
A)两个角度的测量精度相同
B)B角的测量精度高
C)A角的相对精度高
D)A角的测量精度高
答案:A
解析:因为测角精度只与中误差有关，与角值大小无关，故中误差相等，则精度相同。

56.[单选题]管理效率的（ ）特征主要表现在效率责任、效率关系和效能上。
A)集约化
B)综合化
C)多重化
D)评价
答案:B
解析:管理效率综合化特征主要表现在效率责任、效率关系和效能上。为了提高管理效率，必须把各种效率关系综合起来加以考虑。效率责任、效率关系的综合化最终要体现在管理的效能上.即管理者从事管理活动及其相应管理劳动的行为水平和能力、工作状态和效果上，包括用人效能、办事效能、组织效能、决策效能、支配时间的效能等方面，这种管理效能的综合化已成为提高管理效率的根本。所以选B。

57.[单选题]低碳钢试件受拉时，下列中哪个叙述是正确的？

A. $\sigma<\sigma_s$ 时，$\sigma=E\varepsilon$ 成立　　B. $\sigma<\sigma_b$ 时，$\sigma=E\varepsilon$ 成立
C. $\sigma<\sigma_p$ 时，$\sigma=E\varepsilon$ 成立　　D. $\sigma<\sigma_{0.2}$ 时，$\sigma=E\varepsilon$ 成立

A)A
B)B
C)C
D)D
答案:C
解析:提示：只有当应力小于比例极限

σ_p

时，虎克定律才成立。

58.[单选题]在组织行为学中，把一个人在群体中工作不如单独一个人工作时更努力的倾向称为（ ）。
A)群体促进效应
B)社会惰化效应
C)协同效应

D)责任分摊效应
答案:B
解析:

59.[单选题]图中，已知θ=0.5ω，不考虑阻尼，AB杆A端的纯强迫振动最大弯矩之值为（ ）。

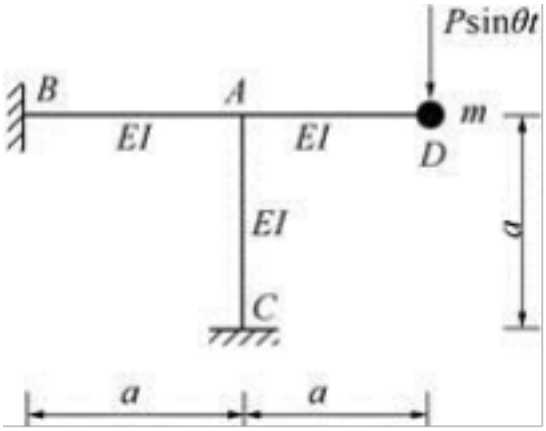

A. $\frac{2}{3}Pa$
B. 0.8Pa
C. 1Pa
D. 1.5Pa

A)A
B)B
C)C
D)D
答案:A
解析:

激振力幅值作用在D点时，引起的AB杆A端静弯矩 $M_{ABst}=\mu_{AB}M_{Ast}=\frac{1}{2}Pa$，又体系的动力放大系数 $\beta=\frac{1}{1-\left(\frac{\theta}{\omega}\right)^2}=\frac{4}{3}$，所以 $M_{ABmax}=\beta M_{ABst}=\frac{2}{3}Pa$。

60.[单选题]双方目标的达成是一种正向关联的协商是（ ）。
A)关联型协商
B)双赢型协商
C)竞争型协商
D)合作型协商
答案:D
解析:合作型协商中，协商各方是一种相互增进的关系，双方目标达成是一种正向关联。

61.[单选题]水准面有（ ）个。
A)1
B)10
C)有限

D)无数
答案:D
解析:处于静止状态的水面称为“水准面”，是作为流体的水受地球重力的影响而形成的重力等位面，它的特点之一是面上任一点的垂线都垂直于该点的水面。假想静止的海水面延伸穿过陆地包围整个地球，形成一个闭合曲面为水准面。地球上的水面有高低，位于不同高度的水准面有无数个。其中，与平均海水面相吻合的水准面称为大地水准面，并以此代表整个地球的实际形体。

62.[单选题]对于福利分配型员工，年终分享利润的发放形式为（ ）。
A)股票
B)期权
C)期股
D)分红
答案:A
解析:对于福利分配型员工，年终分享利润以股票形式发放。

63.[单选题]根据斯普朗格尔研究发现，采购代理商的最明显的价值观是（ ）价值观。
A)政治
B)社会
C)理性
D)经济
答案:D
解析:

64.[单选题]事业单位的主体应当是为社会提供公益服务的（ ）。
A)企业组织
B)集体组织
C)党政机关
D)社会组织
答案:D
解析:事业单位的主体应当是为社会提供公益服务的社会组织，面向全社会和提供服务是其公益性的基本要求。所以选D。

65.[单选题]进行组织结构设计时，要选择不同的部门结构模式。以下不属于部门结构模式的是（ ）。
A)直线职能制
B)事业部制
C)超事业部制
D)常设机构
答案:D
解析:部门结构模式主要有直线制、职能制、直线职能制、事业部制、超事业部制、矩阵制等。各种模式都有自身的组合原则，如以工作和任务为中心、以成果为中心和以关系为中心等组织结构设计原则。因此，本题应该选D。

66.[单选题]影响信息沟通的基本因素除了信息源、接收者、编码与解码以外，还包括（ ）
A)通道
B)工具
C)情境
D)路线
答案:A
解析:

67.[单选题]图示结构，质量m在杆件中点，EI=∞，弹簧刚度为k。该体系自振频率为（ ）。

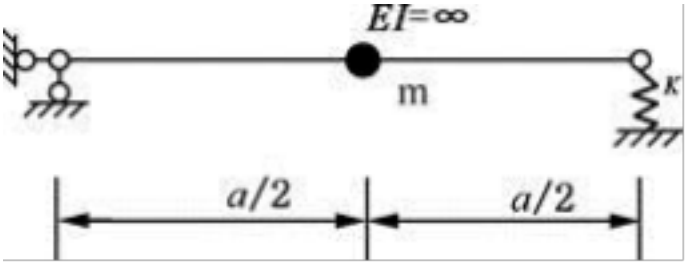

A. $\sqrt{\frac{9k}{4m}}$

B. $\sqrt{\frac{2k}{m}}$

C. $\sqrt{\frac{9k}{2m}}$

D. $\sqrt{\frac{4k}{m}}$

A)A
B)B
C)C
D)D
答案:D
解析:

因为梁为刚性梁，对于简支梁跨中质量的竖向振动来说，其柔度系数只是由于弹簧引起，在跨中作用单位力1，弹簧受力为$\frac{1}{2}$，向下位移为$\frac{1}{2k}$，所以跨中位移大小为：$\delta=\frac{1}{4k}$，故体系自振频率为：$f=\sqrt{\frac{1}{m\delta}}=\sqrt{\frac{4k}{m}}$。

68.[单选题]企业从外部获取培训资源的优点包括（ ）。
A)培训成本较低
B)可提高培训档次
C)教师与学员易于交流
D)培训易于控制
答案:B
解析:从企业外部获取培训资源的优点包括：①选择范围大，可获取到高质量的培训教师资源；②可带来许多全新的理念；③对学员具有较大的吸引力；④可提高培训档次，引起企业各方面的重视；⑤容易营造气氛，获得良好的培训效果。ACD三项属于从企业内部开发培训资源的优点。因此，本题应该选B.

69.[单选题]图所示桁架有几根零杆？（ ）
A)3
B)9
C)5
D)6

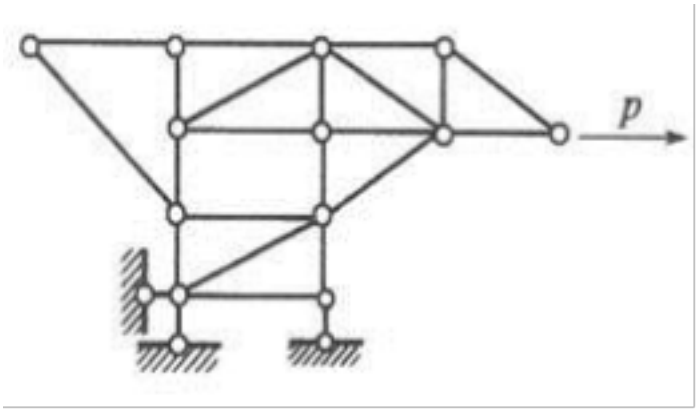

答案:B
解析:先把左侧的二元体拆开，再根据水平力和竖向力为零，把为零的杆去掉后，可得下图，除下图外杆件都为零杆，所以为零的杆为9根。如图。

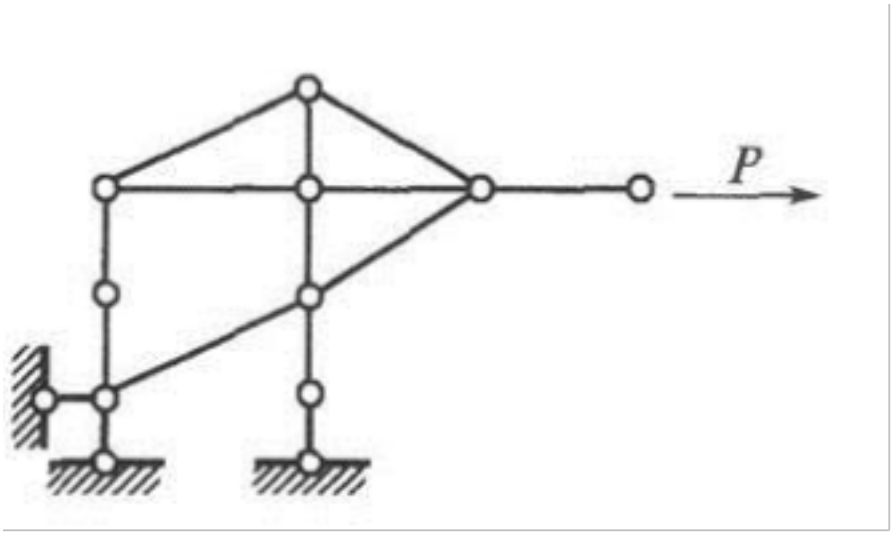

70.[单选题]认为“人们最重视的是工作中与周围人友好相处，物质利益是相对将要的因素”的是（ ）假设。
A)社会人
B)经济人
C)自我实现人
D)复杂人
答案:A
解析:

71.[单选题]已知在非关联参考方向下，某个元件的端电压为2V，流过该元件的电流为5mA，则该元件功率状态为（ ）。
A)吸收10W
B)发出10W
C)吸收10mW
D)发出10mW
答案:D
解析:

72.[单选题]而以（ ）为主的员工会花较多的时间去计算完成工作的得与失，从而采取自己认为最“经济”的方法去完成工作。
A)上司承诺
B)连续承诺
C)规范承诺
D)情感承诺

答案:B
解析:

73.[单选题]鼓励和支持群体成员行为一致性的群体，比较容易引发（ ）
A)群体促进效应
B)协同效应
C)从众效应
D)社会惰化效应
答案:C
解析:

74.[单选题]“我不喜欢张经理，因为他喜欢讲荤段子”反映了态度的（ ）成分。
A)认知
B)意识
C)意向
D)情感
答案:D
解析:

75.[单选题]施工测量中平面控制网的形式有下列中的哪几种？Ⅰ.平板仪导线 Ⅱ.建筑方格网 Ⅲ.多边形网Ⅳ.建筑基线 Ⅴ.视距导线 Ⅵ.导线网
A)Ⅰ、Ⅱ、Ⅲ、Ⅳ
B)Ⅰ、Ⅲ、Ⅴ、Ⅵ
C)Ⅱ、Ⅲ、Ⅳ、Ⅵ
D)Ⅲ、Ⅳ、Ⅴ、Ⅵ
答案:C
解析:提示：施工测量中平面控制网的形式有建筑方格网、多边形网、建筑基线和导线网。

76.[单选题]（ ）是必须具备特定的形式或履行一定手续方具有法律效力的合同。
A)专项协议
B)劳动合同
C)要式合同
D)集体合同
答案:C
解析:要式合同是指必须具备特定的形式或履行一定手续方具有法律效力的合同。由法律直接规定的要式合同则是法定要式合同，如劳动合同即为法定要式合同。

77.[单选题]确定地面点位相对位置的三个基本观测量是（ ）。
A)水平距离、水平角和方位角
B)水平距离、水平角和高差
C)水平距离、方位角和竖直角
D)水平距离、竖直角和高差
答案:B
解析:确定地面点位相对位置的三个基本观测量是水平距离、水平角和高差。通过水平距离和水平角可以得到坐标（x，y），通过高差可以得到高程。

78.[单选题]设cosx-1=xsinα(x)，其中|α(x)|

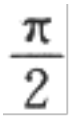

，则当x→0时，α(x)是

A)比x高阶的无穷小
B)比x低阶的无穷小
C)与x同阶但不等价的无穷小
D)与x等价的无穷小
答案:C
解析:

因为cosx-1=xsinα(x)，所以 $\lim_{x\to0}\frac{\sin\alpha(x)}{x}=\lim_{x\to0}\frac{\cos x-1}{x^2}=\lim_{x\to0}\frac{-\frac{1}{2}x^2}{x^2}=-\frac{1}{2}$

则有 $\lim_{x\to0}\sin\alpha(x)=0$，又 $|\alpha(x)|<\frac{\pi}{2}$，则 $\lim_{x\to0}\alpha(x)=0$，

$$\lim_{x\to0}\frac{\sin\alpha(x)}{x}=\lim_{x\to0}\frac{\alpha(x)}{x}=-\frac{1}{2}$$

故应选(C).

79.[单选题]政府的管理具有典型的合法性和（ ）。
A)权威性
B)合理性
C)强制性
D)政治性
答案:C
解析:政府是典型的公共组织，其管理具有典型的合法性和强制性。现代政府作为社会全体合法成员共同利益的代表，通过法定的公共程序产生，其权力得到社会公众认同。所以选C。

80.[单选题]叠加定理只适用于（ ）。
A)交流电路
B)直流电路
C)线性电路
D)非线性电路
答案:C
解析:

81.[单选题]（ ）是指秘书人员所在行业、系统的专业知识。
A)基础知识
B)专业知识
C)行业知识
D)相关知识
答案:C
解析:行业知识是指秘书人员所在行业、系统的专业知识，如在政府机关工作的秘书人员必须具备行政管理知识，在工商企业工作的秘书人员必须具备企业管理知识、市场营销知识。

82.[单选题]下列各选项中，有关信息的作用的说法不正确的是（ ）。
A)信息是组织进行决策、制定正确计划不可缺少的依据
B)信息是组织变革的主要推动力量
C)信息是进行指挥、建立良好秩序不可缺少的手段
D)信息是进行有效控制、提高工作效能不可缺少的工具
答案:B
解析:组织变革的主要推动力量包括外部变革推动力（社会政治特征、技术发展特征、市场竞争特征）和内部变革推动力（组织结构、人员与管理特征、团队工作模式）。由此可知信息不是组织变革的主要推动力量。故正确答案为B。

83.[单选题]2008年11月（ ）提出了“智慧地球”。
A)三星
B)国际电信联盟
C)IBM
D)微软
答案:C
解析:智慧地球也称为智能地球，就是把感应器嵌入和装备到电网、铁路、桥梁、隧道、公路、建筑、供水系统、大坝、油气管道等各种物体中，并且被普遍连接，形成所谓“物联网”，然后将“物联网”与现有的互联网整合起来，实现人类社会与物理系统的整合。这一概念由IBM首席执行官彭明盛于2008年11月首次提出。

84.[单选题]用人单位应当什么时候为其职工向社会保险经办机构申请社会保险登记（ ）。
A)自用工之日起15日内
B)自书面劳动合同订立之日起15日内
C)自书面劳动合同订立之日起30日内
D)自用工之日起30日内
答案:D
解析:社会保险登记中，用人单位应当在自用工之日起30日内为其职工向社会保险经办机构申请社会保险登记。因此，本题应该选D。

85.[单选题]费用预算与执行的原则是下列哪一项与总体控制，以及个案执行？（ ）
A)分项预算
B)分别统计
C)分头预算
D)整体需求
答案:C
解析:费用预算与执行的原则是“分头预算，总体控制，个案执行”。公司根据上年度预算与结算的比较情况提出一个控制额度；大部分由人力资源部门掌握，项目之间根据余缺，在经过批准程序后可以调剂使用；对有些项目如培训费用，按使用部门进行控制，避免部门之间相互挤占而完不成各自的培训任务。因此，本题应该选C。

86.[单选题]下列属于特指秘书机构的办公室是（ ）。
A)校长办公室
B)厂长办公室
C)国务院台湾事务办公室
D)中共中央办公厅
答案:D
解析:办公室主要包含下述三种含义：（1）泛指一切办公场所，主要指管理人员或文职人员处理日常工作的主要场所；（2）专指特殊办公场所，主要指某一级职务领导人员或某一类职业人员的办公场所，如校长、厂长办公室等；也可以指某种独立的工作机构，如国务院台湾事务办公室等；（3）特指秘书机构，主要是党政机关、企事业单位内部的综合职能部门。在高级领导机关称为办公厅.如中共中央办公厅；在中级机关或基层单位称为办公室，如学院办公室等。而选项中A、B、C项属于办公室中的专指特殊办公场所，D项属于办公室的特指秘书机构。

87.[单选题]图示一结构受两种荷载作用，对应位置处的支座反力关系应为：
A)完全相同
B)完全不同
C)竖向反力相同，水平反力不同
D)水平反力相同，竖向反力不同
答案:C
解析:提示：整体隔离体平衡，求竖向反力；铰一侧隔离体平衡，求水平反力。

88.[单选题]按个人生命周期划分，人的一生大致可以划分为几个阶段？（ ）

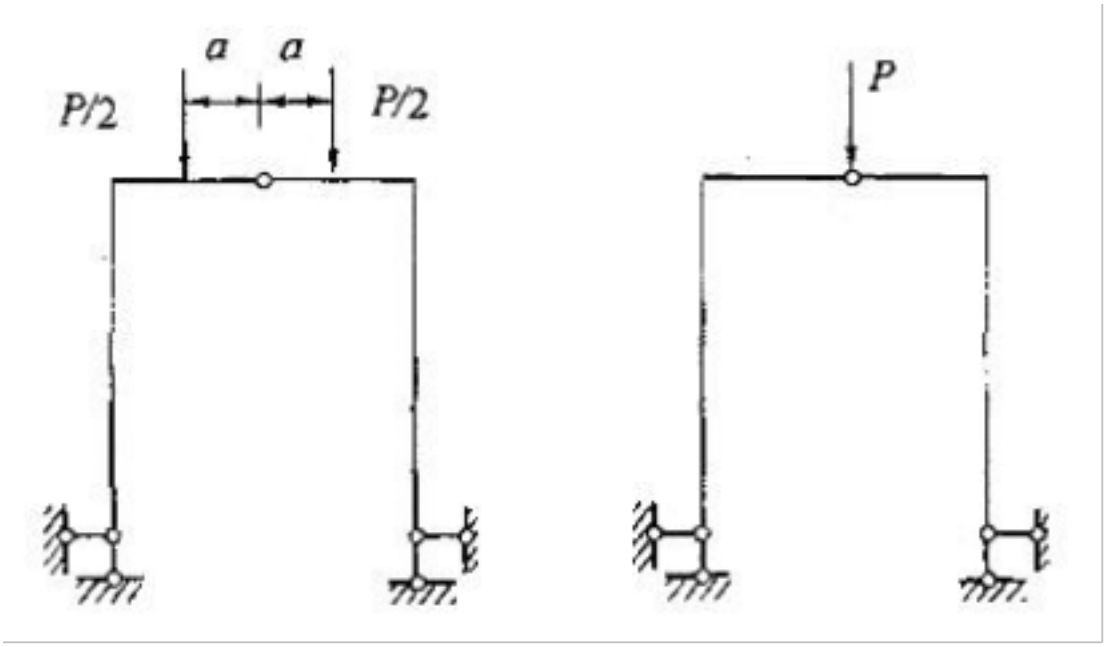

A)四个
B)五个
C)六个
D)七个
答案:B
解析:

89.[单选题]目标理论认为对目标的合适程度可以从三个角度加以分析，即目标的具体性、目标的难易度和（ ）
A)目标的可接受性
B)目标的实践性
C)目标的合理性
D)目标的科学性
答案:A
解析:

90.[单选题]美国学者肯尼迪和迪尔认为，企业文化除了价值观、英雄人物、文化网络因素外，还包括（ ）。
A)组织结构
B)领导方式
C)礼仪和庆典
D)企业行为
答案:C
解析:美国学者阿伦·肯尼迪和特伦斯·迪尔在合著的《西方企业文化》中认为企业文化包括五要素：企业环境、价值观、英雄人物、礼仪和庆典、文化网络。企业环境是形成某种文化时最大的影响因素；价值观是基石，是成功哲学的精髓；英雄人物是价值观的人格化和组织力量的集中体现者；礼仪和庆典是传播和强化公司文化的重要形式；文化网络是公司价值观和英雄轶事的“载体”，是通道。

91.[单选题]并联电阻的作用是（ ）。
A)分流
B)分压
C)分频
D)增大电阻
答案:A
解析:并联电阻两端电压相等，流过的电流与电阻阻值的倒数成正比，则并联电阻的作用是分流。

92.[单选题]詹姆斯·柯林斯在（ ）中曾将卓越公司和对照公司进行过对比，发现大多数卓越公司的最高领导人都是一步步从公司的内部提升起来的，公司的价值观已经融入他们的血液中。
A)《从优秀到卓越》
B)《从卓越到优秀》
C)《理解组织行为》
D)《组织中的人性》
答案:A
解析:

93.[单选题]按照马斯洛需要层次论理论，如果人们的生理需要得到基本满足后，最有效的激励是去满足他的（ ）。
A)安全需要
B)社交需要
C)尊重需要
D)自我实现需要
答案:A
解析:按照马斯洛需要层次论理论，人的需要是分层次的，按照从低到高的级别，分别为生理需要、安全需要、社交需要、尊重需要、自我实现需要。各层需求之间不但有高低之分，而且有前后顺序之别：只有低一层需求获得满足之后，高一层的需求才会产生。当人的生理需要得到满足后，对安全的需要便产生了。

94.[单选题]大型企业每月月末需要向有关部门提供财务报表数据。这属于（ ）。
A)统计报表
B)普查
C)重点调查
D)抽样调查
答案:A
解析:

95.[单选题]“5W1H”所描述的是（ ）职能的内容。
A)计划
B)组织
C)领导
D)控制
答案:A
解析:“5W1H”即：What-做什么，目标；Why-为什么做，原因；Who-谁去做，人员；When-何时做，时间；Where-何地做，地点；How-怎样做，手段，这些都是计划工作的内容。

96.[单选题]利用优势，回避或减轻外部威胁影响的战略匹配是（ ）。
A)SO战略
B)WO战略
C)ST战略
D)WT战略
答案:C
解析:SO战略是一种发挥组织内部优势、利用外部机会的战略；WO战略是利用外部机会来弥补内部弱势的战略；ST战略是利用优势，回避或减轻外部威胁影响的战略；WT战略是一种在减少内部弱点的同时，规避外部环境威胁的防御性战略。

97.[单选题]社会知觉实质上是对人的知觉，而我们在知觉人的过程中，可以从不同的角度和侧面进行，所以就有不同的社会知觉类型，即对人的知觉、人际知觉、自我知觉、（ ）等。
A)角色扮演
B)人际交往
C)客体化

D)角色知觉
答案:D
解析:

98.[单选题]关于缩放Word中文本框的描述，正确的是（ ）。
A)仅缩放文本框本身，框内的文字或图形将不会缩放
B)文本框和文本框内的文字会一起缩放
C)缩放后文本框中看不见的内容会消失
D)文本框和文本框内的图形会一起缩放
答案:A
解析:在Word中，缩放文本框时，文本框中的文字和图形均不会随着文本框一起缩放。

99.[单选题]质量管理工作要求执行者细致认真，秘书工作要求执行者细致周到，这体现了下列哪项原理？（ ）
A)个体差异
B)人岗匹配
C)工作差异
D)环境差异
答案:C
解析:员工测评的一个假设是，不同的职位具有差异性。首先是工作任务的差异，也就是工作内容的差异，还有就是工作权责的差异，即一个职位所具有的决策权力和决策影响力的不同。质量管理工作要求执行者能说会道，秘书工作要求执行者细致周到体现了工作内容的差异。因此，本题应该选C。

100.[单选题]自水准点M(HM=100.000m)经4个测站至待定点A，得hMA=+1. 021m；再由A点经6个站测至另一水准点N(Hn=105. 121m)，得hAN= +4. 080m。则平差后的A点高程为：
A)101. 029m
B)101. 013m
C)101. 031m
D)101. 021m
答案:A
解析:提示：参见水准测量闭合差分配方法。

101.[单选题]如果中央银行在公开市场上大量购买政府债券，下列选项中不可能发生的是（ ）。
A)利息率上升
B)国民收入增加
C)储蓄减少
D)以上答案都不对
答案:D
解析:

102.[单选题]罗夏墨迹测试属于投射测试中的（ ）。
A)联想法
B)构造法
C)绘画法
D)完成法
答案:A
解析:联想法，先给予被试者一定的刺激，如一个文字、一幅墨l迹图形等，然后请被试者说出由这些刺激所引起的联想。代表方法如荣格的文字联想法和罗夏墨迹测试。

103.[单选题]“经济人”假设是古典经济学家和古典管理学家关于人性的假设，是西方经济学和泰勒（ ）的出发点。
A)管理科学理论
B)科学管理理论

C)组织理论
D)科层制理论
答案:B
解析:

104.[单选题]列昂·费斯廷格在20世纪50年代后期提出（ ），试图解释态度和行为之间的联系。
A)比较理论
B)认知失调理论
C)归因理论
D)强化理论
答案:B
解析:

105.[单选题]图示结构的超静定次数为:

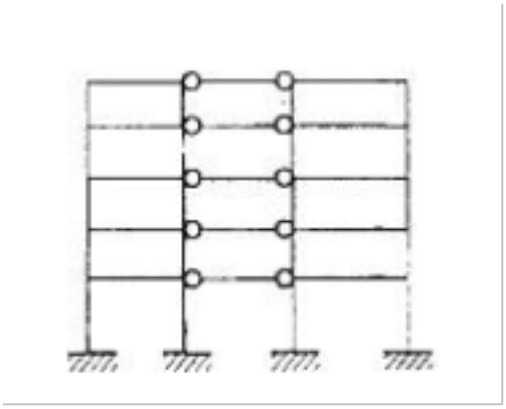

A)12 次
B)15 次
C)24 次
D)35 次
答案:D
解析:提示：切断一链杆相当于去掉一个约束，受弯杆作一切口相当于去掉三个约束。

106.[单选题]人事管理方法、物资管理方法、资金管理方法、信息管理方法的划分主要依据的是（ ）。
A)管理对象的范围
B)管理对象的性质
C)所运用方法的量化程度
D)对管理对象人性的假设的不同
答案:B
解析:管理方法按照管理对象的范围可划分为宏观管理方法、中观管理方法和微观管理方法，排除A选项；按照所运用方法的量化程度可划分为定性方法和定量方法，排除C选项；根据管理活动所依据的对管理对象人性的假设可划分为刚性管理方法和柔性管理方法，可排除D选项。故正确答案为B。

107.[单选题]下列关于计算机直接识别的内容，正确的是()。
A)计算机能直接识别汇编语言
B)计算机能直接识别图片
C)计算机能直接识别文字
D)计算机能直接识别ASCII码
答案:D
解析:计算机只能直接识别机器语言，机器语言是一种二进制代码，以0和1表示，即ASCII码。

108.[单选题]下列有关投资乘数的描述正确的是（ ）。

A)表明国民收入变动量与引起这种变量的关系
B)投资引起收入增加量与投资增加量之间的比例
C)表明国民消费增加量与引起这种变量的关系
D)投资引起消费增加量与投资增加量之间的比例
答案:B
解析:

109.[单选题]图示薄壁截面受竖向荷载作用，发生平面弯曲的只有何图所示截面？

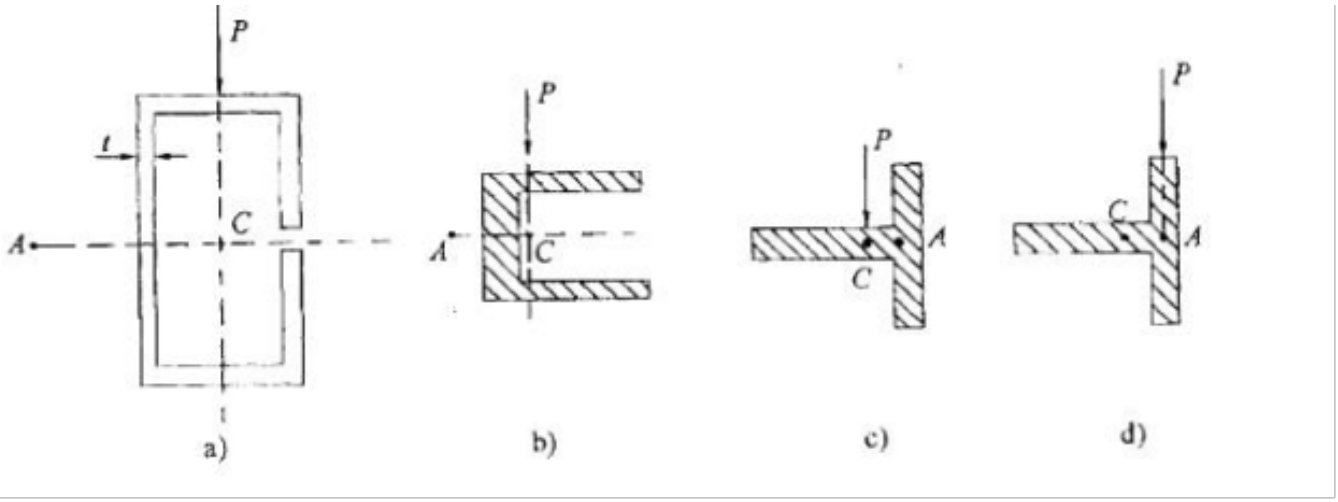

A)图 a)
B)图 b)
C)图 c)
D)图 d)
答案:D
解析:提示：发生平面弯曲时，竖向荷载必须过弯心A。

110.[单选题]以下属于绩效评价方法中的绝对评价法的是（ ）。
A)排序法
B)配对比较法
C)等级择一法
D)强制分配法
答案:C
解析:绝对评价法是按统一的标准尺度衡量任职于相同职务的员工，主要方法是量表法。量表法是根据各种客观标准确定不同形式的评价尺度进行评价的一类评价方法。常用的量表法主要有等级择一法、行为锚定量表法、综合尺度量表法、行为对照表法、行为观察量表法等。

111.[单选题]等截面直梁弯曲变形时，挠曲线的最大曲率发生在( )。
A)挠度最大截面
B)转角最大截面
C)剪力最大截面
D)弯矩最大截面
答案:D
解析:

根据公式 $K=\frac{M_{(x)}}{EI}$，可得挠曲线的最大曲率发生在弯矩最大截面处。

112.[单选题]假设检验的依据是（ ）。

A)小概率原理
B)中心极限定理
C)方差分析原理
D)总体分布
答案:A
解析:

113.[单选题]在Word的编辑过程中，要将插入点直接移到文档首部，应该按()。
A)End键
B)Ctrl+End键
C)Home键
D)Ctrl+Home键
答案:D
解析:在Word的编辑过程中，按下Home/End键，会将插入点移到段落首部/尾部。按下Ctrl+Home/Ctrl+End组合键，会将插入点移到文档首部/尾部。

114.[单选题]在R、L、C元件串联电路中，施加正弦电压u，当XC>XL时，电压u与i的相位关系应是：

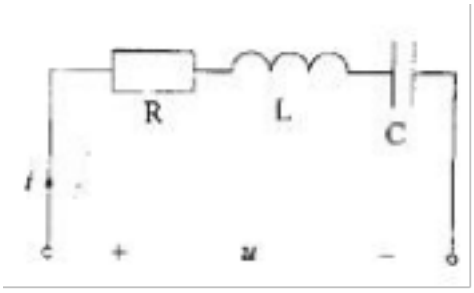

A)u超前于i
B)u滞后于i
C)u与i反相
D)无法判定
答案:B
解析:提示：注意交流电路中电感元件感抗大小与电源频率成正比，XL=ωL；电容元件的容抗与电源的频率成反比，XC=1/ωC。当电源频率提高时，感抗增加，容抗减小。

115.[单选题]下列关于微软Word“查找”操作的说法中，正确的是()
A)可以无格式或带格式进行，还可以查找一些特殊字符
B)只能带格式进行.还可以查找一些特殊字符
C)只能在整个文档范围内进行
D)可以无格式或带格式进行.但不能使用任何通配符进行查找
答案:A
解析:查找可以无格式或带格式进行，还可以查找一些特殊字符，也可以使用通配符查找，A对，B错，D错；查找可以在整个文档范围，也可以选择部分进行查找，C错。

116.[单选题]图所示下列表示静定梁截面C的弯矩影响线的是（ ）。



A)A
B)B

C) C
D) D
答案:D
解析:该结构为静定结构，可将连接铰右侧当做左侧的附属结构，当荷载作用于主体结构时，附属结构上无作用力，故可判断出D项正确。

117.[单选题]对于一段两端对齐的文字，只选其中的几个字符，用鼠标单击“居中”按钮，则()。
A)整个文档变为居中格式
B)只有被选中的文字变为居中格式
C)整个段落变为居中格式
D)格式不变，操作无效
答案:C
解析:在Word中，居中格式是针对段落排版而言，因此，即便选中段落中的某个字符，居中操作依然将该段落设为居中格式。

118.[单选题]工作岗位信息的收集主要是通过下列哪一项实现的？（ ）
A)岗位分析
B)任务分析
C)抽样调查
D)全面调查
答案:A
解析:岗位工作分析也就是岗位分析，即指对某工作进行完整的描述或说明，以便为人力管理活动提供有关岗位方面的信息，从而进行一系列岗位信息的收集、分析和综合。因此，本题应该选A。

119.[单选题]大样本情况下，当总体方差未知时，总体均值检验的统计量为（ ）。

A $z=\frac{\bar{x}-\mu_0}{\sigma/\sqrt{n}}$

B $z=\frac{\bar{x}-\mu_0}{s/\sqrt{n}}$

C $z=\frac{p-\pi_0}{\sqrt{\frac{\pi_0(1-\pi_0)}{n}}}$

D $t=\frac{\bar{x}-\mu_0}{\sigma/\sqrt{n}}$

A)A
B)B
C)C
D)D
答案:B
解析:

120.[单选题]两根矩形截面悬臂梁，弹性模量均为E，横截面尺寸如图，两梁的载荷均为作用在自由端的集中力偶。已知两梁的最大挠度相同，则集中力偶Me2是Me1的(悬臂梁受自由端集中力偶M作用，自由端挠度为ML2/2EI)

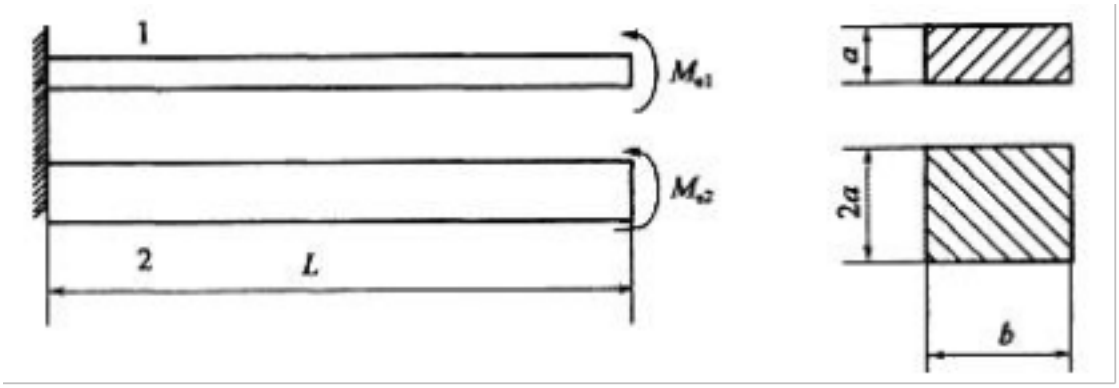

A)8倍
B)4倍
C)2倍
D)1倍
答案:A
解析:

提示:因为 $I_2=\frac{b(2a)^3}{12}=8\frac{ba^3}{12}=8I_1$，又 $f_1=f_2$，即 $\frac{M_1L^2}{2EI_1}=\frac{M_2L}{2EI_2}$，故 $\frac{M_2}{M_1}=\frac{I_2}{I_1}=8$。

121.[单选题]在局域网中运行网络操作系统的是( )。
A)网络工作站
B)网络服务器
C)网桥
D)网卡
答案:B
解析:

122.[单选题]机器语言程序在机器内是以（ ）形式表示的。
A)BCD码
B)二进制编码
C)AscII码
D)汉字编码
答案:B
解析:提示：计算机只识别二进制码，因此机器语言在机器内是以二进制编码形式表示的。

123.[单选题]图示电路中，已知：U1=U2=12V，R1=R2=4kΩ，R3=16kΩ。S 断开后A 点电位VA0和S闭合后A点电位US分别是：
A)-4V，3.6V
B)6V，0V
C)4V，-2.4V
D)-4V，2.4V
答案:D
解析:提示：当S分开时，电路元件U1、U2、R1、R2、R3构成串联电路；当S闭合时，A点电的电位UA与U1、R1的大小无关。

124.[单选题]广域网，又称远程网，它所覆盖的地理范围一般( )。
A)从几十米到几百米

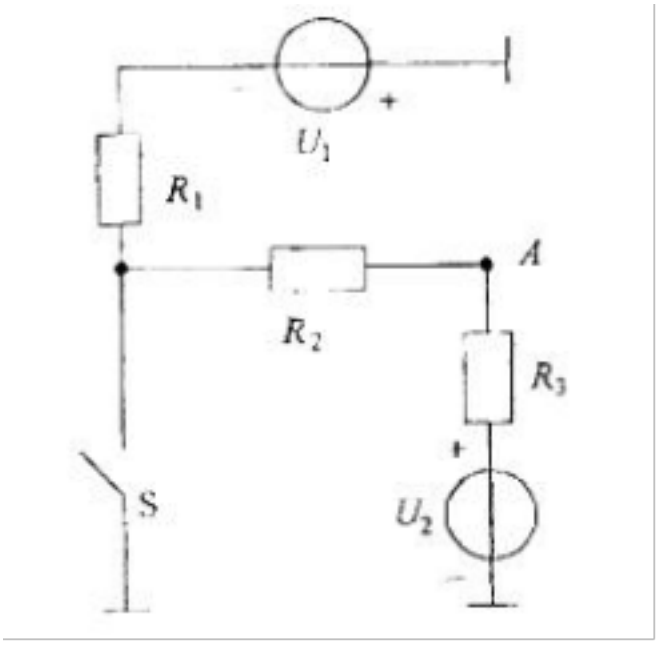

B)从几百米到几公里
C)从几公里到几百公里
D)从几十公里到几千公里
答案:D
解析:广域网所覆盖的地理范围一般从几十公里到几千公里，甚至更远。局域网一般在方圆几公里之内。

125.[单选题]计算机存储器中的每一个存储单元都配置一个唯一的编号，这个编号就是( )。
A)一种寄存标志
B)是寄存器地址
C)存储器的地址
D)输入/输出地址
答案:C
解析:计算机通过译码器给每一个存储单元分配编号，这个编号就是存储器的地址。这个编号在计算机可访问的存储空间是唯一的，否则当计算机访问存储器某单元时，被访问的存储单元不确定(如存在两个单元或多个单元同时被访问)，这是不允许的。

126.[单选题]一种创新的制度是否优越的衡量标准是企业的（ ）是否降低。
A)交易成本
B)内部交易成本
C)外部交易成本
D)运行成本
答案:B
解析:一种创新的制度是否优越的衡量标准是企业的内部交易成本是否降低。故本题正确答案选B。

127.[单选题]“没有一种能适应任何情况的领导模式，只能提出在特定情况下相对来说最有效的领导模式。”这种观点是下述哪种理论的主要观点？（ ）
A)领导有效性理论
B)权变领导理论
C)途径--目标论
D)领导生命周期论
答案:B
解析:

128.[单选题]如经纬仪横轴与竖轴不垂直，则会造成下述中的哪项后果？

A)观测目标越高，对竖直角影响越大
B)观测目标越高，对水平角影响越大
C)水平角变大，竖直角变小
D)竖直角变大，水平角变小
答案:B
解析:提示：见横轴与竖轴不垂直造成的误差。

129.[单选题]频数分布表中落在某一特定类别的数据个数称为（ ）。
A)组数
B)频数
C)众数
D)中位数
答案:B
解析:

130.[单选题]把性格划分为外倾型和内倾型，是依据下列哪类划分标准（ ）
A)按何种心理机能占优势
B)按思想行为的独立性
C)按心理活动的某种倾向性
D)按人的行为模式
答案:C
解析:

131.[单选题]解释程序的功能是( )。
A)将高级语言程序转换为目标程序
B)将汇编语言程序转换为目标程序
C)解释执行高级语言程序
D)解释执行汇编语言程序
答案:C
解析:解释程序将源程序语句一句一句读人，对每个语句进行分析和解释执行。

132.[单选题]操作系统所管理的文件保存在( )。
A)主存储器
B)外存储器中
C)内存储器中
D)存储器中
答案:B
解析:

133.[单选题]下列哪项是指对培训项目所取得的成效进行测试时，其测量结果的长期稳定程度？（ ）
A)信度
B)相关度
C)区分度
D)效度
答案:A
解析:信度是指对培训项目所取得的成效进行测试时，其测量结果的长期稳定程度。选项B，标准的相关度是指衡量培训成果的标准与培训计划预定训练或学习的目标之间的相关性。选项c，区分度是指受训者取得的成果能真正反映其绩效的差别。因此，本题应该选A。

134.[单选题]领导者与工作人员的职责权限明确划分，工作人员在职权范围内有自主权。这种领导方式属于（ ）领导。

A)集权型
B)分权型
C)均权型
D)自由型
答案:C
解析:由集权型、分权型、均权型、自由型领导的定义可知，集权型领导是工作任务、方针、政策及方法，都由领导者决定，然后布置给部属执行。分权型领导是领导者只决定目标、政策、任务的方向，对部属在完成任务各个阶段上的日常活动不加干预。领导者只问效果，不问过程与细节。均权型领导是领导者与工作人员的职责权限明确划分，工作人员在职权范围内有自主权。这种领导方式主张分工负责、分层负责，以提高工作效率，更好地达成目标。自由型领导是领导有意分散领导权，给部属以极大的自由度，只检查工作成果，除非部属要求，不作主动指导。因此，选项C为正确答案。

135.[单选题]在进行三、四等水准测量时，为削弱水准仪下沉的影响，可采用( )。
A)后一前一前一后的观测程序
B)往返测量的观测方法
C)使前、后视距相等的观测方法
D)两次同向观测的方法
答案:A
解析:

136.[单选题]下列软件中主要用于制作演示文稿的是()。
A)Word
B)Excel
C)Windows
D)PowerPoint
答案:D
解析:演示文稿是PowerPoint，可以设置声音、文字、图片、视频、超链接等等。

137.[单选题]计算机能直接识别的语言是( )。
A)机器语言
B)汇编语言
C)高级语言
D)数据库查询语
答案:A
解析:

138.[单选题]将技术进步看做是内生变量的经济增长模型的是（ ）。
A)卢卡斯的经济增长模型
B)索洛的经济增长模型
C)哈罗德一多马经济增长模型
D)罗默的经济增长模型
答案:D
解析:

139.[单选题]绘制地形图时，除地物、地貌以外，还应精确标注( )。
A)坐标格网
B)数据精度
C)测绘方法
D)仪器型号
答案:A
解析:绘制地形图时，为了准确地将图根控制点展绘在图纸上，首先要在图纸上精确绘制10cm×10cm的直角坐标格网。

140.[单选题]图示梁EI=常数，B端的转角是：

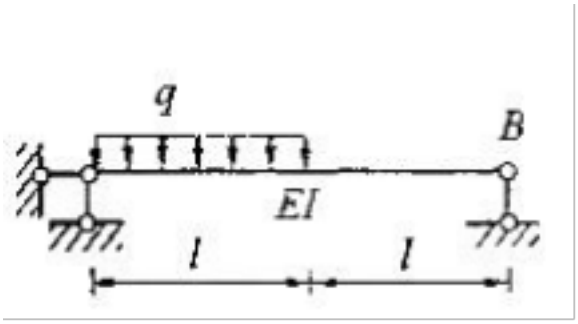

A. $\frac{5ql^3}{48EI}$（顺时针）　B. $\frac{5ql^3}{48EI}$（逆时针）　C. $\frac{7ql^3}{48EI}$（逆时针）　D. $\frac{9ql^3}{48EI}$（逆时针）

A)A
B)B
C)C
D)D
答案:C
解析:提示：应用图乘法。

141.[单选题]图示结构A截面的弯矩（以下边受拉为正）MAC为：

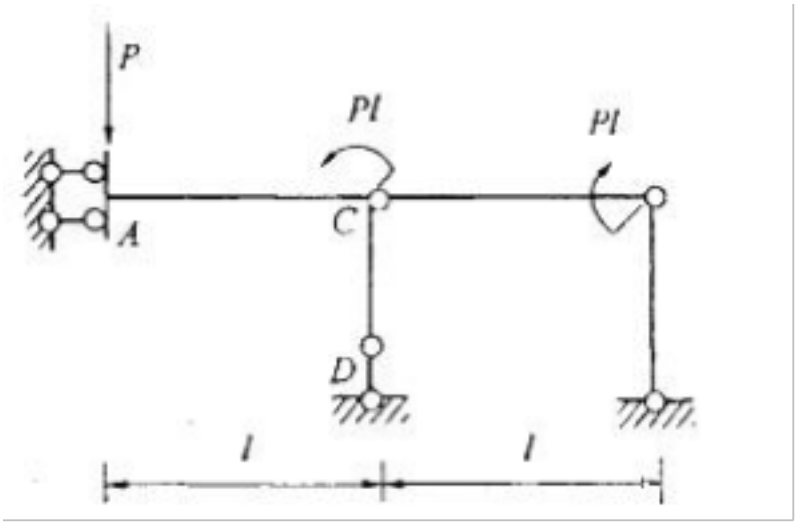

A)-P1
B)P1
C)-2P1
D)2P1
答案:D
解析:提示：右边附属部分在刚结点C处用铰与左边相连，对MAC无影响。

142.[单选题]下列变量是定量变量的是（ ）。
A)天气形势
B)籍贯
C)职业
D)气温
答案:D
解析:

以上内容仅为本文档的试下载部分，为可阅读页数的一半内容。如要下载或阅读全文，请访问：https://d.book118.com/507105002002006053