四川绵阳南山中学双语学校物理八年级下册期末考试必考点解析

考试时间：90 分钟；命题人：教研组

考生注意：

1、本卷分第 I 卷（选择题）和第 II 卷（非选择题）两部分，满分 100 分，考试时间 90 分钟

2、答卷前，考生务必用 0.5 毫米黑色签字笔将自己的姓名、班级填写在试卷规定位置上

3、答案必须写在试卷各个题目指定区域内相应的位置，如需改动，先划掉原来的答案，然后再写上新的答案；不准使用涂改液、胶带纸、修正带，不按以上要求作答的答案无效。

第 I 卷（选择题　20 分）

一、单选题（10 小题，每小题 2 分，共计 20 分）

1、如图所示．放在水平地面上的物体 a 上放一物体 b，a 和 b 间用轻质弹相连，已知弹簧处于拉伸状态．整个装置处于静止状态，则关于 a、b 的受力分析错误的是（　　）

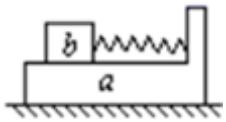

A．a 受到 b 对它向右的摩擦力　　B．a 受到地面对它向左的摩擦力

C．a 没有受到地面对它的摩擦力　　D．b 受到 a 对它向左的摩擦力

2、如图所示，将实心铁块（$\rho_{铁}>\rho_{水}$）挂在弹簧测力计下，当铁块下表面与水面相平时，铁块开始缓慢下降。若容器中水足够深，在铁块接触容器底前，能正确反映弹簧测力计示数 F 和铁块下表面到水面距离 h 关系的图像是（　　）

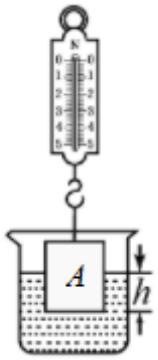

A.

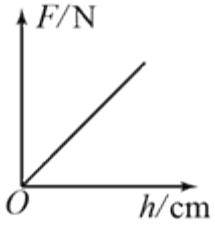

B.

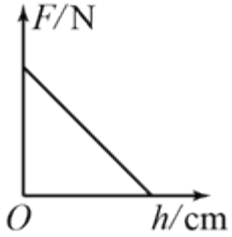

C.

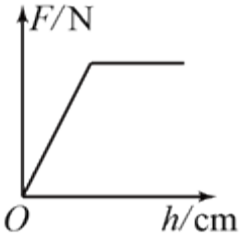

D.

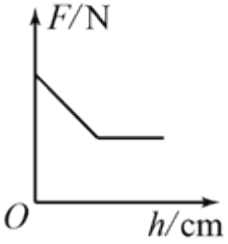

3、如图所示，我省竞走运动员王钦在全国竞走大赛中获得冠军，同时也创造了中国运动员 7 年以来在此项目上的最好成绩，下列与之有关的描述正确的是（　　）



A．王钦在冲刺时相对于终点是静止的

B．王钦在前进中后脚蹬地时受到的摩擦力向前

C．王钦在竞走时脚对地面的压强比静止站立时小

D．王钦站在领奖台上时受到的重力和奖台对他的支持力是一对相互作用力

4、关于功、功率、机械效率，下列说法中正确的是（　　）

A．物体做功越多，功率越大

B．作用在物体上的力越大，物体所做的功越多

C．机械效率是表示物体做功快慢的物理量

D．同一滑轮组，增加物重可以提高机械效率

5、如图所示，斜面长 s=3m，高 h=0.5m，建筑工人用绳子在 5s 内将重 400N 的物体从其底端沿斜面向上匀速拉到顶端，拉力是 120N（忽略绳子的重力）．则下列说法正确的是（　　）

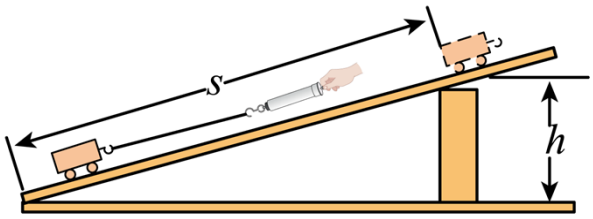

A．克服斜面摩擦力所做的功是 160J

B．拉力的功率是 50W

C．拉力所做的功是 300J

D．斜面的机械效率是 80%

6、用如图所示的滑轮组拉着物体 A 在水平桌面上做匀速直线运动。如果拉力 F=12N，忽略滑轮重、绳重和滑轮摩擦，下列说法中正确的是（　　）

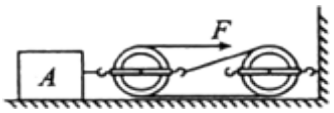

A．物体 A 对动滑轮的拉力为 12N　　B．物体 A 受到的拉力为 4N

C．物体 A 受到的摩擦力为 24N　　D．竖直墙受到的拉力为 24N

7、第 24 届冬季奥林匹克运动会 2022 年将在我国北京隆重举行。如图所示，冰壶运动就是其中一项比赛项目，下列关于冰壶运动的说法正确的是（　　）



A．冰壶在水平冰面上运动的过程中，所受重力没有做功

B．冰壶比赛中运动员穿的两只鞋的鞋底材质不同，蹬冰脚的鞋底是塑料制成的，而滑行脚的鞋底是橡胶制成的

C．冰壶离开运动员的手后继续运动过程中所受的推力和摩擦力是一对平衡力

D．冰壶离开运动员的手后仍能继续运动是因为受到惯性的作用

8、如图所示，物体 A、B 的重分别为30N 、 20N，每个滑轮重10N，绳重及摩擦均忽略不计。此时物体 A 沿水平桌面向右做匀速直线运动。下列说法正确的是（　　）

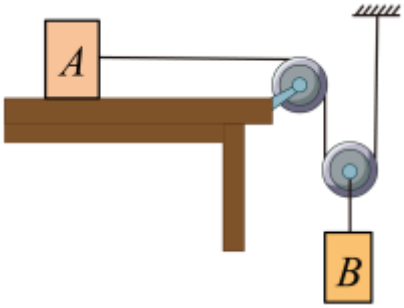

A．两个滑轮均为定滑轮　　B．A 受到水平向右的摩擦力

C．A 受的摩擦力大小为15N　　D．A 移动的速度是 B 的0.5倍

9、如图所示，不计质量的硬杆处于水平静止状态，以下说法正确的是（　　）

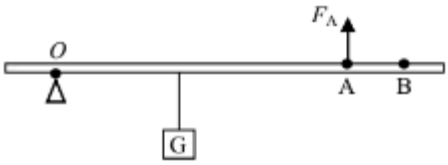

A．硬杆始终保持水平静止状态，改变 F_A 的方向，F_A 有可能等于 G

B．硬杆始终保持水平静止状态，改变 F_A 的方向，F_A 的大小有可能不变

C．撤去 F_A 硬杆会因为受到物体的重力 G 而绕 O 点顺时针转动起来

D．撤去 F_A 同时在 B 点施加一个大小与 F_A 相同的力，硬杆不可能保持水平静止

10、如图 1 所示，从 P 点发出的三条特殊光线经过凸透镜后会聚于 P’点。现有一条光线也从 P 点发出，经过凸透镜后的传播路径，在图 2 的四种表示中，正确的是（　　）

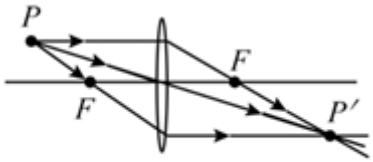

图1

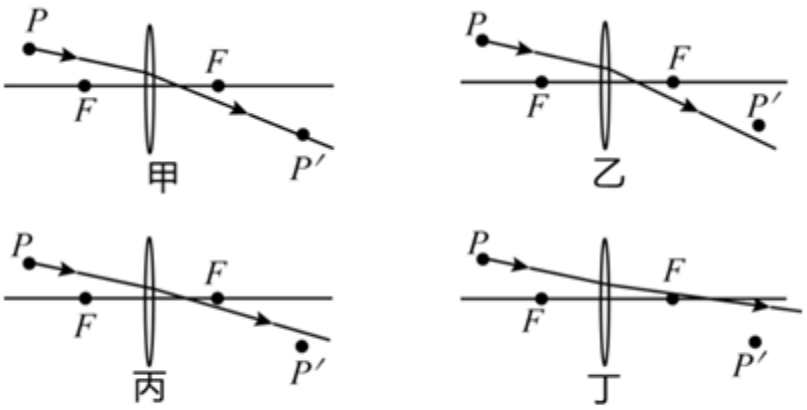

图2

A．甲　　B．乙　　C．丙　　D．丁

第Ⅱ卷（非选择题　80 分）

二、填空题（10 小题，每小题 3 分，共计 30 分）

1、请用简洁的词语写出在以下安全提示中的相关物理知识。

（1）车未停稳，请勿下车。_____

（2）在火车站台上候车的人必须站在安全线以外。_____

（3）大型的载重卡车安装多个轮子。_____

2、用焦距为 10cm 的凸透镜探究成像规律，如图所示，烛焰在光屏上成清晰的像，则光屏到凸透镜的距离可能是_____cm（选填“8”、“18”或“28”）；把近视镜片放在蜡烛和凸透镜之间，应将光屏向_____（选填“左”或“右”）调节，才能在光屏上重新成清晰的像。



3、重型载重汽车装有多个车轮，是为了_____(选填“增大”或“减小”）对路面的压强；行驶的汽车急刹车时，司机身体会前倾，是由于他 具有_____。

4、小黄用图所示的滑轮组经过 10s 的时间，用 150N 的拉力将一个重 270N 的重物提高 1m，求此过程：拉力 F 自由端拉出的距离是_____m；小黄所做的有用功是_____J；总功是_____J；拉力做功的功率是_____W。



5、小明用 30N 的水平推力，使重 80N 的木箱在水平面上匀速移动了 5m，用了 10s 的时间，则此过程中木箱重力做的功为_____J，推力做功的功率为_____W。

6、如图所示为探究杠杆平衡条件的实验装置，若每个钩码的质量为 50g，为了让杠杆在水平位置恢复平衡，应在 A 点挂的钩码个数是_____个；如图所示是赛艇比赛的场景，赛艇的桨可看成一个杠杆，赛艇的桨属于_____杠杆。

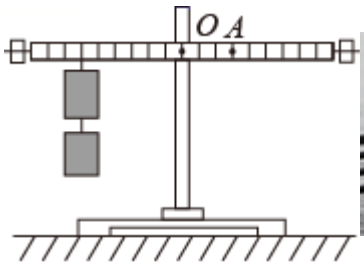



7、轻质木杆 AB 可以绕 O 点转动，OA∶OB＝3∶1，A 端细线下挂 300N 的重物静止在水平地面上，若使木杆保持水平位置，且重物对水平地面的压力为零，在 B 点要用_____N 的力竖直向下拉。此木杆为_____（填“省力”或“费力”或“等臂”）杠杆。

8、在探究“影响浮力大小的因素”时，同学们做了如图所示的一系列实验．请你根据图中弹簧测力计的示数等信息回答下列问题：

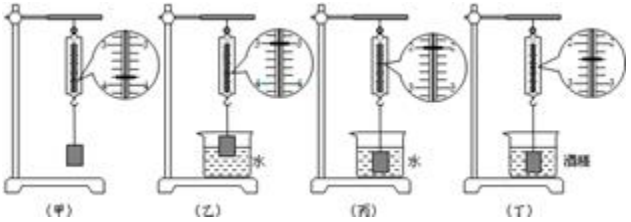

（1）物体全部浸入水中受到的浮力大小是_____N；

（2）根据图甲、丙、丁实验可得出浮力的大小与_____有关；

（3）根据图_____实验可得出浮力的大小与排开液体体积有关；

（4）如果水的密度为已知量，g 取 10N/kg．请你根据图中的信息写出可以求出的三个物理量：①_____；②_____；③_____．（提示：浮力质量体积）

9、某个实验小组的同学设计了一个测量滑动摩擦的实验。如图所示，把弹簧测力计的一端固定在墙上，另一端与一物块 P 相连，用力 F 水平向左拉物块下面的金属板，金属板向左运动，此时测力计的示数稳定（图中已把弹簧测力计的示数放大画出），若用弹簧测力计测得物块 P 重 13N，则物块 P 受到金属板的滑动摩擦力的大小是_____N；摩擦力方向_____。

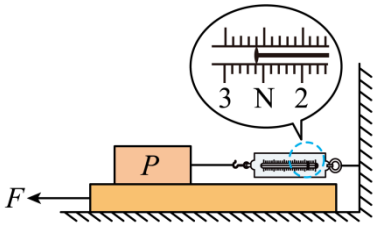

10、如图所示，用滑轮组提升重为 200N 的物体。动滑轮重为 40N ，不计滑轮与轴之间的摩擦及绳重。若在 5s 内将物体匀速提升 2m ，拉力的功率为_____ W 。滑轮组的机械效率为_____ % ；若匀速提升重为 100N 的物体，则这个滑轮组的机械效率将_____（选填增大/减小/不变）。



三、计算题（3 小题，每小题 10 分，共计 30 分）

1、如图所示，滑轮组在竖直向上的拉力 F=50N 作用下，将重为 120N 的物体匀速提起，在 10s 内绳子自由端移动的距离为 s=3m，不计绳重和摩擦阻力。求：

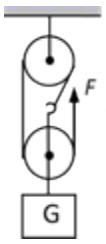

（1）物体上升的速度；

（2）动滑轮的重；

（3）滑轮组的机械效率。

2、如图所示在一个重 2N，底面积为 0.01m² 的容器里装 8N 的水，容器中水的深度为 0.05m。把它放在水平桌面上（g＝10N/kg）。求：

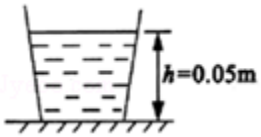

（1）水对容器底的压强；

（2）水对容器底的压力。

3、甲、乙为两个质量分布均匀的实心圆柱体，放置在水平桌面上。分别沿水平方向切去上部分，剩余部分对桌面的压强 p 与切去部分高度 h 的关系如图所示，已知甲的密度为 4×10^3kg/m³。（g 取 10N/kg）求：

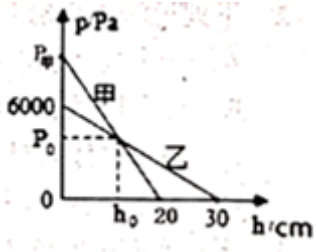

（1）图像中 $p_{甲}$ 对应的压强值是多少 Pa?

（2）圆柱体乙的密度为多少 kg/m³?

（3）当切去部分高度为 h_0 时，圆柱体甲、乙剩余部分对桌面的压强均为 p_0，p_0 的值为多少 Pa?

四、实验探究（2 小题，每小题 10 分，共计 20 分）

1、利用如图所示器材“探究二力平衡的条件”：

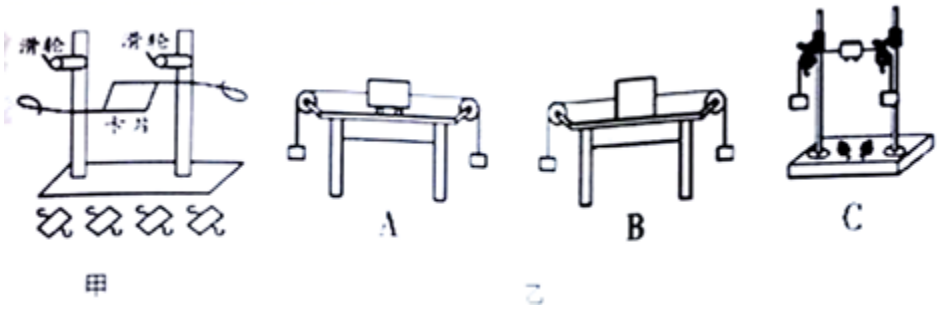

（1）实验中选择轻质卡片的目的是_____；

（2）将卡片上的两根线跨放在支架的滑轮上，并在两个线端分别挂上钩码，使作用在卡片上的两个拉力方向相反，且在同一条直线上。当卡片平衡时，从钩码质量上看，卡片两边所受的拉力_____（选填“相等”或“不相等”）；

（3）为观察不在同一直线上的两个力是否能平衡，可用手将卡片_____。释放时观察到_____现象，则说明两个力必须作用在同一直线；

（4）如图乙所示是小明同学为了探究二力平衡条件不断改进并先后设计的三个实验方案，请你判断出他们改进的先后顺序：_____（用字母表达）；

（5）图 B 中，右端钩码 G_1，左端钩码为 G_2，当物体静止时_____。

A．$G_1<G_2$　　B．$G_1>G_2$　　C．$G_1=G_2$　　D．都有可能

2、小明用焦距为 10cm 的凸透镜探究凸透镜成像的规律。

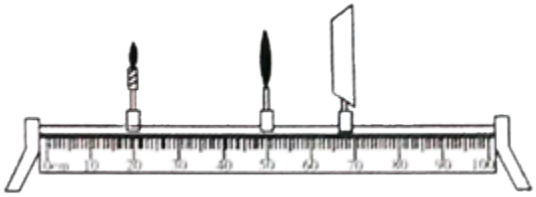

（1）他正确操作，当蜡烛、凸透镜和光屏的位置如图所示时，光屏上得到了烛焰清晰、完整的像，

该像是倒立_____（选填“放大”或“缩小”）的实像，生活中_____就是利用这个原理工作的。

以上内容仅为本文档的试下载部分，为可阅读页数的一半内容。如要下载或阅读全文，请访问：https://d.book118.com/517152036126010015