江苏南通市田家炳中学数学七年级上册整式的加减专题测试

考试时间：90 分钟；命题人：教研组

考生注意：

1、本卷分第 I 卷（选择题）和第 II 卷（非选择题）两部分，满分 100 分，考试时间 90 分钟

2、答卷前，考生务必用 0.5 毫米黑色签字笔将自己的姓名、班级填写在试卷规定位置上

3、答案必须写在试卷各个题目指定区域内相应的位置，如需改动，先划掉原来的答案，然后再写上新的答案；不准使用涂改液、胶带纸、修正带，不按以上要求作答的答案无效。

第 I 卷（选择题　20 分）

一、单选题（10 小题，每小题 2 分，共计 20 分）

1、代数式a^2+b^2的意义是（ ）.

A．a的平方与b的和　　B．a与b的平方的和

C．a与b两数的平方和　　D．a与b的和的平方

2、把黑色三角形按如图所示的规律拼图案，其中第①个图案中有 1 个黑色三角形，第②个图案中有 3 个黑色三角形，第③个图案中有 6 个黑色三角形，…，按此规律排列下去，则第⑤个图案中黑色三角形的个数为（　　）



A．10　　B．15　　C．18　　D．21

3、关于多项式$-2x^2y+3xy-1$，下列说法正确的是（　　）.

A．次数是 3　　B．常数项是 1　　C．次数是 5　　D．三次项是$2x^2y$

4、小文在做多项式减法运算时，将减去$2a^2+3a-5$误认为是加上$2a^2+3a-5$，求得的答案是a^2+a-4

（其他运算无误），那么正确的结果是（　　）

A．$-a^2-2a+1$　　B．$-3a^2+a-4$

C．a^2+a-4　　D．$-3a^2-5a+6$

5、下列图形都是由同样大小的实心圆点按一定规律组成的，其中第①个图形一共有 5 个实心圆点，第②个图形一共有 8 个实心圆点，第③个图形一共有 11 个实心圆点，…，按此规律排列下去，第⑥个图形中实心圆点的个数为（　　）

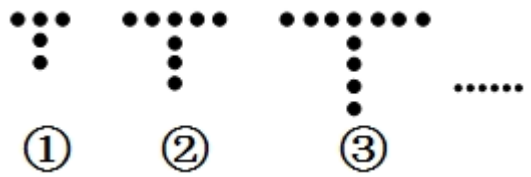

A．18　　B．19　　C．20　　D．21

6、某商品打七折后价格为 a 元，则原价为（　　）

A．a 元　　B．$\frac{10}{7}$a 元　　C．30%a 元　　D．$\frac{7}{10}$a 元

7、观察下列等式：$7^1=7$，$7^2=49$，$7^3=343$，$7^4=2401$，$7^5=16807$，$7^6=117649$…，根据其中的规律可得 $7^1+7^2+\cdots+7^{2020}$ 的结果的个位数字是（　　）

A．0　　B．1　　C．7　　D．8

8、如果$a=\frac{1}{4},b=-5,c=-2\frac{3}{4}$，那么$|a+b|-|c|$等于（　　）.

A．-2　　B．$7\frac{1}{2}$　　C．2　　D．$-7\frac{1}{2}$

9、已知一个多项式与$3x^2+9x$的和等于$5x^2+4x-1$，则这个多项式是（　　）

A．$8x^2+13x-1$　　B．$-2x^2+5x+1$　　C．$8x^2-5x+1$　　D．$2x^2-5x-1$

10、化简$-\{+[a-(b+c)]\}$的结果是（　　）

A．$a-b-c$　　B．$-a+b+c$　　C．$-a-b-c$　　D．$a+b+c$

第Ⅱ卷（非选择题　80 分）

二、填空题（10 小题，每小题 3 分，共计 30 分）

1、某书店新进了一批图书，甲、乙两种书的进价分别为 4 元/本、5 元/本．现购进 m 本甲种书和 n 本乙种书，共付款 Q 元．

（1）用含 m，n 的代数式表示 $Q=$_____；

（2）若共购进 5×10^3 本甲种书及 3×10^3 本乙种书，$Q=$_____（用科学记数法表示）．

2、关于 x 的多项式 $(a+2)x^3-3x^b+5$ 的次数是 2，那么 $a=$_____，$b=$_____．

3、若 $x^2-3x=-3$，则 $3x^2-9x+7$ 的值是 _____．

4、如图，用大小相同的小正方形拼大正方形，拼第 1 个正方形需要 4 个小正方形，拼第 2 个正方形需要 9 个小正方形……，按这样的方法拼成的第 $(n+1)$ 个正方形比第 n 个正方形多_____个小正方形．

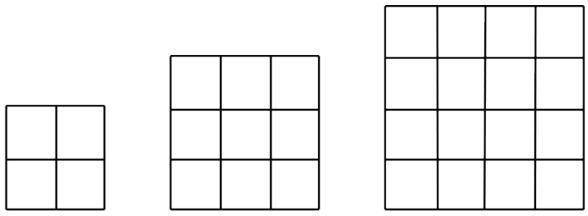

第1个正方形　第2个正方形　第3个正方形

5、某市出租车收费标准为：起步价为 8 元，3 千米后每千米的价格为 2.5 元，在计价器最终所显示数字的基础上再加 b 元燃油附加费，小赵乘坐出租车走了 x 千米 $(x>3)$，则小赵应该共付车费_____元（用含 x 和 b 的代数式表示）．

6、$\left(2x^2-\frac{2}{3}x+1\right)-$_____$=3x^2-2x+5$．

7、如图，点 A，B 在数轴上，点 O 为原点，$OA=OB$．在数轴上截取 $BC=AB$，点 A 表示的数是 m，则点 C 表示的数是_____（用含字母 m 的代数式表示）．

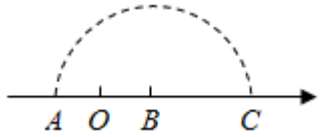

8、观察下列图中所示的一系列图形，它们是按一定规律排列的，依照此规律，第 2018 个图形中共有_____个○．



9、某商品原价为 a 元，如果按原价的八折销售，那么售价是_____元.（用含字母 a 的代数式表示）.

10、 “勾股树”是以正方形一边为斜边向外作直角三角形，再以该直角三角形的两直角边分别向外作正方形，重复这一过程所画出来的图形，因为重复数次后的形状好似一棵树而得名．假设如图分别是第一代勾股树、第二代勾股树、第三代勾股树，按照勾股树的作图原理作图，则第六代勾股树中正方形的个数为_____.

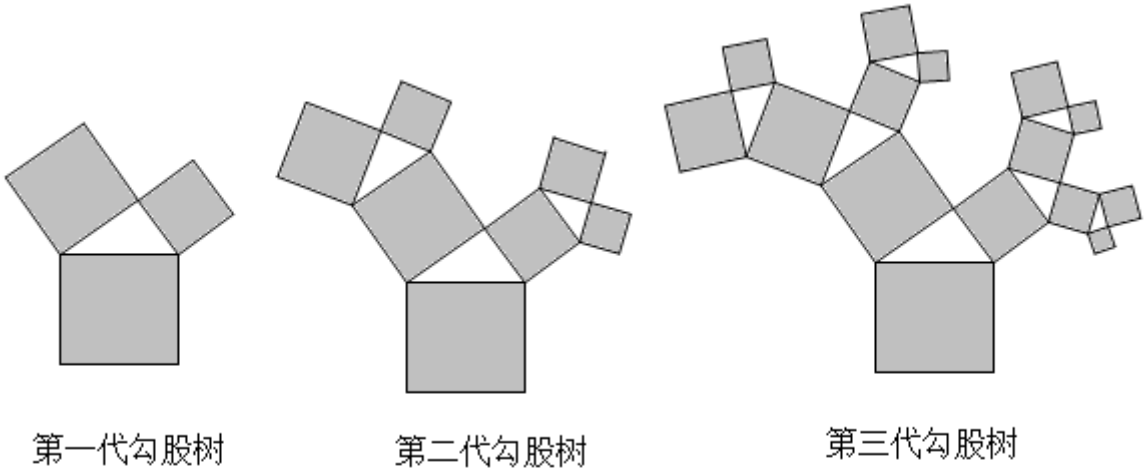

三、解答题（5 小题，每小题 10 分，共计 50 分）

1、2022 年北京冬奥会开幕式主火炬台由 96 块小雪花形态和 6 块橄榄枝构成的巨型“雪花”形态，在数学上，我们可以通过“分形”近似地得到雪花的形状．操作：将一个边长为 1 的等边三角形（如图①）的每一边三等分，以居中那条线段为底边向外作等边三角形，并去掉所作的等边三角形的一条边，得到一个六角星（如图②，称为第一次分形．接着对每个等边三角形凸出的部分继续上述过程，即在每条边三等分后的中段向外画等边三角形，得到一个新的图形（如图③），称为第二次分形．不断重复这样的过程，就得到了“科赫雪花曲线”.

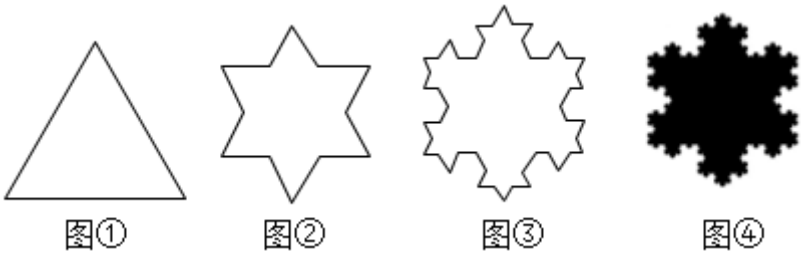

(1)【规律总结】每一次分形后，得到的“雪花曲线”的边数是前一个“雪花曲线”边数的_____倍；每一次分形后，三角形的边长都变为原来的_____倍；

(2)【问题解决】试猜想第 n 次分形后所得图形的边数是_____；周长为_____（用含 n 的代数式表示）

2、将一根长为 $9a+6b-1$ 的铁丝，剪掉一部分后，剩下部分围成一个长方形（接头部分忽略不计）．这个长方形的长为 $2a+b$，宽为 $a+b$．

（1）求剪掉部分的铁丝长度；

（2）若围成的长方形的周长 50，求剪掉部分的铁丝长度．

3、如图图案是用长度相同的火柴棒按一定规律拼搭而成，图案需 8 根火柴棒，图案②需 15 根火柴棒，图案②需 15 根火柴棒，…

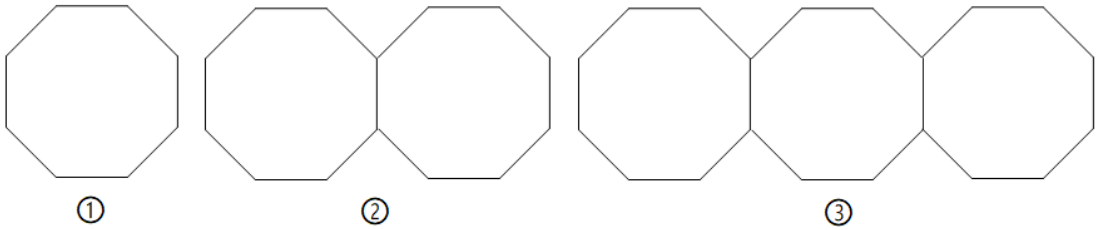

(1)按此规律，图案⑦需_____根火柴棒；

(2)用含 n 的代数式表示第 n 个图案需根火柴棒根数．

4、若 $(x^2+px+q)(x^2-2x-3)$ 展开后不含 x^2、x^3 项，求 pq 的值．

5、观察下面依次排列的各数，按照规律写出后面的数及其他要求的数．

1，$\frac{1}{2}$，$-\frac{1}{3}$，$-\frac{1}{4}$，$\frac{1}{5}$，$\frac{1}{6}$，$-\frac{1}{7}$，$-\frac{1}{8}$，_____，_____，…第 2019 个数是_____．

-参考答案-

一、单选题

1、C

【解析】

【分析】

说出代数式的意义，实际上就是把代数式用语言叙述出来。叙述时，要求既要表明运算的顺序，又要说出运算的最终结果.

【详解】

代数式a^2+b^2的意义是 a 与 b 两数的平方的和.

故选：C.

【考点】

此题考查了代数式的意义，用语言表达代数式的意义，一定要理清代数式中含有的各种运算及其顺序.

2、B

【解析】

【分析】

根据前三个图案中黑色三角形的个数得出第 n 个图案中黑色三角形的个数为 1+2+3+4+……+n，据此可得第⑤个图案中黑色三角形的个数.

【详解】

解：∵第①个图案中黑色三角形的个数为 1，

第②个图案中黑色三角形的个数 3＝1+2，

第③个图案中黑色三角形的个数 6＝1+2+3，

……

∴第⑤个图案中黑色三角形的个数为1+2+3+4+5＝15，

故选：*B*.

【考点】

本题主要考查图形的变化规律，解题的关键是根据已知图形得出规律：第 n 个图案中黑色三角形的个数为1+2+3+4+……+n.

3、A

【解析】

【分析】

根据多项式的项、次数等相关概念并结合多项式$-2x^2y+3xy-1$进行分析，再分别判断即可.

【详解】

解：多项式$-2x^2y+3xy-1$，次数是3，常数项是-1，三次项是$-2x^2y$，所以四个选项中只有A正确；

故答案为：A.

【考点】

本题考查了多项式的项的系数和次数定义的掌握情况．解题的关键是弄清多项式次数、常数项的定义.

4、D

【解析】

【分析】

根据加减互逆运算关系得出这个多项式为：$\left(a^2+a-4\right)-\left(2a^2+3a-5\right)$，去括号，合并同类项可得该多项式为：$-a^2-2a+1$，再根据题意列出$\left(-a^2-2a+1\right)-\left(2a^2+3a-5\right)$进一步求解即可

【详解】

根据题意，这个多项式为：

$\left(a^2+a-4\right)-\left(2a^2+3a-5\right)$，

$=a^2+a-4-2a^2-3a+5$
$=-a^2-2a+1$，

则正确的结果为：

$\left(-a^2-2a+1\right)-\left(2a^2+3a-5\right)$，

$=-a^2-2a+1-2a^2-3a+5$ ，

$=-3a^2-5a+6$ ，

故选：D.

【考点】

本题主要考查多项式的运算，解题关键是掌握整式的加减运算顺序和运算法则及加减互逆的运算关系.

5、C

【解析】

【分析】

根据已知图形中实心圆点的个数得出规律，即可得解.

【详解】

解：通过观察可得到

第①个图形中实心圆点的个数为：5=2×1+1+2，

第②个图形中实心圆点的个数为：8=2×2+2+2，

第③个图形中实心圆点的个数为：11=2×3+3+2，

……

∴第⑥个图形中实心圆点的个数为：2×6+6+2=20，

故选：C.

【考点】

本题考查探索与表达—图形变化类．关键是通过归纳与总结，得到其中的规律．

6、B

【解析】

【分析】

直接利用打折的意义表示出价格即可得出答案．

【详解】

设该商品原价为 x 元，

∵某商品打七折后价格为 a 元，

∴原价为：0.7x=a，

则 x=$\frac{10}{7}$a（元），

故选 B.

【考点】

本题考查了一元一次方程的应用，弄清题意，找准等量关系列出方程是解题的关键．

7、A

【解析】

【分析】

根据题意可知个位数字按照 7、9、3、1 每四个一循环，每四个数字的个位数所得和为 20，进而问题可求解．

【详解】

解：由 7^1＝7，7^2＝49，7^3＝343，7^4＝2401，7^5＝16807，7^6＝117649…，可知个位数字按照 7、9、3、1

每四个一循环，每四个数字的个位数所得和为 7+9+3+1=20，即和的个位数为 0，

以上内容仅为本文档的试下载部分，为可阅读页数的一半内容。如要下载或阅读全文，请访问：https://d.book118.com/545233032232012022