安徽无为县襄安中学物理八年级下册期末考试定向练习

考试时间：90 分钟；命题人：教研组

考生注意：

1、本卷分第 I 卷（选择题）和第 II 卷（非选择题）两部分，满分 100 分，考试时间 90 分钟

2、答卷前，考生务必用 0.5 毫米黑色签字笔将自己的姓名、班级填写在试卷规定位置上

3、答案必须写在试卷各个题目指定区域内相应的位置，如需改动，先划掉原来的答案，然后再写上新的答案；不准使用涂改液、胶带纸、修正带，不按以上要求作答的答案无效。

第 I 卷（选择题　20 分）

一、单选题（10 小题，每小题 2 分，共计 20 分）

1、两台机器同时做功，甲机器做的功是乙机器做的功的$\frac{2}{3}$，甲做功所用的时间与乙做功所用时间的比值是 4：3，则甲、乙两台机器的功率之比是(　　)

A．2：1　　B．1：2　　C．8：9　　D．9：8

2、根据实验事实和合理理的理论推理来揭示自然规律是科学研究的重要方法．如图所示,从斜面上同一高度释放一个小车,观察小车在水平面上的运动情况,并做出合理的推理,小明同学给出了如下的一些表述:

① 在木板表面的水平面上,小车运动路程较长

② 如果在没有摩擦的水乎面上,小车将做匀速直线运动

③ 如果在较光滑的水平面上,小车运动路程很长

④ 在铺有棉布的水平面上,小车运动路程较短

⑤ 在铺有毛巾的水平面上,小车运动路程很短

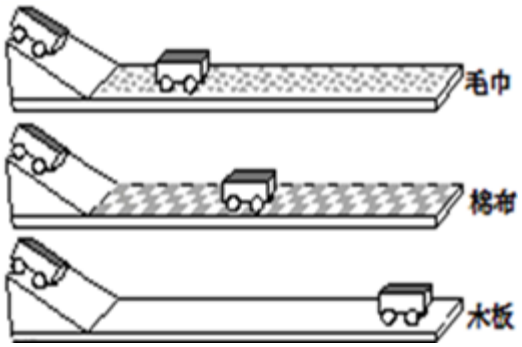

为揭示小车以一定的速度在水平面滑行的规律,下面的判断和排列次序正确的是_____

A．事实①④⑤,推论②③　　B．事实⑤④①,推论③②

C．事实①②3③,推论④⑤　　D．事实①③②,推论⑤④

3、如图所示，物体 A 重 120N，在重力为 G_B 的物体 B 的作用下在水平桌面上做匀速直线运动，A 与桌面之间的摩擦力为 f．如果在 A 上加一个水平向左大小为 180N 的拉力 F（注：图中未画出），当物体 B 匀速上升时（不计摩擦、绳重及滑轮重），则下列选项正确的是（　　）

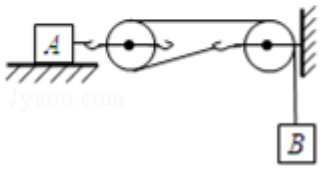

A．G_B＝30N　　B．G_B＝90N　　C．f＝90N　　D．f＝180N

4、如图所示，滑轮组的每个滑轮质量相同，用它们将重为 G_1、G_2 的货物提高相同的高度(不计绳重和摩擦)，下列说法正确的是(　　)

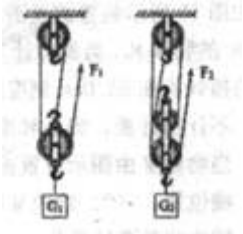

A．用同一个滑轮组提起不同的重物，机械效率不变

B．若 $G_1=G_2$，则甲的机械效率大于乙的机械效率

C．若 $G_1=G_2$，则拉力 F_1 与 F_2 所做的总功相等

D．若 $G_1=G_2$，则甲、乙滑轮组所做的额外功相等

5、图中的两个容器中盛有同种相同质量的液体，容器底部受到液体的压强分别为 P_A、P_B，容器底部受到液体的压力分别为 F_A、F_B，则（　　）

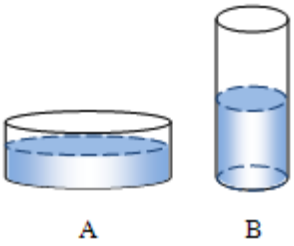

A．$P_A=P_B$　　B．$P_A>P_B$　　C．$F_A=F_B$　　D．$F_A>F_B$

6、如图所示是体积相同的甲、乙、丙三个物体浸没在水中的浮沉情况，下列说法正确的是（　　）

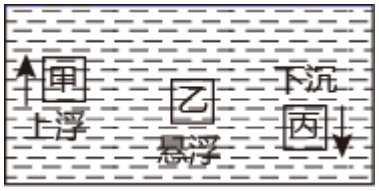

A．甲物体所受浮力最大，丙物体所受浮力最小

B．甲物体最终会漂浮，漂浮时的浮力比上浮时的浮力大

C．将乙物体下移一些，静止后它会继续悬浮

D．丙物体最终会沉底，沉底后所受的浮力会减小

7、下列关于简单机械说法正确的是（　　）

A．功率越大的机械做功越快

B．定滑轮不仅能改变力的大小而且能改变力的方向

C．使用滑轮组不仅省力而且省功

D．做功越多的机械其机械效率越高

8、如图所示，利用斜面提升重物时，能够提高斜面机械效率的是（　　）



A．斜面不变，增大物体的质量　　B．减小物体与斜面间的粗糙程度

C．斜面倾角不变，增大斜面高度　　D．斜面倾角不变，增大斜面长度

9、测量油的密度的简单方法是：在玻璃水槽里注入 30 厘米深的清水，拿一支 25 厘米长的两端开口的玻璃管竖直地插入水中，再沿管内壁缓缓地注入植物油，直到玻璃管内植物油液柱的下底面刚好下降到管口为止，这时用刻度尺测出的深度如图所示，则植物油的密度为（　　）

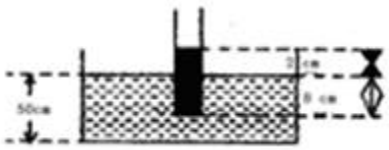

A．0.25×10^{3} 千克/米 ^{3}　　B．0.33×10^{3}千克 / 米 ^{3}

C．0.8×10^{3}千克/米 ^{3}　　D．0.5×10^{3}千克 / 米 ^{3}

10、起重机吊着重 2×10^{4}N 的物体，以 0.5m/s 的速度在空中匀速直线上升。若不计空气的阻力，则起重机钢丝绳对物体的拉力 F 的大小是（　　）

A．F＞2×10^{4}N　　B．F＜2×10^{4}N　　C．F＝2×10^{4}N　　D．F≥2×10^{4}N

第Ⅱ卷（非选择题　80 分）

二、填空题（10 小题，每小题 3 分，共计 30 分）

1、在探究“影响浮力大小的因素”时，同学们做了如图所示的一系列实验．请你根据图中弹簧测力计的示数等信息回答下列问题：

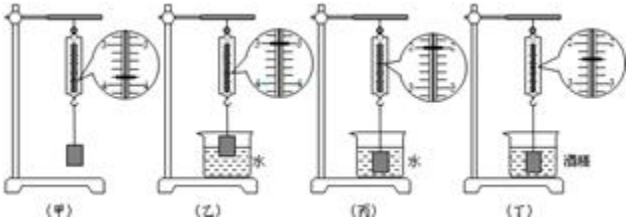

（1）物体全部浸入水中受到的浮力大小是_____N；

（2）根据图甲、丙、丁实验可得出浮力的大小与_____有关；

（3）根据图_____实验可得出浮力的大小与排开液体体积有关；

（4）如果水的密度为已知量，g 取 10N/kg．请你根据图中的信息写出可以求出的三个物理量：①_____；②_____；③_____.（提示：浮力质量体积）

2、体育课上，小朱同学在 20s 内能做 16 个引体向上。已知小朱同学重 500N，他每次重心平均升高 0.5m，则小朱同学做引体向上时的平均功率是_____W。

3、如图 的运输液体货物的槽车，液体上有气泡，当车向右开动时，气泡将向_____运动；刹车，气泡将向_____运动，其原因是_____具有惯性。

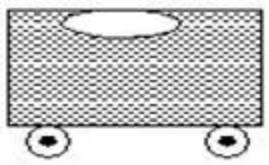

4、物体在 30N 的水平拉力作用下在水平地面上向右做匀速直线运动。当拉力变为 10N 时，物体将向右做_____（选填“加速”或“减速”）运动，此时物体受到的摩擦力为_____N。

5、某小组同学在“探究凸透镜成像的规律”实验中，为了研究物距变化时，像距变化的情况，他们在光具座上固定焦距为 10 厘米的凸透镜，按表中的物距 u 依次进行实验，每次都使光屏上烛焰的像最清晰，并将相应的像距 v 记录在表一中。为了进一步探究像距 v 变化与物距 u 变化之间的关系，他们分别对实验序号前四次和后四次实验进行适量的运算，并将结果分别记录在表二中。

表一：f=10 厘米

实验序号	u（厘米）	v（厘米）
1	12.0	60.0

2	14.0	35.0

3	16.0	26.7
4	18.0	22.5
5	22.0	18.3
6	24.0	17.2
7	26.0	16.3
8	28.0	15.6

表二：f=10 厘米

序号	u_2-u_1 （厘米）	v_2-v_1 （厘米）
1	2.0	25.0
2	2.0	8.3
3	2.0	4.2
4	2.0	1.1
5	2.0	0.9
6	2.0	0.7

①分析比较表一中实验序号 1 与 2 与 3 与 4 数据中的物距 u、像距 v 与焦距 f、二倍焦距 2f 大小关系及相关条件,可得出的初步结论是:同一凸透镜，当物距大于一倍焦距小于二倍焦距时，_____。

②分析比较表一中实验序号_____数据中的物距 u、像距 v 与焦距 f、二倍焦距 2f 大小关系及相关条件，可得出的初步结论是:同一凸透镜，当物距大于二倍焦距时，像距大于一倍焦距小于二倍焦距。

③请进一步综合分析比较表一和经运算后得到表二中的数据，物距 u 变化时,像距 v 的变化情况及相关条件，并归纳得出结论。

（a）分析比较表二中序号 1 与 2 与 3,可以初步得出:同一凸透镜，当物距大于一倍焦距小于二倍焦距时，_____。

（b）分析比较表二中序号 4 与 5 与 6,可以初步得出:同一凸透镜，当物距大于二倍焦距时，_____。

6、用细线拴住一块棱长为 10cm 的正方体实心铝块浸没在水中保持静止，铝块未与容器接触，铝块所受浮力大小为_____N，细线对铝块的拉力是_____N.(铝的密度为 $2.7\times10^3\mathrm{kg/m^3}$ ，g 取 $10\mathrm{N/kg}$)

7、如图所示，玻璃瓶中装入适量带色的水，从玻璃管吹入少量空气，使管中水面高于瓶口。将此装置由一楼拿到十楼，发现玻璃管中的液柱_____，说明大气压随高度的增加而_____；随着大气压的减小，水的沸点_____。



8、如图所示，拨动左边的弹性片，它能将右边的塑料片弹走，塑料片上的小钢球_____（填“会”或“不会”）随塑料片一起飞走，这是由于小钢球具有_____的缘故。



9、我国测得珠穆朗玛峰的最新高度为 8848.86 米。珠峰顶的大气压远远_____（选填“大于”或“小于”）山脚处的气压，在峰顶如果用常规锅烧水，水的沸点会_____（选填“高”或“低”）于 100℃。

10、如图为托里拆利实验，可知当地的大气压相当于_____mmHg 柱产生的压强；若竖直提升玻璃管，管口未离开水银面，则水银面上方的水银柱高度_____（选填“升高”、“降低”或″不变″）；标准大气压相当于 760mmHg 柱产生的压强，在图大气压下，水的沸点_____100° C（选填“大于”、“小于″或“等于”）.

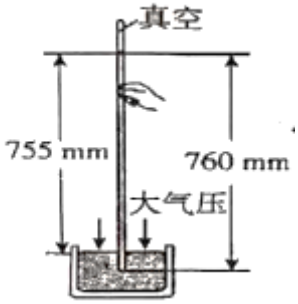

三、计算题（3 小题，每小题 10 分，共计 30 分）

1、如图所示，提篮及物体总重为 1140N，其中物体重为 1020N，提篮与水平地面的接触面积为 1. 5m²，工人师傅用 600N 的力匀速提升物体，物体上升的速度为 0. 2m/s.（不计绳重及摩擦）

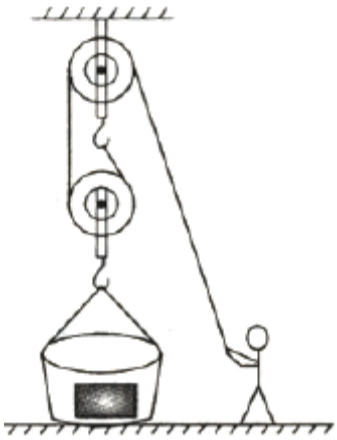

（1）工人师傅拉绳的功率；

（2）滑轮组提升重物的机械效率；

（3）体重为 450N 的小明站在提篮内利用此滑轮组提升该重物，但物体没有被提动，求提篮对地面的最小压强.

2、防疫期间，小慧的爸爸驾驶一辆东风牌的厢式货车，为社区运送物资，如图所示，当该车满载货物时总质量为$4\times10^3\text{kg}$，该车在平直公路上由东向西行驶，汽车的牵引力为$5\times10^3\text{N}$，在此过程中汽车受到的阻力为汽车总重力的 0.1 倍（g=10N/kg），求



（1）该车满载货物时受到的重力是多少？

（2）该车行驶过程中受到的阻力是多少？

（3）汽车沿水平方向行驶时受到的合力是多少？方向如何？

3、近年来随着“低碳出行”的理念深入人心，不少市民选择骑“共享单车”出行。质量约为 50kg 的中学生张明从家里去图书馆选择了一辆摩拜单车水平匀速骑行，如表是这辆摩拜单车的部分参数。（g 取 10N/kg） 求：

车架材料	航天级钪合金
车架材料体积/cm^3	2500
整车质量/kg	25

（1）这辆摩拜单车整车的重力为多少？

（2）张明家距图书馆 3km，他骑摩拜单车从家到图书馆耗时 10min，若已知摩拜单车在该路段受到的阻力为摩拜单车和人的总重力的 0.03 倍，那么他在这段路程中的骑行速度和动力的功率分别为多少？

四、实验探究（2 小题，每小题 10 分，共计 20 分）

1、在探究“杠杆的平衡条件”实验中，所用的实验器材有：杠杆（杠杆上每小格长为 2cm）、支架、弹簧测力计、刻度尺、细线和质量相同的钩码若干个.

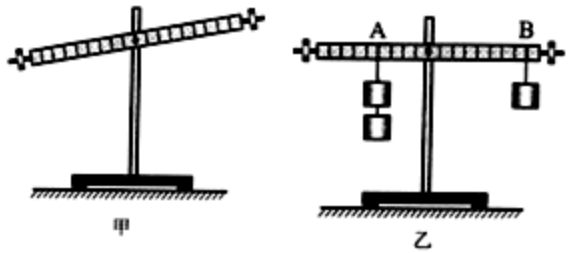

（1）实验时，杠杆静止在如图甲所示的位置，此时杠杆处于_____（选填“平衡”或“不平衡”）状态。

（2）为使杠杆在水平位置平衡，应将图甲杠杆左端的平衡螺母适当往_____（选填“左”或“右”）调．杠杆在水平位置平衡后，小明在杠杆 A 点处挂上 2 个钩码，B 点处挂上 1 个钩码，如图乙

所示，分别测量出两个力的力臂 L_1 和 L_2，计算后发现：$F_1L_1=F_2L_2$

以上内容仅为本文档的试下载部分，为可阅读页数的一半内容。如要下载或阅读全文，请访问：https://d.book118.com/565311040234012022