黑龙江七台河勃利县数学七年级上册整式的加减达标测试

考试时间：90 分钟；命题人：教研组

考生注意：

1、本卷分第 I 卷（选择题）和第 II 卷（非选择题）两部分，满分 100 分，考试时间 90 分钟

2、答卷前，考生务必用 0.5 毫米黑色签字笔将自己的姓名、班级填写在试卷规定位置上

3、答案必须写在试卷各个题目指定区域内相应的位置，如需改动，先划掉原来的答案，然后再写上新的答案；不准使用涂改液、胶带纸、修正带，不按以上要求作答的答案无效。

第 I 卷（选择题　20 分）

一、单选题（10 小题，每小题 2 分，共计 20 分）

1、下列说法正确的是（　　）

A．$-3ab^2$ 的系数是－3　　B．$4a^3b$ 的次数是 3

C．$2a+b-1$ 的各项分别为 $2a$，b，1　　D．多项式 x^2-1 是二次三项式

2、下列不能用 $4m$ 表示的是（　　）

A．葡萄的价格是 4 元/千克，买 $m$kg 葡萄的价钱

B．一个正方形的边长是 m，这个正方形的周长

C．甲平均每小时加工 m 个零件，4h 后共加工的零件个数

D．若 4 和 m 分别表示一个两位数中的十位数字和个位数字，表示这个两位数

3、黑板上有一道题，是一个多项式减去 $3x^2-5x+1$，某同学由于大意，将减号抄成加号，得出结果是 $5x^2+3x-7$，这道题的正确结果是（　　）.

A．$8x^2-2x-6$　　B．$14x^2-12x-5$　　C．$2x^2+8x-8$　　D．$-x^2+13x-9$

4、计算 $-m^2+4m^2$ 的结果为（　　）

A．$3m^2$　　B．$-3m^2$　　C．$5m^2$　　D．$-5m^2$

5、如图，填在下面各正方形中的四个数之间都有相同的规律，根据这种规律，m的值应是（　　）

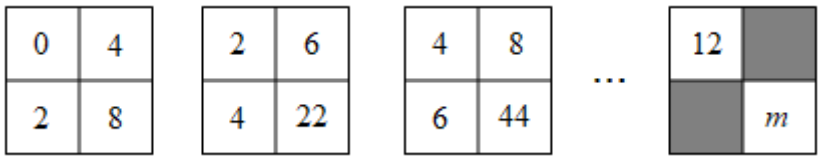

A．110　　B．168　　C．212　　D．222

6、下列说法中，正确的是（　　）

A．0不是单项式　　B．$\frac{\pi a}{2}$的系数是$\frac{1}{2}$

C．xyz^2的次数是4　　D．$2x^2-3x-1$的常数项是1

7、式子$x+yz$，$-2x$，ax^2+bx+c，0，$\frac{x^2y}{\pi-1}$，a，$\frac{b}{x}$中，下列结论正确的是（　　）

A．有4个单项式，2个多项式　　B．有3个单项式，3个多项式

C．有5个整式　　D．以上答案均不对

8、如果一个多项式的各项的次数都相同，那么这个多项式叫做齐次多项式．如$x^3+3xy^2+4xyz+2y^3$是3次齐次多项式，若$a^{x+3}b^2-6ab^3c^2$是齐次多项式，则x的值为（　　）

A．-1　　B．0　　C．1　　D．2

9、观察下面由正整数组成的数阵：

				1				
			2	3	4			
		5	6	7	8	9		
	10	11	12	13	14	15	16	
17	18	19	20	21	22	23	24	25
…	…	…	…	…	…	…	…	…

照此规律，按从上到下、从左到右的顺序，第51行的第1个数是（　　）

A．2500　　B．2501　　C．2601　　D．2602

10、下列式子中不是代数式的是（　　）

A．$3a+2b$　　B．$5+2$　　C．$a+b=1$　　D．$\dfrac{b}{a+1}$

第Ⅱ卷（非选择题　80 分）

二、填空题（10 小题，每小题 3 分，共计 30 分）

1、已知 $A=2x^2+ax-5y+1, B=x^2+3x-by-4$，且对于任意有理数 x,y，代数式 $A-2B$ 的值不变，则 $(a-\frac{1}{3}A)-(2b-\frac{2}{3}B)$ 的值是_____.

2、如图，点 A，B 在数轴上，点 O 为原点，$OA=OB$．在数轴上截取 $BC=AB$，点 A 表示的数是 m，则点 C 表示的数是_____（用含字母 m 的代数式表示）.

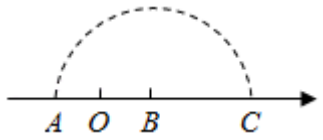

3、已知单项式 $2a^4b^{-2m+7}$ 与 $3a^{2m}b^{n+2}$ 是同类项，则 $m+n=$_____.

4、已知 $a-3b=3$，则 $6b+2(4-a)$ 的值是_____.

5、观察下列一系列数：

按照这种规律排下去，那么第 8 行从左边数第 14 个数是_____.

-1

2　-3　4

-5　6　-7　8　-9

10　-11　12　-13　14　-15　16

…

6、$\left(2x^2-\dfrac{2}{3}x+1\right)-$_____$=3x^2-2x+5$.

7、去括号并合并同类项：

（1）$3a+b+2(a-2b)=$_____；（2）$2(x-3)-(5x+2)=$_____；

（3）$a-5(a+b)+3(2a-b)=$_____；（4）$3x-(6a+x-2)+4a-1=$_____.

8、多项式$-1+2x-5x^2+9x^4$是按照字母 x 的_____排列的，多项式$9a^3b-5a^2b^2-\frac{1}{2}ab-4$是按照字母_____的_____排列的.

9、单项式$-\frac{x^2y^3z}{2}$的系数是_____，次数是_____.

10、已知关于 x，y 的多项式 xy -5x+mxy +y-1 不含二次项，则 m 的值为_____.

三、解答题（5 小题，每小题 10 分，共计 50 分）

1、单项式$-\frac{5}{8}a^2b^m$与$-\frac{11}{7}x^3y^4$，是次数相同的单项式，求m的值.

2、【观察思考】如图，五边形 *ABCDE* 内部有若干个点，用这些点以及五边形 *ABCDE* 的顶点 *ABCDE* 把原五边形分割成一些三角形（互相不重叠）.

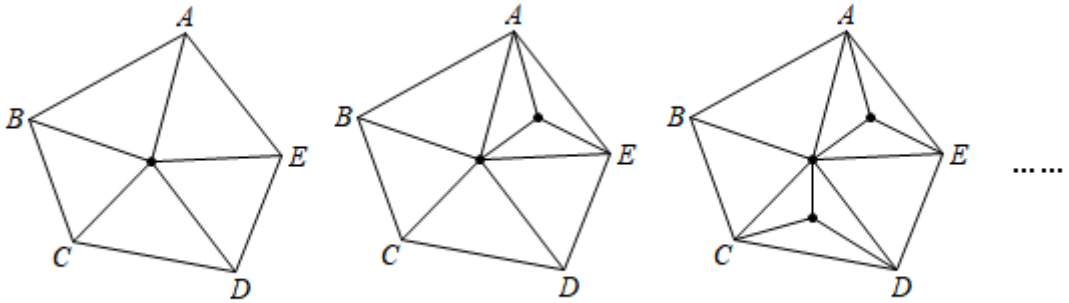

【规律总结】

(1)填写下表：

五边形 *ABCDE* 内点的个数	1	2	3	4	…	*n*
分割成的三角形的个数	5	7	9		…	

(2)【问题解决】原五边形能否被分割成 2022 个三角形？若能，求此时五边形 *ABCDE* 内部有多少个点；若不能，请说明理由.

3、如图，数轴上的三个点 A，B，C 分别表示实数 a，b，c.

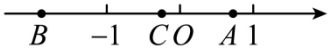

(1)如果点 C 是 AB 的中点，那么 a，b，c 之间的数量关系是_____；

(2)比较 $b-4$ 与 $c+1$ 的大小，并说明理由；

(3)化简：$-|a-2|+|b+1|+|c|$.

4、先化简再求值：$2\left(x^2+3y\right)-\left(2x^2+3y-x\right)$，其中 $x=1, y=-2$.

5、计算下式的值：$(2x^4-4x^3y-2x^2y^2)-(x^4-2x^2y^2+y^3)+(-x^4+4x^3y-y^3)$，其中 $x=\frac{1}{4}$，$y=-1$，甲同学把 $x=\frac{1}{4}$ 错抄成 $x=-\frac{1}{4}$，但他计算的结果也是正确的，你能说明其中的原因吗？

-参考答案-

一、单选题

1、A

【解析】

【分析】

根据单项式的次数、系数以及多项式的系数、次数的定义解决此题.

【详解】

解：A. 根据单项式的系数为数字因数，那么 $-3ab^2$ 的系数为 -3，故 A 符合题意.

B. 根据单项式的次数为所有字母的指数的和，那么 $4a^3b$ 的次数为 4，故 B 不符合题意.

C. 根据多项式的定义，$2a+b-1$ 的各项分别为 $2a$、b、-1，故 C 不符合题意.

D. x^2-1 包括 x^2、-1 这两项，次数分别为 2、0，那么 x^2-1 为二次两项式，故 D 不符合题意.

故选：A.

【考点】

本题主要考查单项式的系数，次数的定义以及多项式的项、项数以及次数的定义，熟练掌握单项式的系数，次数的定义以及多项式的项、项数以及次数的定义是解决本题的关键.

2、D

【解析】

【分析】

对选项逐个计算，查看是否为$4m$即可.

【详解】

解：A．m千克葡萄的价钱是$4m$，不合题意；

B．正方形的周长是$4m$，不合题意；

C．甲4h后共加工$4m$个零件，不合题意；

D．这个两位数是$4\times10+m$，也就是$40+m$，符合题意.

故选D.

【考点】

此题考查了根据题意列代数式，解题的关键是理解题意.

3、D

【解析】

【分析】

先利用加法的意义列式求解原来的多项式，再列式计算减法即可得到答案.

【详解】

解：$5x^2+3x-7-\left(3x^2-5x+1\right)$

$=5x^2+3x-7-3x^2+5x-1$

$=2x^2+8x-8$

所以的计算过程是：

$2x^2+8x-8-\left(3x^2-5x+1\right)$

$=2x^2+8x-8-3x^2+5x-1$

$=-x^2+13x-9$

故选：D.

【考点】

本题考查的是加法的意义，整式的加减运算，熟悉利用加法的意义列式，合并同类项的法则是解题的关键.

4、A

【解析】

【分析】

根据整式的加减可直接进行求解.

【详解】

解：$-m^2+4m^2=3m^2$；

故选 A.

【考点】

本题主要考查整式的加减运算，熟练掌握整式的加减运算是解题的关键.

5、C

【解析】

【分析】

观察不难发现，左上角、左下角、右上角为三个连续的偶数，右下角的数是左下角与右上角两个数的

乘积减去左上角的数的差，根据此规律先求出阴影部分的两个数，再列式进行计算即可得解.

【详解】

解：根据排列规律，12 下面的数是 14，12 右面的数是 16，

∵8＝2×4-0，22＝4×6-2，44＝6×8-4，

∴m＝16×14-12＝212，

故选：C.

【考点】

本题是对数字变化规律的考查，仔细观察前三个图形，找出四个数之间的变化规律是解题的关键.

6、C

【解析】

【分析】

根据单项式和多项式的定义选出正确选项.

【详解】

A 正确，一个数也是单项式；

B 错误，系数是$\frac{\pi}{2}$；

C 正确，次数是$1+1+2=4$；

D 错误，常数项是-1.

故选：C.

【考点】

本题考查单项式和多项式，解题的关键是掌握单项式的系数、次数的定义，多项式的常数项的定义.

7、A

【解析】

【分析】

数与字母的乘积形式是单项式，单独一个数或一个字母是单项式，几个单项式的和是多项式.

【详解】

解：$x+yz$是两个单项式的和，是多项式；$-2x$是单项式；ax^2+bx+c是3个单项式的和，是多项式：0，a是单项式；$\frac{x^2y}{\pi-1}$是单项式；$\frac{b}{x}$不是整式，综上所述，单项式共有4个，多项式共有2个，整式共有6个，

故选：A.

【考点】

本题考查多项式、单项式的定义，是基础考点，掌握相关知识是解题关键.

8、C

【解析】

【分析】

根据齐次多项式的定义列出关于x的方程，最后求出x的值即可.

【详解】

解：由题意,得 x+2+3=1+3+2

解得 x=1.

故选C.

【考点】

本题主要考查了学生的阅读能力与知识的迁移能力以及单项式的次数，根据齐次多项式列出方程成为解答本题的关键.

9、B

【解析】

【分析】

观察这个数列知，第n行的最后一个数是n^2，第50行的最后一个数是50^2

以上内容仅为本文档的试下载部分，为可阅读页数的一半内容。如要下载或阅读全文，请访问：https://d.book118.com/656120013151011020