四川绵阳南山中学双语学校数学七年级上册整式的加减专项测评

考试时间：90 分钟；命题人：教研组

考生注意：

1、本卷分第 I 卷（选择题）和第 II 卷（非选择题）两部分，满分 100 分，考试时间 90 分钟

2、答卷前，考生务必用 0.5 毫米黑色签字笔将自己的姓名、班级填写在试卷规定位置上

3、答案必须写在试卷各个题目指定区域内相应的位置，如需改动，先划掉原来的答案，然后再写上新的答案；不准使用涂改液、胶带纸、修正带，不按以上要求作答的答案无效。

第 I 卷（选择题　20 分）

一、单选题（10 小题，每小题 2 分，共计 20 分）

1、在$2x^2,1-2x=0,ab,a>0,0,\frac{1}{a},\frac{\pi}{3}$中，是代数式的有（　　）

A．5 个　　B．4 个　　C．3 个　　D．2 个

2、下列各式中，符合代数式书写规则的是（　　）

A．$-2\frac{1}{6}p$　　B．$a\times\frac{1}{4}$　　C．$\frac{7}{3}x^2$　　D．$2y\div z$

3、m、n都是正整数，则多项式$x^m+2y^n-3^{m+n}$的次数是（　　）

A．m　　B．$m+n$　　C．$2m+2n$　　D．不能确定

4、在 0，－1，－x，$\frac{1}{3}a$，3－x，$\frac{1-x}{2}$，$\frac{1}{x}$中，是单项式的有（　　）

A．1 个　　B．2 个　　C．3 个　　D．4 个

5、下列代数式中是二次三项式的是（　　）

A．$2x+x^2-x^3$　　B．$x^2+2xy+y^2$　　C．$2\left(m^2-mn\right)$　　D．a^3+2a^2-1

6、如图所示，边长为a的正方形中阴影部分的周长为（　　）

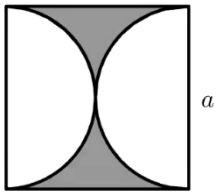

A．$a^2-\frac{1}{4}\pi a^2$　　B．$a^2-\pi a^2$

C．$2a+\pi a$　　D．$2a+2\pi a$

7、下列图形都是由同样大小的实心圆点按一定规律组成的，其中第①个图形一共有 5 个实心圆点，第②个图形一共有 8 个实心圆点，第③个图形一共有 11 个实心圆点，…，按此规律排列下去，第⑥个图形中实心圆点的个数为（　　）

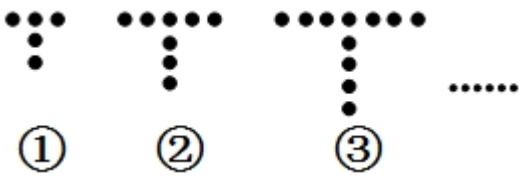

A．18　　B．19　　C．20　　D．21

8、设 x，y，c 是实数，正确的是（　　）

A．若 $x=y$，则 $x+c=y-c$　　B．若 $x=y$，则 $xc=yc$

C．若 $x=y$，则 $\frac{x}{c}=\frac{y}{c}$　　D．若 $\frac{x}{2c}=\frac{y}{3c}$，则 $2x=3y$

9、代数式 $3x^2y-4x^3y^2-5xy^3-1$ 按 x 的升幂排列，正确的是（　　）

A．$-4x^3y^2+3x^2y-5xy^3-1$　　B．$-5xy^3+3x^2y-4x^3y^2-1$

C．$-1+3x^2y-4x^3y^2-5xy^3$　　D．$-1-5xy^3+3x^2y-4x^3y^2$

10、小王利用计算机设计了一个程序，输入和输出的数据如下表：

输入	…	1	2	3	4	5	…
输出	…	$\frac{1}{2}$	$\frac{2}{5}$	$\frac{3}{10}$	$\frac{4}{17}$	$\frac{5}{26}$	…

那么，当输入数据 8 时，输出的数据是（　　）

A．$\frac{8}{61}$　　B．$\frac{8}{63}$　　C．$\frac{8}{65}$　　D．$\frac{8}{67}$

第Ⅱ卷（非选择题　80 分）

二、填空题（10 小题，每小题 3 分，共计 30 分）

1、有一列数按如下规律排列：$\frac{\sqrt{2}}{2}$，$\frac{\sqrt{3}}{4}$，$\frac{1}{3}$，$\frac{\sqrt{5}}{8}$，$\frac{\sqrt{6}}{10}$，$\frac{\sqrt{7}}{12}$，…，则第 2022 个数是 _____.

2、 “勾股树”是以正方形一边为斜边向外作直角三角形，再以该直角三角形的两直角边分别向外作正方形，重复这一过程所画出来的图形，因为重复数次后的形状好似一棵树而得名．假设如图分别是第一代勾股树、第二代勾股树、第三代勾股树，按照勾股树的作图原理作图，则第六代勾股树中正方形的个数为_____.

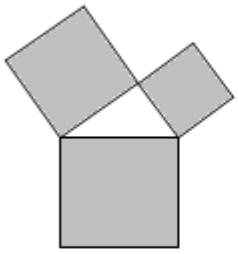

第一代勾股树

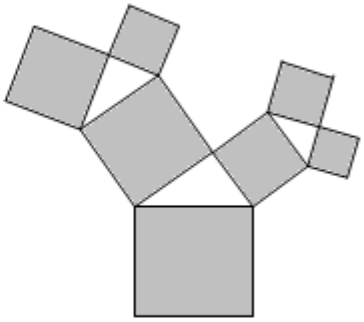

第二代勾股树

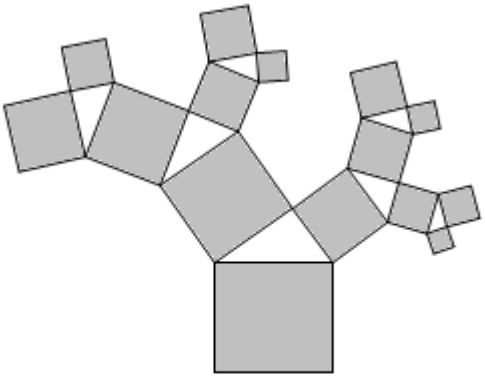

第三代勾股树

3、去括号：$5a^3-\left[4a^2-(a-1)\right]=$_____.

4、已如 $A-B=3x^2-2x+1, B-C=4-2x^2$，则 $C-A=$_____.

5、如果关于 x 的多项式 $mx^4+4x^2-\frac{1}{2}$ 与多项式 $3x^n+5x$ 的次数相同，则 $-2n^2+3n-4=$_____.

6、某种桔子的售价是每千克 x 元，用面值为 100 元的人民币购买了 6 千克，应找回_____元.

7、若单项式$3x^m y^3$与$-2x^5 y^{n+1}$是同类项，则$(-n)^m =$_____.

8、多项式 $a^3b - a^2+3ab^2-4a^5+3$ 是_____次_____项式，按 a 的降幂排列的结果_____.

9、有理数 a、b、c 在数轴上的位置如图：

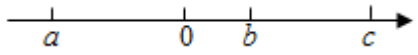

化简：$|a+c|-2|a-b|-c$.

10、$2x^3-3x+1$ 是_____次_____项式，最高次项的系数是_____，常数项是_____，系数最小的项是_____.

三、解答题（5 小题，每小题 10 分，共计 50 分）

1、如图，请你求出阴影部分的面积（用含有 x 的代数式表示）.

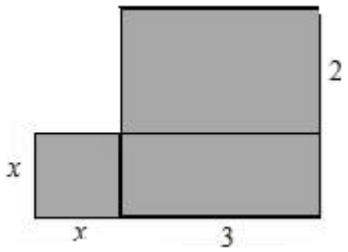

2、计算：

(1)5 - （ - 2）^{2}×3+（ - 36）÷6；

(2) $25\times\frac{3}{4}-(-25)\times\frac{1}{2}+25\times(-\frac{1}{4})$；

(3)$5a^2$ - 7 - 3a - 5+a - 2a^2；

(4) - 2y^3+（ - x^2y+3xy^2） - 2（xy^2 - y^3）.

3、已知多项式 - 3x^2+mx+nx^2 - x+3 的值与 x 无关，求（2m - n）^{2017}的值.

4、对于多项式 $2x^2+7xy+3y^2+x^2-kxy+5y^2$，老师提出了两个问题，第一个问题是：当 k 为何值时，多项式中不含 xy 项？第二个问题是：在第一问的前提下，如果 $x=2$，$y=-1$，多项式的值是多少？

（1）小明同学很快就完成了第一个问题，也请你把你的解答写在下面吧；

（2）在做第二个问题时，马小虎同学把$y=-1$，错看成$y=1$

，可是他得到的最后结果却是正确的，你知道这是为什么吗？

5、在长方形纸片 $ABCD$ 中，边长 $AB=m$，$AD=n$（$m>8$，$n>8$），将两张边长分别为 8 和 6 的正方形纸片按图 1，图 2 两种方式放置（图 1，图 2 中两张正方形纸片均有部分重叠），长方形中未被这两张正方形纸片覆盖的部分用阴影表示，设图 1 中阴影的面积为 S_1，图 2 中阴影部分的面积为 S_2.

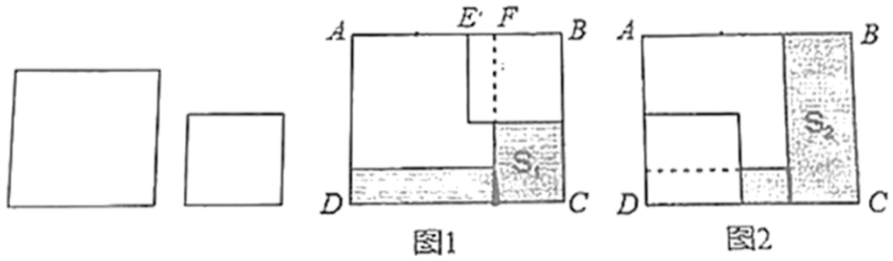

（1）请用含 m 的式子表示图 1 中 EF，BF 的长；

（2）请用含 m，n 的式子表示图 1，图 2 中的 S_1，S_2，若 $m-n=3$，请问 S_2-S_1 的值为多少？

-参考答案-

一、单选题

1、A

【解析】

【分析】

代数式是由数和字母组成，表示加、减、乘、除、乘方、开方等运算的式子，或含有字母的数学表达式，注意不能含有=、＜、＞、≤、≥、≈、≠等符号.

【详解】

$1-2x=0, a>0$，含有“=”和“>”，所以不是代数式，

则是代数式的有 $2x^2, ab, 0, \frac{1}{a}, \frac{\pi}{3}$ 其 5 个，

故选：A.

【考点】

考查了代数式的定义，掌握代数式的定义是本题的关键，注意含有=、＜、＞、≤、≥、≈、≠等符号的不是代数式.

2、C

【解析】

【分析】

根据代数式的书写要求判断各项.

【详解】

解：*A*、不符合代数式书写规则，应该为$-\frac{13}{6}p$，故此选项不符合题意；

B、不符合代数式书写规则，应该为$\frac{1}{4}a$，故此选项不符合题意；

C、符合代数式书写规则，故此选项符合题意；

D、不符合代数式书写规则，应改为$\frac{2y}{z}$，故此选项不符合题意.

故选：*C*.

【考点】

此题考查代数式，解题的关键是掌握代数式的书写要求．代数式的书写要求：①在代数式中出现的乘号，通常简写成“·”或者省略不写；②数字与字母相乘时，数字要写在字母的前面；③在代数式中出现的除法运算，一般按照分数的写法来写．带分数要写成假分数的形式.

3、解：“*a* 的 2 倍与 3 的和”是 2*a*+

故选 B.

【考点】

此题考查列代数式，解决问题的关键是读懂题意，找到所求的量的数量关系，注意字母和数字相乘的简写方法.

3. D

【解析】

【分析】

多项式的次数是“多项式中次数最高的项的次数”，因此多项式$x^m+2y^n-3^{m+n}$的次数是m，n中的较大数是该多项式的次数.

【详解】

单项式x^m的次数是m，单项式$2y^n$的次数是n，-3^{m+n}是常数项，

又因为未知m和n的大小，所以多项式的次数无法确定，

故选：D.

【考点】

此题考查多项式，解题关键在于掌握其定义.

4、D

【解析】

【分析】

利用数与字母的积的形式的代数式是单项式，单独的一个数或一个字母也是单项式，分母中含字母的不是单项式，进而判断得出即可.

【详解】

根据单项式的定义可知，只有代数式0，-1，-x，$\frac{1}{3}$a,是单项式，一共有4个.

故答案选D.

【考点】

本题考查的知识点是单项式，解题的关键是熟练的掌握单项式.

5、B

【解析】

【分析】

根据多项式的次数和项数的概念，逐一判断即可.

【详解】

解：A. $2x+x^2-x^3$是三次三项式，不符合题意，

B. $x^2+2xy+y^2$是二次三项式，符合题意，

C. $2\left(m^2-mn\right)$是二次二项式，不符合题意，

D. a^3+2a^2-1是三次三项式，不符合题意，

故选 B.

【考点】

本题主要考查多项式的次数和项数，掌握多项式的次数是多项式的最高次项的次数，是解题的关键.

6、C

【解析】

【分析】

圆的周长+2 倍正方形的边长等于阴影部分的周长.

【详解】

解：由图像可知：

阴影部分的周长＝2a＋πa，

故选：C

【考点】

本题考查了代数式和圆的周长，结合题意正确表示代数式是解题的关键.

7、C

【解析】

【分析】

根据已知图形中实心圆点的个数得出规律，即可得解.

【详解】

解：通过观察可得到

第①个图形中实心圆点的个数为：5=2×1+1+2，

第②个图形中实心圆点的个数为：8=2×2+2+2，

第③个图形中实心圆点的个数为：11=2×3+3+2，

……

∴第⑥个图形中实心圆点的个数为：2×6+6+2=20，

故选：C.

【考点】

本题考查探索与表达—图形变化类. 关键是通过归纳与总结，得到其中的规律.

8、B

【解析】

【分析】

根据等式的性质逐项分析即可.

【详解】

解：A、若$x=y$，则$x+c=y+c$，故该选项不正确，不符合题意；

B、若$x=y$，则$xc=yc$，故该选项正确，符合题意；

C、若$x=y$，且$c\neq 0$，则$\frac{x}{c}=\frac{y}{c}$，故该选项不正确，不符合题意；

D、若$\frac{x}{2c}=\frac{y}{3c}$，则$3x=2y$，故该选项不正确，不符合题意；

以上内容仅为本文档的试下载部分，为可阅读页数的一半内容。如要下载或阅读全文，请访问：https://d.book118.com/666053034153011020