黑龙江七台河勃利县数学七年级上册整式的加减专题测试

考试时间：90 分钟；命题人：教研组

考生注意：

1、本卷分第 I 卷（选择题）和第 II 卷（非选择题）两部分，满分 100 分，考试时间 90 分钟

2、答卷前，考生务必用 0.5 毫米黑色签字笔将自己的姓名、班级填写在试卷规定位置上

3、答案必须写在试卷各个题目指定区域内相应的位置，如需改动，先划掉原来的答案，然后再写上新的答案；不准使用涂改液、胶带纸、修正带，不按以上要求作答的答案无效。

第 I 卷（选择题　20 分）

一、单选题（10 小题，每小题 2 分，共计 20 分）

1、计算 $-m^2+4m^2$ 的结果为（　　）

A．$3m^2$　　B．$-3m^2$　　C．$5m^2$　　D．$-5m^2$

2、已知 $2a+3b=4$，则整式 $-4a-6b+1$ 的值是（　　）

A．5　　B．3　　C．－7　　D．－10

3、用正方形按如图所示的规律拼图案，其中第①个图案中有 5 个正方形，第②个图案中有 9 个正方形，第③个图案中有 13 个正方形，第④个图案中有 17 个正方形，此规律排列下去，则第⑨个图案中正方形的个数为（　　）

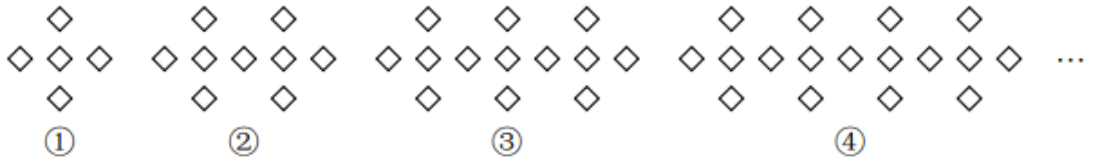

A．32　　B．34　　C．37　　D．41

4、化简 $\frac{1}{3}(9x-3)-2(x+1)$ 的结果是（　　）

A．$2x-1$　　B．$x+1$　　C．$5x+3$　　D．$x-3$

5、关于多项式$-2x^2y+3xy-1$，下列说法正确的是（　　）.

A．次数是 3　　B．常数项是 1　　C．次数是 5　　D．三次项是$2x^2y$

6、有一题目：点P、Q、M分别表示数-1、1、5，三点在数轴上同时开始运动，点P运动方向是向左，运动速度是$2/s$；点Q、M的运动方向是向右，运动速度分别$1/s$、$3/s$，如图，在运动过程中，甲、乙两位同学提出不同的看法，甲：$3PM-5PQ$的值不变；乙：$5QM-3PQ$的值不变；下列选项中，正确的是（　　）



A．甲、乙均正确　　B．甲正确、乙错误

C．甲错误、乙正确　　D．甲、乙均错误

7、下列不能用$4m$表示的是（　　）

A．葡萄的价格是 4 元/千克，买$m$kg 葡萄的价钱

B．一个正方形的边长是 m，这个正方形的周长

C．甲平均每小时加工 m个零件，4h 后共加工的零件个数

D．若 4 和 m分别表示一个两位数中的十位数字和个位数字，表示这个两位数

8、下列对代数式$a-\frac{1}{b}$的描述，正确的是（ ）

A．a 与 b 的相反数的差

B．a 与 b 的差的倒数

C．a 与 b 的倒数的差

D．a 的相反数与 b 的差的倒数

9、下列式子中不是代数式的是（　　）

A．$3a+2b$　　B．$5+2$　　C．$a+b=1$　　D．$\dfrac{b}{a+1}$

10、代数式a^2+b^2的意义是（　）.

A．a的平方与b的和　　B．a与b的平方的和

C．a与b两数的平方和　　D．a与b的和的平方

第Ⅱ卷（非选择题　80分）

二、填空题（10小题，每小题3分，共计30分）

1、如果一个矩形内部能用一些正方形铺满，既不重叠，又无缝隙，就称它为“优美矩形”，如图所示，“优美矩形”$ABCD$的周长为26，则正方形d的边长为_____.

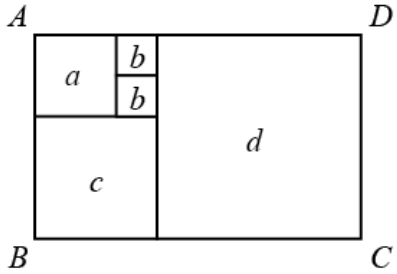

2、某书店新进了一批图书，甲、乙两种书的进价分别为4元/本、5元/本．现购进m本甲种书和n本乙种书，共付款Q元.

（1）用含m，n的代数式表示$Q=$_____；

（2）若共购进5×10^3本甲种书及3×10^3本乙种书，$Q=$_____（用科学记数法表示）.

3、单项式$-\dfrac{3^2x^2y^3}{5}$的系数是_____，次数是_____.

4、某种桔子的售价是每千克x元，用面值为100元的人民币购买了6千克，应找回_____元.

5、若$x^2-3x=-3$，则$3x^2-9x+7$的值是 _____.

6、如图1所示的图形是一个轴对称图形，且每个角都是直角，长度如图所示，小明按图2所示方法玩拼图游戏，两两相扣，相互间不留空隙，那么小明用9个这样的图形（图1）拼出来的图形的总长度是_____（结果用含a、b代数式表示）.

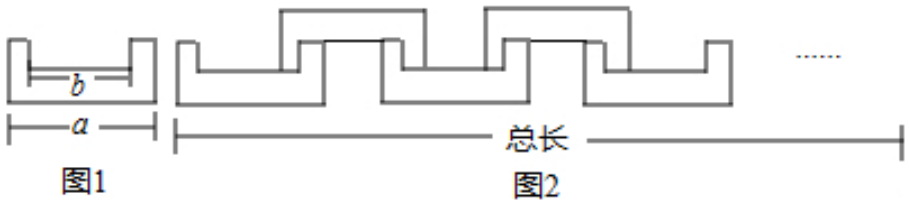

图1　　图2

7、下面是用棋子摆成的“上”字型图案：



按照以上规律继续摆下去，通过观察，可以发现：（1）第五个“上”字需用_____枚棋子；（2）第 n 个“上”字需用_____枚棋子.

8、有理数 a、b、c 在数轴上的位置如图：

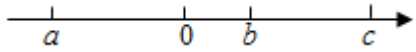

化简：$|a+c|-2|a-b|-c$.

9、如图是一组有规律的图案，它们由边长相同的正方形和正八边形组成，其中正方形涂有阴影，依此规律，第 n 个图案中有_____个涂有阴影的正方形.（用含 n 的代数式表示）

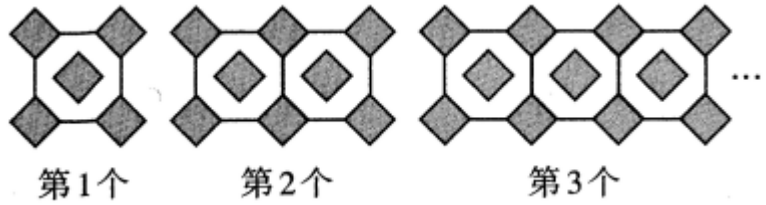

10、我国的《洛书》中记载着世界上最古老的一个幻方：将 1－9 这九个数字填入 3×3 的方格内，使三行、三列、两对角线上的三个数之和都是 15，如图所示幻方中，字母 m 所表示的数是_____.

m		2
3	5	

三、解答题（5 小题，每小题 10 分，共计 50 分）

1、观察下列等式的规律，解答下列问题：

$a_1=\frac{1}{3}\times\left(\frac{3}{1}-\frac{3}{2}\right)$；$a_2=\frac{1}{3}\times\left(\frac{3}{2}-\frac{3}{3}\right)$；$a_3=\frac{1}{3}\times\left(\frac{3}{3}-\frac{3}{4}\right)$；$a_4=\frac{1}{3}\times\left(\frac{3}{4}-\frac{3}{5}\right)$；……

(1)第 5 个等式为_____；第 n 个等式为_____(用含 n 的式子表示，n 为正整数)；

(2)求 $a_1+a_2+a_3+\cdots+a_{100}$ 的值.

2、为给同学们创造更好的读书条件，学校准备新建一个长度为 L 的读书长廊，并准备用若干块带有花纹和没有花纹的两种大小相同的正方形地面砖搭配在一起，按如图所示的规律拼成图案铺满长廊，已知每块正方形地面砖的边长均为 0.6m.

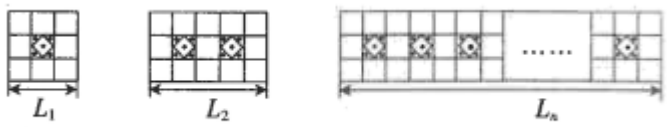

图 1　　图 2　　图 3

(1)按图示规律，第一个图案的长度 $L_1=$_____ m；第二个图案的长度 $L_2=$_____ m.

(2)请用式子表示长廊的长度 L_n，与带有花纹的地面砖块数 n 之间的关系.

(3)当长廊的长度 L 为 60.6m 时，请计算出所需带有花纹的地面砖的块数.

3、为了响应“阳光体育运动”，学校大力开展各项体育项目，现某中学体育队准备购买 100 个足球和 x 个篮球作为训练器材．现已知有 A、B 两个供应商给出标价如下：

足球每个 200 元，篮球每个 80 元；

供应商 A 的优惠方案：每买一个足球就赠送一个篮球；

供应商 B 的优惠方案：足球、篮球均按定价的 80%付款.

(1)若 $x=100$，请计算哪种方案划算？

(2) $x>100$，请用含 x 的代数式，分别把两种方案的费用表示出来.

4、

2022 年北京冬奥会开幕式主火炬台由 96 块小雪花形态和 6 块橄榄枝构成的巨型“雪花”形态，在数学上，我们可以通过“分形”近似地得到雪花的形状．操作：将一个边长为 1 的等边三角形（如图①）的每一边三等分，以居中那条线段为底边向外作等边三角形，并去掉所作的等边三角形的一条边，得到一个六角星（如图②，称为第一次分形．接着对每个等边三角形凸出的部分继续上述过程，即在每条边三等分后的中段向外画等边三角形，得到一个新的图形（如图③），称为第二次分形．不断重复这样的过程，就得到了“科赫雪花曲线”.

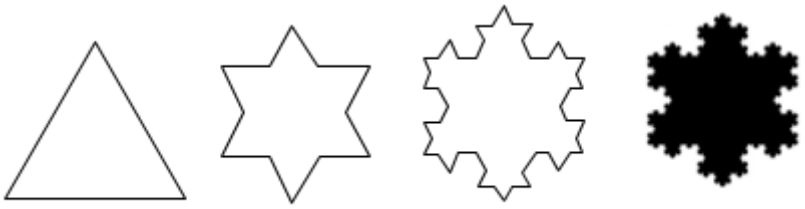

图① 图② 图③ 图④

(1)【规律总结】每一次分形后，得到的“雪花曲线”的边数是前一个“雪花曲线”边数的_____倍；每一次分形后，三角形的边长都变为原来的_____倍；

(2)【问题解决】试猜想第 n 次分形后所得图形的边数是_____；周长为_____（用含 n 的代数式表示）

5、观察下面依次排列的各数，按照规律写出后面的数及其他要求的数.

1，$\frac{1}{2}$，$-\frac{1}{3}$，$-\frac{1}{4}$，$\frac{1}{5}$，$\frac{1}{6}$，$-\frac{1}{7}$，$-\frac{1}{8}$，_____，_____，…第 2019 个数是_____.

-参考答案-

一、单选题

1、A

【解析】

【分析】

根据整式的加减可直接进行求解.

【详解】

解：$-m^2+4m^2=3m^2$；

故选 A.

【考点】

本题主要考查整式的加减运算，熟练掌握整式的加减运算是解题的关键.

2、C

【解析】

【分析】

整式$-4a-6b+1$可变形为$-2(2a+3b)+1$，然后把$2a+3b=4$代入变形后的算式，求出算式的值是多少即可.

【详解】

解：$\because 2a+3b=4$，$-4a-6b+1=-2(2a+3b)+1$

$\therefore -4a-6b+1=-2\times 4+1=-7$，

故选：C.

【考点】

此题主要考查了代数式求值的方法，要熟练掌握，解答此题的关键是要明确：求代数式的值可以直接代入、计算. 如果给出的代数式可以化简，要先化简再求值. 题型简单总结以下三种：①已知条件不化简，所给代数式化简；②已知条件化简，所给代数式不化简；③已知条件和所给代数式都要化简.

3、C

【解析】

【分析】

第 1 个图中有 5 个正方形，第 2 个图中有 9 个正方形，第 3 个图中有 13 个正方形，……，由此可得：每增加 1 个图形，就会增加 4 个正方形，由此找到规律，列出第 n 个图形的算式，然后再解答即可.

【详解】

解：第 1 个图中有 5 个正方形；

第 2 个图中有 9 个正方形，可以写成：5+4=5+4×1；

第 3 个图中有 13 个正方形，可以写成：5+4+4=5+4×2；

第 4 个图中有 17 个正方形，可以写成：5+4+4+4=5+4×3；

...

第 n 个图中有正方形，可以写成：5+4（n-1）=4n+1；

当 n=9 时，代入 4n+1 得：4×9+1=37.

故选：C.

【考点】

本题主要考查了图形的变化规律以及数字规律，通过归纳与总结结合图形得出数字之间的规律是解决问题的关键.

4、D

【解析】

【分析】

原式去括号合并即可得到结果.

【详解】

原式=3x-1-2x-2=x-3，

故选 D.

【考点】

此题考查了整式的加减，熟练掌握运算法则是解本题的关键.

5、A

【解析】

【分析】

根据多项式的项、次数等相关概念并结合多项式$-2x^2y+3xy-1$进行分析，再分别判断即可.

【详解】

解：多项式$-2x^2y+3xy-1$，次数是 3，常数项是-1，三次项是$-2x^2y$，所以四个选项中只有 A 正确；

故答案为：A.

【考点】

本题考查了多项式的项的系数和次数定义的掌握情况．解题的关键是弄清多项式次数、常数项的定义．

6、B

【解析】

【分析】

设运动时间为 xs，则 P表示的数是为$-1-2x$，Q表示的数为 $1+x$，点 M表示的数为 $5+3x$，根据数轴上两点间的距离公式计算整理即可判断．

【详解】

∵点 P 、Q、 M 分别表示数-1、1、5，三点在数轴上同时开始运动，点 P 运动方向是向左，运动速度是 2 / s ；点Q、 M 的运动方向是向右，运动速度分别1/s 、 3 / s ，



∴设运动时间为 xs，则 P表示的数是为$-1-2x$，Q表示的数为 $1+x$，点 M表示的数为 $5+3x$，

∴$3PM-5PQ=3(5+3x+1+2x)-5(1+x+1+2x)=8$，保持不变；

∴甲的说法正确；

∴$3QM-3PQ=3(5+3x-1-x)-3(1+x+1+2x)=6-3x$，与 x 有关，会变化；

∴乙的说法不正确；

故选 B.

【考点】

本题考查了数轴上的两点间的距离，数轴上点与数的关系，准确表示数轴上两个动点之间的距离是解题的关键.

7、D

【解析】

【分析】

对选项逐个计算，查看是否为$4m$即可.

【详解】

解：A. m千克葡萄的价钱是$4m$，不合题意；

B. 正方形的周长是$4m$，不合题意；

C. 甲4h后共加工$4m$个零件，不合题意；

D. 这个两位数是$4\times10+m$，也就是$40+m$，符合题意.

故选D.

【考点】

此题考查了根据题意列代数式，解题的关键是理解题意.

8、C

【解析】

【分析】

根据代数式的意义逐项判断即可.

【详解】

解：A. a与b的相反数的差：$a-(-b)$，该选项错误；

B. a与b的差的倒数：$\frac{1}{a-b}$，该选项错误；

以上内容仅为本文档的试下载部分，为可阅读页数的一半内容。如要下载或阅读全文，请访问：https://d.book118.com/715143132232012022