国家电网招聘考试人力资源类(习题卷5)

第1部分：单项选择题，共157题，每题只有一个正确答案,多选或少选均不得分。

1.[单选题]非正弦周期信号作用下的线性电路分析，电路响应等于它的各次谐波单独作用时产生的响应的（ ）的叠加。

A)有效值

B)瞬时值

C)相量

答案:B

解析:

2.[单选题]下列各项内容表述中有错误的一项是（ ）。

A)决策是管理者从事管理工作的基础，是衡量管理者水平高低的重要标志之一

B)组织工作是把组织成员组合起来，以有效地达到既定目标的过程

C)预算控制是管理控制中最常用、也比较有效的控制方法

D)预测是对未来环境所作出的估计，这种估计有时候是凭空的幻想和臆测

答案:D

解析:预测以过去为基础推测未来，以昨天为依据推算今后，以已知预计未来。是连接过去和未来的桥梁，并不是凭空的幻想和臆测。所以答案选D。

3.[单选题]图示等截面直杆，材料的拉压刚度度为EA，杆中距离A端1. 5L处横截面的轴向位移是：

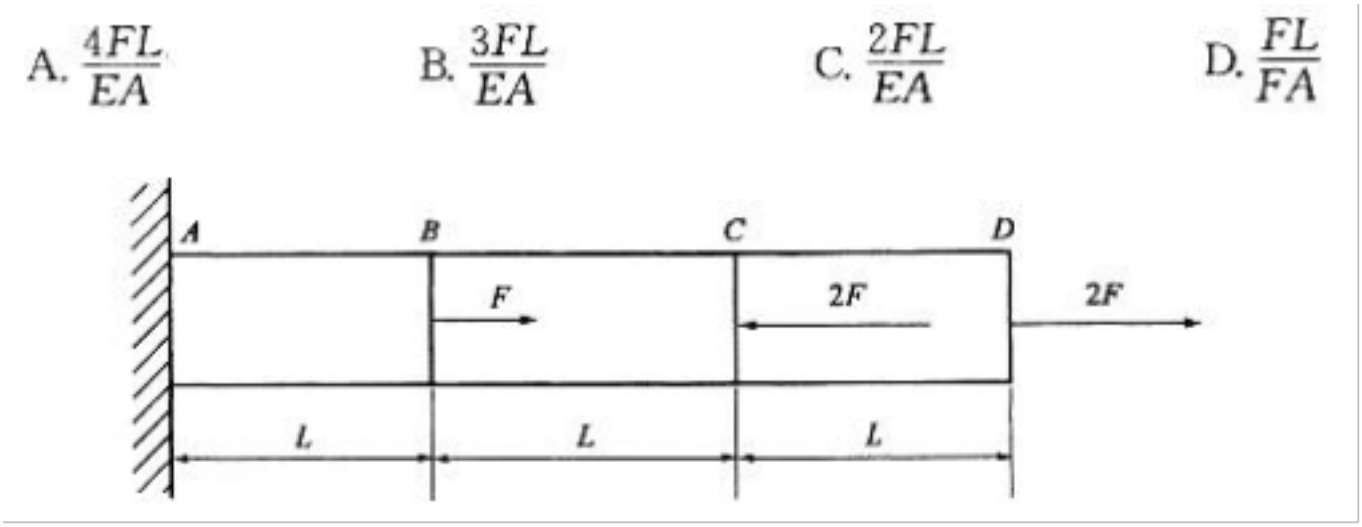

A)A

B)B

C)C

D)D

答案:D

解析:提示：由杆的受力分析可知A截面受到一个约束反力为F，方向向左，杆的轴力图如图所示。由于BC段杆轴为零，没有变形，故杆中距离A端1. 5L处横截面的轴向位移就等于AB段杆的伸长，△1=Fl/EA。

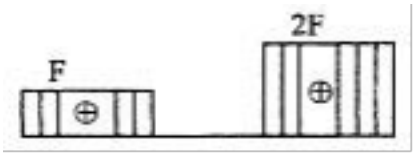

4.[单选题]对于随机变量X1,X2,…,Xn,下列说法不正确的是().

A 若$X_1,X_2,...,X_n$两两不相关,则$D(X_1+X_2+...+X_n)=\sum_{i=1}^{n}D(X_i)$

B 若$XX_1,X_2,...,X_n$相互独立,则$D(X_1+X_2+...+X_n)—D(X_1)+D(X_2)+...+D(X_n)$

C 若$X_1,X_2,...,X_n$相互独立同分布,服从$N(0,\Sigma^2)$,则$\overline{X}\sim N\left(0,\frac{\sigma^2}{n}\right)$

D 若$D(X_1+X_2+...+X_n)=D(_1)+D(_2)+...+D(_n)$,则$X_1,X_2,...,X_n$两两不相关

A)A
B)B
C)C
D)D
答案:D
解析:若X1，X2，…，Xn相互独立，则(B)，(C)是正确的，若X1，X2，…，Xn两两不相关，则(A)是正确的，选(D).

5.[单选题]态度的（ ）成分即人对事物的行为准备状态和行为反应倾向。例如，“我厌恶张经理，不想见他”。
A)认知
B)意识
C)意向
D)情感
答案:C
解析:

6.[单选题]法约尔的一般管理理论对西方管理理论的发展有重大影响，成为后来管理过程学派的理论基础，他的代表作是（ ）。
A)《社会组织与经济组织理论》
B)《工业管理与一般管理》
C)《科学管理理论》
D)《工业文明中人的问题》
答案:B
解析:有“管理过程之父”称号的法约尔，是西方古典管理理论在法国的最杰出代表，是管理学的先驱之一。从1885年起任法国最大的矿冶公司总经理达30年。在实践和大量调查研究的基础上，他提出了管理功能理论。他将管理作为一个学科进行传授。1916年《工业管理与一般管理》的问世，是他一生管理经验与管理思想的总结，他认为他的管理理论虽然是以大企业为研究对象，但除了可应用于工商业之外，还适用于政府、教会、慈善团体、军事组织以及其他各种事业。

7.[单选题]图中的晶体管均为硅管，测量的静态电位如图所示，处于放大状态的晶体管是哪个图所示？
A)A
B)B
C)C
D)D
答案:C
解析:提示：判断三极管是否工作在放大状态的依据共有两点:发射结正偏，集电结反偏。例如：对于NPN型三极管来说，基极电位高于发射极电位(硅材料管的电压UBE大约为0. 7V，锗材料管的电压UBE大约为0.3V)，集电极电位高于基极电位。对于PNP型三极管来说，基极电位低于发射极电位，集电极电位低于基极电位。

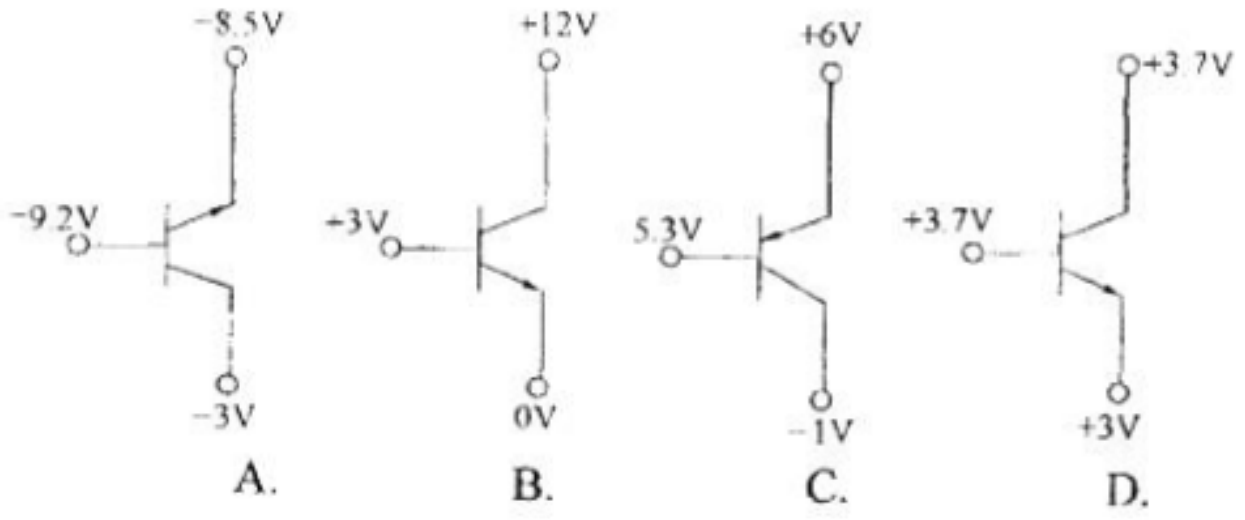

8.[单选题]下列哪一项是人力资源开发的最高目标？（ ）
A)组织发展
B)社会发展
C)企业发展
D)人的发展
答案:D
解析:人力资源开发总体目标是指进行人力资源开发活动所争取达到的一种未来状态，是开展各项人力资源开发活动的依据和动力。促进人的发展是人力资源开发的最高目标；开发并有效运用人的潜能是人力资源开发的根本目标。因此，本题应该选D。

9.[单选题]下列有关蔬菜的供给量增加的原因的叙述中，正确的是（ ）。
A)蔬菜的需求量增加而引起的增加
B)人们对蔬菜偏好的增加
C)蔬菜的价格提高而引起的增加
D)由于收入的增加而引起的增加
答案:C
解析:

10.[单选题]（ ）面对未来可能呈现的多种状态，决策者虽无法事先确定究竟呈现何种状态，但可判断各种状态出现的概率。
A)确定型决策法
B)风险型决策法
C)不确定型决策法
D)追踪决策法
答案:B
解析:按决策问题的可控程度，决策可分为确定型决策、非确定型决策和风险型决策。确定型决策是指在决策所需的各种情报资料已完全掌握的条件下做出的决策。不确定型决策是指资料无法加以具体测定，而客观形式又要求必须做出决定的决策。风险型决策是指决策方案未来的自然状态不能预先肯定，可能有几种状态，对每种状态发生的概率可以做出客观估计，但不管哪种方案都有风险的决策。本题选B。

11.[单选题]米尔顿·罗可奇提出两种价值观类型：终极价值观和（ ）价值观。
A)过程
B)手段
C)方法

D)工具
答案:D
解析:

12.[单选题]态度一旦形成将持续一段时间而不轻易改变，在这方面起着突出作用的是（ ）
A)认知
B)情感
C)意向
D)行为
答案:B
解析:

13.[单选题]两只相同的电容10μF/16V串联，其总容量和耐压是（ ）。
A)10μF/32V
B)20μF/16V
C)5μF/16V
D)5μF/32V
答案:D
解析:

两只相同的电容10μF/16V串联，如图所示总容量$C=\frac{1}{\frac{1}{C_1}+\frac{1}{C_2}}=5\mu F$，耐压$U=U_1+U_2=32$V。

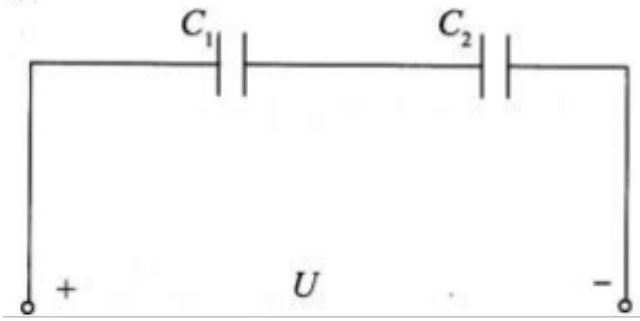

14.[单选题]条形图是利用宽度相同的条形的（ ）来表述数据多少的图形。
A)面积
B)高度或长度
C)频数
D)类别
答案:B
解析:

15.[单选题]美国行为学家麦格雷戈在著作（ ）中提出了X理论。
A)《工业管理和一般管理》
B)《管理的要素》
C)《车间管理》
D)《企业的人性方面》
答案:D
解析:美国著名的行为科学家道格拉斯-麦格雷戈1957年在其著作《企业的人性方面》一书中提出了有关人性的两种截然不同的观点：一种是基本上消极的X理论，另一种是基本上积极的Y理论。

16.[单选题]经济中存在着通货膨胀的压力，由于政府实施了严格的价格管制而使物价并没有上升，这种情况属于（

）。
A)不存在通货膨胀
B)存在着温和的通货膨胀
C)存在着恶性通货膨胀
D)存在着隐蔽的通货膨胀
答案:D
解析:

17.[单选题]图所示组合结构中，杆DE的轴力为（ ）。

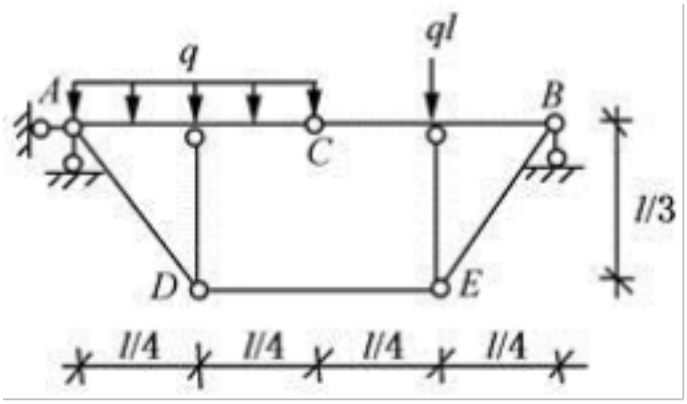

A)15ql/32
B)9ql/16
C)21ql/32
D)3ql/4
答案:B
解析:

以整体为研究对象，则可求出B支座的竖向反力为：$F_B=\frac{7}{8}ql$，利用截面法，将整体从C点处断开，对C点取矩，$F_{DE}\cdot\frac{l}{3}=\frac{7}{8}ql\cdot\frac{l}{2}-ql\cdot\frac{l}{4}$，解得$F_{DE}=\frac{9}{16}ql$。

18.[单选题]计算机系统正常运行必不可少的软件是( )。
A)系统软件
B)应用软件
C)字处理软件
D)程序设计语言
答案:A
解析:

19.[单选题]两互感线圈顺向串联时，其等效电感量L=（ ）。
A)A
B)B
C)C
D)D
答案:C
解析:

20.[单选题]在给定荷载下，具有“合理拱轴”的静定拱，其截面内力的状况为：
A)M=0,Q≠0,N≠0
B)M≠0,Q=0,N≠0

A L_1+L_2-2M

B L_1+L_2+M

C L_1+L_2+2M

D L_1+L_2-M

C)M=0,Q=0,N≠0
D)M≠0,Q≠0,N≠0
答案:C
解析:提示:根据合理拱轴的概念判断。

21.[单选题]用户可以使用搜狗拼音、极品五笔、智能拼音等输入法输入汉字，那么在计算机内部汉字是用()表示的。
A)汉字编码GB2312
B)ASCII编码
C)五笔编码
D)拼音编码
答案:A
解析:汉字是双字节字符，占用2个存储字节，处理汉字有很多种编码，例如GB2312.GBK等。

22.[单选题]下列选项不符合印章保管要求的是（ ）。
A)专人负责
B)确保安全
C)防止污损
D)随身携带
答案:D
解析:印章保管的基本要求是：（1）专人负责。所谓专人负责是指秘书或秘书部门对于保管或使用印章的人员必须严格审查和挑选，选择政治可靠、工作负责、坚持原则的人员来负责保管，管印人接到印章后应该做好接印登记。（2）确保安全。所谓确保安全是指印章应该保存在安全保险的地方，最好保存在保险柜内，并且养成随用随开、用完即锁的好习惯。印章一旦发生异常情况，应该迅速查明，及时处理。管印人不得委托他人代取、代用印章，也不能在办公室以外的地方用印。（3）防止污损。所谓防止污损是指平时使用印章要注意轻取轻放，避免破损。管印人还要注意经常洗刷印章，保持图案和印文的清晰，防止印泥或其他污物将刻痕填塞。

23.[单选题]以下组织变革内容中，属于技术方面变革的是（ ）
A)管理跨度改革
B)工作进度改革
C)绩效评价系统改革
D)信息系统更新
答案:D
解析:

24.[单选题]下列关于“导致需求曲线发生位移”的原因的说法中正确的是（ ）。
A)价格变动，引起了需求量的变动
B)供给曲线发生了位移，引起了需求量的变动
C)影响需求量的非价格因素发生变动，引起需求关系发生了变动
D)社会经济因素发生变动引起产品价格的变动
答案:C

解析:

25.[单选题]标明“100Ω，4W”和“100Ω，25W”的两个电阻串联时，允许加的最大电压是（ ）。
A)40V
B)70V
C)60V
D)140V
答案:A
解析:

26.[单选题]如图

梁EI=常数，弹簧刚度为 $k=\frac{48EI}{l^3}$，梁的质量忽略，则结构的自振频率为

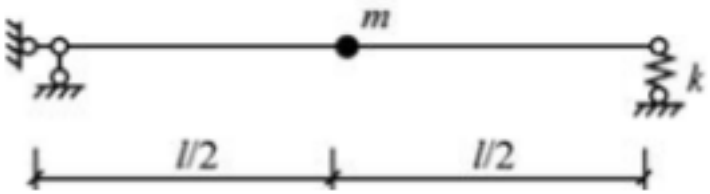

A. $\sqrt{\frac{32EI}{ml^3}}$

B. $\sqrt{\frac{192EI}{5ml^3}}$

C. $\sqrt{\frac{192EI}{9ml^3}}$

D. $\sqrt{\frac{96EI}{9ml^3}}$

A)A
B)B
C)C
D)D
答案:B
解析:采用柔度法，在m处施加竖直向下的单位作用力，则结构在m处产生的竖向位移为：

$$\delta=2\cdot\frac{1}{EI}\cdot\frac{1}{2}\cdot\frac{l}{4}\cdot\frac{l}{2}\cdot\frac{2}{3}\cdot\frac{l}{4}+\frac{1}{2}/k\cdot\frac{1}{2}=\frac{5l^3}{192EI}$$

所以自振频率为：

$$\sqrt{\frac{1}{m\delta}}=\sqrt{\frac{192EI}{5ml^3}}$$

27.[单选题]关于准司法与行政方法的区别，下列理解不正确的是（ ）。
A)在准司法活动中，行政主体是第三方，而行政活动中，行政主体属于相对关系的主导方
B)行政方法中行政主体一般是积极的作为，而准司法活动中，行政主体是消极的作为
C)在准司法活动中，行政主体一般只是对已经存在的事实和权利义务关系进行确认和鉴定，并不对事实和权利义务进行调整
D)行政活动中，行政行为不对权利义务关系进行调整
答案:D
解析:准司法是法律方法的一种。A、B、C三项均是法律方法与行政方法的区别。在行政活动中，行政行为一般要对权利义务关系进行调整，这也是C项所强调的内容。D项错误。故本题答案选D。

28.[单选题]有效领导的基础是（ ）
A)领导的权威
B)领导的素质
C)领导的能力
D)领导的职位
答案:A
解析:

29.[单选题]设n阶矩阵A与对角矩阵相似,则().
A)A的n个特征值都是单值
B)A是可逆矩阵
C)A存在n个线性无关的特征向量
D)A一定为n阶实对称矩阵
答案:C
解析:矩阵A与对角阵相似的充分必要条件是其有n个线性无关的特征向量，A有n个单特征值只是其可对角化的充分而非必要条件，同样A是实对称阵也是其可对角化的充分而非必要条件，A可逆既非其可对角化的充分条件，也非其可对角化的必要条件，选(C).

30.[单选题]看了应聘者的资料，就认为他不错，这是面试考官犯了下列哪项的偏见？（ ）
A)首因效应
B)晕轮效应
C)录用压力
D)对比效应
答案:A
解析:首因效应又称为第一印象，即面试考官根据开始几分钟，甚至是面试前从资料（如笔试、个人简历等）中得到的印象对应聘者作出评价。因此，本题应该选A。

31.[单选题]测设点的平面位置除了可采用直角坐标法和极坐标法外，还可以采用( )。
A)角度交会法和前方交会法
B)角度交会法和距离交会法
C)距离交会法和偏角法
D)角度交会法和支距法
答案:B
解析:测设点的平面位置通常可以采用直角坐标法、极坐标法、角度交会法和距离交会法等。

32.[单选题]下列选项中不属于影响战略评价基本因素的是（ ）。
A)战略评价者的价值观与行为偏好
B)战略评价者所采取的工具与方法
C)战略评价的地域性限制
D)战略评价的时效性限制
答案:C

解析:影响战略详价的基本因素主要有以下四种：战略评价者的价值观与行为偏好；战略评价者所采取的工具与方法；战略评价者掌握的信息与资料；战略评价的时效性限制。

33.[单选题]一般来说，秘书部门进行信息传递时的信宿是（ ）。
A)领导机关
B)人民群众
C)秘书本人
D)文件
答案:A
解析:信宿是信息传递的终点，即信息接受者。一般来说，秘书部门的信宿是领导机关。

34.[单选题]“无奸不商、无商不奸”，这是对人知觉的（ ）。
A)首因效应
B)近因效应
C)晕轮效应
D)定型效应
答案:D
解析:

35.[单选题]在企业战略的管理范畴内，围绕生产经营模式的问题做出决策的是（ ）。
A)总体战略
B)业务战略
C)职能战略
D)营销战略
答案:B
解析:业务战略也称竞争战略、经营战略，是公司的二级战略或属于事业部层次的战略。它一般是指单一生产经营的企业为了未来生存发展和盈利，实现总体战略目标，围绕企业的生产经营模式、增强市场竞争优势、提高整体绩效等问题所做出的战略决策。

36.[单选题]承受内压的两端封闭的圆柱状薄壁容器，由脆性材料制成，因压力过大表面出现裂纹时，裂纹的可能方向是( )。
A)沿圆柱纵向
B)沿与圆柱纵向夹45°角方向
C)沿圆柱环向
D)沿与圆柱纵向夹30°角方向
答案:A
解析:承受内压的两端封闭的圆柱状薄壁容器，在内压力的作用下容器壁上各点均处于两向受拉状态，且环向拉应力大于沿圆柱纵向的拉应力，因此第一主应力即为环向拉应力。对于脆性材料制成的容器，由第一强度理论可知，若因压力过大而引起容器表面出现裂纹，裂纹方向必垂直于第一主应力方向，即沿圆柱纵向。

37.[单选题]如图所示的结构中，B支座发生支座移动，D点水平位移（向右为正）为（ ）。

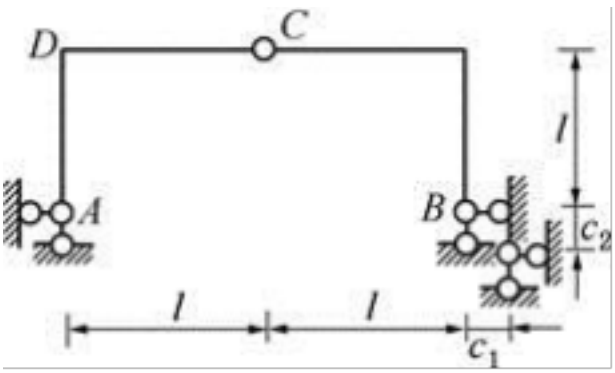

A. $-\frac{c_1+c_2}{2}$

B. $-\frac{c_1-c_2}{2}$

C. $\frac{c_1-c_2}{2}$

D. $\frac{c_1+c_2}{2}$

A)A

B)B

C)C

D)D

答案:D

解析:在D点施加向右的单位力，求得支座B的竖向反力为1/2（向上），水平反力为1/2（向左），则D点的水平位移

$$\Delta=-\sum\overline{R}C=\frac{c_1+c_2}{2}(向右)$$

38.[单选题]如图所示，体系的几何组成为（ ）。

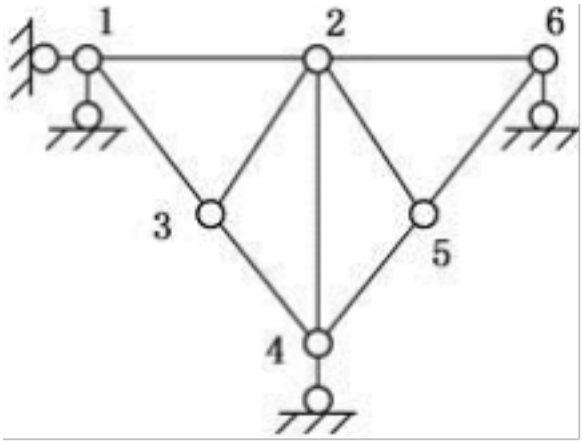

A)几何不变且无多余约束

B)几何不变有一个多余约束

C)常变体系

D)瞬变体系

答案:B

解析:先不考虑基础，上部结构依次拆去二元体265、254、243后，得到静定三角形结构123，故上部结构为无多余约束的几何不变体。上部结构与地基之间通过一个固定铰支座和2个平行滑动铰支座相连，根据二元体规则可知有一个多余支座约束。因此图示结构为几何不变有一个多余约束的体系。

39.[单选题]下列哪一项泛指员工获得的一切形式的报酬？（ ）

A)给付

B)薪酬

C)收入

D)分配

答案:B

解析:薪酬泛指员工获得的一切形式的报酬，包括薪资、福利和保险等各种直接或间接的报酬。薪酬有不同表现形式

：精神的与物质的；有形的与无形的；货币的与非货币的；内在的与外在的等。因此，本题应该选B。

40.[单选题]水准面上任一点的铅垂线都与该面相垂直，水准面是由自由静止的海水面向大陆、岛屿内延伸而成的，形成下列中的哪一种面？
A)闭合曲面
B)水平面
C)参考椭球体
D)圆球体
答案:A
解析:提示：水准面为闭合曲面。

41.[单选题]为了防止计算机病毒的传染，应该做到( )。
A)干净的光盘不要与来历不明的光盘放在一起
B)不要复制来历不明的U盘上的程序
C)长时间不用的U盘要经常格式化
D)对移动硬盘上的文件要经常重新复制
答案:B
解析:计算机病毒的危害很大，为了防止计算机病毒的传染，主要措施有：①定期备份常用数据和系统软件；②不使用非法复制、解密或来历不明的程序；③定期检测，及时消毒，避免带毒操作；④及时更新清除病毒软件版本。

42.[单选题]领导作风论认为创新型组织和以知识型员工为主导的组织最适宜采用的领导方式是（ ）
A)集权式
B)集权与民主结合式
C)民主式
D)放任式
答案:C
解析:

43.[单选题]回归分析中的简单回归是指（ ）。
A)两个变量之间的回归
B)变量之间的线性回归
C)两个变量之间的线性回归
D)变量之间的简单回归
答案:C
解析:

44.[单选题]如果计算机字长是8位，那么用补码表示最大有符号定点整数的范围是( )。
A)-128～+128
B)-127～+128
C)-127～+127
D)-128～+127
答案:D
解析:根据补码的描述得到。

45.[单选题]如图所示的桁架，零杆数目为（ ）。
A)6
B)7
C)8
D)9
答案:D
解析:由于水平方向无外力作用，因此左端支座的水平反力为零，由节点的平衡可知，结构的零杆分布如图所示。

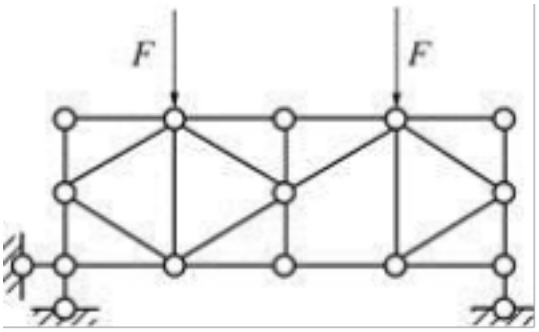

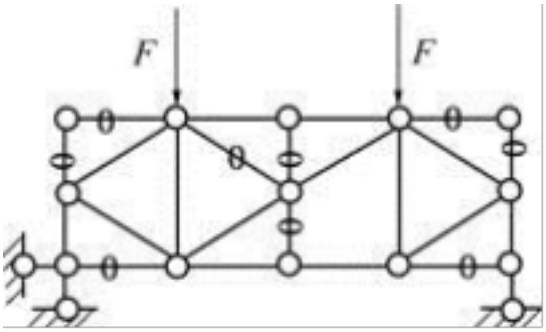

46.[单选题]目前中国采用统一的测量高程是指：
A)渤海高程系
B)1956高程系
C)1985国家高程基准
D)黄海高程系
答案:C
解析:提示：目前国家采用的统一高程基准是指1985国家高程基准。

47.[单选题]根据组织变革的力场分析方法，为了开创变革的局面，管理者可以采用的方法是（ ）
A)降低变革压力的强度
B)降低变革阻力的强度或稳定性
C)增大变革阻力的强度
D)变变革的压力为变革的阻力
答案:B
解析:

48.[单选题]根据不同的决策条件而采用相应决策方法的一种决策思路是（ ）
A)满意模型
B)理性模型
C)权变模型
D)优化模型
答案:C
解析:

49.[单选题]创新的高风险和高收益之间的关系是（ ）。
A)成反比关系
B)成正比关系
C)没有关系
D)有不确定关系
答案:B
解析:创新的高风险和高收益成正比关系，创新一旦成功就能获得极高的甚至是意想不到的高回报、高收益。故本题选B。

50.[单选题]图示桁架中a杆的轴力Na为：

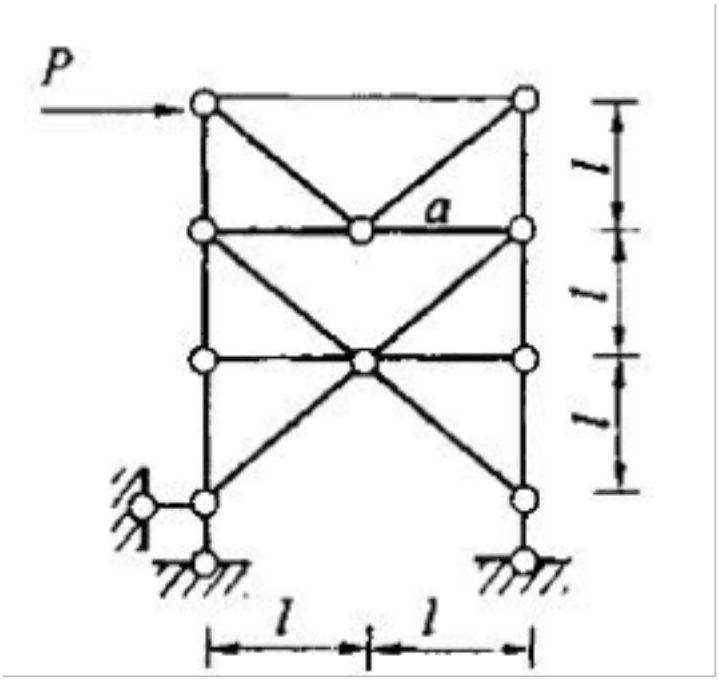

A. +P B. -P

C. $+\sqrt{2}P$ D. $-\sqrt{2}P$

A)A
B)B
C)C
D)D
答案:B
解析:提示：先判断零杆，再用截面法求Na。

51.[单选题]如图所示平面杆系结构，设三杆均为细长压杆，长度均为l，截面形状和尺寸相同，但三杆约束情况不完全相同，则杆系丧失承载能力的情况应是下述中哪一种？
A)当AC杆的压力达到其临界压力时，杆系丧失承载力
B)当三杆所承受的压力都达到各自的临界压力时，杆系才丧失承载力
C)当AB杆和AD杆的压力达到其临界压力时,杆系则丧失承载力
D)三杆中，有一根杆的应力达到强度极限，杆系则丧失承载能力
答案:B
解析:提示：AC杆失稳时，AB、AD杆可承受荷载；AB、AD杆失稳时，AC杆可承受荷载；只有当3杆同时失稳，杆系才丧失承载力。

52.[单选题]关于勤劳节俭，正确的是（ ）。
A)勤劳节俭仅仅是中华民族的传统美德
B)勤劳节俭与扩大消费相矛盾
C)勤劳节俭有利于增产增收
D)勤劳节俭不能防止腐败
答案:C
解析:

53.[单选题]与二进制数11011101.1101等值的八进制数是( )。
A)135.61
B)335.64

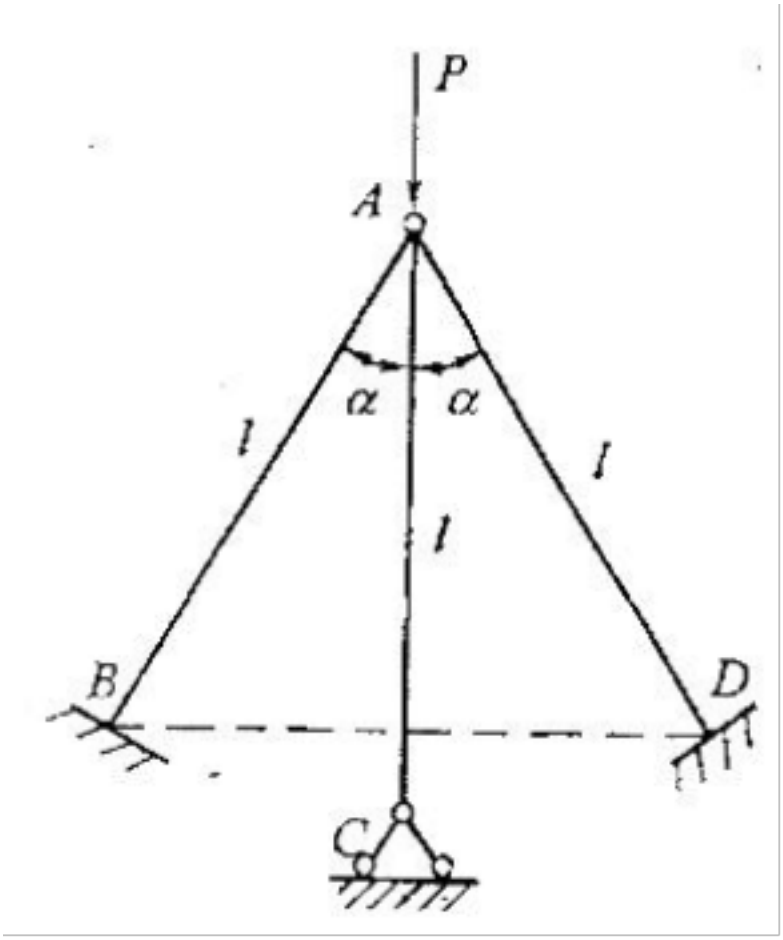

C)235.61
D)235.64
答案:B
解析:

因为23=8，所以二进制数转换为八进制数有一种简便的方法——“3位并作1位”，即以小数点为基准，向左、右分别逐次选取3个二进制位，将其转换为对应的八进制(其实就是这3位二进制所对应的十进制真值）即可。若在二进制两端剩余的位数不够3位，则补0使其能构成3位。具体到本题：

011 011 101. 110 100

3 3 5. 6 4

54.[单选题]当一国国际收支处于赤字状态时，一般来说要采用的策略是（ ）。
A)汇率升值
B)增加进口
C)增加出口
D)外汇管制
答案:C
解析:

55.[单选题]信息化社会是信息革命的产物，它包含多种信息技术的综合应用，构成信息化的三个主要技术支柱是( )。
A)计算机技术、信息技术、网络技术
B)计算机技术、通信技术、网络技术
C)存储器技术、航空航天技术、网络技术
D)半导体工艺技术、网络技术、信息加工处理技术
答案:B
解析:传感技术、通信技术、计算机技术和控制技术是信息技术的四大基本技术，其主要支柱是通讯(Communication)技

术、计算机(Computer)技术和控制(Control)技术，即“3C”技术。

56.[单选题]下列哪项不是物联网的数据管理系统结构()。
A)星形式结构
B)层次式结构
C)集中式结构
D)分布式结构和半分布式结构
答案:A
解析:物联网数据管理系统结构主要有层次式结构、集中式结构、分布式结构、半分布式结构。

57.[单选题]要在竞争市场中“皆优我廉”，可以采用（ ）。
A)廉价型竞争策略
B)创新竞争策略
C)优质竞争策略
D)技术竞争策略
答案:A
解析:廉价型竞争策略即企业在参与市场竞争的过程中，力求以低价来推销自己的产品或提供某种服务，从而抢占市场的制高点。题目中“皆优我廉”就是以低价来推销自己的产品。

58.[单选题]下列不属于投入期产品生命周期策略的是（ ）。
A)快速掠取策略
B)改善产品策略
C)快速渗透策略
D)缓慢掠取策略
答案:B
解析:投入期企业的营销重点是提高新产品的生命力，使产品尽快为顾客所接受，促使其向成长期过渡。主要的营销策略有：快速掠取战略、缓慢掠取战略、快速渗透战略和缓慢渗透战略。因此，本题应该选B。

59.[单选题]一般把以( )为基本逻辑部件的电子计算机称为第三代计算机。
A)电子管
B)晶体管
C)集成电路
D)超大规模集成电路
答案:C
解析:计算机按历史发展阶段，可分为五代：①电子管(1946年～1956年)；②晶体管(1957年～1964年)；③集成电路(1965年～1971年)；④大规模集成电路(1972年～至今)；⑤人工智能化(正在发展中)。

60.[单选题]判断下列各图所示体系的几何构造性质为：
A)几何不变无多余约束
B)几何不变有多余约束
C)几何常变
D)几何瞬变
答案:B
解析:提示：用三刚片规则，有一多余约束。

61.[单选题]“入芝兰之室，久而不闻其香”的现象叫（ ）。它可以表现为感受性的提高，也可以表现为感受性的降低。
A)对比
B)定型效应
C)适应
D)晕轮效应

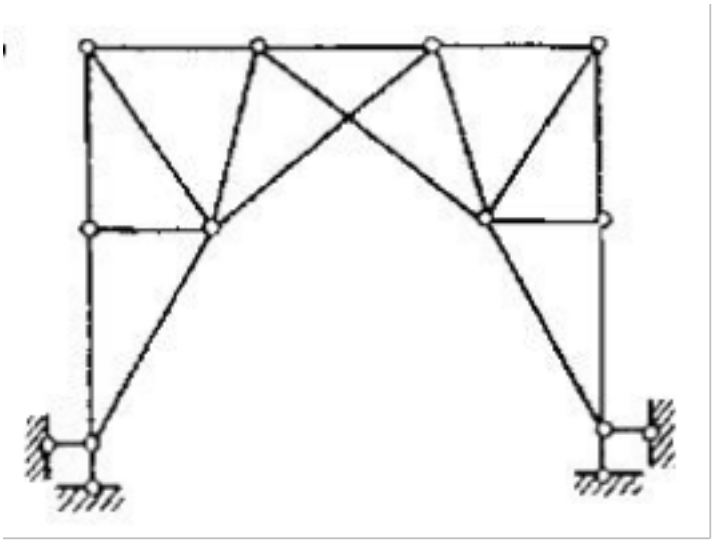

答案:C
解析:

62.[单选题]微型计算机中总线类型不包括( )。
A)地址总线
B)数据总线
C)控制总线
D)存储总线
答案:D
解析:

63.[单选题]局域网的英文简称是()。
A)LAN
B)WAN
C)Internet
D)FTP
答案:A
解析:局域网的英文简称是LAN。

64.[单选题]政府为应对价格异动实施限制价格措施可能会导致（ ）。
A)大量积压
B)黑市交易
C)买者按低价买到希望购买的商品数量
D)B和C
答案:B
解析:

65.[单选题]设α,β为四维非零列向量,且α⊥β,令A=α βˆT,则A的线性无关特征向量个数为().
A)1
B)2
C)3
D)4
答案:C
解析:

因为α，β为非零向量，所以A=αβ^T≠0，则r(A)≥1，又因为r(A)=r(αβ^T)≤r（α）=1，所以r(A)=1.令AX=λX，由A^{2}X=αβ^T·αβ^{T}X=O=λ^{2}X得λ=0，因为r(OE-A)=r(A)=1，所以A的线性无关的特征向量个数为3，应选(C).

66.[单选题]多自由度体系的自振频率数n1与主振型数n2的大小关系是：
A)n1>n2
B)n12
C)n1=n2
D)不能确定
答案:C
解析:提示：第i主振型与自振频率wi相对应。

67.[单选题]已知图示梁抗弯刚度EI为常数，则用叠加法可得跨中点C的挠度为：

A. $\frac{5ql^4}{384EI}$　B. $\frac{5ql^4}{576EI}$　C. $\frac{5ql^4}{768EI}$　D. $\frac{5ql^4}{1152EI}$

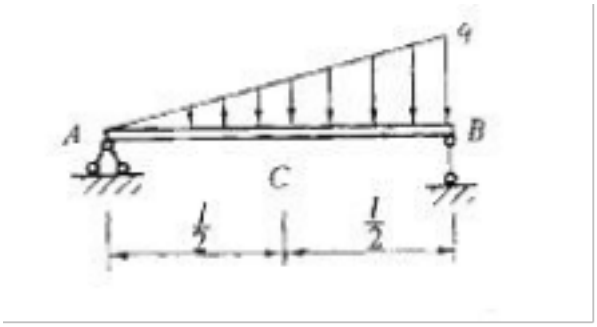

A)A
B)B
C)C
D)D
答案:C
解析:提示：图示梁荷载为均布荷载q的一半，中点挠度也是均布荷载简支梁的一半。

68.[单选题]具体的管理活动会有不同的目标，为了实现（ ）是一切管理活动的共性。
A)共同的目标
B)一定的目标
C)既定的目标
D)特定的目标
答案:D
解析:由于管理所面临的环境、条件、类型、性质、层次以及时间跨度的不同，具体的管理活动会具有不同的管理目标，尽管如此，为了实现特定的目标却是一切管理活动的共性。故本题答案选D。

69.[单选题]下列关于人力资源预测的说法，错误的是（ ）。
A)要求预测者具有高度的创造性和分析能力
B)人力资源预测的方案和过程相对简单易行
C)人力资源预测所面临的环境具有不确定性
D)人力资源预测能够引导员工的职业生涯规划
答案:B
解析:人力资源预测能引导员工进行职业生涯设计和职业生涯发展，对调动员工的积极性有很大的帮助。但是，人力资源预测也有其局限性，它受预测者知识水平的限制，因为人力资源预测与规划都是相当复杂的工作，它要求预测者具有高度的想象力、分析能力和独创性，不断提高其预测能力。人力资源预测所面临的环境具有不确定性。因此，本题应该选B。

70.[单选题]图示桁架结构杆①的轴力为：
A)3P/4

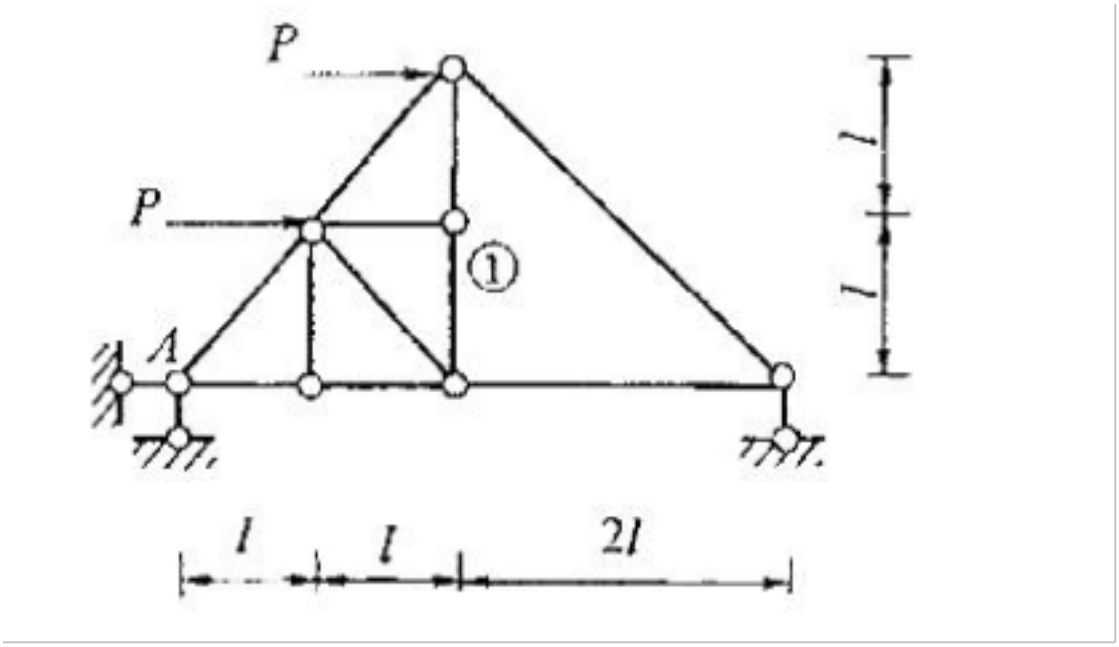

B)P/2
C)0. 707P
D)1. 414P
答案:B
解析:提示：先判断零杆，再用截面法以A为矩心求N1。

71.[单选题]员工技能开发的具体内容不包括（ ）。
A)教育
B)考评
C)培养
D)训练
答案:B
解析:员工技能开发是指通过科学的系统全面的教育、培养和训练，使全员的职业品质、专业素养和操作技能不断提高，人力资源潜力得到充分发掘的过程。员工技能开发的具体内容包括：①教育，指通过多种有效的方式方法，对组织中的劳动者进行职业道德教育的活动，通过言传身教使员工能够顺利地接受企业文化的洗礼和熏陶，树立正确的经营理念和价值观，尽快地融入企业各种生产经营管理活动之中；②培养，指企业对各类生产、技术、经营、管理等专门人才的培养，通过专才的培养，为企业造就出一支生产经营管理的骨干队伍；③训练，是指企业通过岗位练兵、现场操练，提高员工各种操作技艺、技法、技巧的过程。

72.[单选题]在Excel中，()函数可以计算工作表中一串数值的和。
A)SUM
B)AVERAGE
C)MIN
D)COUNT
答案:A
解析:SUM函数用来对指定单元格区域中的单元格求和；AVERAGE函数用来对指定单元格区域中的单元格求平均值；MIN函数用来对指定单元格区域中的单元格求最小值；COUNT函数用来对指定单元格区域中的单元格计数。

73.[单选题]领导的权力一般由三部分组成，即资源控制权、专长权和（ ）
A)指挥权
B)奖惩权
C)决策权
D)人事权
答案:B

解析:

74.[单选题]在生产管理中，创造了线条图来对产品生产活动进行计划调度和控制的人是（ ）
A)弗兰克·吉尔布雷思
B)亨利·甘特
C)泰罗
D)亨利·福特
答案:B
解析:

75.[单选题]在Excel中，COUNT函数用于计算()。
A)平均值
B)求和
C)数字的个数
D)最小数
答案:C
解析:COUNT函数用来计算所列参数中数值的个数，即为实现计数功能的函数。

76.[单选题]若用σcr表示细长压杆的临界应力，则下列结论中正确的是:
A)σcr与压杆的长度、压杆的横截面面积有关，而与压杆的材料无关
B)σcr与压杆的材料和柔度λ有关，而与压杆的横截面面积无关
C)σcr与压杆的材料和横截面的形状尺寸有关，而与其他因素无关
D)σcr的值不应大于压杆材料的比例极限σp
答案:B
解析:提示：根据欧拉公式

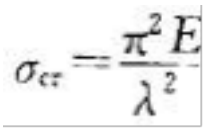

，其中E与压杆的材料有关，而λ为压杆的柔度，与其他因素无关。

77.[单选题]TCP/IP协议族的核心协议是()。
A)IP
B)IGMP
C)ICMP
D)TCP
答案:A
解析:计算机网络要传输数据，必须先找到网络中计算机的IP地址才能进行通信。TCP协议是在IP协议基础上的可靠传输。

78.[单选题]假如把失败归因于工作（学习）。任务重、难度大等（ ），则可能降低行为者的自信心、成就动机、努力程度和持续性。
A)波动的外因
B)波动的内因
C)稳定性的外因
D)稳定的外因
答案:C
解析:

79.[单选题]采用因素比较法进行岗位评价时，其操作的第一步骤是（ ）。
A)确定评价要素

B)确定要素的权重
C)获取岗位信息
D)选择关键基准岗位
答案:C
解析:因素比较法的工作流程为：①获取岗位信息；②确定薪酬评价要素；③选择关键基准岗位；④根据薪酬要素将关键岗位排序；⑤对每个岗位分配各评价要素所占权重；⑥按权重对岗位进行排序；⑦确定各岗位每个评价要素所对应的薪酬；⑧将其他各岗位与关键岗位按照评价要素进行比较。

80.[单选题]要标出某山区出水口的汇水区域，其汇水边界在地形图上应沿( )。
A)公路线
B)山谷线
C)山脊线
D)山角线
答案:C
解析:汇集水流量的面积称为汇水面积。由于雨水是沿山脊线向两侧山坡分流，所以汇水面积的边界线是由一系列的山脊线连接而成的。

81.[单选题]-般使用高级程序设计语言编写的应用程序称为源程序，这种程序不能直接在计算机中运行，需要有相应的语言处理程序翻译成（ ）程序后才能运行。
A)C语言
B)汇编语言
C)PASCAL语言
D)机器语言
答案:D
解析:提示：计算机高级程序设计语言编写的应用程序不是用二进制码编写的，因此要翻译成二进制码编写的程序后才能进行。

82.[单选题]政府把个人所得税率从18%降到12%，这一措施属于（ ）。
A)一项财政支出政策
B)一项公共政策
C)内在稳定器的作用
D)一项财政收入政策
答案:D
解析:

83.[单选题]20世纪，90年代梅耶和艾伦提出的（ ）三因素具体包括情感承诺、连续承诺和规范承诺。
A)员工承诺
B)上司承诺
C)组织承诺
D)职业承诺
答案:C
解析:

84.[单选题]二进制数10011100转换成十进制数是()。
A)128
B)156
C)256
D)218
答案:B
解析:

二进制数10011100转换成十进制数的过程是：$1\times2^7+1\times2^4+1\times2^3+1\times2^2=156$。

85.[单选题]当低碳钢试件的试验应力σ=σs时，试件将( )。
A)完全失去承载能力
B)破断
C)发生局部颈缩现象
D)产生很大的塑性变形
答案:D
解析:

86.[单选题]( ) 以知识和真理为中心，强调通过理性批判的方式发现真理。
A)理性价值观
B)政治价值观
C)经济价值观
D)宗教价值观
答案:A
解析:

87.[单选题]( ) 是指向企业的档案管理部门或档案管理人员了解组织过去的建设、运行状况以及关于重大事件或决策的档案记录的方法。
A)调查研究法
B)当面调查法
C)行为记录法
D)档案记录法
答案:D
解析:档案记录法是指向企业的档案管理部门或档案管理人员了解组织过去的建设、运行状况以及关于重大事件或决策的档案记录的方法。这种方法可用于采集组织过去的决策机构的效率、决策效率、决策效果、执行效率、文件审批效率和文件传递效率。

88.[单选题]将设计的建筑物位置在实地标定出来作为施工依据的工作称为：
A)测定
B)测绘
C)测设
D)定线
答案:C
解析:提示：见测设的定义。

89.[单选题]-幅图像的分辨率为640X480像素，这表示该图像中：
A)至少由480个像素组成
B)总共由480个像素组成
C)每行由640X480个像素组成
D)每列由480个像素组成
答案:D
解析:提示：点阵中行数和列数的乘积称为图像的分辨率，若一个图像的点阵总共有480行，每行640个点，则该图像的分辨率为640X480=307200个像素。每一条水平线上包含640个像素点，共有480条线，即扫描列数为640列，行数为480行。

90.[单选题]图示矩形截面梁，高度h= 120mm，跨度l=1m，梁中点受集中力P，两端受拉力S=50kN，此拉力作用在横截面的对称轴y上，距上表面a=50mm，若横截面内最大正应力与最小正应力之比为5/3，则P为：
A)5kN

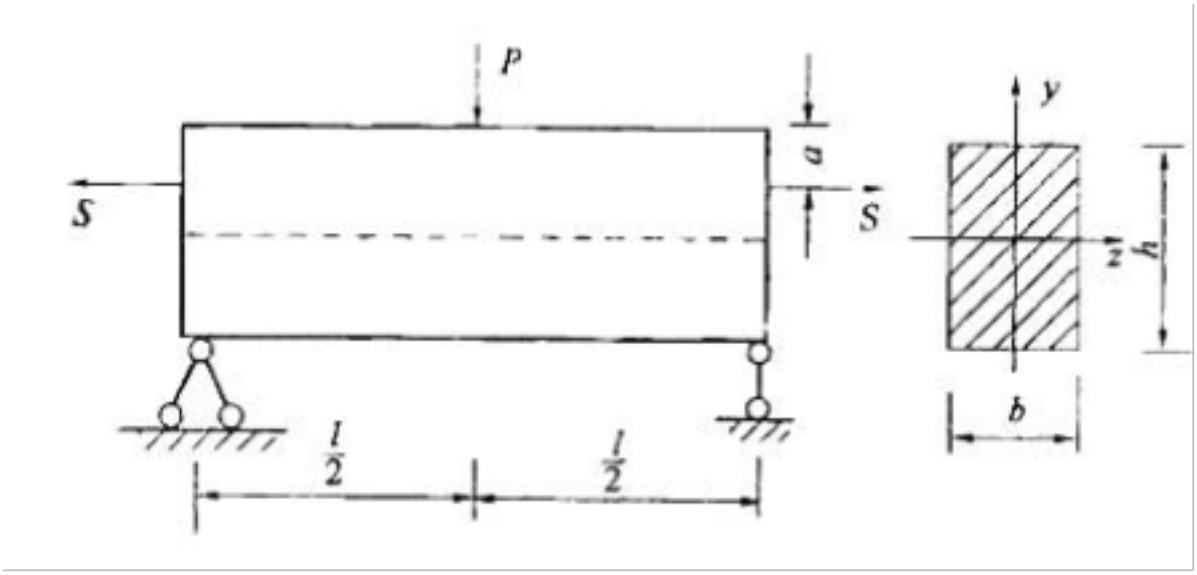

B)4kN
C)3kN
D)2kN
答案:C
解析:提示：此题为拉伸与弯曲的组合变形问题，最大正应力与最小正应力发生在跨中截面上下边缘。

$$\begin{matrix}\sigma_{max}\\ \sigma_{min}\end{matrix} = \frac{P}{A} \pm \frac{M_z}{W_z}$$

，其中Mz应包含两项，一项是由力P引起的弯矩，一项是由偏心拉力S引起的弯矩，两者引起的正应力符号相反。根据

$$\frac{\sigma_{max}}{\sigma_{min}} = \frac{5}{3}$$

，可求出P的值。

91.[单选题]采用( )可以准确定位一个WEB页在Intemet中的地址。
A)URL地址
B)E-mail地址
C)IP地址
D)域名
答案:A
解析:

92.[单选题]目前，人们常用的文字处理软件有：
A)Microsoft Word和国产字处理软件WPS
B)Microsoft Excel 和 Auto CAD
C)Microsoft Access 和 Visual Foxpro
D)Visual BASIC 和 Visual C+ +
答案:A
解析:提示：Microsoft Word和国产字处理软件WPS都是目前广泛使用的文字处理软件。

93.[单选题]M点高程HM=43.251m，测得后视读数a=1.000m，前视读数b=2.283m。则视线高Hi和待求点N的高程HN分别为（ ）。

A)45.534m；43.251m
B)40.968m；38.685m
C)44.251m；41.968m
D)42.251m；39.968m
答案:C
解析:视线高程是指视准轴到绝对基面的垂直高度。通过视线高推算出待定点的高程，视线高程=后视点高程+后视读数。待定点高程=视线高程-前视读数。代入数据可得：Hi=HM+a=43.251+1.000=44.251m，HN=Hi-b=44.251-2.283=41.968m。

94.[单选题]图所示梁在移动荷载作用下，使截面C的弯矩达到最大值的临界荷载为（ ）。

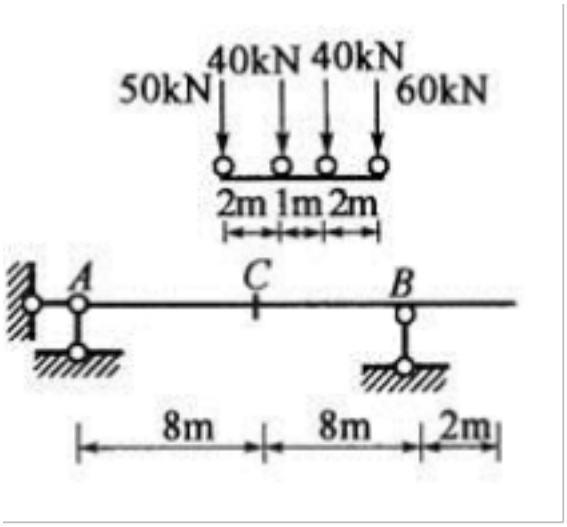

A)50kN
B)40kN
C)60kN
D)80kN
答案:D
解析:先用机动法作出图示结构的影响线，把集中荷载分别放在影响线的顶点求取值最大的那个，即为最不利荷载位置。计算可知最大荷载为80kN。

95.[单选题]下列各选项中，全部为应用软件的是()。
A)网卡和驱动程序、Windows操作系统、QQ聊天软件
B)媒体播放软件、360杀毒软件、编译程序
C)Office办公软件、PowerPoint、防火墙软件
D)PDF文档阅读软件、微机开机自检程序、PhotoShop图片处理软件
答案:C
解析:A项中的驱动程序和Windows操作系统、B项中的编译程序、D项中的微机开机自检程序不属于应用软件

96.[单选题]闭合导线和附合导线在计算下列中哪些差值时，计算公式有所不同？
A)角度闭合差、坐标增量闭合差
B)方位角、坐标增量
C)角度闭合差、导线全长闭合差
D)纵坐标增量闭合差、横坐标增量闭合差
答案:A
解析:提示：参见闭合导线和附合导线的计算。

97.[单选题]下列属于加强秘书人员的政治思想修养的措施的是（ ）。
A)学习秘书人员保密规定
B)学习科学发展观

C)学习专业知识
D)学习办公室规定
答案:B
解析:秘书人员的政治思想修养主要包括两个方面：一是理论知识，即观点、范畴和要领体系；二是理性思维能力。秘书人员的政治理论修养从本质上说是马克思主义修养。选项B属于理论知识的学习。因此B为正确选项。

98.[单选题]企业（ ）是指企业的声誉、人力、财力和物力。
A)销售能力
B)实力
C)服务能力
D)潜力
答案:B
解析:企业实力是指企业的声誉、人力、财力和物力，是影响销售渠道选择的企业因素之一。

99.[单选题]TCP/IP体系结构中的TCP和IP所提供的服务分别为：
A)链路层服务和网络层服务
B)网络层服务和运输层服务
C)运输层服务和应用层服务
D)运输层服务和阿络层服务
答案:D
解析:提示：TCP是传输层的协议，和UDP同属传输层。IP是网络层的协议，它包括ICMP、IMGP、RIP、RSVP、K25、BGP、ARP、NAPP等协议。

100.[单选题]施工测量中测设点的平面位置的方法有( )。
A)激光准直法、极坐标法、角度交会法、直角坐标法
B)角度交会法、距离交会法、极坐标法、直角坐标法
C)平板仪测设法、距离交会法、极坐标法、激光准直法
D)激光准直法、角度交会法、平板仪测设法、距离交会法
答案:B
解析:

101.[单选题]螺钉承受轴向拉力F，螺钉头与钢板之间的挤压应力是:

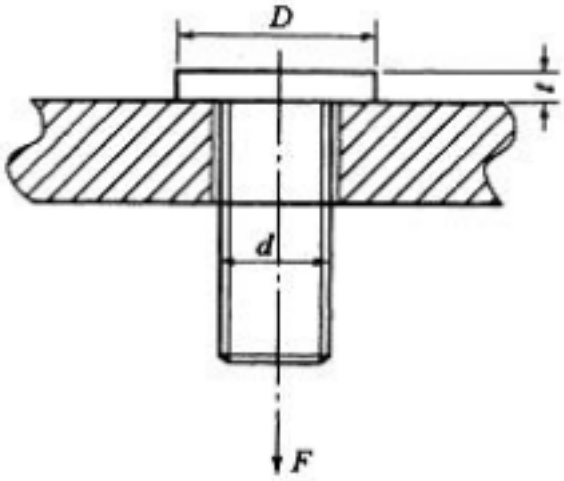

A. $\sigma_{bs}=\frac{4F}{\pi(D^2-d^2)}$　B. $\sigma_{bs}=\frac{F}{\pi dt}$　C. $\sigma_{bs}=\frac{4F}{\pi d^2}$　D. $\sigma_{bs}=\frac{4F}{\pi D^2}$

A)A

B)B
C)C
D)D
答案:A
解析:

提示:螺钉头与钢板之间的接触面是一个圆环面,故挤压面 $A_{bs}=\frac{\pi}{4}(D^2-d^2)$

$$\sigma_{bs}=\frac{F_{bs}}{A_{bs}}=\frac{F}{\frac{\pi}{4}(D^2-d^2)}$$

102.[单选题]如图所示,

动力荷载的频率 $\theta=\sqrt{\frac{12EI}{mH^3}}$，不考虑阻尼，AC杆A截面的最大动力弯矩$M_{AC}$为（　　）。

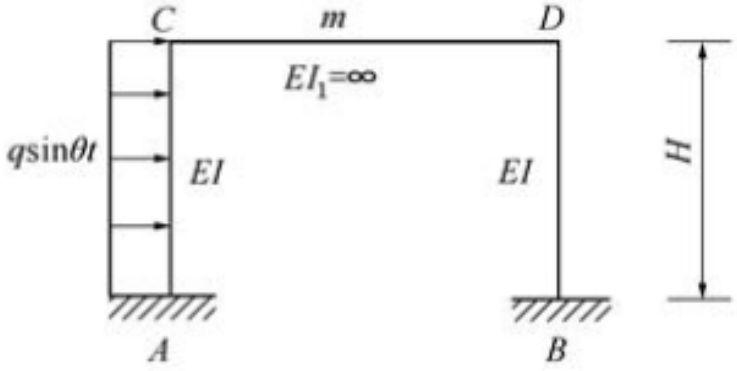

A. $\frac{qH^2}{8}$(左拉)

B. $\frac{qH^2}{4}$(右拉)

C. $\frac{qH^2}{12}$(左拉)

D. $\frac{5qH^2}{12}$(左拉)

A)A
B)B
C)C
D)D
答案:D
解析:

103.[单选题]WEB站点指的是( )。
A)WWW服务器
B)FTP服务器
C)邮件服务器

水平杆刚度无穷大，故结点C、D处转角为零，体系为单自由度体系。当杆CD发生水平线位移时，立柱的反弯点位于立柱中点处，所以立柱刚度为：$k_{CA}=k_{DB}=12\frac{EI}{H^3}$，从而体系刚度$k=\frac{24EI}{H^3}$；体系自振频率$\omega=\sqrt{\frac{k}{m}}=\sqrt{\frac{24EI}{mH^3}}$；动力放大系数$\beta=\frac{1}{1-\left(\frac{\theta}{\omega}\right)^2}=2$。两立柱均可看作下端固定、上端定向支承的杆件，当动荷载幅值q作用在立柱AC上时，由结构的对称性可得AC杆A截面的静弯矩为：$M_{ACst}=\frac{1}{12}qH^2+\frac{1}{8}qH^2=\frac{5}{24}qH^2$（左侧受拉）。因此最大动弯矩为$M_{ACmax}=\beta M_{ACst}=\frac{5}{12}qH^2$（左侧受拉）。

D)Telnet服务器
答案:A
解析:提供服务的称为服务器，提供WWW服务称为WEB服务器也称WEB站点。

104.[单选题]人力测评中了解人际关系能力最有效的方法是（ ）。
A)集体面试
B)无领导小组讨论
C)资历审核
D)文件筐测验
答案:B
解析:无领导小组讨论交叉讨论、频繁互动的过程有利于评价者从整个讨论过程捕捉被评价者的语言表达能力、人际影响力、领导风格等，适用于那些经常需要人际沟通的岗位的员工选拔。因此，本题应该选B。

105.[单选题]领导者若位高权重，要提高领导效能应注意（ ）。
A)联系群众
B)指导和监督
C)民主式领导
D)明确任务
答案:A
解析:位高权重的领导者容易和下属形成隔阂，在这种领导的下属只能奉命行事，易失去进取精神，不愿用创造性的方法去解决问题、改变问题，不能施展所有的才能。领导者不能只依靠自己手中的权力，还必须取得同事和下属的支持和配合。其实，领导者与被领导者之间的关系不应当只是一种刻板和冷漠的上下级关系，而应当建立真诚合作的同志关系。要建立起这种关系，除了要求领导者品德高尚、作风正派外，还要求领导者精通领导艺术。本题正确答案为A。

106.[单选题]设X,Y都服从标准正态分布,则().
A)X+Y服从正态分布
B)X^2+Y服从X2分布
C)X^2,Y^2都服从χ^2分布
D)X^2/Y^2服从F分布
答案:C
解析:因为X，Y不一定相互独立，所以X+Y不一定服从正态分布，同理(B)，(D)也不对，选(C).

107.[单选题]在Windows中，文件系统目录的组织形式属于：
A)关系型结构
B)网络型结构
C)树型结构
D)直线型结构
答案:C
解析:提示：在Windows中资源管理器的文件栏中，文件夹是按照树型组织的。

108.[单选题]两个阻值相同的电阻，并联后总电阻为5Ω，将它们改为串联，总电阻为（ ）Ω。
A)25
B)5
C)20
D)10
答案:C
解析:

109.[单选题]组织文化具有多种多样的表现形式，其中传统的表现形式是（ ）
A)物质象征
B)文字和标识
C)仪式
D)语言
答案:B
解析:

110.[单选题]公司将负责华北区域销售的大区经理调任到华东地区负责该区域的销售，职位不变，从人力资源流动的角度看符合（ ）。
A)行业间流动
B)垂直流动
C)企业间流动
D)水平流动
答案:D
解析:水平流动指没有直接发生社会地位变化的流动，可以是企业之间、部门之间、行业之间、地区之间和国家之间。

111.[单选题]沙赫特实验有关凝聚力与生产率关系的条件结果说明，无论凝聚力高低，积极诱导都提高了生产率，而且高凝聚力组的生产率相对更高。而消极诱导则明显降低了生产率，高凝聚力组的生产率（ ）。
A)更高
B)无变化
C)不确定
D)更低
答案:D
解析:

112.[单选题]一个富有吸引力的能更加让他人喜欢的人，其个性品质是（ ）
A)十全十美
B)平庸又犯小错
C)能力超群略有小错
D)平庸但很守规矩
答案:C
解析:

113.[单选题]（ ）的运用要关心生活，温暖心灵；发端于心，热诚待人；互相理解，顺畅沟通；开诚布公，倾听意见。
A)传播方法
B)情感方法
C)心理方法
D)经济方法
答案:B
解析:A选项管理中的传播方法.是指管理主体通过与管理对象的双向信息交流而建立起相互信任、相互理解的关系，从而达到预定的管理目标的方法。B选项情感管理就是管理者以真挚的情感，增强管理者与员工之间的情感联系和思想沟

通，满足员工的心理需求，形成和谐融洽的工作氛围，以提高管理效果的一种管理方式。C选项心理方法是指在管理过程中运用心理学知识，对人们的社会心理进行详细了解和科学分析，按照人们的心理活动特点和规律性，进行有效管理的一系列方法的总称。D选项经济方法是根据客观经济规律，运用各种经济手段，调节各种不同经济主体之间的关系，以获取较高的经济效益与社会效益的管理方法。通过比较定义可知题干所述为情感方法。答案为B。

114.[单选题]两个二端口（ ）连接，其端口条件总是满足的。
A)串联
B)并联
C)级联
D)a、b、c三种
答案:C
解析:

115.[单选题]规范研究方法重点解决客观经济现象的下列哪一项的问题？（ ）
A)是什么
B)怎么样
C)本质
D)应该是什么
答案:D
解析:规范研究方法以某种价值判断为基础，解决客观经济现象“应该是什么”的问题，即要说明所要研究的对象本身是好还是坏，对社会具有积极意义还是具有消极意义。因此，本题应该选D。

116.[单选题]对于一组数据：16、25、25、27、27、36、36、36、41、41、41、41，众数为（ ）。
A)16
B)25
C)36
D)41
答案:D
解析:

117.[单选题]已知圆截面杆扭转时，横截面上的最大剪应力为τmax，两端面间的相对扭转角为Φ。若圆杆的直径增大一倍(即为原直径的两倍)，则此时的最大剪应力τmax和相对扭 转角Φ与原来的τmax和Φ的比值为( )。
A)τmax/τmax=1/2，Φ/Φ=1/4
B)τmax/τmax=1/4，Φ/Φ=1/8
C)τmax/τmax=1/8，Φ/Φ=1/8
D)τmax/τmax=1/8，Φ/Φ=1/16
答案:D
解析:

118.[单选题]人类历史上最重要的人力资源流动是在（ ）之间进行的。
A)企业
B)产业
C)地区
D)国家
答案:B
解析:从第一产业向第二产业的流动、从第二产业向第三产业的流动就是人类历史上最重要的人力资源流动，由此而引发的人力资源流动也是规模最大、持续时间最长的。

119.[单选题]经济周期中的长周期指的是（ ）。
A)康德拉耶夫周期
B)朱格拉周期

本题主要考核圆杆扭转时的剪应力和扭角计算公式，应该熟记。

由最大剪应力计算公式 $\tau_{max}=\frac{M_T}{W_t}$

当扭矩不变时剪应力仅与抗扭截面系数 W_t 成反比，可得

$$\tau'_{max}/\tau_{max}=\frac{W_t}{W'_t}=\frac{\frac{\pi d^3}{16}}{\frac{\pi(2d)^3}{16}}=\frac{1}{8}$$

同理 $\phi=\frac{M_T l}{GI_P}$

可得 $\frac{\phi'}{\phi}=\frac{I_P}{I'_P}=\frac{\frac{\pi d^4}{32}}{\frac{\pi(2d)^4}{32}}=\frac{1}{16}$ 故应选答案(D)。

C)基钦周期
D)库兹涅茨周期
答案:A
解析:

120.[单选题]按照行政层级划分的事业单位中占事业单位总人数的比例最大的是（ ）。
A)直接隶属中央国家机关的
B)地、州、盟市所属事业单位
C)乡、镇事业单位
D)县、旗、市所属事业单位
答案:C
解析:按照行政层级划分，乡、镇事业单位占事业单位总人数的比例为30.2%，其他四项（直接隶属中央国家机关；省、自治区、直辖市政府机关各部门所属事业单位；地、州、盟市所属事业单位；县旗、市所属事业单位）依次为9.48%、9.67%、21.43%和29.23%。所以选C。

121.[单选题]在Word中，下列选项中哪种字号最大？()
A)五号
B)小五
C)四号
D)小四
答案:C
解析:在Word的中文字号中，数字越小字号越大，且标准字号比小字号大。

122.[单选题]信息论的创始人是()。
A)布尔
B)图灵
C)冯·诺伊曼

D)香农
答案:D
解析:克劳德·艾尔伍德·香农(ClaudeElwoodShannon)是美国数学家、信息论的创始人。1940年在麻省理工学院获得硕士和博士学位，1941年进入贝尔实验室工作。香农提出了信息熵的概念，为信息论和数字通信奠定了基础。

123.[单选题]处于新兴行业的企业更适合采取的薪酬调查方式是（ ）。
A)企业之间相互调查
B)问卷调查
C)访谈调查
D)委托中介机构调查
答案:D
解析:委托调查是指委托商业性、专业性的人力资源咨询公司进行调查。尤其是当企业需要确定薪酬水平的岗位难以在类似企业中找到对等的岗位时，或者该企业属于新兴行业时。因此本题应该选D。

124.[单选题]在组织结构设计中，职位的职权和职责越是对等一致，组织结构就越是有效。这就是组织工作中的（ ）。
A)权责一致原则
B)分工协作原则
C)目标统一原则
D)管理幅度原则
答案:A
解析:在组织结构设计中，职位的职权和职责越是对等一致，组织结构就越是有效。该原则是组织工作中的权责一致原则。

125.[单选题]组织行为学把对个人今后所要从事的职业、要去的工作组织和单位、要担负的工作职务和工作职位的发展道路，作出设想和计划的过程称为（ ）
A)事业生涯管理
B)事业生涯设计
C)事业生涯开发
D)事业生涯发展
答案:B
解析:

126.[单选题]当三极管工作于放大状态时，它的( )。
A)发射结和集电结都处于正偏置
B)发射结和集电结都处于反偏置
C)发射结处于反偏置，集电结处于正偏置
D)发射结处于正偏置，集电结处于反偏置
答案:D
解析:要使晶体管起放大作用，发射结必须正向偏置，发射区才可以向基区发射电子；集电结必须反向偏置，集电区才可以收集从发射区发射的电子。

127.[单选题]域名服务器的作用是( )。
A)为连入Internet网的主机分配域名
B)为连人Internet网的主机分配IP地址
C)将主机域名转换为IP地址
D)将主机的IP地址转换为域名
答案:C
解析:

128.[单选题]（ ）首先提出了“组织承诺”的概念。

A)默德
B)波特
C)贝克尔
D)梅耶
答案:C
解析:

129.[单选题]观测三角形内角3次，求得三角形闭合差分别为+8″、-10″和+2″，则三角形内角和的中误差为（ ）。
A)±6.7″
B)±7.5″
C)±9.2″
D)±20″
答案:B
解析:中误差是指有限次观测的偶然误差求得的标准差，即三角形内角和的中误差为：

$$m = \pm\sqrt{\frac{[\Delta\Delta]}{n}} = \pm\sqrt{\frac{(+8'')^2+(-10'')^2+(+2'')^2}{3}} = \pm 7.5''$$

130.[单选题]以下不属于创造性行为特点的是（ ）
A)首创性
B)有用性
C)适应性
D)可行性
答案:D
解析:

131.[单选题]下列哪项是将被考评者放在一个模拟管理岗位，让其在一段时间内参与文书的起草，并解决工作中出现的各种问题的技术？（ ）
A)个人报告
B)实务作业
C)管理游戏
D)个人测验
答案:B
解析:实务作业是模拟某一个管理岗位，让被考评者在一定的时间内，参与所有相关文件、文书（包括备忘录、信函等）的起草和处理，并解决工作中出现的各种问题。个人报告是指被考评者需要根据某一特定的管理题目，在众人面前作一陈述分析报告，考评者通过陈述报告，检测其表达能力和雄辩能力。因此，本题应该选B。

132.[单选题]“顾客是上帝”这是一种（ ）。
A)理性价值观
B)政治性价值观
C)集体价值观
D)社会价值观
答案:D
解析:

133.[单选题]作为管理的基本内容，（ ）与创新对系统的存在都是非常重要的。
A)创造
B)发明
C)维持
D)模仿
答案:C

解析:作为管理的基本内容，维持与创新对系统的存在都是非常重要的。故本题选C。

134.[单选题]图示结构MA影响线（P=1在BE上移动，MA右侧受拉为正）在B、D两点纵标（单位：m）分别为：

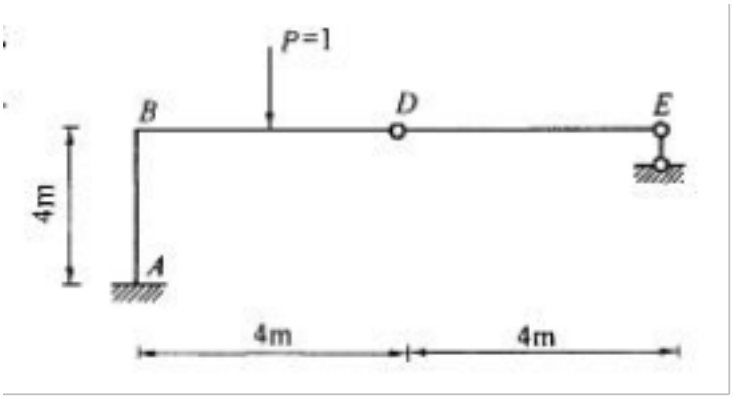

A)4，4
B)-4，-4
C)0，-4
D)0，4
答案:C
解析:提示：分别将P=1放在B、D两点求MA。

135.[单选题]提出“理性”决策标准的是（ ）
A)哈罗德·孔茨
B)西蒙
C)泰罗
D)威廉·庞治
答案:A
解析:

136.[单选题]剪应力互等定理仅适用于( )。
A)线弹性范围
B)纯剪切应力状态
C)受剪切的构件
D)单元体上两个相互垂直平面上的剪应力分析
答案:D
解析:剪应力互等定理是指在互相垂直的两个平面上，垂直于两平面交线的剪应力，总是大小相等，而方向则均指向或离开该交线，即：τ=τ′。

137.[单选题]社会合作学派的主要理论基础是（ ）。
A)心理学
B)社会学
C)经济学
D)法学
答案:B
解析:社会合作学派的主要理论基础是社会学。

138.[单选题]设(X1,X2,X3)为来自总体X的简单随机样本,则下列不是统计量的是().
A)A
B)B
C)C
D)D
答案:B

以上内容仅为本文档的试下载部分，为可阅读页数的一半内容。如要下载或阅读全文，请访问：https://d.book118.com/738066124002006046