陕西延安市实验中学数学七年级上册整式的加减章节测试

考试时间：90 分钟；命题人：教研组

考生注意：

1、本卷分第 I 卷（选择题）和第 II 卷（非选择题）两部分，满分 100 分，考试时间 90 分钟

2、答卷前，考生务必用 0.5 毫米黑色签字笔将自己的姓名、班级填写在试卷规定位置上

3、答案必须写在试卷各个题目指定区域内相应的位置，如需改动，先划掉原来的答案，然后再写上新的答案；不准使用涂改液、胶带纸、修正带，不按以上要求作答的答案无效。

第 I 卷（选择题　20 分）

一、单选题（10 小题，每小题 2 分，共计 20 分）

1、按如图所示的运算程序，能使输出的结果为12的是（　　）

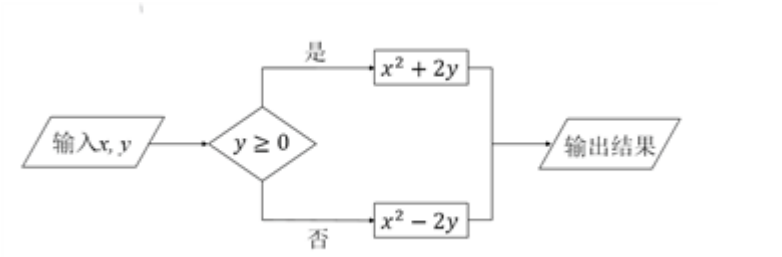

A．$x=3, y=3$

B．$x=-4, y=-2$

C．$x=2, y=4$

D．$x=4, y=2$

2、$-2(1-x)=$（　　）

A．$-2+2x$　　B．$-2-2x$　　C．$-2+x$　　D．$-2-x$

3、关于多项式$-2x^2y+3xy-1$，下列说法正确的是（　　）.

A．次数是 3　　B．常数项是 1　　C．次数是 5　　D．三次项是 $2x^2y$

4、如图是一张长方形的拼图卡片，它被分割成 4 个大小不同的正方形和一个长方形，若要计算整张卡片的周长，则只需知道其中一个正方形的边长即可，这个正方形的编号是（　　）

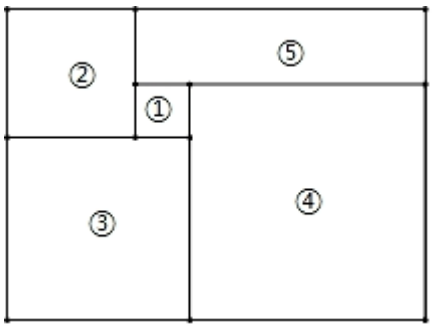

A．①　　B．②　　C．③　　D．④

5、当 x=﹣1 时，代数式 3x+1 的值是（　　）

A．﹣1　　B．﹣2　　C．4　　D．﹣4

6、下面说法中①$-a$ 一定是负数；②$0.5\pi ab$ 是二次单项式；③倒数等于它本身的数是 ±1；④若 $|a|=-a$，则 $a<0$；⑤由 $-2(x-4)=2$ 变形为 $x-4=-1$，正确的个数是（　　）

A．1 个　　B．2 个　　C．3 个　　D．4 个

7、已知 $5a^{x+1}b^3$ 与 $\frac{7}{12}a^5b^{y+1}$ 的和是单项式，则 $x+3y$ 等于（　　）

A．-10　　B．10　　C．12　　D．15

8、下列各正方形中的四个数之间都有相同的规律，根据此规律，x 的值为（　　）

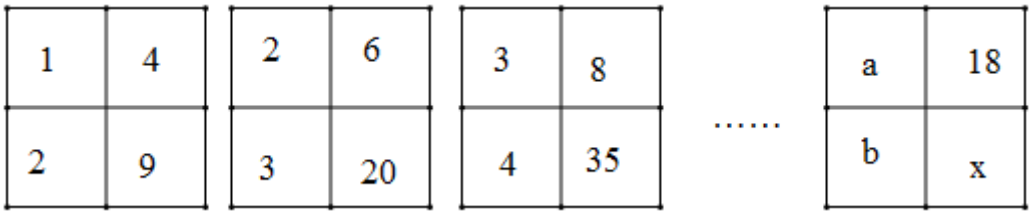

A．135　　B．153　　C．170　　D．189

9、下列式子中不是代数式的是（　　）

A．$3a+2b$　　B．$5+2$　　C．$a+b=1$　　D．$\dfrac{b}{a+1}$

10、单项式$2a^3b$的次数是（　　）

A．2　　B．3　　C．4　　D．5

第Ⅱ卷（非选择题　80 分）

二、填空题（10 小题，每小题 3 分，共计 30 分）

1、已知$2m-3n=-4$，则代数式$m(n-4)-n(m-6)$的值为_____.

2、去括号并合并同类项：

（1）$3a+b+2(a-2b)=$_____；（2）$2(x-3)-(5x+2)=$_____；

（3）$a-5(a+b)+3(2a-b)=$_____；（4）$3x-(6a+x-2)+4a-1=$_____.

3、如果一个矩形内部能用一些正方形铺满，既不重叠，又无缝隙，就称它为“优美矩形”，如图所示，“优美矩形”$ABCD$的周长为 26，则正方形d的边长为_____.

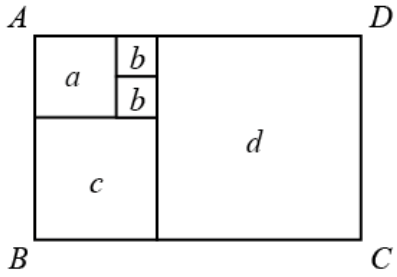

4、已知$x^2-3x+1=0$，则$3x^2-9x+5=$_____.

5、如果关于x的多项式$mx^4+4x^2-\dfrac{1}{2}$与多项式$3x^n+5x$的次数相同，则$-2n^2+3n-4=$_____.

6、若$a-2b=1$，则$3-2a+4b$的值是__.

7、观察下列各式的规律：①$1\times3-2^2=3-4=-1$；②$2\times4-3^2=8-9=-1$；③$3\times5-4^2=15-16=-1$．请按以上规律写出第 4 个算式_____．用含有字母的式子表示第 n 个算式为_____.

8、如果a，b互为倒数，c，d互为相反数，且$\boldsymbol{m=-1}$，则代数式$2ab-(c+d)+m=$_____.

9、若$(a-1)^2+|b+2|=0$，则$\frac{a+b}{a-b}$的值是_____.

10、如图，在数轴上，点A表示1，现将点A沿x轴做如下移动：第一次将点A向左移动3个单位长度到达点A_1，第二次将点A_1向右移动6个单位长度到达点A_2，第三次将点A_2向左移动9个单位长度到达点A_3，按照这种移动规律移动下去，第n次移动到点A_n，如果点A_n与原点的距离不小于20，那么n的最小值是_____.

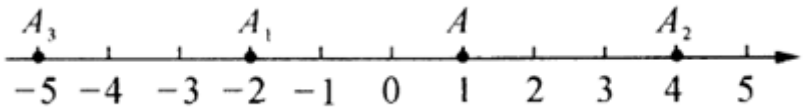

三、解答题（5小题，每小题10分，共计50分）

1、观察下面依次排列的各数，按照规律写出后面的数及其他要求的数.

1，$\frac{1}{2}$，$-\frac{1}{3}$，$-\frac{1}{4}$，$\frac{1}{5}$，$\frac{1}{6}$，$-\frac{1}{7}$，$-\frac{1}{8}$，_____，_____，…第2019个数是_____.

2、如图图案是用长度相同的火柴棒按一定规律拼搭而成，图案需8根火柴棒，图案②需15根火柴棒，图案②需15根火柴棒，…

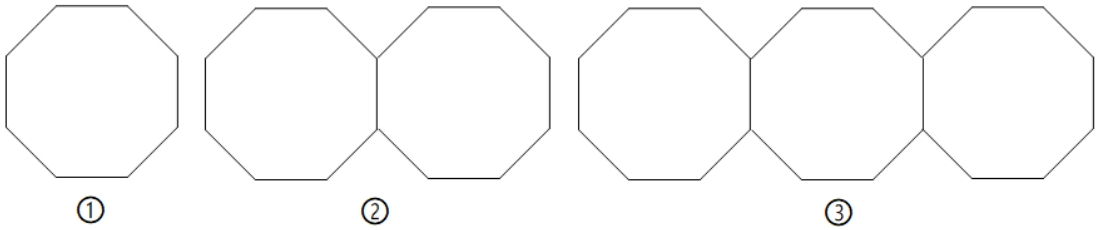

(1)按此规律，图案⑦需_____根火柴棒；

(2)用含n的代数式表示第n个图案需根火柴棒根数.

3、已知：$x^2+xy=12$，$xy+y^2=15$，求$(x+y)^2-(x+y)(x-y)$的值

4、【观察】1×49=49，2×48=96，3×47=141，…，23×27=621，24×26=624，25×25=625，26×24=624，27×23=621，…，47×3=141，48×2=96，49×1=49.

【发现】根据你的阅读回答问题：

（1）上述内容中，两数相乘，积的最大值为_____；

（2）设参与上述运算的第一个因数为a，第二个因数为b，用等式表示a与b的数量关系是_____.

【类比】观察下列两数的积：1×59，2×58，3×57，4×56，…，m×n，…，56×4，57×3，58×2，59×1.

猜想mn的最大值为_____，并用你学过的知识加以证明.

5、观察下列各式：$\frac{1}{1\times2}=1-\frac{1}{2}$，$\frac{1}{2\times3}=\frac{1}{2}-\frac{1}{3}$，$\frac{1}{3\times4}=\frac{1}{3}-\frac{1}{4}$，…

（1）请根据上式填写下列各题：

①$\frac{1}{8\times9}=$_____；

②$\frac{1}{n(n+1)}=$_____；（n是正整数）

③$\frac{1}{n(n-1)}=$_____；（$n\geqslant2$的正整数）

（2）计算：$\frac{1}{1\times2}+\frac{1}{2\times3}+\frac{1}{3\times4}+\ldots+\frac{1}{2019\times2020}+\frac{1}{2020\times2021}$.

-参考答案-

一、单选题

1、C

【解析】

【分析】

由题可知，代入x、y值前需先判断y的正负，再进行运算方式选择，据此逐项进行计算即可得.

【详解】

A选项$y\geqslant0$，故将x、y代入x^2+2y，输出结果为15，不符合题意；

B 选项 $y \leq 0$，故将 x 、 y 代入 $x^2 - 2y$，输出结果为 20，不符合题意；

C 选项$y \geqslant 0$，故将x、y代入x^2+2y，输出结果为12，符合题意；

D 选项$y \geqslant 0$，故将x、y代入x^2+2y，输出结果为20，不符合题意，

故选 C.

【考点】

本题主要考查程序型代数式求值，解题的关键是根据运算程序，先进行y的正负判断，选择对应运算方式，然后再进行计算.

2、A

【解析】

【分析】

根据去括号法则解答.

【详解】

解：$-2(1-x)=-2+2x$.

故选：A.

【考点】

本题考查去括号的方法：去括号时，运用乘法的分配律，先把括号前的数字与括号里各项相乘，再运用括号前是“+”，去括号后，括号里的各项都不改变符号；括号前是“-”，去括号后，括号里的各项都改变符号.

3、A

【解析】

【分析】

根据多项式的项、次数等相关概念并结合多项式$-2x^2y+3xy-1$进行分析，再分别判断即可.

【详解】

解：多项式$-2x^2y+3xy-1$，次数是 3，常数项是-1，三次项是$-2x^2y$，所以四个选项中只有 A 正确；

故答案为：A.

【考点】

本题考查了多项式的项的系数和次数定义的掌握情况．解题的关键是弄清多项式次数、常数项的定义．

4、C

【解析】

【分析】

设正方形③的边长为 x，正方形①的边长为 y，再表示出正方形②的边长为 $x-y$，正方形④的边长为 $x+y$，长方形⑤的长为 $y+x+y=x+2y$，则可计算出整张卡片的周长为 $8x$，从而可判断只需知道哪个正方形的边长．

【详解】

解：设正方形③的边长为 x，正方形①的边长为 y，则正方形②的边长为 $x-y$，正方形④的边长为 $x+y$，长方形⑤的长为 $y+x+y=x+2y$，

所以整张卡片的周长$=2(x-y+x)+2(x-y+x+2y)=4x-2y+2x-2y+2x+4y=8x$，

所以只需知道正方形③的边长即可．

故选：C.

【考点】

本题主要考查了整式加减应用，准确分析计算是解题的关键．

5、B

【解析】

【详解】

【分析】把 x 的值代入进行计算即可．

【详解】把 x=﹣1 代入 3x+1，

3x+1=﹣3+1=﹣2，

故选 B.

【考点】本题考查了代数式求值，熟练掌握运算法则是解本题的关键.

6、C

【解析】

【分析】

①-a 不一定是负数，例如 a=0 时；

②0.5πab 中字母为 a 与 b，指数和为 2，故是二次单项式，本选项正确；

③倒数等于它本身的数是±1，本选项正确；

④若|a|=-a，a 为非正数，本选项错误；

⑤由-2（x-4）=2 两边除以-2 得到 x-4=-1，本选项正确.

【详解】

①-a 不一定是负数，例如 a=0 时，-a=0，不是负数，本选项错误；

②0.5πab 是二次单项式，本选项正确；

③倒数等于它本身的数是±1，本选项正确；

④若|a|=-a，则 a≤0，本选项错误；

⑤由-2（x-4）=2 两边除以-2 得：x-4=-1，本选项正确，

则其中正确的选项有 3 个.

故选 C.

【考点】

此题考查了等式的性质，相反数，绝对值，倒数，以及单项式，熟练掌握各自的定义是解本题的关键.

7、B

【解析】

【分析】

由同类项的含义可得：$x+1=5, y+1=3$，再求解x, y，再代入代数式求值即可得到答案.

【详解】

解：因为$5a^{x+1}b^3$与$\frac{7}{12}a^5b^{y+1}$的和是单项式，所以它们是同类项，

所以$x+1=5, y+1=3$，

解得$x=4, y=2$.

所以$x+3y=4+3\times2=10$.

故选：B.

【考点】

本题考查的是同类项的含义，一元一次方程组的解法，代数式的值，掌握同类项的概念是解题的关键.

8、C

【解析】

【分析】

由观察发现每个正方形内有：$2\times2=4, 2\times3=6, 2\times4=8,$可求解$b$，从而得到$a$，再利用$a,b,x$之间的关系求解$x$即可.

【详解】

解：由观察分析：每个正方形内有：

$2\times2=4, 2\times3=6, 2\times4=8,$

$\therefore 2b=18,$

$\therefore b=9,$

由观察发现：$a=8,$

以上内容仅为本文档的试下载部分，为可阅读页数的一半内容。如要下载或阅读全文，请访问：https://d.book118.com/757066116124010015