选择题

读“地球自转示意图”，完成下面小题。

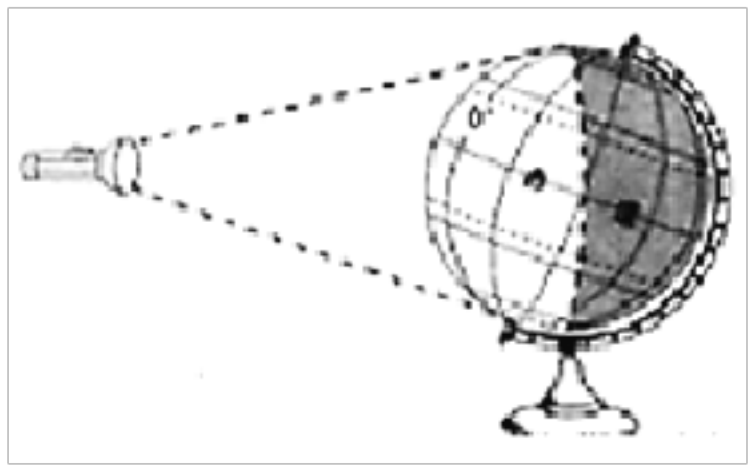

【1】下列说法正确的是

A.地球是一个正球体

B.平均半径约 6371 千米

C.北极圈是最长的纬线

D.地轴真实存在于地球内部

【2】关于 00 经线，下列说法有误的是

A.东西半球的分界线

B.东西经的分界线

C.又称为本初子午线

D.长度约为 2 万千米

【3】下列地理现象由地球自转产生的是

A.昼夜长短变化 B.四季更替

C.五带划分 D.日月星辰东升西落

【答案】

【1】B

【2】A

【3】D

【解析】

【1】地球是一个不规则球体，其平均半径是 6371 千米，A 错，B 正确；赤道是最长的纬线，地轴是假象的轴，C、D 错；故选 B。

【2】0°经线又称本初子午线，是东西经度的划分界线，经线的长度约为 2 万千米，东西半球的分界线是 20°W 和 160°E，依据题意，故选：A。

【3】A. 昼夜长短变化，B. 四季更替，C. 五带划分是地球公转产生的影响；日月星辰东升西落，是地球自转产生的地理现象；故选 B。

选择题

2019 年 10 月 1 日，庆祝建国 70 周年阅兵式在北京天安门广场(116°.23'17" E, 39°54' 27" N)隆重举行.读“中国示意图”，完成下面小题。

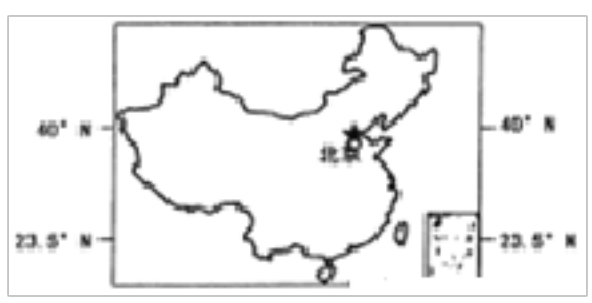

【1】小明想在地图上了解天安门广场的位置，应该选择

A.北京交通线路图

B.北京地形剖面图

C.中国行政区划图

D.中国气候类型图

【2】读图可知，北京位于五带中的

A.热带 B.北温带 C.南温带 D.北寒带

【3】2019 年 10 月 2 的升旗时间为 6 时 11 分，那天安门广场五星红旗每天伴着日出升起。那么 10 月 3 日的升旗时间最有可能是

A.5 时 10 分 B.5 时 30 分 C.5 时 50 分 D.6 时 12 分

【答案】

【1】A

【2】B

【3】D

【解析】

【1】不同的地图有不同的功能，根据需求需求选择合适的地图，

A. 北京交通线路图可以了解天安门的位置，故 A 符合题意；

B. 北京地形剖面图可以了解北京的地形地势，故 B 不符合题意；

C. 中国行政区划图可以了解北京在我国的位置，故 C 不符合题意；

D. 中国气候类型图可以了解我国的气候分布，故 D 不符合题意；

选 A。

【2】北京天安门广场(116°.23'17" E, 39°54' 27" N)，根据其纬度可以得知北京在北温带，(23.5°N-66.5°N 为北温带)；B 符合题意。

【3】2019 年 10 月 2 的升旗时间为 6 时 11 分，这时太阳直射点向南移动，黑夜每天在增长，白天在变短，故 10 月 3 日的升旗时间会比 10 月 1 日晚，D 符合题意。

选择题

读“地球海陆面积比例示意图”，下列说法正确的是

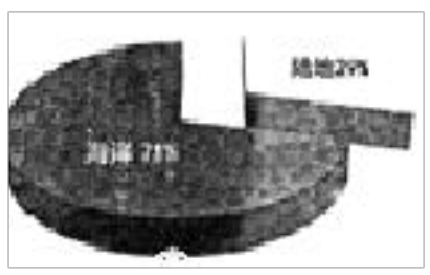

A.北半球陆地面积大于海洋

B.全球陆地海洋比例大致相等

C.三分陆地，七分海洋

D.三分海洋，七分陆地

【答案】C

【解析】

图中可知，地球表面 71%是海洋,而陆地面积仅占 29%，一般我们讲三分陆地，七分海洋，C 符合题意。

选择题

读“某地等高线图”和“某村及周边示意图”，完成下面小题。

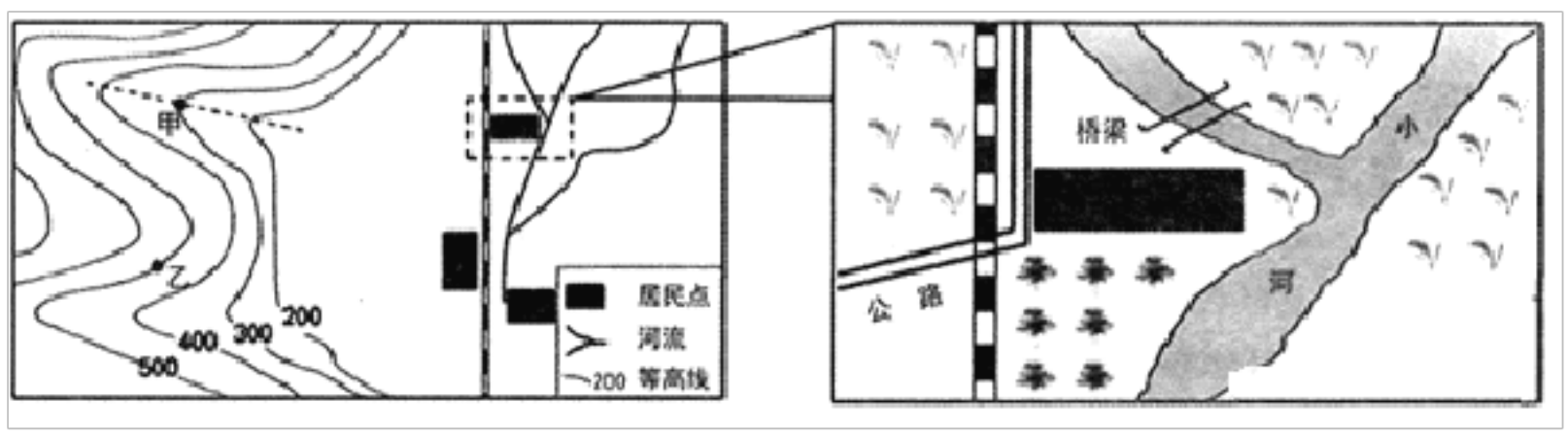

【1】左图中“ ”表示的地理事物是

A.山脉 B.国界

C.铁路 D.高速公路

【2】左图中甲地所处的地形部位是

A.山脊 B.陡崖

C.鞍部 D.山谷

【3】左图中甲、乙两地的相对高度是

A.100 米 B.200 米

C.400 米 D.600 米

【4】左图和右图图幅大小相同，两者相比

A.左图实地范围较小

B.右图实地范围较大

C.左图内容较详细

D.右图内容较详细

【答案】

【1】C

【2】D

【3】B

【4】D

【解析】

【1】左图中“”表示的地理事物是铁路，C 符合题意。

【2】图中甲的等高线向高值凸出是山谷，D 符合题意。

【3】图中可知，甲的海拔为 300 米。乙的海拔为 500 米，甲乙的相对高度是 500-300=200 米；B 符合题意。

【4】左图和右图图幅大小相同，图中可知，右图实际范围小，内容详细；左图范围大，内容简单；故选：D。

选择题

某地质调查小分队准备对如图所示区域进行一次野外调查.读“世界局部板块分布图”，完成下面小题。



【1】考察队途经的 a 处是

A.巴拿马运河

B.土耳其海峡

C.苏伊士运河

D.白令海峡

【2】考察队员整理了有关东非大裂谷的实地考察资料，记录有误的是

A.大裂谷地跨欧亚两大洲

B.裂谷带分布着多座火山

C.裂谷的面积在逐渐增大

D.裂谷大致呈南北走向

【3】考察队员来到位于意大利西西里岛的埃特纳火山进行地质考察。该火山是欧洲海拔最高的活火山，位于

A.欧亚板块内部

B.非洲板块内部

C.欧亚板块与印度洋板块交界地带

D.欧亚板块与非洲板块交界地带

【4】考察队在行经东非大裂谷时当地发生地震，队员的正确做法是

A.跳入就近的湖泊中

B.向空旷平坦的地方避难

C.跑到悬崖下躲避

D.就近进入建筑物躲避

【答案】

【1】C

【2】A

【3】D

【4】B

【解析】

【1】从图中可知，a 是亚洲和非洲的分界线-苏伊士运河。C 符合题意。

【2】从图中可知，裂谷跨越了非洲和亚洲，A 描述错误，其它选项描述正确;选 A。

【3】从图中可知，意大利西西里岛的埃特纳火山位于欧亚板块与非洲板块交界地带；D 符合题意。

【4】在野外发生地震，可以选择向空旷平坦的地方避难，A 正确；跳入湖中，或悬崖下躲避，进入建筑物躲避都是不正确的做法，BCD 错；

选 A。

选择题

2019 年第 19 号台风海贝斯，登陆日本时，造成了巨大损失。下列表示台风的天气符号是

A.  B.  C.  D. 

【答案】B

【解析】

图中 A 是阴天，B 是台风，C 是多云，D 是大雨，故 B 符合题意。

选择题

第 21 届联合国气候变化大会提出，到本世纪末把全球气温增幅控制在 2?以内。中国承诺，到 2030 年碳强度(单位国内生产总值二氧化碳排放量)在 2005 年的基础上降低 60%-65%。为达到我国碳强度降低的目标，我们可以做的是

A.在生活中常常使用塑料袋

B.爱护课本，循环使用

C.就餐多选择一次性餐具

D.选择私家车出行

【答案】B

【解析】

生活中常常使用塑料袋，使用一次性餐具，多选择私家车出行都是对环境造成污染；只有爱护课本，循环使用，间接保护了树木，是保护环境；B 符合题意。

选择题

横穿澳大利亚大陆是一条热门的旅游线路.从海洋到高山，从灌木到丛林，从戈壁到荒漠，从城镇到沙滩.....领略大自然的鬼斧神工.读“澳

大利亚大陆年降水量分布图和a, b两地气候资料图”，完成下面小题。

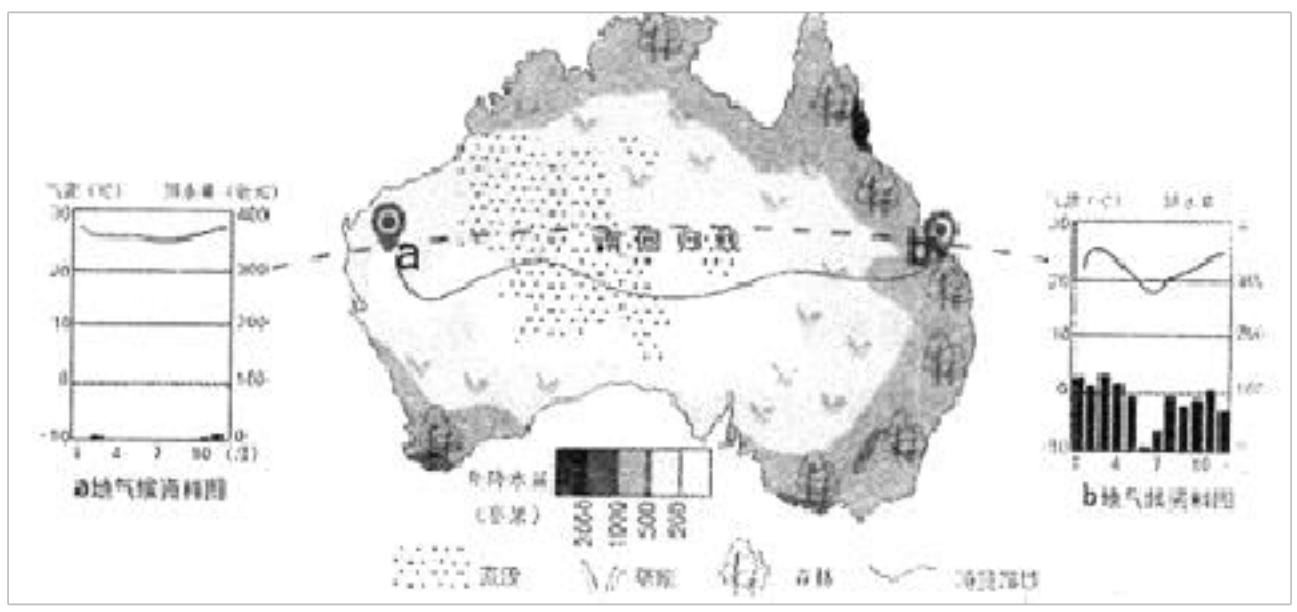

【1】旅途计划从a地开始，结合气候资料可知a地的气候类型是

A.热带草原气候 B.热带雨林气候 C.热带沙漠气候 D.热带季风气候

【2】根据上图可知

A.a地降水丰富且分布均匀

B.b地深居内陆地区

C.回归线附近大陆东岸降水多

D.该大陆位于北半球

【3】从b地返回a地，沿途依次可以看到的景观是

A.草原-荒漠-森林

B.荒漠-草原-森林

C.草原-森林-荒漠

D.森林-草原-荒漠

【答案】

【1】C

【2】C

【3】D

【解析】

【1】从图中可知，a 地气候特点是全年高温干燥，是典型的热带沙漠气候；C 符合题意。

【2】从图中可知，a 地全年干旱，A 错；

b 地在沿海地区，B 错；

回归线附近大陆东岸降水多，C 正确；

该大陆位于南半球，D 错；

选 C。

【3】图中可知，从 b 地返回 a 地其降水量减少，其景观是森林-草原-荒漠；D 符合题意。

选择题

读“某地天气预报图”，我们可以从图中了解到的信息是

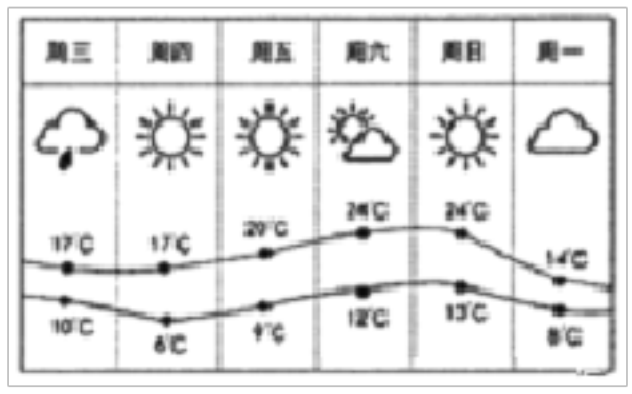

A.周末适宜户外活动

B.周日气温日较差最大

C.周五外出需携带雨具

D.周一气温将有所回升

【答案】A

【解析】

天气影响人们的生活和生产，从图中可知，周日是晴天，气温在13℃-24℃，这种天气非常适合户外活动；故 A 符合题意；周五气温日较差最大，为 20℃，故 B 不符合题意；周五是晴天，外出不需携带雨具，故 C 不符合题意；周一气温将有所下降，故 D 不符合题意；故选：A。

选择题

①昆明是一个四季如春的城市，② 2019 年 12 月 1 日晴空万里艳阳高照，2 日气温骤降，低至 10 摄氏度，③天空还下起了朦朦细雨，④到了 5 日昆明迎来 2019 年的第一场雪……上述文字中描写气候的是

A.① B.② C.③ D.④

【答案】A

【解析】

天气与气候是两个不同的概念，正确区分这两个概念是解答本题的关键。天气是某地距离地表较近的大气层在短时间内的变化，特点是多变；气候是某个地方多年的天气平均状况，具有稳定性。

天气是某地距离地表较近的大气层在短时间内的变化，特点是多变；

气候是某个地方多年的天气平均状况，具有稳定性；①昆明是一个四季如春的城市描述的是气候，② 2019 年 12 月 1 日晴空万里艳阳高照，2 日气温骤降，低至 10 摄氏度，③天空还下起了朦朦细雨，④到了 5 日昆明迎来 2019 年的第一场雪……描述的天气；依据题意，故选：A。

选择题

阅读“世界人口垂直分布趋势”和“世界人口纬度分布趋势”，我们可以看出

海拔（米）	<200	200~500	500~1000	1000~1500	1500~2000	>2000
人口占世界总人口的比例	56.2%	24.0%	11.6%	4.4%	2.3%	1.5%

纬度	>60° N	40° ~60° N	20° ~40° N	0° ~20° N	0° ~20° S	20° ~40° S	>40° S
人口占世界总人的比例	0.4%	30%	49.4%	10.4%	6.1%	3.5%	0.2%

①海拔较低的平原丘陵地区是人口稠密区

②高原高山地区是人口的稀疏区

③分布在北半球高纬度地区的人口仅占总人口的 0.2%

④南半球人口多于北半球

A.①② B.②③ C.③④ D.①④

以上内容仅为本文档的试下载部分，为可阅读页数的一半内容。如要下载或阅读全文，请访问：https://d.book118.com/777050012032006033