内蒙古翁牛特旗乌丹第一中学数学七年级上册整式的加减同步测评

考试时间：90 分钟；命题人：教研组

考生注意：

1、本卷分第 I 卷（选择题）和第 II 卷（非选择题）两部分，满分 100 分，考试时间 90 分钟

2、答卷前，考生务必用 0.5 毫米黑色签字笔将自己的姓名、班级填写在试卷规定位置上

3、答案必须写在试卷各个题目指定区域内相应的位置，如需改动，先划掉原来的答案，然后再写上新的答案；不准使用涂改液、胶带纸、修正带，不按以上要求作答的答案无效。

第 I 卷（选择题　20 分）

一、单选题（10 小题，每小题 2 分，共计 20 分）

1、下列单项式中，a^2b^3 的同类项是（　　）

A．a^3b^2　　B．$2a^2b^3$　　C．a^2b　　D．ab^3

2、如果 $-2x^2y^n$ 与 $-5x^{m-1}y$ 的和是单项式，那么 m，n 的值分别是

A．$m=2$，$n=1$　　B．$m=1$，$n=2$

C．$m=3$，$n=1$　　D．$m=3$，$n=2$

3、下列说法正确的是（　　）

A．单项式 x 的系数是 0

B．单项式 -3^2xy^2 的系数是 -3，次数是 5

C．多项式 x^2+2x 的次数是 2

D．单项式 -5 的次数是 1

4、已知 a、b、c 在数轴上的位置如图，下列说法：①$abc>0$；②$c+a>0$；③$c-b<0$；④$\frac{c}{b}>0$．正确的有（　　）



A．1 个　　B．2 个　　C．3 个　　D．4 个

5、整式$\left(xyz^2+4xy-1\right)+\left(-3xy+z^2yx-3\right)-\left(2xyz^2+xy\right)$的值（　　）.

A．与 x、y、z 的值都有关　　B．只与 x 的值有关　C．只与 x、y 的值有关　　D．与 x、y、z 的值都无关

6、下列图中所有小正方形都是全等的．图（1）是一张由 4 个小正方形组成的“L”形纸片，图（2）是一张由 6 个小正方形组成的3×2方格纸片．把“L”形纸片放置在图（2）中，使它恰好盖住其中的 4 个小正方形，共有如图（3）中的 4 种不同放置方法，图（4）是一张由 36 个小正方形组成的6×6方格纸片，将“L”形纸片放置在图（4）中，使它恰好盖住其中的 4 个小正方形，共有n种不同放置方法，则n的值是（　　）

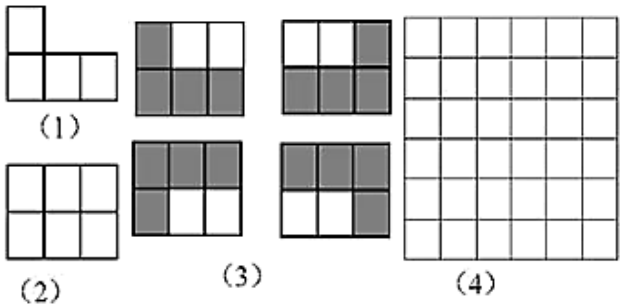

A．160　　B．128　　C．80　　D．48

7、代数式$a^2-\frac{1}{b}$的正确解释是（　　）

A．a与b的倒数的差的平方　　B．a与b的差的平方的倒数

C．a的平方与b的差的倒数　　D．a的平方与b的倒数的差

8、用代数式表示：a的 2 倍与 3 的和.下列表示正确的是（　　）

A．$2a-3$　　B．$2a+3$　　C．$2(a-3)$　　D．$2(a+3)$

9、下列去括号错误的个数共有（　　）.

①$2y^2-(3x-y+3z)=2y^2-3x-y+3z$；　　②$9x^2-[y-(5z+4)]=9x^2-y+5z+4$；

③$4x+[-6y+(5z-1)]=4x-6y-5z+1$；　　④$-(9x+2y)+(z+4)=-9x-2y-z-4$.

A．0 个　　B．1 个　　C．2 个　　D．3 个

10、把多项式$3x^2-7+2x-5x^2-x+6-x$合并同类项后所得的结果是（　　）.

A．二次三项式　　B．二次二项式　　C．一次二项式　　D．单项式

第Ⅱ卷（非选择题　80 分）

二、填空题（10 小题，每小题 3 分，共计 30 分）

1、若多项式$xy^{|m-n|}+(n-2)x^2y^2+1$是关于 x，y 的三次多项式，则$mn=$_____.

2、已知$x^2-3x+1=0$，则$3x^2-9x+5=$_____.

3、已知整数 a_1，a_2，a_3，a_4，…满足下列条件：a_1=0，a_2=-|a_1+1|，a_3=-|a_2+2|，a_4=-|a_3+3|，…，依此类推，则 a_{2019}的值为_____.

4、去括号并合并同类项：

（1）$3a+b+2(a-2b)=$_____；（2）$2(x-3)-(5x+2)=$_____；

（3）$a-5(a+b)+3(2a-b)=$_____；（4）$3x-(6a+x-2)+4a-1=$_____.

5、已知 2m−3n=−4，则代数式 m(n−4)−n(m−6)的值为_____.

6、某数学老师在课外活动中做了一个有趣的游戏：首先发给 A、B、C 三个同学相同数量的扑克牌(假定发到每个同学手中的扑克牌数量足够多)，然后依次完成以下三个步骤：

第一步，A 同学拿出二张扑克牌给 B 同学；

第二步，C 同学拿出三张扑克牌给 B 同学；

第三步，A 同学手中此时有多少张扑克牌，B 同学就拿出多少张扑克牌给 A 同学.

请你确定，最终 B 同学手中剩余的扑克牌的张数为_____.

7、如果代数式$a+8b$的值为-5，那么代数式$3(a-2b)-5(a+2b)$的值为_____.

8、观察下列各式的规律：①$1\times3-2^2=3-4=-1$；②$2\times4-3^2=8-9=-1$；③$3\times5-4^2=15-16=-1$．请

按以上规律写出第 4 个算式_____．用含有字母的式子表示第 n 个算式为_____．

9、观察下列图中所示的一系列图形，它们是按一定规律排列的，依照此规律，第 2018 个图形中共有_____个○.

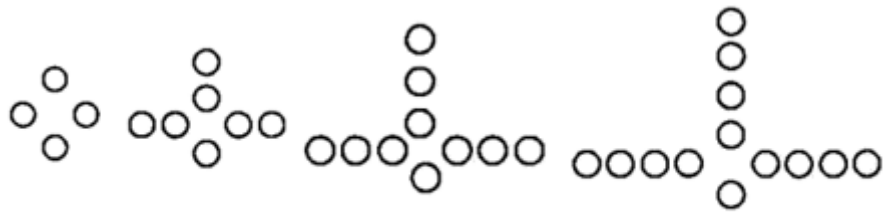

第 1 个　　第 2 个　　第 3 个　　第 4 个

10、已知，$x-3=2021$，则$(x-3)^2-2021(x-3)+1$的值为_____.

三、解答题（5 小题，每小题 10 分，共计 50 分）

1、某商场将进货价为 30 元的台灯以 40 元的销售价售出，平均每月能售出 600 个．经市场调研发现，销售价每上涨 1 元，其销售量就将减少 10 个．设每个台灯的销售价上涨 a 元.

(1)用含 a 的代数式填空：①涨价后，每个台灯的销售价为_____元；

②涨价后，商场的台灯平均每月的销售量为_____个；

(2)如果商场要想销售利润平均每月达到 10000 元，商场经理甲说“在原售价每台 40 元的基础上再上涨 40 元，可以完成任务”；商场经理乙说“不用涨那么多，在原售价每台 40 元的基础上再上涨 10 元就可以了”，试判断经理甲与乙的说法是否正确，并说明理由.

2、如图，在一条不完整的数轴上，从左到右的点 A，B，C 把数轴分成①②③④四部分，点 A，B，C 对应的数分别是 a，b，c，已知 bc<0.



（1）请说明原点在第几部分；

（2）若 AC=5，BC=3，b=-1，求 a

（3）若点 B 到表示 1 的点的距离与点 C 到表示 1 的点的距离相等，且$a-b-c=-3$，求$-a+3b-(b-2c)$的值.

3、已知 x，y 为有理数，现规定一种新运算*，满足 $x*y=xy-5$.

（1）求（4*2）*（﹣3）的值；

（2）任意选择两个有理数，分别填入下列□和○中，并比较它们的运算结果：多次重复以上过程，你发现：□*○_____○*□（用“>”“<”或“=”填空）；

（3）记 $M=a*(b-c)$，$N=a*b-a*c$，请探究 M 与 N 的关系，用等式表达出来.

4、化简：

（1）$\left(4a^2b-2ab^2\right)-3\left(ab^2-2a^2b\right)$；

（2）$3x^2-\left[7x-(4x-3)-2x^2\right]$.

5、如图，在一条道路的同侧有 A，B，C，D 四个小区，其中 A 与 B 相距 xm，B 与 C 相距 150m，C 与 D 相距 xm，某公司的员工住在 A 小区的有 20 人，B 小区的有 6 人，C 小区的有 15 人，D 小区的有 8 人.

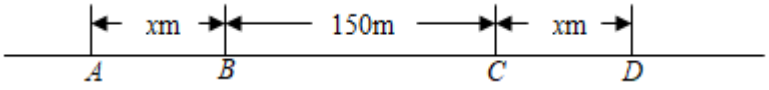

(1)该公司计划在 B，C 小区的位置任选一个作为班车停靠点，设所有员工步行到 B，C 小区的路程总和分别为 s_1，s_2，试求 s_1，s_2；（用含 x 的代数式表示）

(2)为了使所有员工步行到班车停靠点的路程总和最小，那么停靠点的位置应该选在 B 小区还是 C 小区？请说明理由.

-参考答案-

一、单选题

1、B

【解析】

【分析】

比较对应字母的指数，分别相等就是同类项

【详解】

∵a的指数是3，b的指数是2，与a^2b^3中a的指数是2，b的指数是3不一致，

∴a^3b^2不是a^2b^3的同类项，不符合题意；

∵a的指数是2，b的指数是3，与a^2b^3中a的指数是2，b的指数是3一致，

∴$2a^2b^3$是a^2b^3的同类项，符合题意；

∵a的指数是2，b的指数是1，与a^2b^3中a的指数是2，b的指数是3不一致，

∴a^2b不是a^2b^3的同类项，不符合题意；

∵a的指数是1，b的指数是3，与a^2b^3中a的指数是2，b的指数是3不一致，

∴ab^3不是a^2b^3的同类项，不符合题意；

故选B

【考点】

本题考查了同类项，正确理解同类项的定义是解题的关键.

2、C

【解析】

【分析】

两个单项式的和为单项式，则这两个单项式是同类项，再根据同类项的定义列出关于m，n的方程组，即可求出m，n的值.

【详解】

$-2x^2y^n$与$-5x^{m-1}y$的和是单项式,

则$-2x^2y^n$与$-5x^{m-1}y$是同类项，

$$\begin{cases} m-1=2 \\ n=1, \end{cases}$$

解得：m=3，n=1

故选 C.

【考点】

考查同类项的概念，掌握两个单项式的和为单项式，则这两个单项式是同类项是解题的关键.

3、C

【解析】

【分析】

直接利用单项式和多项式的有关定义分析得出答案.

【详解】

解：*A*、单项式 x 的系数是 1，故此选项错误；

B、单项式 -3^2xy^2 的系数是 - 9，次数是 3，故此选项错误；

C、多项式 x^2+2x 的次数是 2，正确；

D、单项式 - 5 次数是 0，故此选项错误.

故选：*C*.

【考点】

此题考查单项式系数和次数定义，及多项式的次数定义，熟记定义是解题的关键.

4、C

【解析】

【分析】

根据 a、b、c 在数轴上的位置可得出 $a>0$、$c<b<0$，$|b|<a<|c|$，对各选项一一判断即可.

【详解】

解：∵a、b、c 在数轴上的位置如图，

∴$a>0$，$c<b<0$，$|b|<a<|c|$，

∵a、b、c中两负一正，故①abc>0 正确；

∵a＜ |c|，c＜0，

∴a+ c＜0

故②c+a>0 不正确；

∵c＜ b，|b|＜a＜ |c|

∴c－b＜0，

故③c－b<0 正确；

∵c＜ b<0，

∴$\frac{c}{b}$根据有理数的除法法则，两数相除同号得正异号得负，

∴$\frac{c}{b}$>0，

故④$\frac{c}{b}$>0 正确；

正确的个数有 3 个.

故选择 C.

【考点】

本题考查利用数轴上表示数判定代数式的符号问题，掌握有理数的加减乘除的符号的确定方法，数形结合思想的利用，关键从数轴确定 a、b、c 的大小与绝对值的大小.

5、D

【解析】

【分析】

原式去括号合并得到最简结果，判断即可.

【详解】

解：原式=$xyz^2+4yx-1-3xy+z^2yx-3-2xyz^2-xy=-4$，

则代数式的值与 x、y、z 的取值都无关.

故选 D.

【考点】

本题主要考查了整式的加减，解决本题的关键是要熟练掌握运算法则是解本题的关键.

6、A

【解析】

【分析】

先计算出6×6方格纸片中共含有多少个3×2方格纸片，再乘以 4 即可得.

【详解】

由图可知，在6×6方格纸片中，3×2方格纸片的个数为$5\times4\times2=40$（个）

则$n=40\times4=160$

故选：A.

【考点】

本题考查了图形类规律探索，正确得出在6×6方格纸片中，3×2方格纸片的个数是解题关键.

7、D

【解析】

【分析】

说出代数式的意义，实际上就是把代数式用语言叙述出来．叙述时，要求既要表明运算的顺序，又要说出运算的最终结果.

【详解】

解：代数式$a^2-\frac{1}{b}$的正确解释是a的平方与b的倒数的差.

以上内容仅为本文档的试下载部分，为可阅读页数的一半内容。如要下载或阅读全文，请访问：https://d.book118.com/806102031151011020