河南淮阳县数学七年级上册整式的加减专题训练

考试时间：90 分钟；命题人：教研组

考生注意：

1、本卷分第 I 卷（选择题）和第 II 卷（非选择题）两部分，满分 100 分，考试时间 90 分钟

2、答卷前，考生务必用 0.5 毫米黑色签字笔将自己的姓名、班级填写在试卷规定位置上

3、答案必须写在试卷各个题目指定区域内相应的位置，如需改动，先划掉原来的答案，然后再写上新的答案；不准使用涂改液、胶带纸、修正带，不按以上要求作答的答案无效。

第 I 卷（选择题　20 分）

一、单选题（10 小题，每小题 2 分，共计 20 分）

1、某天数学课上老师讲了整式的加减运算，小颖回到家后拿出自己的课堂笔记，认真地复习老师在课堂上所讲的内容，她突然发现一道题目：$\left(2a^2+3ab-b^2\right)-\left(-3a^2+ab+5b^2\right)=5a^2$ ▬ $-6b^2$，空格的地方被墨水弄脏了，请问空格中的一项是（ ）

A．$+2ab$　　B．$+3ab$　　C．$+4ab$　　D．$-ab$

2、把黑色三角形按如图所示的规律拼图案，其中第①个图案中有 1 个黑色三角形，第②个图案中有 3 个黑色三角形，第③个图案中有 6 个黑色三角形，…，按此规律排列下去，则第⑤个图案中黑色三角形的个数为（　　）



A．10　　B．15　　C．18　　D．21

3、单项式 $2a^3b$ 的次数是（　　）

A．2　　B．3　　C．4　　D．5

4、某商品打七折后价格为 a 元，则原价为（　　）

A．a 元　　B．$\frac{10}{7}$a 元　　C．30%a 元　　D．$\frac{7}{10}$a 元

5、下列代数式中是二次三项式的是（　　）

A．$2x+x^2-x^3$　　B．$x^2+2xy+y^2$　　C．$2\left(m^2-mn\right)$　　D．a^3+2a^2-1

6、下列说法正确的是（　　）

A．$-3ab^2$的系数是－3　　B．$4a^3b$的次数是 3

C．$2a+b-1$的各项分别为 $2a$，b，1　　D．多项式x^2-1是二次三项式

7、下列各式中，符合代数式书写规则的是（　　）

A．$-2\frac{1}{6}p$　　B．$a\times\frac{1}{4}$　　C．$\frac{7}{3}x^2$　　D．$2y\div z$

8、已知$a^2+2a=1$，则代数式$2\left(a^2+2a\right)-1$的值为（　　）

A．0　　B．1　　C．-1　　D．-2

9、式子$x+yz$，$-2x$，ax^2+bx+c，0，$\frac{x^2y}{\pi-1}$，a，$\frac{b}{x}$中，下列结论正确的是（　　）

A．有 4 个单项式，2 个多项式　　B．有 3 个单项式，3 个多项式

C．有 5 个整式　　D．以上答案均不对

10、把多项式$3x^2-7+2x-5x^2-x+6-x$合并同类项后所得的结果是（　　）.

A．二次三项式　　B．二次二项式　　C．一次二项式　　D．单项式

第Ⅱ卷（非选择题　80 分）

二、填空题（10 小题，每小题 3 分，共计 30 分）

1、若 $7a^xb^2$与$-a^3b^y$的和为单项式，则 y^x＝_____.

2、已知一列数 2，8，26，80．…，按此规律，则第 n 个数是_____.（用含 n 的代数式表示）

3、如图，点 A，B 在数轴上，点 O 为原点，$OA=OB$．在数轴上截取 $BC=AB$，点 A 表示的数是 m

，则点C表示的数是_____（用含字母m的代数式表示）.

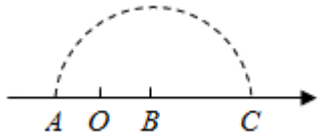

4、如图是一组有规律的图案，它们由边长相同的正方形和正八边形组成，其中正方形涂有阴影，依此规律，第n个图案中有_____个涂有阴影的正方形.（用含n的代数式表示）

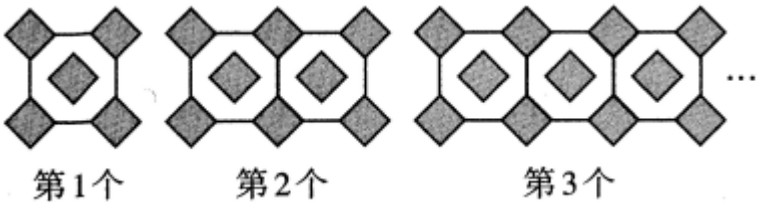

5、单项式$-\frac{3^2x^2y^3}{5}$的系数是_____，次数是_____.

6、如图，在数轴上，点A表示1，现将点A沿x轴做如下移动：第一次将点A向左移动3个单位长度到达点A_1，第二次将点A_1向右移动6个单位长度到达点A_2，第三次将点A_2向左移动9个单位长度到达点A_3，按照这种移动规律移动下去，第n次移动到点A_n，如果点A_n与原点的距离不小于20，那么n的最小值是_____.

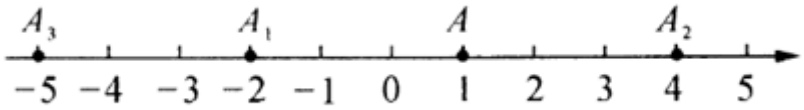

7、有规律地排列着这样一些单项式：$xy^2,x^2y^4,x^3y^6,x^4y^8,x^5y^{10},x^6y^{12}$．…，则第$n$个单项式（$n\geq1$且$n$为正整数）可表示为_____.

8、有一列数按如下规律排列：$\frac{\sqrt{2}}{2}$，$\frac{\sqrt{3}}{4}$，$\frac{1}{3}$，$\frac{\sqrt{5}}{8}$，$\frac{\sqrt{6}}{10}$，$\frac{\sqrt{7}}{12}$，…，则第2022个数是 _____.

9、去括号并合并同类项：

（1）$3a+b+2(a-2b)=$_____；（2）$2(x-3)-(5x+2)=$_____；

（3）$a-5(a+b)+3(2a-b)=$_____；（4）$3x-(6a+x-2)+4a-1=$_____.

10、在下列各式①$\frac{a^2bc^3}{5}$，②0，③$\frac{x-y}{3}$，④$\frac{3}{\pi}$，⑤$s=\pi r^2$，⑥$-\frac{7}{x+5}$，⑦b^2-4ac，⑧m，⑨$\frac{1}{a}+1$中，其中单项式是_____，多项式是_____，整式是_____.（填序号）

三、解答题（5 小题，每小题 10 分，共计 50 分）

1、如图，将连续的奇数 1，3，5，7…按图 1 中的方式排成一个数表，用一个十字框框住 5 个数，这样框出的任意 5 个数（如图 2）分别用 a，b，c，d，x 表示.

（1）若 x=17，则 a+b+c+d=_____.

（2）移动十字框，用 x 表示 a+b+c+d=_____.

（3）设 M=a+b+c+d+x，判断 M 的值能否等于 2020，请说明理由.

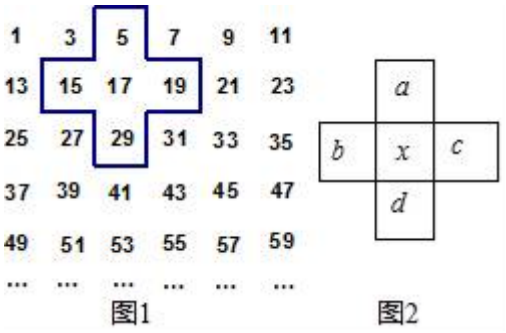

图1　　图2

2、下列图形是用五角星摆成的，如果按照此规律继续摆下去：



（1）第 4 个图形需要用 _____个五角星；第 5 个图形需要用 _____个五角星；

（2）第 n 个图形需要用 _____个五角星；

（3）用 6064 个五角星摆出的图案应该是第 _____个图形；

（4）现有 1059 个五角星，能否摆成符合以上规律的图形（1059 个五角星要求全部用上），请说明理由.

3、要对一组对象进行分类，关键是要选定一个分类标准，不同的分类标准有不同的结果．如对下面给

出的七个单项式：$2x^3z$，xyz，$3y^2$，$-5y^2x$，$-z^2x^2$，$\frac{1}{3}x^2yz$，z^3

进行分类，若按单项式的次数分类：二次单项式有$\frac{1}{3}y^2$；三次单项式有xyz，$-5y^2x$，z^3；四次单项式有$2x^3z$，$-z^2x^2$，$\frac{1}{3}x^2yz$．请你用两种不同的分类方法对上面的七个单项式进行分类.

4、对于多项式$2x^2+7xy+3y^2+x^2-kxy+5y^2$，老师提出了两个问题，第一个问题是：当$k$为何值时，多项式中不含$xy$项？第二个问题是：在第一问的前提下，如果$x=2$，$y=-1$，多项式的值是多少？

（1）小明同学很快就完成了第一个问题，也请你把你的解答写在下面吧；

（2）在做第二个问题时，马小虎同学把$y=-1$，错看成$y=1$，可是他得到的最后结果却是正确的，你知道这是为什么吗？

5、设$A=2x^2-3xy+y^2-x+2y, B=4x^2-6xy+2y^2-3x-y$，若$|x-2a|+(y+3)^2=0$且$B-2A=a$，求$A$的值.

-参考答案-

一、单选题

1、A

【解析】

【分析】

将等式右边的已知项移到左边，再去括号，合并同类项即可.

【详解】

解：依题意，空格中的一项是：

$(2a^2+3ab-b^2)-(-3a^2+ab+5b^2)-(5a^2-6b^2)=2a^2+3ab-b^2+3a^2-ab-5b^2-5a^2+6b^2=2ab$.

故选 A.

【考点】

本题考查了整式的加减运算，熟练掌握移项的知识，同时熟记去括号法则，熟练运用合并同类项的法

则解题的关键.

2、B

【解析】

【分析】

根据前三个图案中黑色三角形的个数得出第 n 个图案中黑色三角形的个数为 1+2+3+4+……+n，据此可得第⑤个图案中黑色三角形的个数.

【详解】

解：∵第①个图案中黑色三角形的个数为 1，

第②个图案中黑色三角形的个数 3＝1+2，

第③个图案中黑色三角形的个数 6＝1+2+3，

……

∴第⑤个图案中黑色三角形的个数为 1+2+3+4+5＝15，

故选：*B*.

【考点】

本题主要考查图形的变化规律，解题的关键是根据已知图形得出规律：第 n 个图案中黑色三角形的个数为 1+2+3+4+……+n.

3、C

【解析】

【详解】

分析：根据单项式的性质即可求出答案.

详解：该单项式的次数为：3+1=4

故选 C.

点睛：本题考查单项式的次数定义，解题的关键是熟练运用单项式的次数定义，本题属于基础题型.

4、B

【解析】

【分析】

直接利用打折的意义表示出价格即可得出答案.

【详解】

设该商品原价为 x 元，

∵某商品打七折后价格为 a 元，

∴原价为：0.7x=a，

则 x=$\frac{10}{7}$a（元），

故选 B.

【考点】

本题考查了一元一次方程的应用，弄清题意，找准等量关系列出方程是解题的关键.

5、B

【解析】

【分析】

根据多项式的次数和项数的概念，逐一判断即可.

【详解】

解：A. $2x+x^2-x^3$是三次三项式，不符合题意，

B. $x^2+2xy+y^2$是二次三项式，符合题意，

C. $2\left(m^2-mn\right)$是二次二项式，不符合题意，

D. a^3+2a^2-1是三次三项式，不符合题意，

故选 B.

【考点】

本题主要考查多项式的次数和项数，掌握多项式的次数是多项式的最高次项的次数，是解题的关键.

6、A

【解析】

【分析】

根据单项式的次数、系数以及多项式的系数、次数的定义解决此题.

【详解】

解：A. 根据单项式的系数为数字因数，那么 $-3ab^2$ 的系数为 -3，故 A 符合题意.

B. 根据单项式的次数为所有字母的指数的和，那么 $4a^3b$ 的次数为 4，故 B 不符合题意.

C. 根据多项式的定义，$2a+b-1$ 的各项分别为 $2a$、b、-1，故 C 不符合题意.

D. x^2-1 包括 x^2、-1 这两项，次数分别为 2、0，那么 x^2-1 为二次两项式，故 D 不符合题意.

故选：A.

【考点】

本题主要考查单项式的系数，次数的定义以及多项式的项、项数以及次数的定义，熟练掌握单项式的系数，次数的定义以及多项式的项、项数以及次数的定义是解决本题的关键.

7、C

【解析】

【分析】

根据代数式的书写要求判断各项.

【详解】

解：A、不符合代数式书写规则，应该为$-\frac{13}{6}p$，故此选项不符合题意；

B、不符合代数式书写规则，应该为$\frac{1}{4}a$，故此选项不符合题意；

C、符合代数式书写规则，故此选项符合题意；

D、不符合代数式书写规则，应改为$\frac{2y}{z}$，故此选项不符合题意．

故选：C.

【考点】

此题考查代数式，解题的关键是掌握代数式的书写要求．代数式的书写要求：①在代数式中出现的乘号，通常简写成“·”或者省略不写；②数字与字母相乘时，数字要写在字母的前面；③在代数式中出现的除法运算，一般按照分数的写法来写．带分数要写成假分数的形式．

8、B

【解析】

【分析】

把$a^2+2a=1$代入代数式$2\left(a^2+2a\right)-1$，求出算式的值为多少即可．

【详解】

解：$\because a^2+2a=1$，

$\therefore 2\left(a^2+2a\right)-1=2\times1-1=1$

故选 B.

【考点】

本题考查了代数式的求值：求代数式的值可以直接代入、计算．如果给出的代数式可以化简，要先化简再求值．

9、A

【解析】

【分析】

数与字母的乘积形式是单项式，单独一个数或一个字母是单项式，几个单项式的和是多项式．

以上内容仅为本文档的试下载部分，为可阅读页数的一半内容。如要下载或阅读全文，请访问：https://d.book118.com/806243222151011020