广东深圳市高级中学数学七年级上册整式的加减定向攻克

考试时间：90 分钟；命题人：教研组

考生注意：

1、本卷分第 I 卷（选择题）和第 II 卷（非选择题）两部分，满分 100 分，考试时间 90 分钟

2、答卷前，考生务必用 0.5 毫米黑色签字笔将自己的姓名、班级填写在试卷规定位置上

3、答案必须写在试卷各个题目指定区域内相应的位置，如需改动，先划掉原来的答案，然后再写上新的答案；不准使用涂改液、胶带纸、修正带，不按以上要求作答的答案无效。

第 I 卷（选择题　20 分）

一、单选题（10 小题，每小题 2 分，共计 20 分）

1、式子$x+yz$，$-2x$，ax^2+bx+c，0，$\frac{x^2y}{\pi-1}$，a，$\frac{b}{x}$中，下列结论正确的是（　　）

A．有 4 个单项式，2 个多项式　　B．有 3 个单项式，3 个多项式

C．有 5 个整式　　D．以上答案均不对

2、下列单项式中，a^2b^3的同类项是（　　）

A．a^3b^2　　B．$2a^2b^3$　　C．a^2b　　D．ab^3

3、已知mx^2y^{m+1}是关于x，y的单项式，且这个单项式的次数为 5，则该单项式是（　　）

A．$5x^2y^3$　　B．$-5x^2y^3$　　C．$2x^2y^3$　　D．$-2x^2y^3$

4、有一题目：点P、Q、M分别表示数-1、1、5，三点在数轴上同时开始运动，点P运动方向是向左，运动速度是$2/s$；点Q、M的运动方向是向右，运动速度分别$1/s$、$3/s$，如图，在运动过程中，甲、乙两位同学提出不同的看法，甲：$3PM-5PQ$的值不变；乙：$5QM-3PQ$的值不变；下列选项中，正确的是（　　）



A．甲、乙均正确　　B．甲正确、乙错误

C．甲错误、乙正确　　D．甲、乙均错误

5、$-2(1-x)=$（　　）

A．$-2+2x$　　B．$-2-2x$　　C．$-2+x$　　D．$-2-x$

6、下列表述不正确的是（　　）

A．葡萄的单价是 4 元/ kg，$4a$ 表示 akg 葡萄的金额

B．正方形的边长为 a，$4a$ 表示这个正方形的周长

C．某校七年级有 4 个班，平均每个班有 a 名男生，$4a$ 表示全校七年级男生总数

D．一个两位数的十位和个位数字分别为 4 和 a，$4a$ 表示这个两位数

7、下列说法正确的是（　　）

A．$3x^2-2x+5$ 的项是 $3x^2$，$2x$，5　　B．$\frac{x}{3}-\frac{y}{3}$ 与 $2x^2-2xy-5$ 都是多项式

C．多项式 $-2x^2+4xy$ 的次数是 3　　D．一个多项式的次数是 6，则这个多项式中只有一项的次数是 6

8、已知 $a^2+2a=1$，则代数式 $2(a^2+2a)-1$ 的值为（　　）

A．0　　B．1　　C．-1　　D．-2

9、下列计算的结果中正确的是（　　）

A．$6a^2-2a^2=4$　　B．$a+2b=3ab$

C．$2xy^3-2y^3x=0$　　D．$3y^2+2y^2=5y^4$

10、在 $2x^2, 1-2x=0, ab, a>0, 0, \frac{1}{a}, \frac{\pi}{3}$ 中，是代数式的有（　　）

A．5 个　　B．4 个　　C．3 个　　D．2 个

第Ⅱ卷（非选择题　80 分）

二、填空题（10 小题，每小题 3 分，共计 30 分）

1、已知，$x-3=2021$，则$(x-3)^2-2021(x-3)+1$的值为_____.

2、若 $7a^xb^2$ 与 $-a^3b^y$ 的和为单项式，则 y^x=_____.

3、如果关于 x 的多项式 $mx^4+4x^2-\frac{1}{2}$ 与多项式 $3x^n+5x$ 的次数相同，则 $-2n^2+3n-4$=_____.

4、若 $x^2-3x=-3$，则 $3x^2-9x+7$ 的值是 _____.

5、如果单项式 $3x^my$ 与 $-5x^3y^n$ 的和仍是单项式，那么 $m+n=$_____.

6、长春市净月潭国家森林公园门票的价格为成人票每张 30 元，儿童票每张 15 元．若购买 m 张成人票和 n 张儿童票，则共需花费_____元.

7、单项式 $-\frac{3^2x^2y^3}{5}$ 的系数是_____，次数是_____.

8、如果 a，b 互为倒数，c，d 互为相反数，且 $m=-1$，则代数式 $2ab-(c+d)+m$=_____.

9、观察下列各式的规律：①$1\times3-2^2=3-4=-1$；②$2\times4-3^2=8-9=-1$；③$3\times5-4^2=15-16=-1$．请按以上规律写出第 4 个算式_____．用含有字母的式子表示第 n 个算式为_____.

10、关于 x 的多项式 $(a+2)x^3-3x^b+5$ 的次数是 2，那么 $a=$_____，$b=$_____.

三、解答题（5 小题，每小题 10 分，共计 50 分）

1、如图，在一条道路的同侧有 A，B，C，D 四个小区，其中 A 与 B 相距 xm，B 与 C 相距 150m，C 与 D 相距 xm，某公司的员工住在 A 小区的有 20 人，B 小区的有 6 人，C 小区的有 15 人，D 小区的有 8 人.

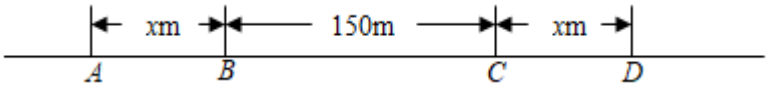

(1)该公司计划在 B，C 小区的位置任选一个作为班车停靠点，设所有员工步行到 B，C 小区的路程总和分别为 s_1，s_2，试求 s_1，s_2；（用含 x 的代数式表示）

(2)为了使所有员工步行到班车停靠点的路程总和最小，那么停靠点的位置应该选在 B 小区还是 C

小区？请说明理由.

2、（1）先化简，再求值：$5x^2y-\left[6xy-2\left(xy-2x^2y\right)-xy^2\right]+4xy$，其中$x$，$y$满足$\left|x+\frac{1}{2}\right|+\left(y-1\right)^2=0$.

（2）关于x的代数式$\left(x^2+2x\right)-\left[kx^2-\left(3x^2-2x+1\right)\right]$的值与$x$无关，求$k$的值.

3、先化简，再求值．$2x^2-\left[3\left(-\frac{1}{3}x^2+\frac{2}{3}xy\right)+2y^2\right]-2\left(x^2-xy-2y^2\right)$，其中 $x=\frac{1}{2}$，$y=-1$.

4、为了加强公民的节水意识，合理利用水资源，某市采用价格调控的手段达到节水的目的．该市自来水收费的价目表如下（注：水费按月份结算）：

每月用水量	价格
不超出 5m³的部分	2 元/m³
超出 5m³不超出 10m³的部分	4 元/m³
超出 10m³的部分	8 元/m³

设李老师家某月用水量为$x\left(\mathrm{m}^3\right)$.

(1)若$x=7$，则李老师当月应交水费多少元？

(2)若$0<x<15$，则李老师当月应交水费多少元？（用含x的代数式表示，并化简）

5、观察下列单项式：$-x$，$3x^2$，$-5x^3$，$7x^4$，…$-37x^{19}$，$39x^{20}$，…写出第n个单项式，为了解这个问题，特提供下面的解题思路.

(1)这组单项式的系数的符号，绝对值规律是什么？

(2)这组单项式的次数的规律是什么？

(3)根据上面的归纳，你可以猜想出第n个单项式是什么？

(4)请你根据猜想，请写出第2014个，第2015个单项式.

-参考答案-

一、单选题

1、A

【解析】

【分析】

数与字母的乘积形式是单项式，单独一个数或一个字母是单项式，几个单项式的和是多项式.

【详解】

解：$x+yz$是两个单项式的和，是多项式；$-2x$是单项式；ax^2+bx+c是3个单项式的和，是多项式：0，a是单项式；$\frac{x^2y}{\pi-1}$是单项式；$\frac{b}{x}$不是整式，综上所述，单项式共有4个，多项式共有2个，整式共有6个，

故选：A.

【考点】

本题考查多项式、单项式的定义，是基础考点，掌握相关知识是解题关键.

2、B

【解析】

【分析】

比较对应字母的指数,分别相等就是同类项

【详解】

∵a的指数是3，b的指数是2，与a^2b^3中a的指数是2，b的指数是3不一致，

∴a^3b^2不是a^2b^3的同类项，不符合题意；

∵ a 的指数是 2，b 的指数是 3，与 a^2b^3 中 a 的指数是 2，b 的指数是 3 一致，

∴ $2a^2b^3$ 是 a^2b^3 的同类项，符合题意；

∵ a 的指数是 2，b 的指数是 1，与 a^2b^3 中 a 的指数是 2，b 的指数是 3 不一致，

∴ a^2b 不是 a^2b^3 的同类项，不符合题意；

∵ a 的指数是 1，b 的指数是 3，与 a^2b^3 中 a 的指数是 2，b 的指数是 3 不一致，

∴ ab^3 不是 a^2b^3 的同类项，不符合题意；

故选 B

【考点】

本题考查了同类项，正确理解同类项的定义是解题的关键.

3、C

【解析】

【分析】

先根据单项式的次数计算出 m 的值即可.

【详解】

解：∵已知 mx^2y^{m+1} 是关于 x ， y 的单项式，且 mx^2y^{m+1} 的次数为 5，

∴ $m+1+2=5$，

即 $m=2$.

∴该单项式为 $2x^2y^3$.

故选：C

【点评】

本题考查了单项式的系数、次数的概念；正确理解单项式的系数和次数是解决问题的关键.

4、B

【解析】

【分析】

设运动时间为 xs，则 P 表示的数是为 $-1-2x$，Q 表示的数为 $1+x$，点 M 表示的数为 $5+3x$，根据数轴上两点间的距离公式计算整理即可判断.

【详解】

∵点 P 、Q、M 分别表示数-1、1、5，三点在数轴上同时开始运动，点 P 运动方向是向左，运动速度是 2 / s；点 Q、M 的运动方向是向右，运动速度分别 1/s 、3 / s，



∴设运动时间为 xs，则 P 表示的数是为 $-1-2x$，Q 表示的数为 $1+x$，点 M 表示的数为 $5+3x$，

∴$3PM-5PQ=3(5+3x+1+2x)-5(1+x+1+2x)=8$，保持不变；

∴甲的说法正确；

∴$3QM-3PQ=3(5+3x-1-x)-3(1+x+1+2x)=6-3x$，与 x 有关，会变化；

∴乙的说法不正确；

故选 B.

【考点】

本题考查了数轴上的两点间的距离，数轴上点与数的关系，准确表示数轴上两个动点之间的距离是解题的关键.

5、A

【解析】

【分析】

根据去括号法则解答.

【详解】

解：$-2(1-x)=-2+2x$.

故选：A.

【考点】

本题考查去括号的方法：去括号时，运用乘法的分配律，先把括号前的数字与括号里各项相乘，再运用括号前是“+”，去括号后，括号里的各项都不改变符号；括号前是“-”，去括号后，括号里的各项都改变符号.

6、D

【解析】

【分析】

根据“金额=单价×数量”、正方形的周长公式、“男生总人数=班级数×每班男生人数”、“两位数=十位数字×10+个位数字”逐项判断即可得.

【详解】

解：A、葡萄的单价是4元/kg，$4a$表示akg葡萄的金额，原表述正确；

B、正方形的边长为a，$4a$表示这个正方形的周长，原表述正确；

C、某校七年级有4个班，平均每个班有a名男生，$4a$表示全校七年级男生总数，原表述正确；

D、一个两位数的十位和个位数字分别为4和a，$40+a$表示这个两位数，原表述错误；

故选：D.

【考点】

本题考查了列代数式，正确理解各语句的意思是解题关键.

7、B

【解析】

【分析】

根据多项式的项数、次数和多项式定义，即几个单项式的和叫做多项式判断即可；

【详解】

解：*A*. $3x^2-2x+5$的项是$3x^2,-2x$，5，故错误；

B. $\frac{x}{3}-\frac{y}{3}$与$2x^2-2xy-5$都是多项式，故正确；

C. 多项式$-2x^2+4xy$的次数是 2，故错误；

D. 一个多项式的次数是 6，则这个多项式中不一定只有一项的次数是 6，如$2a^6+a^3b^3-1$，故错误.

故选 *B*.

【考点】

本题主要考查了多项式的定义、项数、次数，准确分析判断是解题的关键.

8、B

【解析】

【分析】

把$a^2+2a=1$代入代数式$2\left(a^2+2a\right)-1$，求出算式的值为多少即可.

【详解】

解：$\because a^2+2a=1$，

$\therefore 2\left(a^2+2a\right)-1=2\times1-1=1$

故选 B.

【考点】

本题考查了代数式的求值：求代数式的值可以直接代入、计算. 如果给出的代数式可以化简，要先化简再求值.

9、C

【解析】

以上内容仅为本文档的试下载部分，为可阅读页数的一半内容。如要下载或阅读全文，请访问：https://d.book118.com/835133244232012022