四川峨眉第二中学数学七年级上册整式的加减专项测试

考试时间：90 分钟；命题人：教研组

考生注意：

1、本卷分第 I 卷（选择题）和第 II 卷（非选择题）两部分，满分 100 分，考试时间 90 分钟

2、答卷前，考生务必用 0.5 毫米黑色签字笔将自己的姓名、班级填写在试卷规定位置上

3、答案必须写在试卷各个题目指定区域内相应的位置，如需改动，先划掉原来的答案，然后再写上新的答案；不准使用涂改液、胶带纸、修正带，不按以上要求作答的答案无效。

第 I 卷（选择题　20 分）

一、单选题（10 小题，每小题 2 分，共计 20 分）

1、如果 $xy\neq 0$，$\frac{1}{3}xy^2+axy^2=0$，那么 a 的值为（　　）

A．－3　　B．$-\frac{1}{3}$　　C．0　　D．3

2、代数式 $a^2-\frac{1}{b}$ 的正确解释是（　　）

A．a 与 b 的倒数的差的平方　　B．a 与 b 的差的平方的倒数

C．a 的平方与 b 的差的倒数　　D．a 的平方与 b 的倒数的差

3、如图所示，边长为 a 的正方形中阴影部分的周长为（　　）

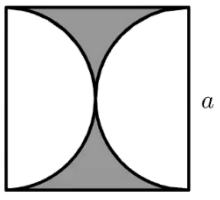

A．$a^2-\frac{1}{4}\pi a^2$　　B．$a^2-\pi a^2$

C．$2a+\pi a$　　D．$2a+2\pi a$

4、把多项式$3x^2-7+2x-5x^2-x+6-x$合并同类项后所得的结果是（　　）.

A．二次三项式　　B．二次二项式　　C．一次二项式　　D．单项式

5、如图，填在下面各正方形中的四个数之间都有相同的规律，根据这种规律，m的值应是（　　）

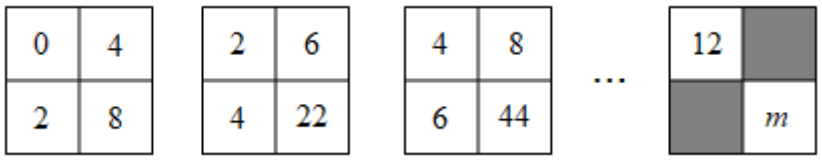

A．110　　B．168　　C．212　　D．222

6、m、n都是正整数，则多项式$x^m+2y^n-3^{m+n}$的次数是（　　）

A．m　　B．$m+n$　　C．$2m+2n$　　D．不能确定

7、下面说法中①$-a$一定是负数；②$0.5\pi ab$是二次单项式；③倒数等于它本身的数是±1；④若$|a|=-a$，则$a<0$；⑤由$-2(x-4)=2$变形为$x-4=-1$，正确的个数是（　　）

A．1个　　B．2个　　C．3个　　D．4个

8、下列运算结果正确的是（　　）

A．$2a+3b=5ab$　　B．$7x^2y-4xy^2=3x^2y$

C．$a-(3b-2)=a-3b-2$　　D．$-2(a+b)=-2a-2b$

9、下列计算的结果中正确的是（　　）

A．$6a^2-2a^2=4$　　B．$a+2b=3ab$

C．$2xy^3-2y^3x=0$　　D．$3y^2+2y^2=5y^4$

10、代数式$3x^2y-4x^3y^2-5xy^3-1$按x的升幂排列，正确的是（　　）

A．$-4x^3y^2+3x^2y-5xy^3-1$　　B．$-5xy^3+3x^2y-4x^3y^2-1$

C．$-1+3x^2y-4x^3y^2-5xy^3$　　D．$-1-5xy^3+3x^2y-4x^3y^2$

第Ⅱ卷（非选择题　80 分）

二、填空题（10 小题，每小题 3 分，共计 30 分）

1、若 m 为常数，多项式 $mxy+2x-3y-1-4xy$ 为三项式，则 $\frac{1}{2}m^2-m+2$ 的值是_____.

2、若关于 x、y 的代数式 $mx^3-3nxy^2-(2x^3-xy^2)+xy$ 中不含三次项，则 m-6n 的值为_____.

3、如图，在数轴上，点 A 表示 1，现将点 A 沿 x 轴做如下移动：第一次将点 A 向左移动 3 个单位长度到达点 A_1，第二次将点 A_1 向右移动 6 个单位长度到达点 A_2，第三次将点 A_2 向左移动 9 个单位长度到达点 A_3，按照这种移动规律移动下去，第 n 次移动到点 A_n，如果点 A_n 与原点的距离不小于 20，那么 n 的最小值是_____.

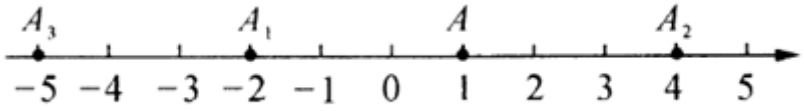

4、围棋是一种起源于中国的棋类游戏，在春秋战国时期即有记载，围棋棋盘由横纵各 19 条等距线段构成，围棋的棋子分黑白两色，下在横纵线段的交叉点上．若一个白子周围所有相邻（有线段连接）的位置都有黑子，白子就被黑子围住了．如图 1，围住 1 个白子需要 4 个黑子，固住 2 个白子需要 6 个黑子，如图 2，围住 3 个白子需要 8 个或 7 个黑子，像这样，不借助棋盘边界，只用 15 个黑子最多可以围住___个白子．

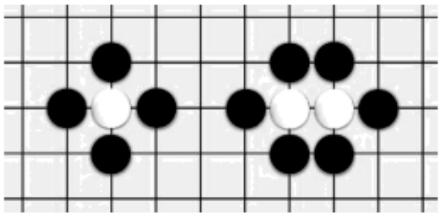
图 1

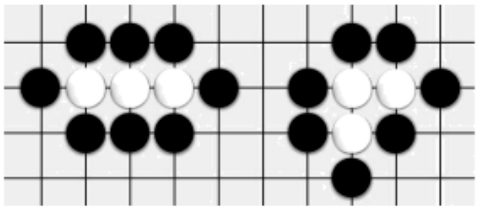
图 2

5、如图，用大小相同的小正方形拼大正方形，拼第 1 个正方形需要 4 个小正方形，拼第 2 个正方形需要 9 个小正方形……，按这样的方法拼成的第 $(n+1)$ 个正方形比第 n 个正方形多_____个小正方形．

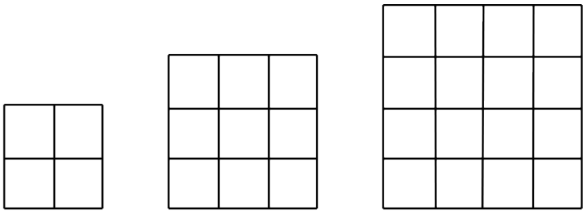

第1个正方形　　第2个正方形　　第3个正方形

6、若单项式$2x^{m-1}y^2$与单项式$\frac{1}{3}x^2y^{n+1}$是同类项，则$m+n=$_____.

7、添括号：

（1）$2x^2-3x+1=2x^2+$（_____）；　　（2）$a^2-a+1=a^2-$（_____）；

（3）$a-2b+6c-4=a-$（_____）$=a+2$（_____）；

（4）$(x+y-z+3)(x-y+z-3)=[x+$（_____）$][x-$（_____）$]$；

（5）$(m+n)^2-6m-6n+9=(m+n)^2-6$（_____）$+9$.

8、若$|1-a|+|b-2|=0$，则$2a^3+b^3+3a^3-2b^3$的值为_____.

9、多项式$\frac{1}{10}x^{m-1}+2x-5$是关于x的四次三项式，则$m=$_____

10、如果代数式$a+8b$的值为-5，那么代数式$3(a-2b)-5(a+2b)$的值为_____.

三、解答题（5 小题，每小题 10 分，共计 50 分）

1、化简：

（1）$\left(4a^2b-2ab^2\right)-3\left(ab^2-2a^2b\right)$；

（2）$3x^2-\left[7x-(4x-3)-2x^2\right]$.

2、化简：

（1）$4\left(x^2+5y\right)-2\left(2x^2-3y\right)$；　　（2）$3(2y-2z)-\left(\frac{1}{2}x-4y-6z\right)+\frac{1}{3}x$；

（3）$12x-[2x+(6x-5)-3]+2$；　　（4）$-(3x-2y+z)+7-[5x-(x-2y+z)-3]$.

3、已知关于 x 的多项式 $mx^4+(m-3)x^3-(n+2)x^2+4x-n$ 不含二次项和三次项.

（1）求出这个多项式；

（2）求当 $x=2$ 时代数式的值.

4、某同学做一道数学题，“已知两个多项式 A、B，B=$2x^2$+$3x$－4，试求 A－$2B$”．这位同学把“A－$2B$”误看成“A+$2B$”，结果求出的答案为 $5x^2$+$8x$－10．请你替这位同学求出“A－$2B$”的正确答案.

5、化简求值：3xy2－[xy－2（xy－$\frac{3}{2}$x2y）+3 xy2]+3x2y，其中 x=3，y=－$\frac{1}{3}$.

-参考答案-

一、单选题

1、B

【解析】

【分析】

根据同类项的定义可知，$\frac{1}{3}xy^2$ 和 axy^2 是同类项，两数和为 0，且 $xy\neq 0$，则系数 $\frac{1}{3}$ 和 a 互为相反数，求解即可.

【详解】

∵ $xy\neq 0$，$\frac{1}{3}xy^2+axy^2=0$，则 $\frac{1}{3}xy^2$ 和 axy^2 是同类项，

∴系数互为相反数，

∴ $\frac{1}{3}+a=0$，

即 $a=-\frac{1}{3}$，

故选：B.

【考点】

本题考查了同类项的定义，相反数的定义，熟记同类项的定义是解题的关键.

2、D

【解析】

【分析】

说出代数式的意义，实际上就是把代数式用语言叙述出来．叙述时，要求既要表明运算的顺序，又要说出运算的最终结果.

【详解】

解：代数式$a^2-\frac{1}{b}$的正确解释是a的平方与b的倒数的差.

故选：D.

【考点】

用语言表达代数式的意义，一定要理清代数式中含有的各种运算及其顺序．具体说法没有统一规定，以简明而不引起误会为出发点.

3、C

【解析】

【分析】

圆的周长+2 倍正方形的边长等于阴影部分的周长.

【详解】

解：由图像可知：

阴影部分的周长＝2a＋πa，

故选：C

【考点】

本题考查了代数式和圆的周长，结合题意正确表示代数式是解题的关键.

4、B

【解析】

【分析】

先进行合并同类项，再判断多项式的次数与项数即可.

【详解】

$\because 3x^2-7+2x-5x^2-x+6-x$

$=-2x^2-1$.

$-2x^2-1$最高次为 2，项数为 2，即为二次二项式.

故选 B.

【考点】

本题考查了多项式的次数与项数，合并同类项，掌握多项式的系数与次数是解题的关键.

5、C

【解析】

【分析】

观察不难发现，左上角、左下角、右上角为三个连续的偶数，右下角的数是左下角与右上角两个数的乘积减去左上角的数的差，根据此规律先求出阴影部分的两个数，再列式进行计算即可得解.

【详解】

解：根据排列规律，12 下面的数是 14，12 右面的数是 16，

∵8＝2×4-0，22＝4×6-2，44＝6×8-4，

∴m＝16×14-12＝212，

故选：C.

【考点】

本题是对数字变化规律的考查，仔细观察前三个图形，找出四个数之间的变化规律是解题的关键.

6、解：“a的2倍与3 的和”是$2a+$

故选 B.

【考点】

此题考查列代数式，解决问题的关键是读懂题意，找到所求的量的数量关系，注意字母和数字相乘的简写方法.

3．D

【解析】

【分析】

多项式的次数是“多项式中次数最高的项的次数”，因此多项式$x^m+2y^n-3^{m+n}$的次数是 m，n 中的较大数是该多项式的次数.

【详解】

单项式x^m的次数是 m，单项式$2y^n$的次数是 n，-3^{m+n}是常数项，

又因为未知 m和 n的大小，所以多项式的次数无法确定，

故选：D .

【考点】

此题考查多项式，解题关键在于掌握其定义.

7、C

【解析】

【分析】

①-a 不一定是负数，例如 a=0 时；

②0.5πab 中字母为 a 与 b，指数和为 2，故是二次单项式，本选项正确；

③倒数等于它本身的数是±1，本选项正确；

④若|a|=-a，a 为非正数，本选项错误；

⑤由-2（x-4）=2 两边除以-2 得到 x-4=-1，本选项正确.

【详解】

①-a 不一定是负数，例如 a=0 时，-a=0，不是负数，本选项错误；

②0.5πab 是二次单项式，本选项正确；

③倒数等于它本身的数是±1，本选项正确；

④若|a|=-a，则 a≤0，本选项错误；

⑤由-2（x-4）=2 两边除以-2 得：x-4=-1，本选项正确，

则其中正确的选项有 3 个.

故选 C.

【考点】

此题考查了等式的性质，相反数，绝对值，倒数，以及单项式，熟练掌握各自的定义是解本题的关键.

8、D

【解析】

【分析】

根据合并同类项运算法则、去括号法则依次计算，从而作出判断.

【详解】

解：A. $2a$ 和 $3b$ 不是同类项不能合并，故此选项错误；

B. $7x^2y$ 和 $4xy^2$ 不是同类项不能合并，故此选项错误；

C. $a-(3b-2)=a-3b+2$，故此选项错误；

D. $-2(a+b)=-2a-2b$，故此选项正确；

故选 D.

【考点】

以上内容仅为本文档的试下载部分，为可阅读页数的一半内容。如要下载或阅读全文，请访问：https://d.book118.com/846030004152011020