四川师范大学附属第一实验中学数学七年级上册整式的加减专项练习

考试时间：90 分钟；命题人：教研组

考生注意：

1、本卷分第 I 卷（选择题）和第 II 卷（非选择题）两部分，满分 100 分，考试时间 90 分钟

2、答卷前，考生务必用 0.5 毫米黑色签字笔将自己的姓名、班级填写在试卷规定位置上

3、答案必须写在试卷各个题目指定区域内相应的位置，如需改动，先划掉原来的答案，然后再写上新的答案；不准使用涂改液、胶带纸、修正带，不按以上要求作答的答案无效。

第 I 卷（选择题　20 分）

一、单选题（10 小题，每小题 2 分，共计 20 分）

1、下列各正方形中的四个数之间都有相同的规律，根据此规律，x 的值为（　　）

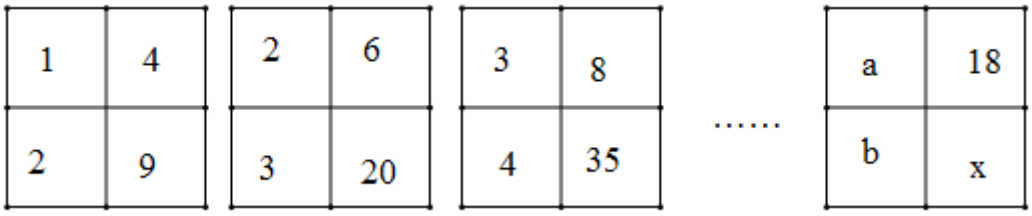

A．135　　B．153　　C．170　　D．189

2、关于多项式$-2x^2y+3xy-1$，下列说法正确的是（　　）.

A．次数是 3　　B．常数项是 1　　C．次数是 5　　D．三次项是$2x^2y$

3、观察下面由正整数组成的数阵：

				1				
			2	3	4			
		5	6	7	8	9		
	10	11	12	13	14	15	16	
17	18	19	20	21	22	23	24	25
…	…	…	…	…	…	…	…	…

照此规律，按从上到下、从左到右的顺序，第 51 行的第 1 个数是（　　）

A．2500　　B．2501　　C．2601　　D．2602

4、代数式a^2+b^2的意义是（ ）.

A．a的平方与b的和　　B．a与b的平方的和

C．a与b两数的平方和　　D．a与b的和的平方

5、若$x^{m-1}y^2$与x^2y^n的和仍是单项式，则n^m的值（　　）.

A．3　　B．6　　C．8　　D．9

6、已知$a^2+2a=1$，则代数式$2\left(a^2+2a\right)-1$的值为（　　）

A．0　　B．1　　C．−1　　D．−2

7、下列计算正确的是(　　)

A．3a＋2b＝5ab　　B．$5a^2-2a^2=3$

C．7a＋a＝$7a^2$　　D．$2a^2b-4a^2b=-2a^2b$

8、如果一个多项式的各项的次数都相同，那么这个多项式叫做齐次多项式．如$x^3+3xy^2+4xyz+2y^3$是 3 次齐次多项式，若$a^{x+3}b^2-6ab^3c^2$是齐次多项式，则x的值为（　　）

A．−1　　B．0　　C．1　　D．2

9、下列运算中，正确的是（　　）

A．3x+4y＝12xy　　B．$x^9\div x^3=x^3$

C.（x^2）^{3}＝x^6　　D.（x－y）^{2}＝x^2－y^2

10、某商品打七折后价格为 a 元，则原价为（　　）

A．a 元　　B．$\frac{10}{7}$a 元　　C．30%a 元　　D．$\frac{7}{10}$a 元

第Ⅱ卷（非选择题　80 分）

二、填空题（10 小题，每小题 3 分，共计 30 分）

1、如果多项式$4x^3-2x^2-\left(kx^2+17x-6\right)$中不含$x^2$的项，则 k 的值为_____

2、已知单项式$2a^4b^{-2m+7}$与$3a^{2m}b^{n+2}$是同类项，则$m+n=$_____.

3、如果 a，b 互为倒数，c，d 互为相反数，且 $m=-1$，则代数式$2ab-(c+d)+m=$_____.

4、如图，用大小相同的小正方形拼大正方形，拼第 1 个正方形需要 4 个小正方形，拼第 2 个正方形需要 9 个小正方形……，按这样的方法拼成的第$(n+1)$个正方形比第 n 个正方形多_____个小正方形.

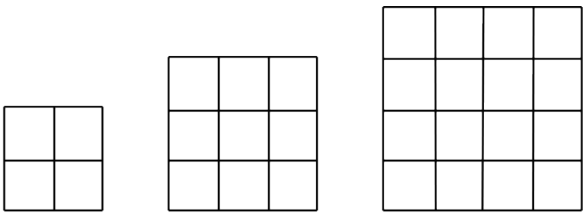

第1个正方形　第2个正方形　第3个正方形

5、如果单项式 $3x^my$ 与$-5x^3y^n$ 可以合并，那么 $m+n=$_____.

6、已知一列数 2，8，26，80．…，按此规律，则第 n 个数是_____.（用含 n 的代数式表示）

7、若$(a-1)^2+|b+2|=0$，则$\frac{a+b}{a-b}$的值是_____.

8、若 $7a^xb^2$ 与－a^3b^y 的和为单项式，则 y^x＝_____.

9、如果单项式$3x^my$与$-5x^3y^n$的和仍是单项式，那么$m+n=$_____.

10、观察下列一系列数：

按照这种规律排下去，那么第 8 行从左边数第 14 个数是_____.

-1

2 -3 4

-5 6 -7 8 -9

10 -11 12 -13 14 -15 16

…

三、解答题（5 小题，每小题 10 分，共计 50 分）

1、【观察】1×49=49，2×48=96，3×47=141，…，23×27=621，24×26=624，25×25=625，26×24=624，27×23=621，…，47×3=141，48×2=96，49×1=49.

【发现】根据你的阅读回答问题：

（1）上述内容中，两数相乘，积的最大值为_____；

（2）设参与上述运算的第一个因数为 a，第二个因数为 b，用等式表示 a 与 b 的数量关系是_____.

【类比】观察下列两数的积：1×59，2×58，3×57，4×56，…，m×n，…，56×4，57×3，58×2，59×1.

猜想 mn 的最大值为_____，并用你学过的知识加以证明.

2、用代数式表示：

(1)比 x 的平方的 5 倍少 2 的数；

(2)x 的相反数与 y 的倒数的和；

(3)x 与 y 的差的平方；

(4)某商品的原价是 a 元，提价 15%后的价格；

(5)有一个三位数，个位数字比十位数字少 4，百位数字是个位数字的 2 倍，设 x 表示十位上的数字，用代数式表示这个三位数.

3、已知 x，y 为有理数，现规定一种新运算*，满足 $x*y=xy-5$.

（1）求（4*2）*（－3）的值；

（2）任意选择两个有理数，分别填入下列□和○中，并比较它们的运算结果：多次重复以上过程，你发现：□*○_____○*□（用“>”“<”或“=”填空）；

（3）记 $M=a*(b-c)$，$N=a*b-a*c$，请探究 M 与 N 的关系，用等式表达出来.

4、将正整数 1，2，3，4，5，……排列成如图所示的数阵：

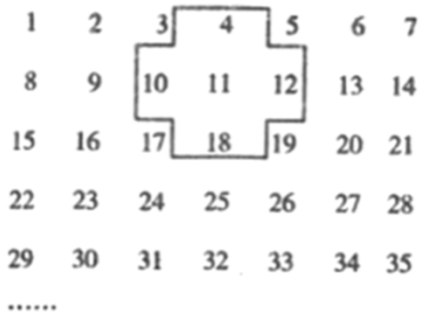

（1）十字框中五个数的和与框正中心的数 11 有什么关系？

（2）若将十字框上下、左右平移，可框住另外五个数，这五个数的和与框正中心的数还有这种规律吗？请说明理由；

（3）十字框中五个数的和能等于 180 吗？若能，请写出这五个数；若不能，请说明理由；

（4）十字框中五个数的和能等于 2020 吗？若能，请写出这五个数；若不能，请说明理由.

5、已知多项式 $-3x^2+mx+nx^2-x+3$ 的值与 x 无关，求 $(2m-n)^{2017}$ 的值.

-参考答案-

一、单选题

1、C

【解析】

【分析】

由观察发现每个正方形内有：$2\times2=4,2\times3=6,2\times4=8,$可求解 b，从而得到 a，再利用 a,b,x 之间的关系求解 x 即可.

【详解】

解：由观察分析：每个正方形内有：

$2\times2=4,2\times3=6,2\times4=8,$

$\therefore 2b=18,$

$\therefore b=9,$

由观察发现：$a=8,$

又每个正方形内有：

$2\times4+1=9,3\times6+2=20,4\times8+3=35,$

$\therefore 18b+a=x,$

$\therefore x=18\times9+8=170.$

故选 C.

【考点】

本题考查的是数字类的规律题，掌握由观察，发现，总结，再利用规律是解题的关键.

2、A

【解析】

【分析】

根据多项式的项、次数等相关概念并结合多项式$-2x^2y+3xy-1$进行分析，再分别判断即可.

【详解】

解：多项式$-2x^2y+3xy-1$，次数是 3，常数项是-1，三次项是$-2x^2y$，所以四个选项中只有 A 正确；

故答案为：A.

【考点】

本题考查了多项式的项的系数和次数定义的掌握情况．解题的关键是弄清多项式次数、常数项的定义.

3、B

【解析】

【分析】

观察这个数列知，第 n 行的最后一个数是 n^2，第 50 行的最后一个数是 $50^2=2500$，进而求出第 51 行的第 1 个数.

【详解】

由题意可知，第 n 行的最后一个数是 n^2，

所以第 50 行的最后一个数是 $50^2=2500$，

第 51 行的第 1 个数是 2500+1=2501，

故选：B.

【考点】

本题考查了规律型：数字的变化类，要求学生通过观察，分析、归纳发现其中的规律，并应用发现的规律解决问题．解决本题的难点在于发现第 n 行的最后一个数是 n^2 的规律.

4、C

【解析】

【分析】

说出代数式的意义，实际上就是把代数式用语言叙述出来。叙述时，要求既要表明运算的顺序，又要说出运算的最终结果.

【详解】

代数式 a^2+b^2 的意义是 a 与 b 两数的平方的和.

故选：C.

【考点】

此题考查了代数式的意义，用语言表达代数式的意义，一定要理清代数式中含有的各种运算及其顺序.

5、C

【解析】

【分析】

根据同类项的定义列出方程即可求出 m，n 的值，代入计算即可.

【详解】

解：∵ $x^{m-1}y^2$ 与 x^2y^n 的和仍是单项式，

∴ $x^{m-1}y^2$ 与 x^2y^n 是同类项，

∴m-1=2，n=2，

∴m=3，

∴ $n^m=2^3=8$，

故选：C.

【考点】

本题考查了同类项的概念，掌握同类项的概念是解题的关键.

6、B

【解析】

【分析】

把 $a^2+2a=1$ 代入代数式 $2\left(a^2+2a\right)-1$，求出算式的值为多少即可.

【详解】

解：∵ $a^2+2a=1$，

∴ $2\left(a^2+2a\right)-1=2\times1-1=1$

故选 B.

【考点】

本题考查了代数式的求值：求代数式的值可以直接代入、计算．如果给出的代数式可以化简，要先化简再求值．

7、D

【解析】

【分析】

直接利用合并同类项法则分别分析得出答案．

【详解】

A、3a+2b，无法计算，故此选项错误；

B、$5a^2-2a^2=3a^2$，故此选项错误；

C、7a+a=8a，故此选项错误；

D、$2a^2b-4a^2b=-2a^2b$，正确．

故选 D．

【考点】

此题主要考查了合并同类项，正确掌握运算法则是解题关键．

8、C

【解析】

【分析】

根据齐次多项式的定义列出关于 x 的方程，最后求出 x 的值即可．

【详解】

解：由题意,得 $x+2+3=1+3+2$

解得 $x=1$．

故选 C．

【考点】

以上内容仅为本文档的试下载部分，为可阅读页数的一半内容。如要下载或阅读全文，请访问：https://d.book118.com/886043220151011020