第一课时作业

1. 填空题。

5 厘米=（　　）毫米　　43 毫米=（　　）厘米（　　）毫米

90 毫米=（　　）厘米　　3 厘米 6 毫米=（　　）毫米

2. 在括号里填上合适的长度单位。

（1）跳绳长 2（　　）；　　（2）铁钉长 8（　　）；

（3）小华身高 135（　　）；　　（4）粉笔长 75（　　）。

3.画一画。

（1）画一条长 3 厘米 5 毫米的线段；

（2）画一条长 24 毫米的线段。

第二课时作业

1.填上合适的单位或数。

（1）一支铅笔长 20（　　）；　　（2）语文书的厚度是 18（　　）；

（3）相邻的两个长度单位之间的进率是（　　）。

2.开动脑筋算一算。

1 米—9 分米＝（　　）分米　　1　　厘米＋2 毫米＝（　　）毫米

2 厘米—8 毫米＝（　　）毫米　　14　　厘米＋26 厘米＝（　　）分米

49 厘米—39 厘米＝（　　）厘米＝（　　）分米

第三课时作业

1. 判断对错。

（1）汽车每小时行 40 千米（　　）　　（2）电线杆高 6 千米（　　）

（3）教室黑板长 5 分米（　　）　　（4）小明身高是 133 厘米（　　）

2. 填一填。

3000 米＝（　　）千米　　5　　千米＝（　　）米

5 米＝（　　）分米　　800　　分米＝（　　）米

5000 米—2 千米＝（　　）千米　　3000　　米＋2000 米＝（　　）千米

3．排排队。（从大到小）

6000 分米　　60　　米　　6　　千米　　600　　厘米

第四课时作业

1. 我会填。

3 千米—800 米＝（　　）米　　400　　米＋600 米＝（　　）千米

（　）千米—14 千米＝26 千米　　6407　　米＝（　）千米（　　）米

5 千米—3 千米 400 米＝（　）千米（　　）米

2 千米＋3 千米 500 米＝（　）千米（　　）米

500 米＋800 米＝（　）千米（　　）米

2. 一根 2 米长的绳子，平均剪成 4 段，每段长多少？

第五课时作业

1. 在○里填上＞、＜、＝。

6 厘米 ○ 60 毫米　　2 米 ○ 19 分米　　5 千米 ○ 400 厘米

15 千米 ○ 1500 米　　2000 米＋3 千米 ○ 4900 米

1 分米—8 厘米 ○ 3 厘米　　700 厘米 ○ 70 分米

2. 填一填。

6000 米＝（　　）千米　　410 米＋590 米＝（　　）千米

20 分米＝（　　）米　　10 毫米＝（　　）厘米

10 厘米＝（　　）分米　　2 米÷4＝（　　）分米

第六课时作业

1. 填上合适的质量单位。

（1）一个鸡蛋约重 50（　　）；　　（2）小兰体重约 25（　　）；

（3）一头大象重约 4（　　）；　　（4）一袋水泥重约 50（　　）。

2. 判断题。

（1）千克、 克和吨之间的进率都是 1000.　　（　　）

（2）1 吨棉花比 1 吨铁轻。　　（　　）

（3）一台冰箱重量约是 75 克。　　（　　）

（4）3 吨与 3000 千克一样重。　　（　　）

（5）1 吨＝1000 克　　（　　）

第七课时作业

1. 在括号里填上合适的单位。

（1）一辆汽车每小时行驶 90（　　）；　　（2）一张课桌高约 70（　　）；

（3）一个西瓜重 5（　　）；　　（4）一辆汽车载重 10（　　）。

2. 运动场的跑道一圈是 400 米，运动员每天早晨跑 5 圈，每天早晨跑了多少米？

3. 某仓库有 72 吨粮食，用一辆载重 8 吨的卡车运几次可以将这些粮食运完？

万以内加减法

第一课时作业

1. 比一比。

37＋98 ○ 83＋79　　21 ○ ＋89　　88＋23

82＋38 ○ 74＋49　　47 ○ ＋59　　63＋39

74＋46 ○ 27＋85　　67 ○ ＋48　　68＋37

2. 竖式计算。

69＋47＝　　34＋79＝　　93＋67＝

35＋86＝　　65＋78＝　　58＋64＝

第二课时作业

1. 竖式计算。

376＋506＝　　683　　＋279＝　　365　　＋461＝　　238　　＋79＝

2. （1）幸福村去年植树 378 棵，今年植树 459 棵。两年一共植树多少棵？

（2）玩具厂上个月生产了 492 件玩具，比这个月少了 136 件。这个月生产玩具多少件？

第三课时作业

1.笔算下面各题。

263＋548＝　　543　　＋566＝　　845　　＋548＝　　456　　＋257＝

2.（1）黄河全长 5464 千米，长江比黄河长 836 千米，长江长多少千米？

（2）修一条公路，第一天修了 486 米，比第二天少修 29 米，第二天修了多少米？

第四课时作业

1. 列式计算。

（1）被减数是 486，减数是 392，差是多少？

（2）比 928 少 645 的数是多少？

2. 口算下面各题。

52—27＝　　44　　＋36＝　　140　　＋80＝　　160　　—90＝　　82　　—48＝

640—400＝　　2600　　—600＝　　3600　　—500＝　　1000　　—900＝

3. 学校图书室故事书和科技书共有 926 本，其中故事书有 392 本，科技书有多少本？

第五课时作业

1. 笔算。

905—687＝　　403　　—167＝　　605　　—263＝　　450　　—65＝

2.（1）果园里有桃树 1005 棵，比杏树多 376 棵，杏树有多少棵？

（2）食堂里买来大白菜 350 千克，中午吃了 159 千克。还剩多少千克？

第六课时作业

1. 看谁算得又对又快。

56＋18＝　　80　　—64＝　　340　　＋70＝　　130　　—50＝

780—300＝　　320　　—90＝　　730　　—80＝　　980—480＝

2. 笔算。

2000—854＝　　9002　　—484＝　　2598　　—476＝　　7000　　—685＝

3. 《365 夜》有 189 页，《新编小学生词典》有 436 页。《365 夜》比《新编小学生词典》少多少页？

第七课时作业

1. 计算下面各题，并且验算。

359—136＝　　2573　　—944＝　　709　　—425＝

438＋175＝　　107　　＋284＝　　396　　＋454＝

2. 一筐荔枝连筐重 40 千克，拿出一半后，连筐重 21 千克，筐重多少千克？

第八课时作业

1. 填一填。

（　　）＋350＝750　400　　—（　　）＝80　　（　　）—400＝80

2. 竖式计算并验算。

6003—495＝　　485　　＋659＝　　8000　　—872＝

3. 新华书店的一种新书有 600 本，上午卖出 192 本，下午卖出 249 本，这一天卖出了多少本？

第九课时作业

1. 判断对错。

（1）在加法算式中，和一定比两个加数都大。（　　）

（2）最小的四位数减去最大的三位数，差是 1.（　　）

（3）计算减法时，可以用加法验算。（　　）

（4）和是 1000 的两个数一定是 700 与 300。（　　）

2. 填表。

加　数	167	294	
加　数	262		349
和		984	825

被减数	867	603	
减　数	578		247
差		469	359

四边形

第一课时作业

1、是四边形的在（　　）里画“△”。



（　）　　（　　）　　（　　）　　（　　）　　（　　）

2、画一笔变成两个三角形。



3　、画一笔变成两个四边形。



第二课时作业

1、给平行四边形涂上颜色。

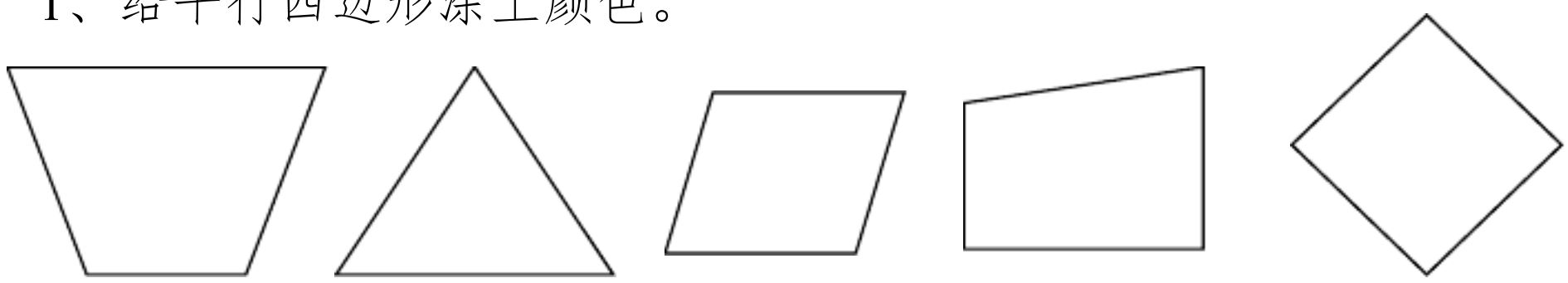

2、在方格纸上画两个不一样的平行四边形。

3、数一数图中有几个平行四边形。

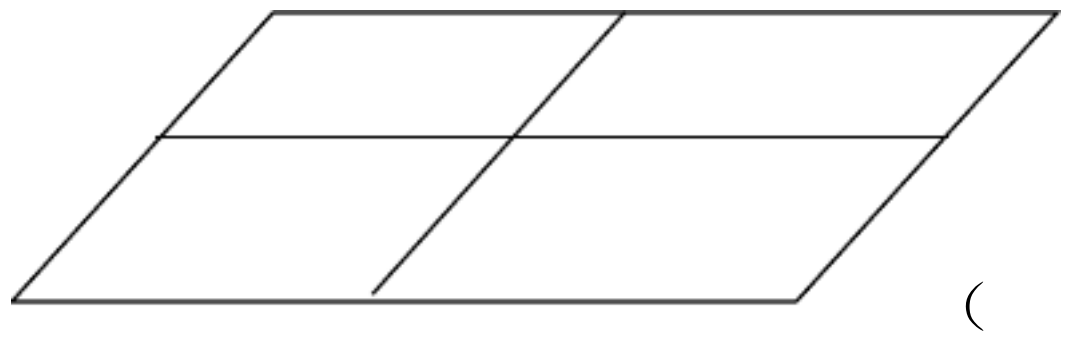

（　　）个

第三课时作业

1、把下面图形改成平行四边形。

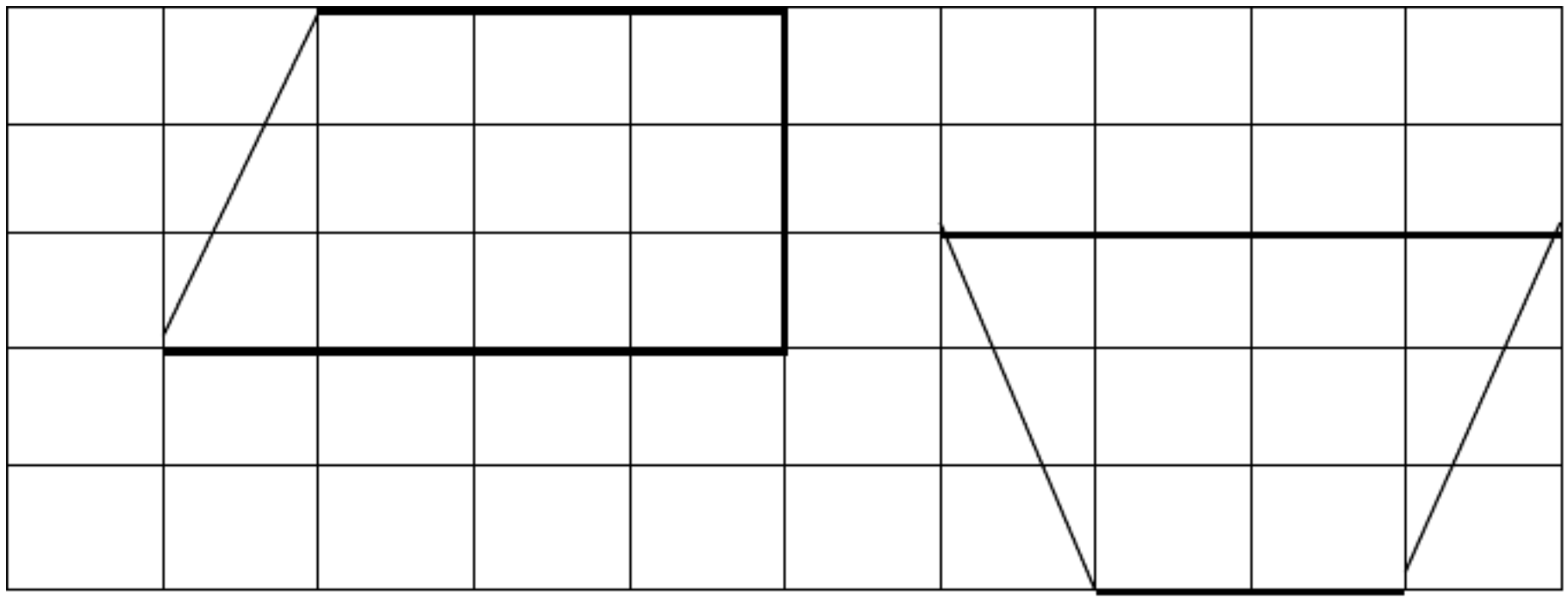

2、（1）正方形四条边（　　），四个角都是（　　）角。

（2）长方形（　　）边相等，四个角都是（　　）角。

（3）平行四边形（　　）边相等，（　　）角相等。

第四课时作业

1、填一填。

（1）长方形、正方形、平行四边形都是由（　　）条线段围成的图形，所以叫它们都是（　　）边形。

（2）（　　）图形（　　）的长度叫做周长。

2、填表。

图形	长	宽	周长
长方形	6cm	4cm	
	9dm	6dm	
	7m		20m

图形	边长	周长
正方形		28cm
	12dm	
	9m	

第五课时作业

1、计算下面图形周长。（单位：厘米）



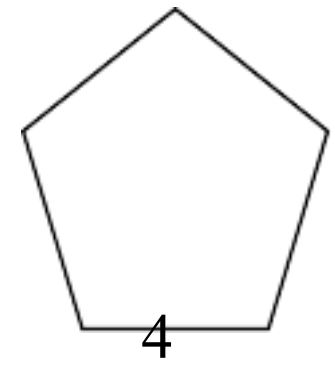

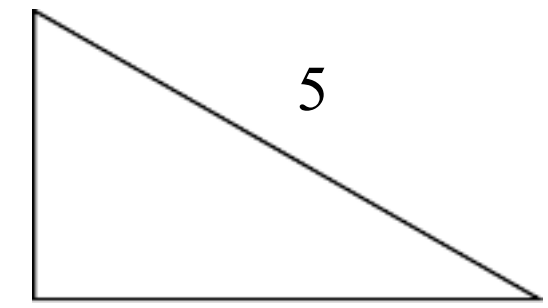

2、学校操场长 40 米，宽 30 米，小方绕操场跑了 3 圈，他跑了多少米？

第六课时作业

1、我会填。

（1）三角形的周长指的是（　　）条边长的（　　）。

（2）平行四边形的周长指的是（　　）条边长的（　　）。

（3）正方形周长=（　　）×（　　），

长方形周长=（　　+　　）×（　　）。

2、一根铁丝刚好围成一个长 5 米，宽 2 米的长方形，求铁丝长多少米？

3、下图是由边长为 4 厘米的两个正方形拼成的，求它的周长。



第七课时作业

、小红有一张长 3 分米，宽 2 分米的奖状，她想用一条长 1 米的彩带绕奖状一周，彩带够长吗？

2、一块长方形菜地，长 20 米，宽 10 米，其中一面靠墙，如果其他三面围上栅栏，栅栏至少有多长？

3、把两个长 4 厘米，宽 2 厘米长方形拼在一起。

(1)拼成的长方形周长是多少？

(2) 如果把它们拼成一个正方形,周长是多少？

有余数的除法

第一课时作业

竖式计算下面各题。

28÷4＝　　45　　÷9＝　　32　　÷4＝　　35　　÷7＝

18÷3＝　　20÷4＝　　24　　÷6＝　　63　　÷9＝

第二课时作业

、（　）里最大能填几?

4×（　）＜13　　（　）×6＜25　　4×（　）＜21

15＞（　）×3　37　＞（　）×6　　（　）×8＜26

2、竖式计算。

11÷2＝　19　÷3＝　25　÷4＝　36　÷5＝　39　÷4＝

3、儿童读物每本 5 元，小红带了 23 元钱，最多可以买几本，还剩多少钱?

第三课时作业

、一个数除以 9 有余数，余数最大是（　　），最小是（　　）。

2、有 26 个桔子，如果每袋装 4 个，可装（　）袋，还剩（　）个；如果每袋装 5 个，可装（　）袋，还剩（　　）个；如果每袋装 6 个，可装（　）袋，还剩（　）个。

3、有 29 片扇叶，每台电扇装 3 片，这些扇叶够装几台？

4、一个星期有 7 天，六月份有 30 天，是几个星期，还多几天？

以上内容仅为本文档的试下载部分，为可阅读页数的一半内容。如要下载或阅读全文，请访问：https://d.book118.com/937015152040006102