情境导入


2
制作这个标志牌需要多少平方分米的铝皮？
根据你了能哪提些出数学问题？
高：7.8分米
底：9分米
7.8dm
9dm
标志牌示意图

合作探究

制作这个标志牌需要多少平方分米的铝皮？



想一想。求标志牌的面积，实际上就是求什么图形的面积？

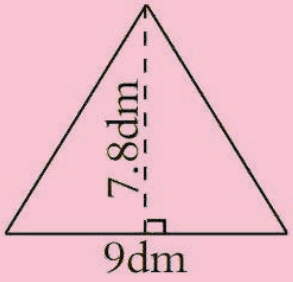

标志牌示意图

三角形！



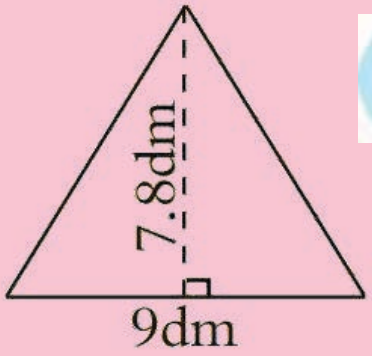

标志牌示意图

想一想

怎样求三角形的面积呢？





平行四边形的面积计算公式是把平行四边

我猜想把成长方形推导呢？



你认为他的猜想
正确吗？



用两个完全一样的锐角三角形拼拼看。

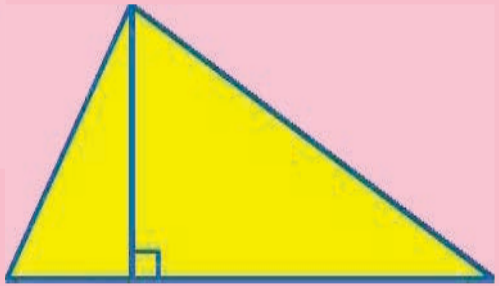

以上内容仅为本文档的试下载部分，为可阅读页数的一半内容。如要下载或阅读全文，请访问：https://d.book118.com/938117101052006120