重庆市江津田家炳中学数学七年级上册整式的加减专项练习

考试时间：90 分钟；命题人：教研组

考生注意：

1、本卷分第 I 卷（选择题）和第 II 卷（非选择题）两部分，满分 100 分，考试时间 90 分钟

2、答卷前，考生务必用 0.5 毫米黑色签字笔将自己的姓名、班级填写在试卷规定位置上

3、答案必须写在试卷各个题目指定区域内相应的位置，如需改动，先划掉原来的答案，然后再写上新的答案；不准使用涂改液、胶带纸、修正带，不按以上要求作答的答案无效。

第 I 卷（选择题　20 分）

一、单选题（10 小题，每小题 2 分，共计 20 分）

1、已知$a^2+2a=1$，则代数式$2\left(a^2+2a\right)-1$的值为（　　）

A．0　　B．1　　C．−1　　D．−2

2、代数式 $3x^2y-4x^3y^2-5xy^3-1$ 按 x 的升幂排列，正确的是（　　）

A．$-4x^3y^2+3x^2y-5xy^3-1$　　B．$-5xy^3+3x^2y-4x^3y^2-1$

C．$-1+3x^2y-4x^3y^2-5xy^3$　　D．$-1-5xy^3+3x^2y-4x^3y^2$

3、如果一个多项式的各项的次数都相同，那么这个多项式叫做齐次多项式．如$x^3+3xy^2+4xyz+2y^3$是 3 次齐次多项式，若$a^{x+3}b^2-6ab^3c^2$是齐次多项式，则x的值为（　　）

A．−1　　B．0　　C．1　　D．2

4、已知$2x^{n+1}y^3$与$\frac{1}{3}x^4y^3$是同类项，则n的值是（　　）

A．2　　B．3　　C．4　　D．5

5、多项式 a－（b－c）去括号的结果是（　　）

A．a－b－c　　B．a+b－c　　C．a+b+c　　D．a－b+c

6、用a表示的数一定是（　　）

A．正数　　B．正数或负数　　C．正整数　　D．以上全不对

7、下列去括号错误的个数共有（　　）.

①$2y^2-(3x-y+3z)=2y^2-3x-y+3z$；　　②$9x^2-[y-(5z+4)]=9x^2-y+5z+4$；

③$4x+[-6y+(5z-1)]=4x-6y-5z+1$；　　④$-(9x+2y)+(z+4)=-9x-2y-z-4$.

A．0 个　　B．1 个　　C．2 个　　D．3 个

8、$-2(1-x)=$（　　）

A．$-2+2x$　　B．$-2-2x$　　C．$-2+x$　　D．$-2-x$

9、已知mx^2y^{m+1}是关于x，y的单项式，且这个单项式的次数为 5，则该单项式是（　　）

A．$5x^2y^3$　　B．$-5x^2y^3$　　C．$2x^2y^3$　　D．$-2x^2y^3$

10、一列火车长x米，以每秒a米的速度通过一个长为b米的大桥，用代数式表示它完全通过大桥（从车头进入大桥到车尾离开大桥）所需的时间为（　　）

A．$\frac{x+b}{a}$秒　　B．$\frac{b}{a}$秒　　C．$\frac{x}{a}$秒　　D．$\frac{x-b}{a}$秒

第Ⅱ卷（非选择题　80 分）

二、填空题（10 小题，每小题 3 分，共计 30 分）

1、若多项式$(k-1)x^2+3x^{|k+2|}+2$为三次三项式，则k的值为_____.

2、如果代数式$a+8b$的值为-5，那么代数式$3(a-2b)-5(a+2b)$的值为_____.

3、如图，点 A，B在数轴上，点O为原点，$OA=OB$．在数轴上截取$BC=AB$，点 A 表示的数是m，则点C表示的数是_____（用含字母m的代数式表示）.

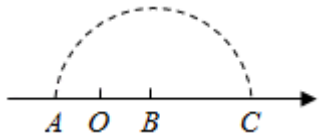

4、单项式$\frac{2x^2y}{3}$的系数是_____，次数是_____.

5、如图是一组有规律的图案，它们由边长相同的正方形和正八边形组成，其中正方形涂有阴影，依此规律，第n个图案中有_____个涂有阴影的正方形.（用含n的代数式表示）

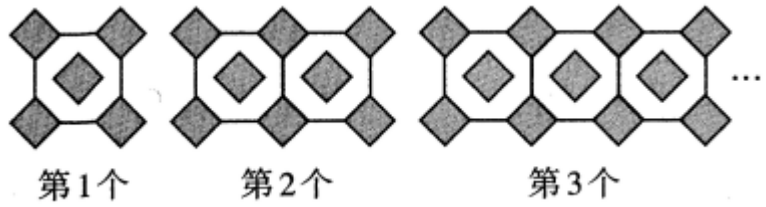

6、已知多项式$x^{|m|}+(m-2)x-10$是二次三项式，m为常数，则m的值为_____.

7、古希腊的毕达哥拉斯学派对整数进行了深入的研究，尤其注意形与数的关系，“多边形数”也称为“形数”，就是形与数的结合物．用点排成的图形如下：其中：图①的点数叫做三角形数，从上至下第一个三角形数是1，第二个三角形数是$1+2=3$，第三个三角形数是$1+2+3=6$，……图②的点数叫做正方形数，从上至下第一个正方形数是1，第二个正方形数是$1+3=4$，第三个正方形数是$1+3+5=9$，……由此类推，图④中第五个正六边形数是_____.

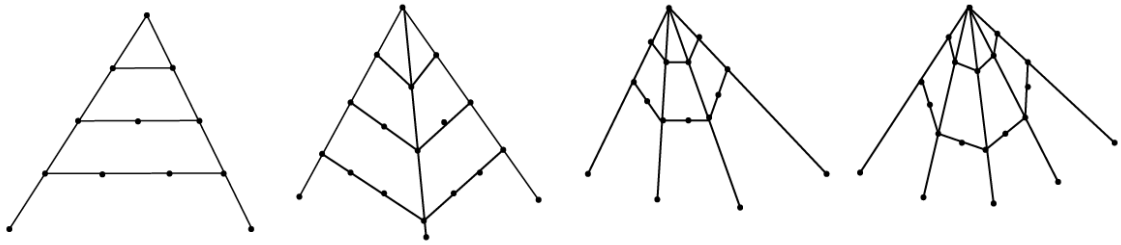

8、观察下列图中所示的一系列图形，它们是按一定规律排列的，依照此规律，第2018个图形中共有_____个○.

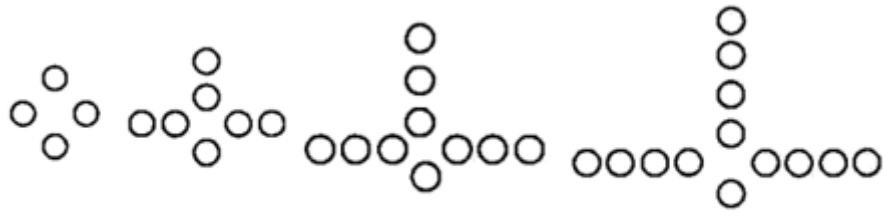

第1个　　第2个　　第3个　　第4个

9、某种桔子的售价是每千克 x 元，用面值为100元的人民币购买了6千克，应找回_____元.

10、已知 $2m-3n=-4$，则代数式 $m(n-4)-n(m-6)$ 的值为_____.

三、解答题（5小题，每小题10分，共计50分）

1、化简：（1）$-3x^2y+2x^2y+3xy^2-xy^2$；

（2）$4x^2-(2x^2+x-1)+(2-x^2+3x)$.

2、（1）有一列数1、3、5、7……有无数项（无数个数），请观察其规律后写出其中第20项（从左往右数第20个数）是_____，第 n 项是_____；

（2）二算法是数学的一种很重要的方法，用二算法可以得到许多很重要的数学公式．请观察下图，用二算法推导出1＋3、1＋3＋5、1＋3＋5＋7的计算结果，猜测1＋3＋5＋7＋……＋（$2n-1$）的计算结果；

（3）由（2）推导出2＋4＋6＋……＋$2n$的结果.

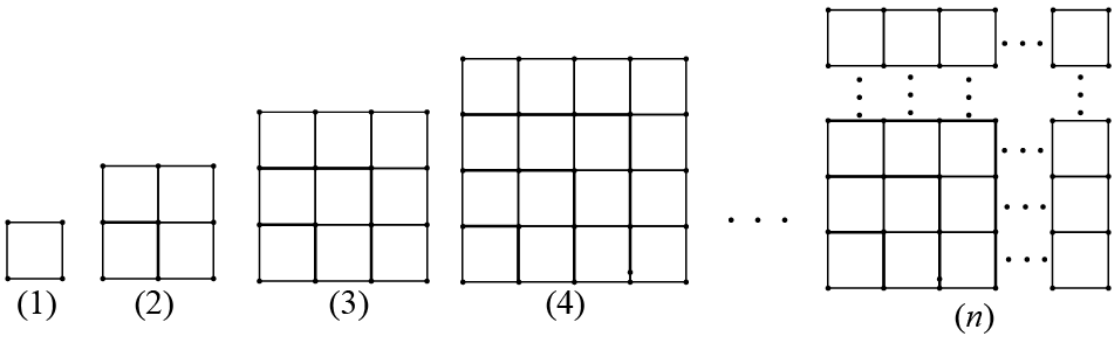

3、化简求值：$5a^2-\left[a^2+\left(5a^2-2a\right)-2\left(a^2-3a\right)\right]$，其中 $a=\frac{1}{2}$.

4、计算：$3(x^2-2xy)-(x^2-6xy)-4y$.

5、为庆祝北京举办冬季奥运会，甲、乙两校联合准备文艺汇演．甲、乙两校共92人参加演出（其中甲校人数多于乙校人数，且甲校人数不够90人），准备购买统一的演出服装（一人买一套），下面是服装厂给出的演出服装的价格表：

购买服装的套数	1套至45套	46套至90套	91套及以上
每套服装的价格	60元	50元	40元

如果设甲校有学生x人参加演出．

(1)若两校联合购买演出服装时，总费用为_____元；

(2)若两校各自购买演出服装时，总费用为_____元（请用含x的代数式表示）．

(3)如果甲校原有60名同学参加演出，

①求两校联合购买演出服装比两校各自独立购买可节省费用多少钱?

②如果甲校从参加演出的60名同学中抽调9名同学去参加迎奥运书法比赛不能参加演出，所以甲校只有51人参加演出，那么两校共有哪几种购买演出服装的方案？通过比较，求该如何购买才能使两校购买演出服装的总费用最少？

-参考答案-

一、单选题

1、B

【解析】

【分析】

把$a^2+2a=1$代入代数式$2\left(a^2+2a\right)-1$，求出算式的值为多少即可．

【详解】

解：$\because a^2+2a=1$，

$\therefore 2\left(a^2+2a\right)-1=2\times1-1=1$

故选 B.

【考点】

本题考查了代数式的求值：求代数式的值可以直接代入、计算．如果给出的代数式可以化简，要先化简再求值．

2、D

【解析】

【分析】

先分清多项式的各项，然后按多项式升幂排列的定义排列．

【详解】

解：$3x^2y-4x^3y^2-5xy^3-1$ 的项是 $3x^2y$、$-4x^3y^2$、$-5xy^3$、-1，

按 x 的升幂排列为$-1-5xy^3+3x^2y-4x^3y^2$，故 D 正确；

故选 D.

【考点】

考查了多项式，我们把一个多项式的各项按照某个字母的指数从大到小或从小到大的顺序排列，称为按这个字母的降幂或升幂排列．要注意，在排列多项式各项时，要保持其原有的符号．

3、C

【解析】

【分析】

根据齐次多项式的定义列出关于 x 的方程，最后求出 x 的值即可．

【详解】

解：由题意,得 $x+2+3=1+3+2$

解得 $x=1$.

故选 C.

【考点】

本题主要考查了学生的阅读能力与知识的迁移能力以及单项式的次数，根据齐次多项式列出方程成为解答本题的关键.

4、B

【解析】

【分析】

根据同类项的概念可得关于 n 的一元一次方程，求解方程即可得到 n 的值.

【详解】

解：∵ $2x^{n+1}y^3$ 与 $\frac{1}{3}x^4y^3$ 是同类项，

∴n+1=4，

解得，n=3，

故选：B.

【考点】

本题考查了同类项，解决本题的关键是判断两个项是不是同类项，只要两看，即一看所含有的字母是否相同，二看相同字母的指数是否相同.

5、D

【解析】

【分析】

根据去括号的法则：括号前是“－”时，把括号和它前面的“－”去掉，原括号里的各项都改变符号，进行计算即可.

【详解】

$a-(b-c)=a-b+c$ ，

故选：D.

【考点】

本题主要考查去括号，掌握去括号的法则是解题的关键.

6、D

【解析】

【分析】

字母可以表示任何数，A、B、C 三个选项说法都不全面.

【详解】

字母可以表示任何数，即 a 可以表示正数、0 或负数，

故选 D.

【考点】

本题考查了代数式，需要注意字母可以表示任意数，既可以是正数，也可以是负数和 0，带有负号的数不一定就是负数.

7、D

【解析】

【分析】

根据整式加减的计算法则进行逐一求解判断即可.

【详解】

解：① $2y^2-(3x-y+3z)=2y^2-3x+y-3z$，故此项错误；

② $9x^2-[y-(5z+4)]=9x^2-y+5z+4$，故此项正确；

③ $4x+[-6y+(5z-1)]=4x-6y+5z-1$，故此项错误；

④$-(9x+2y)+(z+4)=-9x-2y+z+4$，故此项错误；

故选 D.

【考点】

本题主要考查了整式的加减运算，解题的关键在于能够熟练掌握相关知识进行求解.

8、A

【解析】

【分析】

根据去括号法则解答.

【详解】

解：$-2(1-x)=-2+2x$.

故选：*A*.

【考点】

本题考查去括号的方法：去括号时，运用乘法的分配律，先把括号前的数字与括号里各项相乘，再运用括号前是“+”，去括号后，括号里的各项都不改变符号；括号前是“-”，去括号后，括号里的各项都改变符号.

9、C

【解析】

【分析】

先根据单项式的次数计算出 m 的值即可.

【详解】

解：∵已知 mx^2y^{m+1} 是关于 x ， y 的单项式，且 mx^2y^{m+1} 的次数为 5，

∴ $m+1+2=5$ ，

即 $m=2$.

∴该单项式为$2x^2y^3$.

故选：C

【点评】

本题考查了单项式的系数、次数的概念；正确理解单项式的系数和次数是解决问题的关键.

10、A

【解析】

【分析】

【详解】

Q 火车走过的路程为$(x+b)$米，火车的速度为a米/秒，

∴火车过桥的时间为$\frac{x+b}{a}$（秒）.

故选：A .

二、填空题

1、-5

【解析】

【分析】

由于多项式是关于 x 的三次三项式，所以| k+2|=3，k-1≠0，根据以上两点可以确定 k 的值.

【详解】

解：∵$(k-1)x^2+3x^{|k+2|}+2$为三次三项式，

∴| k+2|=3，k-1≠0

∴k=1 或-5，k≠1，

∴k=-5，

以上内容仅为本文档的试下载部分，为可阅读页数的一半内容。如要下载或阅读全文，请访问：https://d.book118.com/956121144151011020