广东广州市广大附中数学七年级上册整式的加减章节测试

考试时间：90 分钟；命题人：教研组

考生注意：

1、本卷分第 I 卷（选择题）和第 II 卷（非选择题）两部分，满分 100 分，考试时间 90 分钟

2、答卷前，考生务必用 0.5 毫米黑色签字笔将自己的姓名、班级填写在试卷规定位置上

3、答案必须写在试卷各个题目指定区域内相应的位置，如需改动，先划掉原来的答案，然后再写上新的答案；不准使用涂改液、胶带纸、修正带，不按以上要求作答的答案无效。

第 I 卷（选择题　20 分）

一、单选题（10 小题，每小题 2 分，共计 20 分）

1、下列式子中不是代数式的是（　　）

A．$3a+2b$　　B．$5+2$　　C．$a+b=1$　　D．$\frac{b}{a+1}$

2、已知$3x-2y+5=7$，那么多项式$15x-10y+2$的值为（　　）

A．8　　B．10　　C．12　　D．35

3、下面说法中①$-a$一定是负数；②$0.5\pi ab$是二次单项式；③倒数等于它本身的数是±1；④若$|a|=-a$，则$a<0$；⑤由$-2(x-4)=2$变形为$x-4=-1$，正确的个数是（　　）

A．1 个　　B．2 个　　C．3 个　　D．4 个

4、下列说法错误的是(　　)

A．单项式a^2h 的系数是 1　　B．多项式 a-2.5 的次数是 1

C．m+2 和 3 都是整式　　D．3^2xy^3是六次单项式

5、如图，填在下面各正方形中的四个数之间都有相同的规律，根据这种规律，m的值应是（　　）

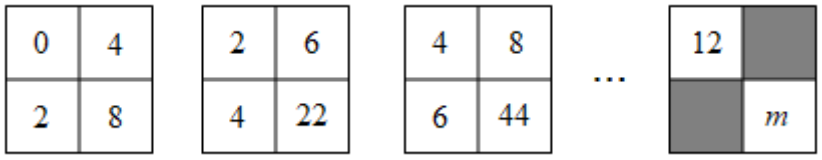

A．110　　B．168　　C．212　　D．222

6、一列火车长x米，以每秒a米的速度通过一个长为b米的大桥，用代数式表示它完全通过大桥（从车头进入大桥到车尾离开大桥）所需的时间为（　　）

A．$\frac{x+b}{a}$秒　　B．$\frac{b}{a}$秒　　C．$\frac{x}{a}$秒　　D．$\frac{x-b}{a}$秒

7、已知一个多项式与$3x^2+9x$的和等于$5x^2+4x-1$，则这个多项式是（　　）

A．$8x^2+13x-1$　　B．$-2x^2+5x+1$　　C．$8x^2-5x+1$　　D．$2x^2-5x-1$

8、用a表示的数一定是（　　）

A．正数　　B．正数或负数　　C．正整数　　D．以上全不对

9、下列去括号错误的个数共有（　　）.

①$2y^2-(3x-y+3z)=2y^2-3x-y+3z$；　　②$9x^2-[y-(5z+4)]=9x^2-y+5z+4$；

③$4x+[-6y+(5z-1)]=4x-6y-5z+1$；　　④$-(9x+2y)+(z+4)=-9x-2y-z-4$.

A．0 个　　B．1 个　　C．2 个　　D．3 个

10、下列代数式中单项式共有（　　）

$\frac{a^2+1}{3},-m,\frac{2}{a},-0.3,\frac{b}{5},\frac{3}{\pi},ax+b,\frac{1}{x-y},0,\frac{4}{3}\pi r^3$.

A．2 个　　B．4 个　　C．6 个　　D．8 个

第Ⅱ卷（非选择题　80 分）

二、填空题（10 小题，每小题 3 分，共计 30 分）

1、若多项式$xy^{|m-n|}+(n-2)x^2y^2+1$是关于 x，y 的三次多项式，则$mn=$_____.

2、多项式 $a^3b - a^2+3ab^2-4a^5+3$ 是_____次_____项式，按 a 的降幂排列的结果_____.

3、如将 $(x-y)$ 看成一个整体，则化简多项式 $(x-y)^2-5(x-y)-4(x-y)^2+3(x-y)=$__.

4、如图，用大小相同的小正方形拼大正方形，拼第 1 个正方形需要 4 个小正方形，拼第 2 个正方形需要 9 个小正方形……，按这样的方法拼成的第 $(n+1)$ 个正方形比第 n 个正方形多_____个小正方形.

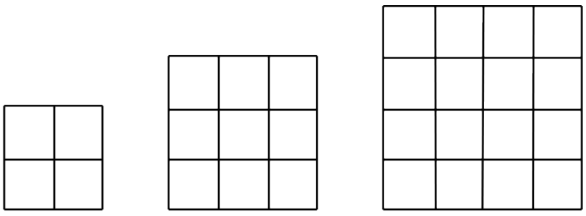

5、多项式 $\frac{1}{10}x^{m-1}+2x-5$ 是关于 x 的四次三项式，则 $m=$_____

6、一组按规律排列的式子：$-\frac{b^2}{a},\frac{b^5}{a^2},-\frac{b^8}{a^3},\frac{b^{11}}{a^4},\cdots\ (ab\neq 0)$，其中第 7 个式子是_____，第 n 个式子是_____（n 为正整数）.

7、如图，在数轴上，点 A 表示 1，现将点 A 沿 x 轴做如下移动：第一次将点 A 向左移动 3 个单位长度到达点 A_1，第二次将点 A_1 向右移动 6 个单位长度到达点 A_2，第三次将点 A_2 向左移动 9 个单位长度到达点 A_3，按照这种移动规律移动下去，第 n 次移动到点 A_n，如果点 A_n 与原点的距离不小于 20，那么 n 的最小值是_____.

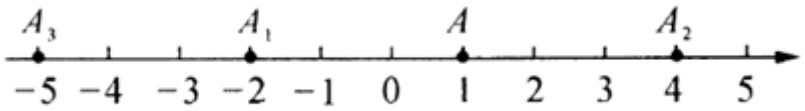

8、如图是一组有规律的图案，它们由边长相同的正方形和正八边形组成，其中正方形涂有阴影，依此规律，第 n 个图案中有_____个涂有阴影的正方形.（用含 n 的代数式表示）

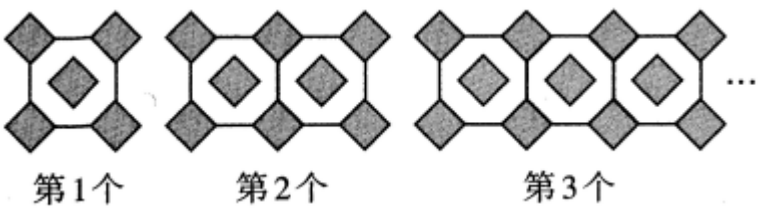

9、有规律地排列着这样一些单项式：$xy^2,x^2y^4,x^3y^6,x^4y^8,x^5y^{10},x^6y^{12}$．…，则第 n 个单项式（$n\geq1$且 n 为正整数）可表示为_____.

10、如图，点A，B在数轴上，点O为原点，$OA=OB$．在数轴上截取$BC=AB$，点A表示的数是m，则点C表示的数是_____（用含字母m的代数式表示）.

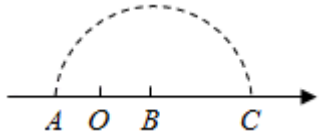

三、解答题（5 小题，每小题 10 分，共计 50 分）

1、化简：

（1）$\left(4a^2b-2ab^2\right)-3\left(ab^2-2a^2b\right)$；

（2）$3x^2-\left[7x-(4x-3)-2x^2\right]$.

2、下面各行中的数都是正整数， 观察规律并解答下列问题：

第一行				1			
第二行			4	3	2		
第三行		5	6	7	8	9	
第四行	16	15	13	12	14	11	10
				……			

(1)数字 12 的位置在第 4 行，从左往右数第 5 个数，可以表示成(4，5)，那么(5，6)表示的数是____

(2)第 n 行有_____个数(用含 n 的代数式表示)

(3)数字 2022 排在第几行？从左往右数第几个数？请简要说明理由.

3、为了响应“阳光体育运动”，学校大力开展各项体育项目，现某中学体育队准备购买 100 个足球和 x 个篮球作为训练器材．现已知有 A、B两个供应商给出标价如下：

足球每个 200 元，篮球每个 80 元；

供应商 A 的优惠方案：每买一个足球就赠送一个篮球；

供应商 B 的优惠方案：足球、篮球均按定价的 80%付款.

(1)若$x=100$，请计算哪种方案划算？

(2)$x>100$，请用含 x 的代数式，分别把两种方案的费用表示出来.

4、先化简求值：$5\left(3a^2b-ab^2\right)-\left(ab^2+3a^2b\right)$，其中$a=\frac{1}{2}$，$b=\frac{1}{3}$.

5、化简：（1）﹣$3x^2y+2x^2y+3xy^2-xy^2$；

（2）$4x^2-(2x^2+x-1)+(2-x^2+3x)$.

-参考答案-

一、单选题

1、C

【解析】

【分析】

根据代数式的定义：用基本运算符号（基本运算包括加减乘除、乘方和开方）把数或表示数的字母连接起来的式子，由此可排除选项.

【详解】

解：A、是代数式，故不符合题意；

B、是代数式，故不符合题意；

C、中含有“=”，不是代数式，故符合题意；

D、是代数式，故不符合题意；

故选 C.

【考点】

本题主要考查代数式的定义，熟练掌握代数式的定义是解题的关键.

2、C

【解析】

【分析】

由多项式$3x-2y+5=7$，可求出$3x-2y=2$，从而求得$15x-10y$的值，继而可求得答案.

【详解】

解：$\because 3x-2y+5=7$

$\therefore 3x-2y=2$

$\therefore 15x-10y=10$

$\therefore 15x-10y+2$

$=10+2=12$

故选 C.

【考点】

本题考查了求多项式的值，关键在于利用“整体代入法”求代数式的值.

3、C

【解析】

【分析】

①-a 不一定是负数，例如 a=0 时；

②0.5πab 中字母为 a 与 b，指数和为 2，故是二次单项式，本选项正确；

③倒数等于它本身的数是±1，本选项正确；

④若|a|=-a，a 为非正数，本选项错误；

⑤由-2（x-4）=2 两边除以-2 得到 x-4=-1，本选项正确.

【详解】

①-a 不一定是负数，例如 a=0 时，-a=0，不是负数，本选项错误；

②0.5πab 是二次单项式，本选项正确；

③倒数等于它本身的数是±1，本选项正确；

④若|a|=-a，则 a≤0，本选项错误；

⑤由-2（x-4）=2 两边除以-2 得：x-4=-1，本选项正确，

则其中正确的选项有 3 个.

故选 C.

【考点】

此题考查了等式的性质，相反数，绝对值，倒数，以及单项式，熟练掌握各自的定义是解本题的关键.

4、D

【解析】

【分析】

如果两个单项式，他们所含的字母相同，并且相同字母的指数也分别相同，那么就称这两个单项式为同类项.

【详解】

A、B、C 说法均是正确的，D 中3^2xy^3是四次单项式.

【考点】

本题考察单项式知识的相关应用.

5、C

【解析】

【分析】

观察不难发现，左上角、左下角、右上角为三个连续的偶数，右下角的数是左下角与右上角两个数的乘积减去左上角的数的差，根据此规律先求出阴影部分的两个数，再列式进行计算即可得解.

【详解】

解：根据排列规律，12 下面的数是 14，12 右面的数是 16，

∵8＝2×4-0，22＝4×6-2，44＝6×8-4，

∴m＝16×14-12＝212，

故选：C.

【考点】

本题是对数字变化规律的考查，仔细观察前三个图形，找出四个数之间的变化规律是解题的关键.

6、A

【解析】

【分析】

【详解】

Q 火车走过的路程为$(x+b)$米，火车的速度为a米/秒，

∴火车过桥的时间为$\frac{x+b}{a}$（秒）.

故选：A .

7、D

【解析】

【分析】

由和减去一个加数等于另一个加数，列出关系式，去括号合并即可得到结果.

【详解】

解：根据题意列得：

$5x^2+4x-1-$（$3x^2+9x$）$=2x^2-5x-1$，

故选 D.

【考点】

此题考查了整式的加减运算，涉及的知识有：去括号法则，以及合并同类项法则，熟练掌握法则是解本题的关键.

8、D

【解析】

【分析】

字母可以表示任何数，A、B、C 三个选项说法都不全面.

【详解】

字母可以表示任何数，即 a 可以表示正数、0 或负数，

故选 D.

【考点】

本题考查了代数式，需要注意字母可以表示任意数，既可以是正数，也可以是负数和 0，带有负号的数不一定就是负数.

9、D

【解析】

【分析】

根据整式加减的计算法则进行逐一求解判断即可.

【详解】

解：① $2y^2-(3x-y+3z)=2y^2-3x+y-3z$，故此项错误；

② $9x^2-[y-(5z+4)]=9x^2-y+5z+4$，故此项正确；

③ $4x+[-6y+(5z-1)]=4x-6y+5z-1$，故此项错误；

④ $-(9x+2y)+(z+4)=-9x-2y+z+4$，故此项错误；

以上内容仅为本文档的试下载部分，为可阅读页数的一半内容。如要下载或阅读全文，请访问：https://d.book118.com/975213222233012022